Test Booklet No.
পরীক্ষার বুকলেট নং

Subject : GENERAL TEST
Code : 501 EBG
Medium : English and Bengali

Test Booklet Code
পরীক্ষার বুকলেট কোড

A

(Do not open this Test Booklet until you are asked to do so)

(যতক্ষণ না আপনাকে টেস্ট বুকলেট খুলতে বলা হয় ততক্ষণ এই টেস্ট বুকলেট খুলবেন না)

*Time Allowed : **60** minutes* *অনুমোদিত সময় : **60** মিনিট*	*Maximum Marks : **250*** *সর্বোচ্চ মার্কস : **250***	*Total Questions : **60*** *মোট প্রশ্ন : **60***	*Number of questions to be answered : **50*** *উত্তর দেওয়ার জন্য প্রশ্নের সংখ্যা : **50***

Kindly read the Instructions given on this Page and Back Page carefully before attempting this Question Paper.

এই প্রশ্নপত্রের উত্তর করার আগে দয়া করে এই পৃষ্ঠা এবং পিছনের পৃষ্ঠায় দেওয়া নির্দেশাবলী যত্নসহকারে পড়ুন।

Important Instructions for the Candidates :

1. This Test Booklet contains **60** questions printed in English and Bengali. Out of these, the candidate is required to answer any **50** questions. If a candidate answers more than 50 questions, the first 50 answered questions will be considered for evaluation.
2. When you are given the OMR Answer Sheet, fill in your particulars on it carefully with **blue/black** ball point pen only.
3. Use only Blue/Black Ball Point Pen for marking responses.
4. The CODE for this Test Booklet is **A**. Make sure that the CODE printed on the OMR Answer Sheet is the same as that on this Test Booklet. Also ensure that your Test Booklet No. and OMR Answer Sheet No. are exactly the same. In case of discrepancy, the candidate should immediately report the matter to the Invigilator for replacement of both the Test Booklet and the OMR Answer Sheet. No claim in this regard will be entertained after five minutes from the start of the examination.
5. Before attempting the question paper kindly check that this Test Booklet has total **28** pages and OMR Answer Sheet consists of one sheet. At the start of the examination within first five minutes, candidates are advised to ensure that all pages of Test Booklet and OMR Answer Sheet are properly printed and they are not damaged in any manner.
6. Each question has four answer options. Out of these four options choose the **MOST APPROPRIATE OPTION** and darken/blacken the corresponding circle on the OMR Answer Sheet with a Blue/Black Ball Point Pen.
7. Five (5) marks will be given for each correct answer. One (1) mark will be deducted for each incorrect answer. If more than one circle is found darkened/blackened for a question, then it will be considered as an incorrect answer. Unanswered questions will be given no mark.

P.T.O.

প্রার্থীদের জন্য গুরুত্বপূর্ণ নির্দেশনা :

1. এই পরীক্ষার পুস্তিকাটিতে ইংরেজি এবং বাংলায় মুদ্রিত **60টি** প্রশ্ন রয়েছে। এর মধ্যে প্রার্থীকে যেকোনো **50টি** প্রশ্নের উত্তর দিতে হবে। যদি একজন প্রার্থী 50টির বেশি প্রশ্নের উত্তর দেন, তাহলে প্রথম 50টি উত্তর দেওয়া প্রশ্ন মূল্যায়ণের জন্য বিবেচনা করা হবে।
2. শুধুমাত্র OMR উত্তরপত্রে **নীল/কালো** বল পয়েন্ট পেন দিয়ে সাবধানে আপনার বিবরণ পূরণ করুন।
3. উত্তর চিহ্নিত করার জন্য শুধুমাত্র নীল/কালো বল পয়েন্ট পেন ব্যবহার করুন।
4. এই পরীক্ষার পুস্তিকাটির কোড হল **A** । নিশ্চিত করুন যে OMR উত্তরপত্রে মুদ্রিত কোডটি এই পরীক্ষার পুস্তিকাটির মতোই। এছাড়াও নিশ্চিত করুন যে আপনার পরীক্ষার পুস্তিকা নং এবং ওএমআর উত্তরপত্র নং হুবহু একই। অমিলের ক্ষেত্রে, পরীক্ষার্থীকে পরীক্ষামূলক পুস্তিকা এবং ওএমআর উত্তরপত্র উভয়ই পাল্টে দেওয়ার জন্য অবিলম্বে পরীক্ষা হলের দায়িত্বে থাকা ব্যক্তির কাছে বিষয়টি রিপোর্ট করতে হবে। পরীক্ষা শুরু হওয়ার পাঁচ মিনিট পর এ বিষয়ে কোনো দাবি গ্রহণ করা হবেনা।
5. প্রশ্নপত্রের উত্তর করার আগে দয়া করে দেখে নিন যে এই পরীক্ষার পুস্তিকাটিতে মোট **28** পৃষ্ঠা রয়েছে এবং ওএমআর উত্তরপত্রের পাতা সংখ্যা একটি। পরীক্ষার শুরুতে প্রথম পাঁচ মিনিটের মধ্যে, পরীক্ষার্থীদের পরামর্শ দেওয়া হয় যে পরীক্ষার পুস্তিকা এবং ওএমআর উত্তর পত্রের সমস্ত পৃষ্ঠাগুলি সঠিক ভাবে মুদ্রিত হয়েছে এবং সেগুলি কোনও ভাবে ক্ষতিগ্রস্ত না।
6. প্রতিটি প্রশ্নের চারটি বিকল্প আছে। এই চারটি বিকল্পের মধ্যে **সবচেয়ে উপযুক্ত বিকল্পটি** বেছে নিন এবং একটি নীল/কালো বলপয়েন্ট পেন দিয়ে OMR উত্তরপত্রে সংশ্লিষ্ট বৃত্তটিকে ডার্ক/কালো করুন।
7. প্রতিটি সঠিক উত্তরের জন্য পাঁচ (5) নম্বর দেওয়া হবে। প্রতিটি ভুল উত্তরের জন্য এক (1) নম্বর কাটা হবে। যদি একটি প্রশ্নের জন্য একাধিক বৃত্ত ডার্ক/কালো পাওয়া যায়, তবে এটি একটি ভুল উত্তর হিসাবে বিবেচিত হবে। উত্তর না দেওয়া প্রশ্নে কোন মার্ক দেওয়া হবে না।

কৃ.পৃ.প.

Name of the Candidate (in Capital Letters) : _____
প্রার্থীর নাম (ক্যাপিটাল অক্ষরে) :

Application Number (in figures) : _____
আবেদন নম্বর (সংখ্যায়) :

Roll Number (in figures) : _____
রোল নম্বর (সংখ্যায়) :

Centre of Examination (in Capital Letters) : _____
পরীক্ষা কেন্দ্র (ক্যাপিটাল লেটারে):

Candidate's Signature : _____ Invigilator's Signature : _____
পরীক্ষার্থীর স্বাক্ষর : পরিদর্শকের স্বাক্ষর :

Facsimile signature stamp of Centre Superintendent : _____
কেন্দ্র সুপারিনটেনডেন্টের ফ্যাসিমাইল স্বাক্ষর স্ট্যাম্প :

1. Simplify : $24 \div 4 \times 2 + 8 - 4 = ?$

(1) 1 (2) 7 (3) 16 (4) 56

2. The difference of the greatest and the smallest of the fractions $\frac{1}{2}, \frac{8}{11}, \frac{7}{8}, \frac{7}{9}, \frac{5}{6}$ is :

(1) $\frac{3}{8}$ (2) $\frac{6}{7}$ (3) $\frac{7}{9}$ (4) $\frac{1}{3}$

3. The sum of LCM and HCF of two numbers is 854. If the LCM is 60 times the HCF and one of the numbers is 70, then the other number is

(1) 160 (2) 164 (3) 168 (4) 172

4. The present age of Harish is 8 times the sum of the ages of his two sons at present. After 8 years, his age will be 2 times the sum of the ages of his two sons. The present age of Harish (in years) is :

(1) 31 (2) 32

(3) 33 (4) 34

5. In an examination, it is required to get 300 marks to pass. A student gets 225 marks and is declared fail by 10% marks. What are the maximum marks of the examination ?

(1) 700 (2) 750

(3) 800 (4) 850

6. In a class of 40 students, ratio of boys and girls is 3 : 2 and the average marks scored by boys is 42 and that by girls is 46. Then the average marks scored by the whole class is :

(1) 43.4 (2) 43.6

(3) 43.8 (4) 44

7. The sum of three numbers is 136. If the ratio between the first number and the second number is 2 : 3 and that between the second and the third number is 5 : 3, then the first number is :

(1) 42 (2) 40

(3) 36 (4) 32

SPACE FOR ROUGH WORK

1. সরল করুন : $24 \div 4 \times 2 + 8 - 4 = ?$

(1) 1 (2) 7 (3) 16 (4) 56

2. এই ভগ্নাংশগুলির $\frac{1}{2}, \frac{8}{11}, \frac{7}{8}, \frac{7}{9}, \frac{5}{6}$ মধ্যে সবচেয়ে বড় এবং সবচেয়ে ছোট ভগ্নাংশের পার্থক্য নির্ণয় করো :

(1) $\frac{3}{8}$ (2) $\frac{6}{7}$ (3) $\frac{7}{9}$ (4) $\frac{1}{3}$

3. দুটি সংখ্যার ল.সা.গু. (LCM) এবং গ.সা.গু. (HCF) -এর যোগফল হল 854 । যদি ল.সা.গু. (LCM) - গ.সা.গু. (HCF)-এর 60 গুণ হয় এবং ওই দুটি সংখ্যার একটি সংখ্যা যদি হয় 70, তাহলে অন্য সংখ্যাটি হবে :

(1) 160 (2) 164 (3) 168 (4) 172

4. হরিশের বর্তমান বয়স তার দুই ছেলের বয়সের যোগফলের 8 গুণ । 8 বছর পর তার বয়স হবে তার দুই ছেলের বয়সের যোগফলের দ্বিগুণ । হরিশের বর্তমান বয়স (বছরে) হল :

(1) 31 (2) 32
(3) 33 (4) 34

5. একটি পরীক্ষায় উত্তীর্ণ হওয়ার জন্য 300 নম্বর পাওয়া দরকার । একজন শিক্ষার্থী 225 নম্বর পায় এবং তাকে 10 শতাংশ নম্বরের জন্য ফেল করেছে- ঘোষণা করা হয় । পরীক্ষার সর্বোচ্চ নম্বর কত ?

(1) 700 (2) 750
(3) 800 (4) 850

6. 40 জন ছাত্রের একটি শ্রেণীতে, ছেলে ও মেয়েদের অনুপাত 3 : 2 এবং ছেলেদের গড় নম্বর 42 এবং মেয়েদের গড় নম্বর 46, তাহলে পুরো শ্রেণী দ্বারা প্রাপ্ত গড় নম্বর হলঃ

(1) 43.4 (2) 43.6
(3) 43.8 (4) 44

7. তিনটি সংখ্যার যোগফল হল 136 । যদি প্রথম এবং দ্বিতীয় সংখ্যার মধ্যে অনুপাত 2 : 3 হয় এবং দ্বিতীয় ও তৃতীয় সংখ্যার মধ্যে অনুপাত 5 : 3 হয়, তাহলে প্রথম সংখ্যাটি হবেঃ

(1) 42 (2) 40
(3) 36 (4) 32

SPACE FOR ROUGH WORK

8. An item is sold for ₹ 504 after allowing 20% discount and still a profit of 5% has been earned. The marked price is how much more than the cost price ?

(1) ₹ 120 (2) ₹ 135

(3) ₹ 150 (4) ₹ 160

9. A certain sum becomes ₹ 2,356 in 3 years and ₹ 2,660 in 5 years on simple interest. The value of sum is :

(1) ₹ 1,800 (2) ₹ 1,880 (3) ₹ 1,900 (4) ₹ 1,980

10. In a square, lengths of the diagonals are (4k + 6) cm and (7k – 3) cm. The area of the square (in cm^2) is :

(1) 144 (2) 162 (3) 169 (4) 172

11. The volume of a cylinder having base radius 3 cm is 396 cm^3. Find its curved surface area (in cm^2).

(Use $\pi = \frac{22}{7}$)

(1) 280 (2) 301.5 (3) 264 (4) 320.6

12. A tap can fill a tank in 6 hours. After half the tank is filled, three more similar taps are opened. What is the total time taken to fill the tank completely ?

(1) 4 hours (2) 5 hours

(3) 3 hours 30 minutes (4) 3 hours 45 minutes

13. A train running at the speed of 80 km/h crosses a 350 m long tunnel in 36 seconds. The length of the train (in m) is

(1) 350 (2) 380 (3) 420 (4) 450

14. If the mean of 3, 4, 9, 2k, 10, 8, 6 and (k + 6) is 8, and mode of 2, 2, 3, 2p, (2p + 1), 4, 4, 5 and 6 (p is a natural number) is 4, then the value of (k – 2p) is :

(1) 0 (2) 1 (3) 2 (4) 3

15. In triangle ABC, points D and E are on AB and AC respectively such that DE is parallel to BC. If AD = 6 cm, DB = 4 cm, AE = 9 cm, then the length of EC (in cm) is

(1) 7 (2) 6.4 (3) 6 (4) 5.5

SPACE FOR ROUGH WORK

8. 20 শতাংশ ছাড় থাকার পরেও যদি কোনও জিনিস 504 টাকায় বিক্রি করা হয় এবং তারপরেও 5 শতাংশ লাভ অর্জন করা হয়। তাহলে ক্রয়মূল্যের তুলনায় বাজার মূল্য কত বেশি ?

(1) 120 টাকা (2) 135 টাকা

(3) 150 টাকা (4) 160 টাকা

9. সরল সুদে (S.I.) - একটি নির্দিষ্ট পরিমান টাকা 3 বছরে 2,356 টাকা হয় এবং 5 বছরে সেই টাকাটি 2,660 টাকা হয়ে যায়। তাহলে মূলধন কত ছিল ?

(1) 1,800 টাকা (2) 1,880 টাকা (3) 1,900 টাকা (4) 1,980 টাকা

10. একটি বর্গক্ষেত্রে, তির্যকগুলির দৈর্ঘ্য হল (4k + 6) সেমি. এবং (7k – 3) সেমি.। বর্গক্ষেত্রের ক্ষেত্রফল (সেমি^{2}-এ) হল :

(1) 144 (2) 162 (3) 169 (4) 172

11. 3 সেমি ব্যাসার্ধের একটি সিলিন্ডারের আয়তন হল 396 সেমি^{3} । (সেমি^{2}-এ) এর বক্রতলের ক্ষেত্রফল খুঁজে বের করুন। ($\pi = \frac{22}{7}$ হলে)

(1) 280 (2) 301.5 (3) 264 (4) 320.6

12. একটি ট্যাপ 6 ঘন্টার মধ্যে একটি ট্যাঙ্ক পূরণ করতে পারে। অর্ধেক ট্যাঙ্ক ভর্তি হওয়ার পরে, আরও তিনটি অনুরূপ ট্যাপ খোলা হয়। যথাক্রমে ট্যাঙ্কটি সম্পূর্ণরূপে পূরণ করতে মোট সময় কত লাগবে ?

(1) 4 ঘন্টা (2) 5 ঘন্টা

(3) 3 ঘন্টা 30 মিনিট (4) 3 ঘন্টা 45 মিনিট

13. ঘন্টায় 80 কিলোমিটার গতিতে চলা একটি ট্রেন 36 সেকেন্ডে 350 মিটার দীর্ঘ সুড়ঙ্গ অতিক্রম করে। ট্রেনের দৈর্ঘ্য (মিটার -এ) হবে :

(1) 350 (2) 380 (3) 420 (4) 450

14. যদি 3, 4, 9, 2k, 10, 8, 6 এবং (k + 6) এর মীন (গড়) 8 হয় এবং 2, 2, 3, 2p, (2p + 1), 4, 4, 5 এবং 6 (p একটি প্রাকৃতিক সংখ্যা) এর মোড 4 হয়, তাহলে (k – 2p) এর মান হবে :

(1) 0 (2) 1 (3) 2 (4) 3

15. ত্রিভুজ ABC তে, বিন্দু D, E যথাক্রমে AB, AC বাহুতে আছে যেটি DE রেখা হিসাবে BC সমান্তরাল। যদি AD = 6 cm, DB = 4 cm, AE = 9 cm হয়, তাহলে EC-র দৈর্ঘ্য (সেন্টিমিটারে) হবে :

(1) 7 (2) 6.4 (3) 6 (4) 5.5

SPACE FOR ROUGH WORK

16. If $\sin A = \frac{4}{5}$, then $(3 - \tan A)(2 + \cos A) =$

(1) $\frac{12}{5}$ (2) $\frac{13}{3}$ (3) $\frac{13}{5}$ (4) 3

17. A man can row a boat at 8 km/h in still water. If the speed of the water current is 2 km/h and it takes him 2 hours to row to a place and come back, then how far off (in km) is the place ?

(1) 7.5 (2) 6 (3) 9.5 (4) 10

18. From the given options, which pass connects Jammu with Srinagar ?

(1) Banihal pass (2) Nathu La pass

(3) Niti pass (4) Rohtang pass

19. Which of the following is ***not*** correctly matched regarding Padma Awards-2024 ?

(1) Padma Vibhushan Award ⟶ Shri Konidela Chiranjeevi

(2) Padma Shri Award ⟶ Mithun Chakraborty

(3) Padma Bhushan Award ⟶ M. Fathima Beevi

(4) Padma Bhushan Award ⟶ Sitaram Jindal

20. Match List-I with List-II :

List-I **Person**	**List-II** **Area of work**
(A) Vishakhadatta	(I) Medicine
(B) Kartikeya Sarabhai	(II) Poet
(C) Charaka	(III) Environmentalist
(D) Satyendra Nath Bose	(IV) Mathematics

Choose the correct answer from the options given below.

(1) (A) - (I), (B) - (III), (C) - (IV), (D) - (II)

(2) (A) - (II), (B) - (III), (C) - (I), (D) - (IV)

(3) (A) - (II), (B) - (I), (C) - (III), (D) - (IV)

(4) (A) - (III), (B) - (IV), (C) - (I), (D) - (II)

SPACE FOR ROUGH WORK

16. যদি $\sin A = \frac{4}{5}$ হয়, তাহলে $(3 - \tan A)(2 + \cos A) =$ কত ?

(1) $\frac{12}{5}$ (2) $\frac{13}{3}$ (3) $\frac{13}{5}$ (4) 3

17. একজন মানুষ স্থির জলেতে 8 কিমি/ঘণ্টা গতিতে নৌকা চালাতে পারে । যদি জলের স্রোতের গতিবেগ 2 কিমি/ঘণ্টা হয় এবং তার একটি জায়গা থেকে আর একটি জায়গাতে যাতায়াত (আরা, ডাউন) করতে 2 ঘন্টা সময় লাগে । তাহলে তার সূচনা বিন্দু থেকে সেই জায়গাটি কতদূরে ছিল ?

(1) 7.5 (2) 6 (3) 9.5 (4) 10

18. কোন পাসটি (গিরিখাতটি) জম্মুকে শ্রীনগরের সাথে সংযুক্ত করে ?

(1) বনিহাল পাস (2) নাথুলা পাস (3) নীতি পাস (4) রহতাং পাস

19. পদ্ম পুরস্কার-2024 সম্পর্কিত তথ্যের সাথে নিম্নলিখিত বিবৃতিগুলির মধ্যে কোনটি সঠিকভাবে মেলেনি ?

(1) পদ্মবিভূষণ পুরস্কার → শ্রী কোনিডেলা চিরঞ্জীবি

(2) পদ্মশ্রী পুরস্কার → মিঠুন চক্রবর্তী

(3) পদ্মভূষণ পুরস্কার → এম.ফতিমা বিবি

(4) পদ্মভূষণ পুরস্কার → সীতারাম জিন্দাল

20. প্রথম তালিকার সঙ্গে দ্বিতীয় তালিকাটি মেলাও :

তালিকা-I ব্যক্তি	**তালিকা-II কার্য্যক্ষেত্র**
(A) বিশাখাদত্ত	(I) ওষুধ
(B) কার্তিকেয় সারাভাই	(II) কবি
(C) চরক	(III) পরিবেশবীদ
(D) সত্যেন্দ্র নাথ বসু	(IV) গণিত

নীচের বিকল্পগুলি থেকে সঠিক উত্তরটি বেছে নিনঃ

(1) (A) - (I), (B) - (III), (C) - (IV), (D) - (II)

(2) (A) - (II), (B) - (III), (C) - (I), (D) - (IV)

(3) (A) - (II), (B) - (I), (C) - (III), (D) - (IV)

(4) (A) - (III), (B) - (IV), (C) - (I), (D) - (II)

SPACE FOR ROUGH WORK

21. The following states were formed after 1960. What was the correct sequence of their formation ?

(A) Haryana (B) Sikkim

(C) Nagaland (D) Goa

Choose the correct answer from the options given below.

(1) (C), (B), (A), (D) (2) (C), (A), (B), (D)

(3) (C), (D), (A), (B) (4) (D), (C), (A), (B)

22. Out of the given options, which scheme's objective is to conduct an annual survey at the gram panchayat level to monitor the progress in the development process of rural areas ?

(1) Mission Antyodaya (2022-23) (2) Mission Karmayogi (2022-23)

(3) Mission Rashtriya Gokul (2022-23) (4) Mission Atmanirbhar Bharat (2022-23)

23. Which one of the following countries is ***not*** a member of the "Quadrilateral Security Dialogue", also known as "QUAD" ?

(1) China (2) Japan

(3) India (4) Australia

24. Who has become the first woman chairperson of the Railway Board of Indian Railways in 2023 ?

(1) Jaya Verma Sinha (2) Mita Vashishth

(3) Ravneet Kaur (4) Vasudha Gupta

25. Match List-I with List-II :

List-I Country	**List-II Currency**
(A) Myanmar	(I) Ruble
(B) Russia	(II) Ngultrum
(C) Malaysia	(III) Kyat
(D) Bhutan	(IV) Ringgit

Choose the correct answer from the options given below.

(1) (A) - (III), (B) - (I), (C) - (II), (D) - (IV)

(2) (A) - (III), (B) - (I), (C) - (IV), (D) - (II)

(3) (A) - (IV), (B) - (I), (C) - (III), (D) - (II)

(4) (A) - (II), (B) - (I), (C) - (IV), (D) - (III)

SPACE FOR ROUGH WORK

21. 1960 সালের পর নিম্নলিখিত রাজ্যগুলি গঠিত হয়। তাদের গঠনের সঠিক ক্রম কী ছিল ?

(A) হরিয়ানা (B) সিকিম

(C) নাগাল্যান্ড (D) গোয়া

নীচের বিকল্পগুলি থেকে সঠিক উত্তরটি বেছে নিনঃ

(1) (C), (B), (A), (D) (2) (C), (A), (B), (D)

(3) (C), (D), (A), (B) (4) (D), (C), (A), (B)

22. প্রদত্ত বিকল্পগুলির মধ্যে, কোন প্রকল্পের উদ্দেশ্য- 'গ্রামাঞ্চলের উন্নয়ন প্রক্রিয়ার অগ্রগতি পর্যবেক্ষণের জন্য গ্রাম পঞ্চায়েত স্তরে বার্ষিক সমীক্ষা পরিচালনা করা' ?

(1) মিশন অন্ত্যোদয় (2022-23) (2) মিশন কর্মযোগী (2022-23)

(3) মিশন রাষ্ট্রীয় গোকুল (2022-23) (4) মিশন আত্মনির্ভর ভারত (2022-23)

23. "QUAD" নামে পরিচিত, প্রদত্ত কোন দেশটি "চতুর্ভুজ নিরাপত্তা সংলাপ" (Quadrilateral Security Dialogue) -এর সদস্য নয় ?

(1) চীন (2) জাপান (3) ভারত (4) অস্ট্রেলিয়া

24. 2023 সালে রেলওয়ে বোর্ড অফ দ্যা ইন্ডিয়ান রেলওয়েজ-এর প্রথম মহিলা চেয়ারপার্সন কে হলেন ?

(1) জয়া বর্মা সিনহা (2) মিতা বশিষ্ঠ

(3) রভনীত কউর (4) বসুধা গুপ্তা

25. প্রথম তালিকার সঙ্গে দ্বিতীয় তালিকাটি মেলাও :

তালিকা-I দেশের নাম	**তালিকা-II মুদ্রা**
(A) মায়ানমার	(I) রুবেল
(B) রাশিয়া	(II) এনগুলট্রাম
(C) মালয়েশিয়া	(III) ক্যাত
(D) ভুটান	(IV) রিংজিট

নীচের বিকল্পগুলি থেকে সঠিক উত্তরটি বেছে নিনঃ

(1) (A) - (III), (B) - (I), (C) - (II), (D) - (IV)

(2) (A) - (III), (B) - (I), (C) - (IV), (D) - (II)

(3) (A) - (IV), (B) - (I), (C) - (III), (D) - (II)

(4) (A) - (II), (B) - (I), (C) - (IV), (D) - (III)

26. "Jhulaghat Suspension Bridge" between India and which country has become fully operational now ?

(1) Bhutan (2) Nepal

(3) China (4) Myanmar

27. Due to ocean acidification when the ocean becomes more acidic, what happens to the pH level of the ocean ?

(1) The pH level goes down.

(2) The pH level stays the same.

(3) The pH level goes up.

(4) The pH level becomes zero.

28. Who is the first para-athlete to receive the Padma Bhushan award in India ?

(1) Bhavina Patel

(2) Devendra Jhajharia

(3) Avani Lekhara

(4) Mariyappan Thangavelu

29. Zemu Glacier is located in which state of India ?

(1) Uttarakhand (2) Himachal Pradesh

(3) Sikkim (4) Arunachal Pradesh

30. Who among the following is Chile's first woman President ?

(1) Mary Robinson

(2) Michelle Bachelet

(3) Kim Campbell

(4) Jennifer Shipley

31. Which organisation developed and launched 'Ugram' Indigenous Assault Rifle for the armed forces ?

(1) ISRO (2) BEL

(3) HAL (4) DRDO

32. Which of the following substances is a bad conductor of electricity ?

(1) Diamond (2) Gold (3) Silver (4) Graphite

SPACE FOR ROUGH WORK

26. ভারত এবং কোন দেশের মধ্যে "ঝুলাঘাট সাসপেনশন ব্রিজ" এখন সম্পূর্ণরূপে চালু হয়েছে ?

(1) ভুটান (2) নেপাল (3) চীন (4) মায়ানমার

27. সমুদ্রের অ্যাসিডিফিকেশনের কারণে যখন সমুদ্র আরও অ্যাসিডিক হয়ে যায়, তখন সমুদ্রের পি.এইচ (pH) স্তরের কী পরিবর্তন হয় ?

(1) পি.এইচ (pH) স্তরের মাত্রা কমে যায়।

(2) পি.এইচ (pH) স্তর একই থাকে।

(3) পি.এইচ (pH) লেভেল বেড়ে যায়।

(4) পি.এইচ (pH) স্তর শূন্য হয়ে যায়।

28. ভারতে পদ্মভূষণ পুরস্কার প্রাপ্ত প্রথম বিশেষভাবে সক্ষম খেলোয়াড় (para-athletic) কে ?

(1) ভাবিনা পাটেল

(2) দেবেন্দ্র ঝাঝারিয়া

(3) অবনী লেখরা

(4) মারিয়াপ্পান থাঙ্গাভেলু

29. 'জেমু হিমবাহ' (Zemu Glacier) ভারতের কোন রাজ্যে অবস্থিত ?

(1) উত্তরাখণ্ড (2) হিমাচল প্রদেশ

(3) সিকিম (4) অরুণাচল প্রদেশ

30. নিম্নলিখিতদের মধ্যে চিলি (Chile)-র প্রথম মহিলা রাষ্ট্রপতি কে ?

(1) ম্যারি রবিনসন (2) মিশেল ব্যাচেলেট

(3) কিম ক্যাম্পবেল (4) জেনিফার শিপলি

31. কোন প্রতিষ্ঠান ভারতীয় সেনাবাহিনীর জন্য 'উগ্রম' দেশীয় অ্যাসল্ট রাইফেল চালু করেছেন ?

(1) ISRO (2) BEL

(3) HAL (4) DRDO

32. নিচের কোন পদার্থটি বিদ্যুতের অপরিবাহী ?

(1) হীরা (ডায়মন্ড) (2) সোনা

(3) রুপো (4) গ্রাফাইট

SPACE FOR ROUGH WORK

33. Which of the following disease is caused due to the deficiency of proteins ?

(1) Arthritis
(2) Kwashiorkor
(3) Goitre
(4) Night Blindness

34. Match List-I with List-II :

List-I Navy (Institution)	**List-II** Place
(A) INS Chilka	(I) Goa
(B) INS Hansa	(II) Andhra Pradesh
(C) INS Satavahana	(III) Kerala
(D) INS Garuda	(IV) Odisha

Choose the correct answer from the options given below.

(1) (A) - (III), (B) - (I), (C) - (II), (D) - (IV)
(2) (A) - (I), (B) - (IV), (C) - (II), (D) - (III)
(3) (A) - (IV), (B) - (I), (C) - (III), (D) - (II)
(4) (A) - (IV), (B) - (I), (C) - (II), (D) - (III)

35. DRDO has conducted the first successful flight test of Agni-5 missile equipped with MIRV technology. What is the full form of MIRV ?

(1) Multiple Independently Targetable Re-Entry Vehicle
(2) Mission India Target Re-Entry Vehicle
(3) Multiple Independently Technology Re-Entry Vehicle
(4) Multiple Indirect Targetable Re-Entry vehicle

36. Which Indian has won the "Ramon Magsaysay Award-2023" ?

(1) Korvi Rakshand
(2) Ashwini Kumar
(3) Dipti Ranjan Sahoo
(4) Dr. Ravi Kannan R.

SPACE FOR ROUGH WORK

33. নিচের কোন রোগটি প্রোটিনের অভাবে হয় ?

(1) আর্থারায়টিস
(2) কাওয়াশিয়োরকর (Kwashiorkor)
(3) গলগন্ড
(4) রাত্রিকালীন অন্ধত্ব

34. প্রথম তালিকার সঙ্গে দ্বিতীয় তালিকাটি মেলাও :

তালিকা-I নৌবাহিনী (ইনস্টিটিউট)	**তালিকা-II স্থান**
(A) INS চিলকা	(I) গোয়া
(B) INS হংস	(II) অন্ধ্র প্রদেশ
(C) INS সাতবাহন	(III) কেরালা
(D) INS গরুড়	(IV) ওড়িশা

নীচের বিকল্পগুলি থেকে সঠিক উত্তরটি বেছে নিনঃ

(1) (A) - (III), (B) - (I), (C) - (II), (D) - (IV)
(2) (A) - (I), (B) - (IV), (C) - (II), (D) - (III)
(3) (A) - (IV), (B) - (I), (C) - (III), (D) - (II)
(4) (A) - (IV), (B) - (I), (C) - (II), (D) - (III)

35. DRDO MIRV প্রযুক্তিতে সজ্জিত অগ্নি-5 ক্ষেপণাস্ত্রের প্রথম সফল উৎক্ষেপন পরীক্ষা করেছে। MIRV এর পূর্ণরূপ কি ?

(1) মলটীপল ইনডিপেন্ডটলী টারগেটেবল রী-এংট্রী বিহকল
(2) মিশন ইন্ডিয়া টারগেট রী-এন্ট্রী বিহকল
(3) মলটীপল ইনডিপেন্ডটলী টেকনোলোজী রী-এন্ট্রী বিহকল
(4) মলটীপল ইনডাইরেকট টারগেটেবল রী-এন্ট্রী বিহকল

36. কোন ভারতীয় "রমন ম্যাগসেসে পুরস্কার-2023" ("Ramon Magsaysay Award-2023") পেয়েছেন ?

(1) কোরভি রক্ষন্দ
(2) অশ্বিনী কুমার
(3) দীপ্তি রঞ্জন সাহু
(4) ড: রবি কান্নন আর.

SPACE FOR ROUGH WORK

37. Who has been appointed the Chairman of the 16th Finance Commission of India ?

(1) Ajay Narayan Jha

(2) Smt. Annie George Mathew

(3) Pradip Kumar Mohanty

(4) Dr. Arvind Panagariya

38. Sri Ranganathswamy Temple which is situated in Tamil Nadu, is dedicated to which deity ?

(1) Lord Shiva

(2) Lord Vishnu

(3) Goddess Durga

(4) Goddess Lakshmi

39. The Election Commission of India gets the power to conduct elections from which of the following articles ?

(1) Article 324 (2) Article 280

(3) Article 264 (4) Article 26

40. Match List-I with List-II :

List-I **Centre of Handicraft**	**List-II** **State**
(A) Mon	(I) Arunachal Pradesh
(B) Nalbari	(II) Assam
(C) Pasighat	(III) Meghalaya
(D) Tura	(IV) Nagaland

Choose the correct answer from the options given below.

(1) (A) - (IV), (B) - (II), (C) - (I), (D) - (III)

(2) (A) - (I), (B) - (III), (C) - (IV), (D) - (II)

(3) (A) - (IV), (B) - (III), (C) - (I), (D) - (II)

(4) (A) - (I), (B) - (II), (C) - (IV), (D) - (III)

SPACE FOR ROUGH WORK

37. ভারতের 16তম অর্থ কমিশনের (Finance Commission) চেয়ারম্যান হিসাবে কে নিযুক্ত হলেন ?

(1) অজয় নারায়ণ ঝা

(2) শ্রীমতী অ্যানি জর্জ মেথইউ

(3) প্রদীপ কুমার মোহন্তি

(4) ড: অরবিন্দ পানাগারিয়া

38. শ্রী রঙ্গনাথস্বামী মন্দির যা তামিলনাড়ুতে অবস্থিত, কোন দেবতার উদ্দেশ্যে নিবেদিত ?

(1) ভগবান শিব

(2) ভগবান বিষ্ণু

(3) দেবী দুর্গা

(4) দেবী লক্ষ্মী

39. ভারতের নির্বাচন কমিশন নিম্নলিখিত কোন আর্টিকেল থেকে নির্বাচন পরিচালনা করার ক্ষমতা পায় ?

(1) আর্টিকেল 324 (2) আর্টিকেল 280

(3) আর্টিকেল 264 (4) আর্টিকেল 26

40. প্রথম তালিকার সঙ্গে দ্বিতীয় তালিকাটি মেলাও :

তালিকা-I হস্তশিল্প কেন্দ্র	**তালিকা-II রাজ্য**
(A) মোন	(I) অরুণাচল প্রদেশ
(B) নলবারী	(II) অসম
(C) পাসিঘাট	(III) মেঘালয়
(D) তুরা	(IV) নাগাল্যান্ড

নীচের বিকল্পগুলি থেকে সঠিক উত্তরটি বেছে নিনঃ

(1) (A) - (IV), (B) - (II), (C) - (I), (D) - (III)

(2) (A) - (I), (B) - (III), (C) - (IV), (D) - (II)

(3) (A) - (IV), (B) - (III), (C) - (I), (D) - (II)

(4) (A) - (I), (B) - (II), (C) - (IV), (D) - (III)

41. In which state is ''Amchang Wildlife Sanctuary'' loacted ?

(1) Assam (2) Rajasthan

(3) Odisha (4) Manipur

42. India's first 3D-printed Post Office has been inaugurated in :

(1) Guwahati (2) Kolkata

(3) Mumbai (4) Bengaluru

43. What should come in the place of the question mark (?) in the following alphanumeric series ?

A1X, B4P, E25J, J100F, ?

(1) O289D (2) O225E

(3) Q289D (4) Q225E

44. In the given analogy, choose the word which will replace the question mark :

NEGI : MVTR :: SING : ?

(1) TRNS (2) TRNT

(3) FRMT (4) HRMT

45. In a certain code language 'ki ru pi' means 'nobody like cruel', 'ki mi cha' means 'king was cruel' and 'ru pi cha' means 'nobody like king'. What is the code for 'was' in the given code language ?

(1) ki (2) mi

(3) cha (4) ru

46. Read the following information carefully to choose the best option for the question :

'P % Q' means that 'P is the sister of Q'

'P + Q' means that 'P is the son of Q'

'P × Q' means that 'P is the husband of Q'

'P – Q' means that 'P is the brother of Q'

Which of the following means 'A is the son-in-law of G' ?

(1) A × U + S × G (2) A + S % U × G

(3) A – S + U × G (4) A × U % S + G

SPACE FOR ROUGH WORK

41. কোন রাজ্যে "আমচাং বন্যপ্রাণী অভয়ারণ্য" ("Amchang Wildlife Sanctuary") অবস্থিত ?

(1) অসম (2) রাজস্থান (3) ওড়িশা (4) মণিপুর

42. ভারতের কোথায় প্রথম (3D) থ্রিডি-প্রিন্টেড ডাকঘরের উদ্বোধন করা হয়েছে :

(1) গুয়াহাটি (2) কলকাতা

(3) মুম্বাই (4) বেঙ্গালুরু

43. নিম্নলিখিত বর্ণানুক্রমিক সিরিজে প্রশ্ন চিহ্ন (?)-এর জায়গায় কী আসা উচিত ?

A1X, B4P, E25J, J100F, ?

(1) O289D (2) O225E

(3) Q289D (4) Q225E

44. প্রশ্ন চিহ্নের পরিবর্তে যে শব্দটি ব্যবহার করা হবে তা বেছে নিন ।

NEGI : MVTR :: SING : ?

(1) TRNS (2) TRNT

(3) FRMT (4) HRMT

45. একটি নির্দিষ্ট কোড ভাষায় 'ki ru pi' মানে 'nobody like cruel', 'ki mi cha' মানে 'king was cruel' এবং 'ru pi cha' মানে 'nobody like king' । প্রদত্ত কোড ভাষায় 'was'-এর কোডটি কী ?

(1) ki (2) mi

(3) cha (4) ru

46. প্রশ্নের জন্য সবচেয়ে সঠিক বিকল্পটি বেছে নিতে নিচের তথ্যগুলি মনোযোগ সহকারে পড়ুন ।

'P % Q' মানে হল 'P হল Q-এর বোন'

'P + Q' মানে হল 'P হল Q-এর পুত্র'

'P × Q' মানে হল 'P হল Q-এর স্বামী'

'P – Q' মানে হল 'P হল Q-এর ভাই'

নিচের কোনটির অর্থ 'A হল G-এর জামাতা' ?

(1) A × U + S × G (2) A + S % U × G

(3) A – S + U × G (4) A × U % S + G

SPACE FOR ROUGH WORK

47. If 26th January, 2020 was a Sunday, then what day of the week was it on 16th March of that year ?

(1) Sunday (2) Monday

(3) Tuesday (4) Wednesday

48. What will be the measurement of the angle made by the hour and minute hands of a clock when the time is 'quarter past 3' ?

(1) $6\frac{1}{2}^\circ$ (2) 10°

(3) $7\frac{1}{2}^\circ$ (4) $8\frac{1}{2}^\circ$

49. If in a certain code laguage, 'MERCURY' is coded as 'NGUGZXF', then how will 'ENTANGLE' be coded in the same code language ?

(1) FPXFSMSM (2) FPWESMSM

(3) FPWESNSN (4) FPWFTNSM

50. The problem given below consists of a question and two statements numbered I and II. You have to decide whether the data provided in the statements are sufficient to answer the question.

How many sisters does Sunny have ?

I. Sunny is the only son of his parents.

II. Sunny's parents have three children.

(1) Only statement I alone is sufficient to answer the question.

(2) Only statement II alone is sufficient to answer the question.

(3) Statements I and II together are sufficient to answer the question.

(4) Either statement I or II alone is sufficient to answer the question.

51. A boy leaves his house. He travels 6 km towards South, then travels 8 km towards West and further travels 9 km towards South. How far and in which direction is he from his house now ?

(1) 13 km, South West

(2) 17 km, South West

(3) 17 km, North West

(4) 13 km, West

SPACE FOR ROUGH WORK

47. যদি 2020 সালের 26শে জানুয়ারি যদি রবিবার হয়, তাহলে সেই বছরের 16ই মার্চ সপ্তাহের কোন দিন ছিল ?

(1) রবিবার (2) সোমবার (3) মঙ্গলবার (4) বুধবার

48. যখন সময়টি '3-এর চতুর্থাংশ' ('quarter past 3') হবে, একটি ঘড়ির ঘন্টা এবং মিনিটের কাঁটা দ্বারা সৃষ্ট কোনের মান তখন কত হবে ?

(1) $6\frac{1}{2}^\circ$ (2) 10° (3) $7\frac{1}{2}^\circ$ (4) $8\frac{1}{2}^\circ$

49. যদি একটি নির্দিষ্ট কোড ল্যাগুয়েজে, 'MERCURY' কে 'NGUGZXF' হিসাবে সনাক্ত করা হয়, তাহলে কীভাবে 'ENTANGLE' একই কোড ভাষায় সণাক্ত করা হবে ?

(1) FPXFSMSM (2) FPWESMSM

(3) FPWESNSN (4) FPWFTNSM

50. নীচের সমস্যাটি একটি প্রশ্ন এবং I ও II সংখ্যাযুক্ত দুটি বিবৃতি নিয়ে গঠিত। বিবৃতিগুলিতে প্রদত্ত তথ্য, প্রশ্নের উত্তর দেওয়ার জন্য যথেষ্ট কিনা, তা আপনাকে নির্ধারণ করতে হবে।

সানির কতজন বোন আছে ?

I. সানি তার বাবা-মায়ের একমাত্র ছেলে।

II. সানির বাবা-মায়ের তিন সন্তান রয়েছে।

(1) শুধুমাত্র I বিবৃতিটিই প্রশ্নের উত্তর দেওয়ার জন্য যথেষ্ট হয়।

(2) শুধুমাত্র II বিবৃতিটিই প্রশ্নের উত্তর দেওয়ার জন্য যথেষ্ট হয়।

(3) বিবৃতি I এবং II একসঙ্গে প্রশ্নের উত্তর দেওয়ার জন্য যথেষ্ট হয়।

(4) শুধুমাত্র I বা II বিবৃতি-র যেকোনো একটি প্রশ্নের উত্তর দেওয়ার জন্য যথেষ্ট হয়।

51. একটি ছেলে তার বাড়ি ছেড়ে বেরিয়ে দক্ষিণের দিকে 6 কিলোমিটার পথ পাড়ি দেয়, তারপর পশ্চিমের দিকে 8 কিলোমিটার পথ পাড়ি দেয় এবং পুনরায় দক্ষিণের দিকে 9 কিলোমিটার পথ পাড়ি দেয়, তার বাড়ি থেকে এখন সেটি কত দূরে এবং কোন দিকে ?

(1) 13 কিমি, দক্ষিণ পশ্চিম (2) 17 কিমি, দক্ষিণ পশ্চিম

(3) 17 কিমি, উত্তর পশ্চিম (4) 13 কিমি, পশ্চিম

SPACE FOR ROUGH WORK

52. Find out which of the answer figures completes the figure matrix :

Problem figure :

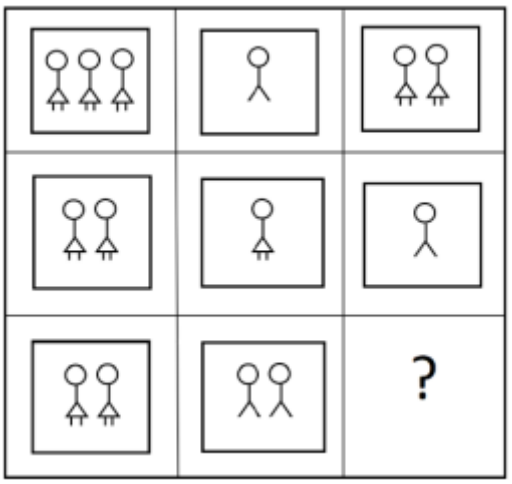

(1) 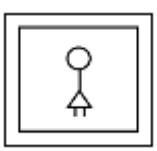

(2) 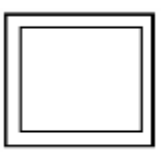

(3) 

(4) 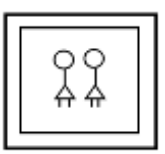

53. A clock seen through a mirror shows 'quarter to seven'. What is the correct time shown by the clock ?

(1) 6:15 (2) 6:17 (3) 5:17 (4) 5:15

54. The sequence of folding a piece of paper and the manner in which the folded paper has been cut is shown in the following figures. How would this paper look when unfolded ?

(1) 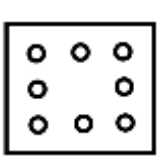

(2) 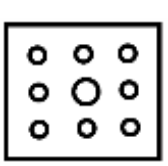

(3) 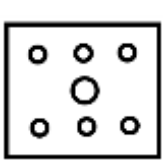

(4) 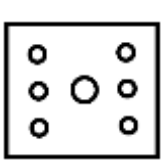

SPACE FOR ROUGH WORK

52. বিকল্প গুলীর মধ্যে কোনটি ফিগার ম্যাট্রিক্স সম্পূর্ণ করে, তা খুঁজে বের করুন :

সমস্যা চিত্র :

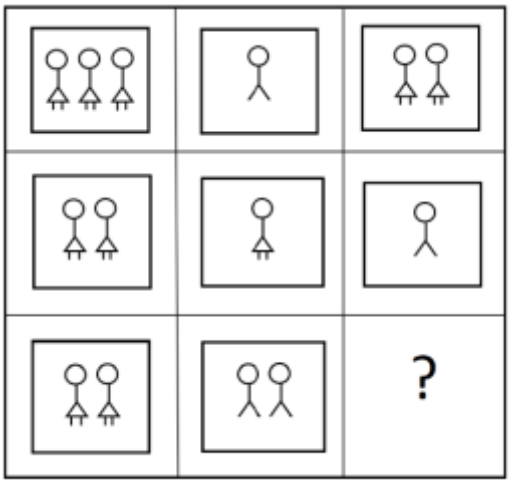

(1) 

(2) 

(3) 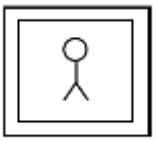

(4) 

53. আয়নায় মধ্যে একটি ঘড়িকে দেখা যাচ্ছে যে-তাতে সাতটাবাজতে পনেরো মিনিট বাকি (quarter to seven) । বিকল্প গুলির মধ্যে ঘড়ির দ্বারা দেখানো সঠিক সময় কোনটি ?

(1) 6:15 (2) 6:17 (3) 5:17 (4) 5:15

54. একটি কাগজের টুকরো ভাঁজ করার ক্রম এবং ভাঁজ করা কাগজগুলি কিভাবে কাটা হয়েছে তা নিম্নলিখিত চিত্রগুলিতে দেখানো হয়েছে । খোলা হলে এই কাগজটি দেখতে কেমন হবে ?

(1) 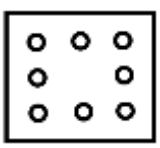

(2) 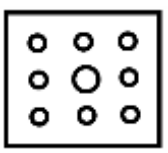

(3) 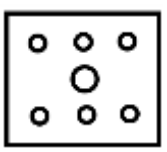

(4) 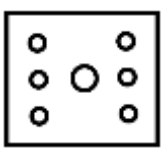

SPACE FOR ROUGH WORK

55. Find out the missing (?) number and letter.

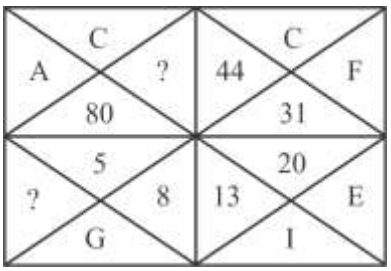

(1) 59 and K

(2) 61 and L

(3) 61 and K

(4) 59 and L

56. What will be the next number of the series

3, 6, 10.5, 17, 26, ?

(1) 31

(2) 38

(3) 40

(4) 41

57. In a class of 40 students, Anjali's rank is thrice that of Anita. There are 4 students who have ranks worse than that of Anjali. Anita's rank in the class is :

(1) 9th

(2) 10th

(3) 18th

(4) 12th

58. Six people E, H, K, M, S and U are seated in a circle facing the centre. U and H are immediate neighbours of M. E is the only person sitting between K and S. H is to the immediate right of S. Who is to the immediate right of U ?

(1) M (2) E (3) K (4) S

SPACE FOR ROUGH WORK

55. অদেখা সংখ্যা এবং অক্ষরগুলি (missing number and letter) খুঁজে বের করুন ।

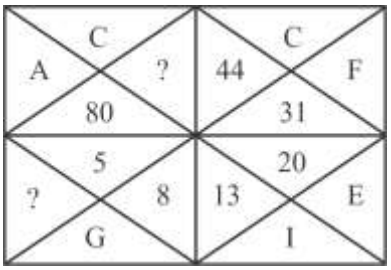

(1) 59 এবং K

(2) 61 এবং L

(3) 61 এবং K

(4) 59 এবং L

56. সিরিজের পরবর্তী সংখ্যাটি কত হবে ?

3, 6, 10.5, 17, 26, ?

(1) 31 (2) 38

(3) 40 (4) 41

57. 40 জন ছাত্রের একটি শ্রেণীতে, অঞ্জলির র্যাঙ্ক অনিতার তিনগুণ । এখানে অঞ্জলির চেয়েও খারাপ র‍্যাঙ্ক রয়েছে, এমন 4 জন শিক্ষার্থী রয়েছে। ক্লাসে অনিতার র‍্যাঙ্ক হল

(1) 9th (2) 10th

(3) 18th (4) 12th

58. E, H, K, M, S এবং U ছয়জন ব্যক্তি একটি বৃত্তের কেন্দ্রের দিকে মুখ করে বসে আছেন । U এবং H হল M-এর নিকটবর্তী প্রতিবেশী । E হলেন একমাত্র ব্যক্তি যিনি K এবং S উভয়ের মাঝখানে বসে আছেন । H ঠিক S এর ডানদিকে আছেন মাঝখানে কেই নেই । U-র ঠিক ডানদিকে সর্বপ্রথম কে আছেন ?

(1) M (2) E

(3) K (4) S

SPACE FOR ROUGH WORK

59. Find out which of the answer figures from the options can be formed using all the pieces given in the problem figure.

Problem figure

(1)

(2)

(3)

(4)

60. Read the given statements and conclusions carefully assuming that the information given in the statements is true, even if it appears to be at variance with commonly known facts. Decide which of the given conclusion(s) logically follows from the statements.

Statements :

No keyboard is a mouse.

All mouses are computers.

All computers are laptops.

Conclusions :

All mouses are laptops.

II. All computers can never be keyboards.

(1) Only conclusion I follows

(2) Only conclusion II follows

(3) Neither conclusion I nor II follows

(4) Both conclusions I and II follow

SPACE FOR ROUGH WORK

59. সমস্যা চিত্র প্রাপ্ত অংশগুলি দ্বারা নীচের বিকল্পগুলিতে থাকা কোন চিত্রটি তৈরি করা সম্ভব ?

সমস্যা চিত্র

(1)

(2)

(3)

(4)

60. প্রদত্ত বিবৃতিগুলি এবং সিদ্ধান্তটি যত্ন সহকারে পড়ুন এই ধরে নিয়ে যে বিবৃতিগুলিতে দেওয়া তথ্যগুলি সত্য, যদিও এটি সাধারণভাবে পরিচিত তথ্যগুলির সাথে ভিন্ন বলে মনে হতে পারে । সিদ্ধান্ত নিন যে প্রদত্ত সিদ্ধান্তগুলির মধ্যে কোনটি যুক্তিসঙ্গতভাবে বিবৃতিগুলিকে অনুসরণ করে ?

বিবৃতি :

কোনও কীবোর্ডই মাউস নয় ।

সমস্ত মাউস হল কম্পিউটার ।

সব কম্পিউটারই ল্যাপটপ ।

সিদ্ধান্ত :

I. সব মাউসই ল্যাপটপ ।

II. সমস্ত কম্পিউটার কখনোই কীবোর্ড হতে পারে না ।

(1) কেবল সিদ্ধান্ত I অনুসরণ করছে ।

(2) কেবল সিদ্ধান্ত II অনুসরণ করছে ।

(3) I এবং II কোন সিদ্ধান্তই অনুসরণ করছে না ।

(4) সিদ্ধান্ত I এবং II উভয়ই অনুসরণ করছে ।

SPACE FOR ROUGH WORK

SPACE FOR ROUGH WORK

SPACE FOR ROUGH WORK

Read carefully the following instructions :

8. No candidate will be allowed to leave the OMR Answer Sheet blank. If any OMR Answer Sheet is found blank, it shall be crossed by the Invigilator with his/her signature, mentioning "Cancelled" on it.

9. Do not tear or fold any page of the Test Booklet and OMR Answer Sheet.

10. Candidates are advised to ensure that they fill the correct particulars on the OMR Answer Sheet, i.e., Application No., Roll No., Test Booklet No., Name, Mother's Name, Father's Name and Signature.

11. In case of any discrepancy in any question between English and Hindi/Regional language version, the English version will be considered as the final version for evaluation.

12. Rough work is to be done in the space provided for this purpose in the Test Booklet only.

13. The answers will be evaluated through electronic scanning process. Incomplete or incorrect entries may render the OMR Answer Sheet invalid.

14. Candidates are advised not to fold or make any stray marks on the OMR Answer Sheet. Use of Eraser, Nail, Blade, White Fluid/Whitener, etc., to smudge, scratch or damage in any manner the OMR Answer Sheet during examination is strictly prohibited. Candidature and OMR Answer Sheet of candidates using Eraser, Nail, Blade or White Fluid/Whitener to smudge, scratch or damage in any manner shall be cancelled.

15. There will be one copy of OMR Answer Sheet i.e., the Original Copy. After the examination is over, the candidate shall hand over the OMR Answer Sheet to the Invigilator. The candidate can take away the Test Booklet after the examination is over. If the candidate does not hand over the OMR Answer Sheet to the Invigilator and goes away with the OMR Answer Sheet, his/her candidature shall be cancelled and criminal proceedings shall also be initiated against him/her.

16. Candidates are advised strictly not to carry handkerchief, any mobile phone, any type of watch, belt or wear ornaments like ring, chain, ear-ring, etc., electronic or communication device, pen, pencil, eraser, sharpener and correction fluid to the Examination Centre. If any candidate is found possessing any such item, he/she will not be allowed to enter the examination centre. Possession of a mobile phone or any other aiding material as mentioned above by the candidate in the examination room will be treated as a serious violation and it may lead to cancellation of the candidature and debarring him/her from future examinations.

17. If a candidate violates any instructions or shows any indiscipline or misbehaviour, appropriate action will be taken including cancellation of candidature and debarring from future examinations.

18. Use of electronic/manual calculator is **not** allowed.

নিম্নলিখিত নির্দেশাবলী মন দিয়ে পড়ুন :

8. কোনো প্রার্থীকে ওএমআর উত্তরপত্র খালি রাখতে দেওয়া হবে না। যদি কোনো OMR উত্তরপত্র খালি পাওয়া যায়, তাহলে তা পরিদর্শক তার স্বাক্ষরসহ এটিতে "বাতিল" বলে উল্লেখ করে ক্রস করবেন।

9. টেস্ট বুকলেটের ও ওএমআর উত্তরপত্র এর কোনো পৃষ্ঠা ছিঁড়বেন না বা ভাঁজ করবেন না।

10. প্রার্থীদের ওএমআর উত্তরপত্রে সঠিক বিবরণ যেমন, আবেদন নং, রোল নং, টেস্ট বুকলেট নং, নাম, মায়ের নাম, পিতার নাম এবং স্বাক্ষর সঠিক ভাবে পূরণ করার পরামর্শ দেওয়া হচ্ছে।

11. ইংরেজি এবং হিন্দি/আঞ্চলিক ভাষার প্রশ্নপত্রের সংস্করণের মধ্যে কোনো প্রশ্নে কোনো অমিল হলে, ইংরেজি প্রশ্নটিকে মূল্যায়নের জন্য চূড়ান্ত সংস্করণ হিসেবে বিবেচনা করা হবে।

12. পরীক্ষার পুস্তিকাতে ফাঁকা যায়গাটি রাফ কাজের জন্য দেওয়া হয়েছে।

13. উত্তরগুলি ইলেকট্রনিক স্ক্যানিং প্রক্রিয়ার মাধ্যমে মূল্যায়ন করা হবে। অসম্পূর্ণ বা ভুল এন্ট্রি হলে OMR উত্তর পত্র অবৈধ হিসাবে ধরা হতে পারে।

14. প্রার্থীদের ওএমআর উত্তরপত্রে ভাঁজ বা বিভ্রান্তিকর চিহ্ন না ব্যবহার করার পরামর্শ দেওয়া হচ্ছে। পরীক্ষার সময় ওএমআর উত্তরপত্রে যেকোনও উপায়ে দাগ, আঁচড় বা ক্ষতি করার জন্যই রেজার, পেরেক, ব্লেড, সাদাতরল/হোয়াইটনার ইত্যাদি ব্যবহার করা কঠোর ভাবে নিষিদ্ধ। ইরেজার, পেরেক, ব্লেড বা হোয়াইট ফ্লুইড/হোয়াইটনার ব্যবহার করে যেকোনো উপায়ে দাগ, আঁচড় বা ক্ষতিকরার জন্য প্রার্থীদের প্রার্থীতা এবং OMR উত্তরপত্র বাতিল করা হবে।

15. ওএমআর উত্তরপত্রের একটিই কপি থাকবে, অর্থাৎ মূলকপি। পরীক্ষা শেষ হওয়ার পরে, প্রার্থীকে ওএমআর উত্তরপত্রটি পরিদর্শকের কাছে হস্তান্তর করতে হবে। পরীক্ষা শেষ হওয়ার পর পরীক্ষার্থী পরীক্ষা পুস্তিকাটি নিয়ে যেতে পারেন। যদি পরীক্ষার্থী পরীক্ষকের কাছে OMR উত্তর পত্র হস্তান্তর না করে এবং OMR উত্তর পত্র নিয়ে চলে যায়, তবে তার পরীক্ষার্থীকে বাতিল করা হবে এবং তার বিরুদ্ধে ফৌজদারি মামলাও শুরু করা হবে।

16. পরীক্ষাকেন্দ্রে প্রার্থীদেরকে রুমাল, কোনো মোবাইল ফোন, কোনো ধরনের ঘড়ি, বেল্ট বা অলঙ্কার যেমন রিং, চেইন, কানের রিং ইত্যাদি, ইলেকট্রনিক বা যোগাযোগের যন্ত্র, কলম, পেন্সিল, ইরেজার, শার্পনার এবং সংশোধন তরল বহন না করার জন্য কঠোর ভাবে নির্দেশ দেওয়া হচ্ছে। কোনো পরীক্ষার্থীর কাছে এ ধরনের কোনো জিনিস পাওয়া গেলে তাকে পরীক্ষা কেন্দ্রে প্রবেশ করতে দেওয়া হবে না। পরীক্ষাকক্ষে প্রার্থীর দ্বারা উপরে উল্লিখিত জিনিস, মোবাইল ফোন বা অন্য কোন সাহায্যকারী সামগ্রী রাখা একটি গুরুতর নিয়ম লঙ্ঘন হিসাবে বিবেচিত হবে এবং এটি পরীক্ষা থেকে তাকে বাতিল এবং ভবিষ্যতের পরীক্ষা থেকেও তাকে বঞ্চিত করতে পারে।

17. যদি কোনো প্রার্থী কোনো নির্দেশ লঙ্ঘন করে বা কোনো বিশৃঙ্খলা বা অসদাচরণ দেখায়, তাহলে প্রার্থীকে বাতিল করা হবে এবং ভবিষ্যত পরীক্ষা থেকে বিরত থাকা সহ যথাযথ ব্যবস্থা নেওয়া হবে।

18. ইলেকট্রনিক/ম্যানুয়াল ক্যালকুলেটর ব্যবহার অনুমোদিত ***নয়***।