Test Booklet No.
ટેસ્ટ પુસ્તિકા નં.

Subject : GENERAL TEST
Code : 501 EGJ
Medium : English and Gujarati

Test Booklet Code
ટેસ્ટ પુસ્તિકા કોડ

B

(Do not open this Test Booklet until you are asked to do so)

(જ્યાં સુધી તમને આવું કરવા માટે કહેવામાં ન આવે ત્યાં સુધી આ પરીક્ષણ પુસ્તિકા ખોલશો નહીં)

*Time Allowed : **60** minutes* *સમય : **60** મિનિટ*	*Maximum Marks : **250*** *મહત્તમ ગુણ : **250***	*Total Questions : **60*** *કુલ પ્રશ્નો : **60***	*Number of questions to be answered : **50*** *જવાબ આપવાના પ્રશ્નોની સંખ્યા : **50***

Kindly read the Instructions given on this Page and Back Page carefully before attempting this Question Paper.

આ પ્રશ્નપત્રનો પ્રયાસ કરતા પહેલા કૃપા કરીને આ પૃષ્ઠ અને છેલ્લા પૃષ્ઠ પર આપવામાં આવેલી સૂચનાઓ કાળજીપૂર્વક વાંચો.

Important Instructions for the Candidates :

1. This Test Booklet contains **60** questions printed in English and Gujarati. Out of these, the candidate is required to answer any **50** questions. If a candidate answers more than 50 questions, the first 50 answered questions will be considered for evaluation.
2. When you are given the OMR Answer Sheet, fill in your particulars on it carefully with **blue/black** ball point pen only.
3. Use only Blue/Black Ball Point Pen for marking responses.
4. The CODE for this Test Booklet is **B**. Make sure that the CODE printed on the OMR Answer Sheet is the same as that on this Test Booklet. Also ensure that your Test Booklet No. and OMR Answer Sheet No. are exactly the same. In case of discrepancy, the candidate should immediately report the matter to the Invigilator for replacement of both the Test Booklet and the OMR Answer Sheet. No claim in this regard will be entertained after five minutes from the start of the examination.
5. Before attempting the question paper kindly check that this Test Booklet has total **28** pages and OMR Answer Sheet consists of one sheet. At the start of the examination within first five minutes, candidates are advised to ensure that all pages of Test Booklet and OMR Answer Sheet are properly printed and they are not damaged in any manner.
6. Each question has four answer options. Out of these four options choose the **MOST APPROPRIATE OPTION** and darken/blacken the corresponding circle on the OMR Answer Sheet with a Blue/Black Ball Point Pen.
7. Five (5) marks will be given for each correct answer. One (1) mark will be deducted for each incorrect answer. If more than one circle is found darkened/blackened for a question, then it will be considered as an incorrect answer. Unanswered questions will be given no mark.

P.T.O.

ઉમેદવારો માટે મહત્વપૂર્ણ સૂચનાઓ :

1. આ ટેસ્ટ બુકલેટમાં અંગ્રેજી અને ગુજરાતીમાં છપાયેલા 60 પ્રશ્નો છે. અંગ્રેજીમાંથી અને તેમાંથી ઉમેદવારે કોઈપણ 50 પ્રશ્નોના જવાબ આપવા જરૂરી છે. એક ઉમેદવાર 50 થી વધુ પ્રશ્નોના જવાબ આપે છે, જો પ્રથમ 50 જવાબો પ્રશ્નો મૂલ્યાંકન માટે ધ્યાનમાં લેવામાં આવશે.
2. OMR આન્સર શીટ આ ટેસ્ટ બુકલેટની અંદર છે. જ્યારે તમને ટેસ્ટ બુકલેટ ખોલવા માટે નિર્દેશિત કરવામાં આવે, ત્યારે OMR આન્સર શીટ બહાર કાઢો અને ફક્ત **બ્લુ/બ્લેક** હોલ પોઈન્ટ પેન વડે તમારી વિગતો કાળજીપૂર્વક ભરો.
3. પ્રતિસાદોને ચિહ્નિત કરવા માટે માત્ર **બ્લુ/બ્લેક** બોલ પોઈન્ટ પેનનો ઉપયોગ કરો.
4. આ ટેસ્ટ પુસ્તિકા માટે કોડ **B** છે. ખાતરી કરો કે OMR આન્સર શીટ પર મુદ્રિત કોડ આ ટેસ્ટ પુસ્તિકા પર જેવો જ છે. એ પણ સુનિશ્ચિત કરો કે તમારી ટેસ્ટ પુસ્તિકા નંબર અને OMR આન્સર શીટ નંબર બરાબર સમાન છે. વિસંગતતાના કિસ્સામાં, ઉમેદવારે પરીક્ષણ પુસ્તિકા અને OMR જવાબ પત્રક બંને બદલવા માટે તાત્કાલિક તપાસકર્તાને આ બાબતની જાણ કરવી જોઈએ પરીક્ષા શરૂ થાય પાંચ મિનિટ પછી આ સંદર્ભે કોઈ દાવો નથી.
5. પ્રશ્નપત્રનો પ્રયાસ કરતા પહેલા કૃપા કરીને તપાસ કરો કે આ પરીક્ષા પુસ્તિકામાં કુલ **28** પૃષ્ઠો છે અને OMR ઉત્તરપત્ર એક શીટ ધરાવે છે. પરીક્ષાની શરૂઆતમાં પ્રથમ પાંચ મિનિટમાં, ઉમેદવારોને સલાહ આપવામાં આવે છે કે તેઓ ટેસ્ટ પુસ્તિકા અને OMR આન્સર શીટના તમામ પૃષ્ઠો યોગ્ય રીતે છે તેની ખાતરી કરે.મુદ્રિત છે અને તેમને કોઈપણ રીતે નુકસાન થતું નથી.
6. દરેક પ્રશ્નમાં ચાર જવાબ વિકલ્પો છે. આ ચાર વિકલ્પોમાંથી **સૌથી યોગ્ય વિકલ્પ પસંદ** કરો અને OMR આન્સર શીટ પર બ્લુ/બ્લેક બોલ પોઈન્ટ પેન વડે અનુરૂપ વર્તુળને ડાર્ક/બ્લેક કરો.
7. દરેક સાચા જવાબ માટે પાંચ (5) ગુણ આપવામાં આવશે. દરેક ખોટા જવાબ માટે એક (1) માર્ક કાપવામાં આવશે. જો કોઈ પ્રશ્ન માટે એક કરતા વધુ વર્તુળો ઘાટા/કાળા કરેલા જોવા મળે, તો તેને ખોટો જવાબ ગણવામાં આવશે. અનુત્તરિત પ્રશ્નોને માર્ક આપવામાં આવશે નહીં.

ફ.પૃ.પ.

Name of the Candidate (in Capital Letters) : _____
ઉમેદવારનું નામ (કેપિટલ લેટરમાં) :

Application Number (in figures) : _____
અરજી નંબર (આંકડામાં) :

Roll Number (in figures) : _____
રોલ નંબર (અંકોમાં) :

Centre of Examination (in Capital Letters) : _____
પરીક્ષા કેન્દ્ર (કેપિટલ લેટર્સમાં) :

Candidate's Signature : _____ Invigilator's Signature : _____
ઉમેદવારની સહી : નિરીક્ષકની સહી :

Facsimile signature stamp of Centre Superintendent : _____
કેન્દ્ર અધિક્ષકની પ્રતિકૃતિ સહી સ્ટેમ્પ :

1. Simplify : $24 \div 4 \times 2 + 8 - 4 = ?$

(1) 1 (2) 7 (3) 16 (4) 56

2. The difference of the greatest and the smallest of the fractions $\frac{1}{2}, \frac{8}{11}, \frac{7}{8}, \frac{7}{9}, \frac{5}{6}$ is :

(1) $\frac{3}{8}$ (2) $\frac{6}{7}$ (3) $\frac{7}{9}$ (4) $\frac{1}{3}$

3. The sum of LCM and HCF of two numbers is 854. If the LCM is 60 times the HCF and one of the numbers is 70, then the other number is

(1) 160 (2) 164 (3) 168 (4) 172

4. The present age of Harish is 8 times the sum of the ages of his two sons at present. After 8 years, his age will be 2 times the sum of the ages of his two sons. The present age of Harish (in years) is :

(1) 31 (2) 32

(3) 33 (4) 34

5. In an examination, it is required to get 300 marks to pass. A student gets 225 marks and is declared fail by 10% marks. What are the maximum marks of the examination ?

(1) 700 (2) 750

(3) 800 (4) 850

6. In a class of 40 students, ratio of boys and girls is 3 : 2 and the average marks scored by boys is 42 and that by girls is 46. Then the average marks scored by the whole class is :

(1) 43.4 (2) 43.6

(3) 43.8 (4) 44

7. The sum of three numbers is 136. If the ratio between the first number and the second number is 2 : 3 and that between the second and the third number is 5 : 3, then the first number is :

(1) 42 (2) 40

(3) 36 (4) 32

SPACE FOR ROUGH WORK

1. સરળ બનાવો : $24 \div 4 \times 2 + 8 - 4 = ?$

(1) 1 (2) 7 (3) 16 (4) 56

2. સૌથી મોટા અને સૌથી નાના અપૂર્ણાંકનો તફાવત શોધો $\frac{1}{2}, \frac{8}{11}, \frac{7}{8}, \frac{7}{9}, \frac{5}{6}$

(1) $\frac{3}{8}$ (2) $\frac{6}{7}$ (3) $\frac{7}{9}$ (4) $\frac{1}{3}$

3. બે સંખ્યાઓના LCM. અને HCF નો સરવાળો 854 છે..જો LCM એ HCF ના 60 ગણો હોય અને જેની એક સંખ્યા 70 હોય, તો બીજી સંખ્યા શોધો.

(1) 160 (2) 164 (3) 168 (4) 172

4. હરીશ ની હાલ ની ઉંમર તેના બે પુત્રોની હાલ ની ઉંમર કરતાં 8 ગણી છે..8 વર્ષ પછી તેની ઉંમર તેના બે પુત્રોની ઉંમર કરતાં બમણી થશે. હરીશની હાલની ઉંમર (વર્ષોમાં) છે

(1) 31 (2) 32

(3) 33 (4) 34

5. કોઇ એક પરીક્ષામાં પાસ થવા માટે 300 ગુણ મેળવવાના હોય છે.એક વિદ્યાર્થી 225 ગુણ મેળવે છે અને તેને 10 ટકા ગુણથી નાપાસ જાહેર કરવામાં આવે છે તો તે પરીક્ષા ના મહત્તમ ગુણ શોધો

(1) 700 (2) 750

(3) 800 (4) 850

6. 40 વિદ્યાર્થીઓના વર્ગમાં છોકરાઓ અને છોકરીઓનો ગુણોત્તર 3 : 2 છે અને છોકરાઓ દ્વારા મેળવેલા સરેરાશ ગુણ 42 છે અને છોકરીઓ દ્વારા મેળવેલા સરેરાશ ગુણ 46 છે, તો આખા વર્ગ દ્વારા મેળવેલા સરેરાશ ગુણ ને શોધો

(1) 43.4 (2) 43.6

(3) 43.8 (4) 44

7. ત્રણ સંખ્યાઓનો સરવાળો 136 છે. જો પ્રથમ સંખ્યા અને બીજી સંખ્યા વચ્ચેનો ગુણોત્તર 2 : 3 હોય અને બીજી અને ત્રીજી સંખ્યા વચ્ચેનો ગુણોત્તર 5 : 3 હોય, તો પ્રથમ સંખ્યા શોધો

(1) 42 (2) 40

(3) 36 (4) 32

SPACE FOR ROUGH WORK

8. An item is sold for ₹ 504 after allowing 20% discount and still a profit of 5% has been earned. The marked price is how much more than the cost price ?

(1) ₹ 120 (2) ₹ 135

(3) ₹ 150 (4) ₹ 160

9. A certain sum becomes ₹ 2,356 in 3 years and ₹ 2,660 in 5 years on simple interest. The value of sum is :

(1) ₹ 1,800 (2) ₹ 1,880 (3) ₹ 1,900 (4) ₹ 1,980

10. In a square, lengths of the diagonals are (4k + 6) cm and (7k – 3) cm. The area of the square (in cm^2) is :

(1) 144 (2) 162 (3) 169 (4) 172

11. The volume of a cylinder having base radius 3 cm is 396 cm^3. Find its curved surface area (in cm^2).

(Use $\pi = \frac{22}{7}$)

(1) 280 (2) 301.5 (3) 264 (4) 320.6

12. A tap can fill a tank in 6 hours. After half the tank is filled, three more similar taps are opened. What is the total time taken to fill the tank completely ?

(1) 4 hours (2) 5 hours

(3) 3 hours 30 minutes (4) 3 hours 45 minutes

13. A train running at the speed of 80 km/h crosses a 350 m long tunnel in 36 seconds. The length of the train (in m) is

(1) 350 (2) 380 (3) 420 (4) 450

14. If the mean of 3, 4, 9, 2k, 10, 8, 6 and (k + 6) is 8, and mode of 2, 2, 3, 2p, (2p + 1), 4, 4, 5 and 6 (p is a natural number) is 4, then the value of (k – 2p) is :

(1) 0 (2) 1 (3) 2 (4) 3

15. In triangle ABC, points D and E are on AB and AC respectively such that DE is parallel to BC. If AD = 6 cm, DB = 4 cm, AE = 9 cm, then the length of EC (in cm) is

(1) 7 (2) 6.4 (3) 6 (4) 5.5

SPACE FOR ROUGH WORK

8. જો કોઈ વસ્તુ 20 ટકા ડિસ્કાઉન્ટ આપીને 504 રૂપિયામાં વેચવામાં આવે તો પણ 5 ટકા નફો થાય છે, ચિહ્નિત કિંમત એની મુળ કિંમત કરતાં કેટલી વધારે છે ?

(1) ₹ 120 (2) ₹ 135 (3) ₹ 150 (4) ₹ 160

9. એક ચોક્કસ રકમ 3 વર્ષમાં 2,356 રૂપિયા અને સરળ વ્યાજ પર 5 વર્ષમાં 2,660 રૂપિયા થઈ જાય છે. તે રકમ શોધો

(1) ₹ 1,800 (2) ₹ 1,880 (3) ₹ 1,900 (4) ₹ 1,980

10. એક ચોરસમાં, કર્ણની લંબાઈ (4k + 6) સે. મી. અને (7k – 3) સે. મી. હોય છે..ચોરસનું ક્ષેત્રફળ (સે. મી.^{2} માં) શોધો

(1) 144 (2) 162 (3) 169 (4) 172

11. એક નળાકાર જે 396 cm^3 કદ અને જે આધાર ત્રિજ્યા (base radius) 3 cm ધરાવે છે . તેનો વક્ર સપાટી વિસ્તાર શોધો (cm^2 માં) $\pi = \frac{22}{7}$ નો ઉપયોગ કરો)

(1) 280 (2) 301.5 (3) 264 (4) 320.6

12. એક નળ 6 કલાકમાં ટાંકી ભરી શકે છે. અડધી ટાંકી ભરાઈ ગયા પછી, વધુ ત્રણ સમાન નળ ખોલવામાં આવે છે. ટાંકી સંપૂર્ણપણે ભરવામાં કુલ કેટલો સમય લાગે છે ?

(1) 4 કલાક (2) 5 કલાક

(3) 3 કલાક 30 મિનિટ (4) 3 કલાક 45 મિનિટ

13. 80 કિમી/કલાકની ઝડપે દોડતી એક ટ્રેન 350 મીટર લાંબી સુરંગને 36 સેકન્ડમાં પાર કરે છે તો તે ટ્રેનની લંબાઈ (મીટરમાં) શોધો

(1) 350 (2) 380 (3) 420 (4) 450

14. જો 3, 4, 9, 2k, 10, 8, 6 અને (k + 6) નો સરેરાશ 8 હોય અને 2, 2, 3, 2p, (2p + 1), 4, 4, 5 અને 6 (p એ પ્રાકૃતિક સંખ્યા છે) નો પ્રકાર 4 હોય, તો (k – 2p) નું મૂલ્ય શોધો

(1) 0 (2) 1 (3) 2 (4) 3

15. ત્રિકોણ ABC માં, બિંદુઓ D અને E અનુક્રમે AB અને AC પર હોય છે, જેમ કે DE એ BC ને સમાંતર હોય છે. જો AD = 6 સે. મી., DB = 4 સે. મી., AE = 9 સે. મી. હોય, તો ઇસીની લંબાઈ (સે. મી) માં શોધો.

(1) 7 (2) 6.4 (3) 6 (4) 5.5

SPACE FOR ROUGH WORK

16. If $\sin A = \frac{4}{5}$, then $(3 - \tan A)(2 + \cos A) =$

(1) $\frac{12}{5}$ (2) $\frac{13}{3}$ (3) $\frac{13}{5}$ (4) 3

17. A man can row a boat at 8 km/h in still water. If the speed of the water current is 2 km/h and it takes him 2 hours to row to a place and come back, then how far off (in km) is the place ?

(1) 7.5 (2) 6 (3) 9.5 (4) 10

18. From the given options, which pass connects Jammu with Srinagar ?

(1) Banihal pass (2) Nathu La pass

(3) Niti pass (4) Rohtang pass

19. Which of the following is ***not*** correctly matched regarding Padma Awards-2024 ?

(1) Padma Vibhushan Award ⟶ Shri Konidela Chiranjeevi

(2) Padma Shri Award ⟶ Mithun Chakraborty

(3) Padma Bhushan Award ⟶ M. Fathima Beevi

(4) Padma Bhushan Award ⟶ Sitaram Jindal

20. Match List-I with List-II :

List-I **Person**	**List-II** **Area of work**
(A) Vishakhadatta	(I) Medicine
(B) Kartikeya Sarabhai	(II) Poet
(C) Charaka	(III) Environmentalist
(D) Satyendra Nath Bose	(IV) Mathematics

Choose the correct answer from the options given below.

(1) (A) - (I), (B) - (III), (C) - (IV), (D) - (II)

(2) (A) - (II), (B) - (III), (C) - (I), (D) - (IV)

(3) (A) - (II), (B) - (I), (C) - (III), (D) - (IV)

(4) (A) - (III), (B) - (IV), (C) - (I), (D) - (II)

SPACE FOR ROUGH WORK

16. જો $\sin A = \frac{4}{5}$ હોય, તો $(3 - \tan A)(2 + \cos A) =$ _____

(1) $\frac{12}{5}$ (2) $\frac{13}{3}$ (3) $\frac{13}{5}$ (4) 3

17. એક માણસ સ્થિર પાણીમાં 8 કિમી/કલાકની ઝડપે હોડી ચલાવી શકે છે..જો પાણીના પ્રવાહ ની ઝડપ 2 કિમી/કલાક હોય અને તેને એક જગ્યાએ થી બીજી જગ્યા પર પોચીને પાછા આવવામાં 2 કલાક લાગે, તો તે સ્થળ કેટલું દૂર (કિ.મી. માં) હશે તે શોધો

(1) 7.5 (2) 6 (3) 9.5 (4) 10

18. નીચે આપેલા વિકલ્પોમાંથી કયો ઘાટ (પાસ) જમ્મુ ને શ્રીનગર સાથે જોડે છે ?

(1) બનિહાલ ઘાટ (પાસ) (2) નાથુ લા ઘાટ (પાસ)

(3) નીતિ ઘાટ (પાસ) (4) રોહતાંગ ઘાટ (પાસ)

19. પદ્મ પુરસ્કારો-2024 અંગે નીચેનામાંથી કયા નિવેદનો યોગ્ય રીતે મેળ ખાતા નથી?

(1) પદ્મ વિભૂષણ પુરસ્કાર → શ્રી કોનિડેલા ચિરંજીવી

(2) પદ્મ શ્રી પુરસ્કાર → મિથુન ચક્રવર્તી

(3) પદ્મ ભૂષણ પુરસ્કાર → એમ.ફાતિમા બીવી

(4) પદ્મ ભૂષણ પુરસ્કાર → સીતારામ જિંદાલ

20. સૂચિ-I સાથે સૂચિ-II મેચ કરો

સૂચિ-I **વ્યક્તિ**	**સૂચિ-II** **કામનું ક્ષેત્ર**
(A) વિશાખાદત્તા	(I) દવા
(B) કાર્તિકેય સારાભાઈ	(II) કવિ.
(C) ચરક	(III) પર્યાવરણવાદી
(D) સત્યેન્દ્ર નાથ બોઝ	(IV) ગણિત

નીચે આપેલા વિકલ્પોમાંથી સાચો જવાબ પસંદ કરો.

(1) (A) - (I), (B) - (III), (C) - (IV), (D) - (II)

(2) (A) - (II), (B) - (III), (C) - (I), (D) - (IV)

(3) (A) - (II), (B) - (I), (C) - (III), (D) - (IV)

(4) (A) - (III), (B) - (IV), (C) - (I), (D) - (II)

SPACE FOR ROUGH WORK

21. The following states were formed after 1960. What was the correct sequence of their formation ?

(A) Haryana (B) Sikkim

(C) Nagaland (D) Goa

Choose the correct answer from the options given below.

(1) (C), (B), (A), (D) (2) (C), (A), (B), (D)

(3) (C), (D), (A), (B) (4) (D), (C), (A), (B)

22. Out of the given options, which scheme's objective is to conduct an annual survey at the gram panchayat level to monitor the progress in the development process of rural areas ?

(1) Mission Antyodaya (2022-23) (2) Mission Karmayogi (2022-23)

(3) Mission Rashtriya Gokul (2022-23) (4) Mission Atmanirbhar Bharat (2022-23)

23. Which one of the following countries is ***not*** a member of the "Quadrilateral Security Dialogue", also known as "QUAD" ?

(1) China (2) Japan

(3) India (4) Australia

24. Who has become the first woman chairperson of the Railway Board of Indian Railways in 2023 ?

(1) Jaya Verma Sinha (2) Mita Vashishth

(3) Ravneet Kaur (4) Vasudha Gupta

25. Match List-I with List-II :

List-I **Country**	**List-II** **Currency**
(A) Myanmar	(I) Ruble
(B) Russia	(II) Ngultrum
(C) Malaysia	(III) Kyat
(D) Bhutan	(IV) Ringgit

Choose the correct answer from the options given below.

(1) (A) - (III), (B) - (I), (C) - (II), (D) - (IV)

(2) (A) - (III), (B) - (I), (C) - (IV), (D) - (II)

(3) (A) - (IV), (B) - (I), (C) - (III), (D) - (II)

(4) (A) - (II), (B) - (I), (C) - (IV), (D) - (III)

SPACE FOR ROUGH WORK

21. 1960 પછી નીચેના રાજ્યોની રચના કરવામાં આવી હતી..તેમની રચનાનો સાચો ક્રમ કયો હતો ?

(A) હરિયાણા (B) સિક્કિમ (C) નાગાલેન્ડ (D) ગોવા

(1) (C), (B), (A), (D) (2) (C), (A), (B), (D)

(3) (C), (D), (A), (B) (4) (D), (C), (A), (B)

22. આપેલા વિકલ્પો માંથી કઈ યોજનાનો ઉદ્દેશ ગ્રામીણ વિસ્તારોની વિકાસ પ્રક્રિયામાં પ્રગતિ પર દેખરેખ રાખવા માટે ગ્રામ પંચાયત સ્તરે વાર્ષિક સર્વેક્ષણ હાથ ધરવાનો છે?

(1) મિશન અંત્યોદય (2022-23)

(2) મિશન કર્મયોગી (2022-23)

(3) મિશન રાષ્ટ્રીય ગોકુલ (2022-23)

(4) મિશન આત્મનિર્ભર ભારત (2022-23)

23. નીચેનામાંથી કયો દેશ "Quadrilateral Security Dialogue" નો સભ્ય નથી, જેને "QUAD" તરીકે પણ ઓળખવામાં આવે છે?

(1) ચીન (2) જાપાન (3) ભારત (4) ઓસ્ટ્રેલિયા

24. 2023માં "ભારતીય રેલવેના રેલવે બોર્ડ" ની પ્રથમ મહિલા અધ્યક્ષ કોણ બન્યા હતા?

(1) જયા વર્મા સિન્હા (2) મીતા વશિષ્ઠ

(3) રવનીત કૌર (4) વસુધા ગુપ્તા

25. સૂચિ-I સાથે સૂચિ-II મેચ કરો

સૂચિ-I **દેશ**	**સૂચિ-II** **ચલણ**
(A) મ્યાનમાર	(I) રુબલ
(B) રશિયા	(II) ન્ગુલ્ટ્રમ
(C) મલેશિયા	(III) ક્યાત
(D) ભૂતાન	(IV) રિંગિટ

નીચે આપેલા વિકલ્પોમાંથી સાચો જવાબ પસંદ કરો.

(1) (A) - (III), (B) - (I), (C) - (II), (D) - (IV)

(2) (A) - (III), (B) - (I), (C) - (IV), (D) - (II)

(3) (A) - (IV), (B) - (I), (C) - (III), (D) - (II)

(4) (A) - (II), (B) - (I), (C) - (IV), (D) - (III)

SPACE FOR ROUGH WORK

26. "Jhulaghat Suspension Bridge" between India and which country has become fully operational now ?

(1) Bhutan (2) Nepal

(3) China (4) Myanmar

27. Due to ocean acidification when the ocean becomes more acidic, what happens to the pH level of the ocean ?

(1) The pH level goes down.

(2) The pH level stays the same.

(3) The pH level goes up.

(4) The pH level becomes zero.

28. Who is the first para-athlete to receive the Padma Bhushan award in India ?

(1) Bhavina Patel

(2) Devendra Jhajharia

(3) Avani Lekhara

(4) Mariyappan Thangavelu

29. Zemu Glacier is located in which state of India ?

(1) Uttarakhand (2) Himachal Pradesh

(3) Sikkim (4) Arunachal Pradesh

30. Who among the following is Chile's first woman President ?

(1) Mary Robinson

(2) Michelle Bachelet

(3) Kim Campbell

(4) Jennifer Shipley

31. Which organisation developed and launched 'Ugram' Indigenous Assault Rifle for the armed forces ?

(1) ISRO (2) BEL

(3) HAL (4) DRDO

32. Which of the following substances is a bad conductor of electricity ?

(1) Diamond (2) Gold (3) Silver (4) Graphite

SPACE FOR ROUGH WORK

26. ભારત અને કયા દેશ વચ્ચે "ઝૂલાઘાટ સસ્પેન્શન બ્રિજ" હવે સંપૂર્ણપણે કાર્યરત થઈ ગયો છે?

(1) ભૂતાન (2) નેપાળ (3) ચીન (4) માયાનમાર

27. દરિયાઈ એસિડિફિકેશનને કારણે જ્યારે સમુદ્ર વધુ એસિડિક બને છે, ત્યારે દરિયા ના pH સ્તરનું શું થાય છે?

(1) pH. નું સ્તર ઘટી જાય છે.

(2) pH સ્તર સમાન રહે છે.

(3) pH સ્તર વધે છે.

(4) pH સ્તર શૂન્ય થઈ જાય છે.

28. ભારતમાં પદ્મ ભૂષણ પુરસ્કાર મેળવનાર પ્રથમ પેરા-એથ્લિટ કોણ છે?

(1) ભાવિના પટેલ (2) દેવેન્દ્ર ઝાઝરિયા

(3) અવની લેખરા (4) મરિયપ્પન થંગાવેલુ

29. ઝેમુ ગ્લેશિયર ભારતના કયા રાજ્યમાં આવેલું છે?

(1) ઉત્તરાખંડ (2) હિમાચલ પ્રદેશ

(3) સિક્કિમ (4) અરુણાચલ પ્રદેશ

30. નીચેના માંથી ચિલીના પ્રથમ મહિલા રાષ્ટ્રપતિ કોણ છે?

(1) મેરી રોબિન્સન

(2) મિશેલ બેશલેટ

(3) કિમ કેમ્પબેલ

(4) જેનિફર શિપલી

31. સશસ્ત્ર દળો મા 'ઉગ્રમ' સ્વદેશી એસોલ્ટ રાઈફલ કોણે વિકસાવી અને દાખલ કરી?

(1) ISRO (2) BEL

(3) HAL (4) DRDO

32. નીચેના માંથી કયો પદાર્થ વિદ્યુતનો અવાહક છે?

(1) ડાયમંડ (2) સોનું

(3) ચાંદી (4) ગ્રેફાઇટ

SPACE FOR ROUGH WORK

33. Which of the following disease is caused due to the deficiency of proteins ?

(1) Arthritis
(2) Kwashiorkor
(3) Goitre
(4) Night Blindness

34. Match List-I with List-II :

List-I **Navy (Institution)**	**List-II** **Place**
(A) INS Chilka	(I) Goa
(B) INS Hansa	(II) Andhra Pradesh
(C) INS Satavahana	(III) Kerala
(D) INS Garuda	(IV) Odisha

Choose the correct answer from the options given below.

(1) (A) - (III), (B) - (I), (C) - (II), (D) - (IV)
(2) (A) - (I), (B) - (IV), (C) - (II), (D) - (III)
(3) (A) - (IV), (B) - (I), (C) - (III), (D) - (II)
(4) (A) - (IV), (B) - (I), (C) - (II), (D) - (III)

35. DRDO has conducted the first successful flight test of Agni-5 missile equipped with MIRV technology. What is the full form of MIRV ?

(1) Multiple Independently Targetable Re-Entry Vehicle
(2) Mission India Target Re-Entry Vehicle
(3) Multiple Independently Technology Re-Entry Vehicle
(4) Multiple Indirect Targetable Re-Entry vehicle

36. Which Indian has won the "Ramon Magsaysay Award-2023" ?

(1) Korvi Rakshand
(2) Ashwini Kumar
(3) Dipti Ranjan Sahoo
(4) Dr. Ravi Kannan R.

SPACE FOR ROUGH WORK

33. નીચેના માંથી કયો રોગ પ્રોટીન ની ઉણપને કારણે થાય છે?

(1) સંધિવા
(2) ક્વાશિઓર્કોર
(3) ગોઇટર
(4) રાતનું અંધત્વ

34. સૂચિ-I સાથે સૂચિ-II મેચ કરો

સૂચિ-I નૌકાદળ (સંસ્થા)	**સૂચિ-II સ્થળ**
(A) INS ચિલ્કા	(I) ગોવા
(B) INS હંસા	(II) આંધ્ર પ્રદેશ
(C) INS સતવાહન	(III) કેરળ
(D) INS. ગરુડ	(IV) ઓડિશા

નીચે આપેલા વિકલ્પોમાંથી સાચો જવાબ પસંદ કરો.

(1) (A) - (III), (B) - (I), (C) - (II), (D) - (IV)
(2) (A) - (I), (B) - (IV), (C) - (II), (D) - (III)
(3) (A) - (IV), (B) - (I), (C) - (III), (D) - (II)
(4) (A) - (IV), (B) - (I), (C) - (II), (D) - (III)

35. DRDO એ MIRV ટેકનોલોજીથી સજ્જ અગ્નિ-5 મિસાઈલનું પ્રથમ સફળ ઉડાન પરીક્ષણ કર્યું છે. MIRV નું પૂરું નામ શું છે ?

(1) મલ્ટીપલ ઇંડિપેંડેંટલી ટાર્ગેટેબલ રી-એંટ્રી વ્હિકલ
(2) મિશન ઇંડિયા ટાર્ગેટ રી-એંટ્રી વ્હિકલ
(3) મલ્ટીપલ ઇંડિપેંડેંટલી ટૈક્નોલોજી રી-એંટ્રી વ્હિકલ
(4) મલ્ટીપલ ઇન્ડાઇરેક્ટ ટાર્ગેટેબલ રી-એંટ્રી વ્હિકલ

36. કયા ભારતીયને "રેમન મેગ્સેસે એવોર્ડ-2023" મળ્યો છે?

(1) કોરવી રક્ષંદ
(2) અશ્વિની કુમાર
(3) દીપ્તિ રંજન સાહૂ
(4) ડો..રવિ કન્નન આર.

37. Who has been appointed the Chairman of the 16th Finance Commission of India ?

(1) Ajay Narayan Jha

(2) Smt. Annie George Mathew

(3) Pradip Kumar Mohanty

(4) Dr. Arvind Panagariya

38. Sri Ranganathswamy Temple which is situated in Tamil Nadu, is dedicated to which deity ?

(1) Lord Shiva

(2) Lord Vishnu

(3) Goddess Durga

(4) Goddess Lakshmi

39. The Election Commission of India gets the power to conduct elections from which of the following articles ?

(1) Article 324 (2) Article 280

(3) Article 264 (4) Article 26

40. Match List-I with List-II :

List-I **Centre of Handicraft**	**List-II** **State**
(A) Mon	(I) Arunachal Pradesh
(B) Nalbari	(II) Assam
(C) Pasighat	(III) Meghalaya
(D) Tura	(IV) Nagaland

Choose the correct answer from the options given below.

(1) (A) - (IV), (B) - (II), (C) - (I), (D) - (III)

(2) (A) - (I), (B) - (III), (C) - (IV), (D) - (II)

(3) (A) - (IV), (B) - (III), (C) - (I), (D) - (II)

(4) (A) - (I), (B) - (II), (C) - (IV), (D) - (III)

SPACE FOR ROUGH WORK

37. ભારતના 16મા નાણાં પંચના અધ્યક્ષ તરીકે કોની નિમણૂક કરવામાં આવી છે?

(1) અજય નારાયણ ઝા

(2) શ્રીમતી.એની જ્યોર્જ મેથ્યુ

(3) પ્રદીપ કુમાર મોહંતી

(4) ડો..અરવિંદ પનગરીયા

38. તમિલનાડુમાં આવેલું શ્રી રંગનાથસ્વામી મંદિર કયા દેવતાને સમર્પિત છે?

(1) ભગવાન શિવ

(2) ભગવાન વિષ્ણુ

(3) દેવી દુર્ગા

(4) દેવી લક્ષ્મી

39. દેવી લક્ષ્મી ભારતના ચૂંટણી પંચને નીચેના માંથી કયા આમુખ દ્વારા ચૂંટણી યોજવાની સત્તા મળે છે?

(1) આમુખ 324 (2) આમુખ 280

(3) આમુખ 264 (4) આમુખ 26

40. સૂચિ-I સાથે સૂચિ-II મેચ કરો

સૂચિ-I **હસ્તકલા કેન્દ્ર**	**સૂચિ-II** **રાજ્ય**
(A) સોમ	(I) અરુણાચલ પ્રદેશ
(B) નલબારી	(II) આસામ
(C) પાસીઘાટ	(III) મેઘાલય
(D) તુરા	(IV) નાગાલેન્ડ

નીચે આપેલા વિકલ્પોમાંથી સાચો જવાબ પસંદ કરો.

(1) (A) - (IV), (B) - (II), (C) - (I), (D) - (III)

(2) (A) - (I), (B) - (III), (C) - (IV), (D) - (II)

(3) (A) - (IV), (B) - (III), (C) - (I), (D) - (II)

(4) (A) - (I), (B) - (II), (C) - (IV), (D) - (III)

41. In which state is ''Amchang Wildlife Sanctuary'' loacted ?

(1) Assam (2) Rajasthan

(3) Odisha (4) Manipur

42. India's first 3D-printed Post Office has been inaugurated in :

(1) Guwahati (2) Kolkata

(3) Mumbai (4) Bengaluru

43. What should come in the place of the question mark (?) in the following alphanumeric series ?

A1X, B4P, E25J, J100F, ?

(1) O289D (2) O225E

(3) Q289D (4) Q225E

44. In the given analogy, choose the word which will replace the question mark :

NEGI : MVTR :: SING : ?

(1) TRNS (2) TRNT

(3) FRMT (4) HRMT

45. In a certain code language 'ki ru pi' means 'nobody like cruel', 'ki mi cha' means 'king was cruel' and 'ru pi cha' means 'nobody like king'. What is the code for 'was' in the given code language ?

(1) ki (2) mi

(3) cha (4) ru

46. Read the following information carefully to choose the best option for the question :

'P % Q' means that 'P is the sister of Q'

'P + Q' means that 'P is the son of Q'

'P × Q' means that 'P is the husband of Q'

'P – Q' means that 'P is the brother of Q'

Which of the following means 'A is the son-in-law of G' ?

(1) A × U + S × G (2) A + S % U × G

(3) A – S + U × G (4) A × U % S + G

SPACE FOR ROUGH WORK

41. અમયાંગ વન્યજીવ અભયારણ્ય કયા રાજ્યમાં આવેલું છે?

(1) આસામ (2) રાજસ્થાન

(3) ઓડિશા (4) મણિપુર

42. ભારતની પ્રથમ 3D-પ્રિન્ટેડ પોસ્ટ ઓફિસનું ઉદ્ઘાટન જ્યાં કરવામાં આવ્યું છે તે :

(1) ગુવાહાટી (2) કોલકત્તા

(3) મુંબઈ (4) બેંગ્લોર

43. નીચેની આલ્ફાન્યૂમેરિક શ્રેણીમાં પ્રશ્ન ચિહ્ન (?) ની જગ્યાએ શું આવવું જોઈએ ?

A1X, B4P, E25J, J100F, ?

(1) O289D (2) O225E

(3) Q289D (4) Q225E

44. આપેલ સામ્યતામાં તે શબ્દ પસંદ કરો જે પ્રશ્ન ચિહ્નને બદલશે.

NEGI : MVTR :: SING : ?

(1) TRNS (2) TRNT

(3) FRMT (4) HRMT

45. I ચોક્કસ સાંકેતિક ભાષામાં 'ki ru pi' નો અર્થ 'nobody like cruel', 'ki mi cha' નો અર્થ 'king was cruel' અને 'ru pi cha' નો અર્થ 'nobody like king' થાય છે. આપેલ કોડ ભાષામાં 'was' માટેનો કોડ શું છે?

(1) ki (2) mi

(3) cha (4) ru

46. પ્રશ્ન માટે શ્રેષ્ઠ વિકલ્પ પસંદ કરવા માટે નીચેની માહિતીને કાળજીપૂર્વક વાંચો.

'P % Q'' નો અર્થ છે કે 'P એ Q ની બહેન છે'

''P + Q' નો અર્થ છે કે 'P એ Q નો પુત્ર છે'

'P × Q' નો અર્થ છે કે 'P એ Q નો પતિ છે'

'P – Q' ' નો અર્થ છે કે ' 'P એ Q નો ભાઈ છે'

નીચેના માંથી કયો અર્થ થાય છે 'A એ G નો જમાઈ છે'?

(1) A × U + S × G (2) A + S % U × G

(3) A – S + U × G (4) A × U % S + G

SPACE FOR ROUGH WORK

47. If 26th January, 2020 was a Sunday, then what day of the week was it on 16th March of that year ?

(1) Sunday (2) Monday

(3) Tuesday (4) Wednesday

48. What will be the measurement of the angle made by the hour and minute hands of a clock when the time is 'quarter past 3' ?

(1) $6\frac{1}{2}^\circ$ (2) 10°

(3) $7\frac{1}{2}^\circ$ (4) $8\frac{1}{2}^\circ$

49. If in a certain code laguage, 'MERCURY' is coded as 'NGUGZXF', then how will 'ENTANGLE' be coded in the same code language ?

(1) FPXFSMSM (2) FPWESMSM

(3) FPWESNSN (4) FPWFTNSM

50. The problem given below consists of a question and two statements numbered I and II. You have to decide whether the data provided in the statements are sufficient to answer the question.

How many sisters does Sunny have ?

I. Sunny is the only son of his parents.

II. Sunny's parents have three children.

(1) Only statement I alone is sufficient to answer the question.

(2) Only statement II alone is sufficient to answer the question.

(3) Statements I and II together are sufficient to answer the question.

(4) Either statement I or II alone is sufficient to answer the question.

51. A boy leaves his house. He travels 6 km towards South, then travels 8 km towards West and further travels 9 km towards South. How far and in which direction is he from his house now ?

(1) 13 km, South West

(2) 17 km, South West

(3) 17 km, North West

(4) 13 km, West

SPACE FOR ROUGH WORK

47. જો 26મી જાન્યુઆરી, 2020 રવિવાર હતો, તો તે વર્ષના 16મી માર્ચે અઠવાડિયાનો કયો દિવસ હતો?

(1) રવિવાર (2) સોમવાર

(3) મંગળવાર (4) બુધવાર

48. જ્યારે સમય 'ક્વાર્ટર પાસ્ટ 3 "હશે ત્યારે ઘડિયાળના હાથ દ્વારા બનાવવા માં આવેલા કોણ નું માપ શું હશે?

(1) $6\frac{1}{2}^{\circ}$ (2) 10° (3) $7\frac{1}{2}^{\circ}$ (4) $8\frac{1}{2}^{\circ}$

49. જો કોઈ ચોક્કસ કોડ ભાષામાં, 'MERCURY' ને 'NGUGZXF', તરીકે કોડેડ કરવામાં આવે, તો પછી 'ENTANGLE' ને તે જ કોડ ભાષામાં કેવી રીતે કોડેડ કરવામાં આવશે ?

(1) FPXFSMSM (2) FPWESMSM

(3) FPWESNSN (4) FPWFTNSM

50. નીચે આપેલા દાખલામાં એક પ્રશ્ન અને I અને II ક્રમાંકિત બે નિવેદનો છે..તમારે તે નક્કી કરવાનું છે કે નિવેદનોમાં આપવામાં આવેલ માહિતી પ્રશ્નોના જવાબ આપવા માટે પૂરતી છે કે નહીં.
સનીને કેટલી બહેનો છે?

I. સની તેના માતાપિતાનો એકમાત્ર પુત્ર છે.

II. સની ના માતાપિતા ને ત્રણ બાળકો છે.

(1) જો માત્ર નિવેદન I એકલુ જ પ્રશ્નનો જવાબ આપવા માટે પૂરતું છે

(2) જો માત્ર નિવેદન II એકલુ જ પ્રશ્નનો જવાબ આપવા માટે પૂરતું છે

(3) જો નિવેદન I અને II બંને એક સાથે પ્રશ્નનો જવાબ આપવા માટે પૂરતા છે.

(4) જો ક્યાં તો નિવેદન I અથવા II એકલુ પ્રશ્નનો જવાબ આપવા માટે પૂરતું છે

51. એક છોકરો પોતાનું ઘર છોડી ને તે દક્ષિણ તરફ 6 કિ.મી.ની મુસાફરી કરે છે, પછી પશ્ચિમ તરફ 8 કિ.મી.ની મુસાફરી કરે છે અને દક્ષિણ તરફ 9 કિ.મી.ની મુસાફરી કરે છે, હવે જણાવો ક તે તેના ઘરથી કેટલું દૂર અને કઈ દિશામાં છે ?

(1) 13 કિ.મી. દક્ષિણ પશ્ચિમ

(2) 17 કિ.મી., દક્ષિણ પશ્ચિમ

(3) 17 કિ.મી, ઉત્તર પશ્ચિમ

(4) 13 કિ.મી. પશ્ચિમ

SPACE FOR ROUGH WORK

52. Find out which of the answer figures completes the figure matrix :

Problem figure :



(1) 

(2) 

(3) 

(4) 

53. A clock seen through a mirror shows 'quarter to seven'. What is the correct time shown by the clock ?

(1) 6:15 (2) 6:17 (3) 5:17 (4) 5:15

54. The sequence of folding a piece of paper and the manner in which the folded paper has been cut is shown in the following figures. How would this paper look when unfolded ?

(1) 

(2) 

(3) 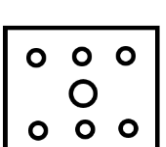

(4) 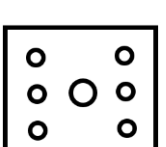

SPACE FOR ROUGH WORK

52. એ શોધો કે જવાબમાં આપેલ કઈ આકૃતિ ઓ આકૃતિ મેટ્રિક્સને પૂર્ણ કરે છે.

દાખલો:



(1) 

(2) 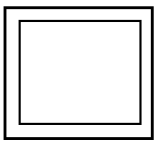

(3) 

(4) 

53. અરીસામાંથી જોવામાં આવતી ઘડિયાળ 'પોણા સાત' વાગ્યા દર્શાવે છે..ઘડિયાળ દ્વારા બતાવેલ સાચો સમય કયો છે?

(1) 6:15 (2) 6:17 (3) 5:17 (4) 5:15

54. કાગળના ટુકડાને ફોલ્ડ કરવાનો ક્રમ અને ફોલ્ડ કરેલા કાગળો કાપવાની રીત નીચેની આકૃતિઓમાં દર્શાવવામાં આવી છે..જ્યારે આ કાગળ ખુલશે ત્યારે તે કેવો દેખાશે?

(1) 

(2) 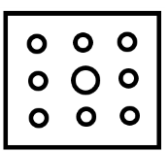

(3) 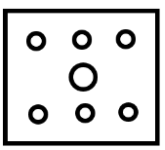

(4) 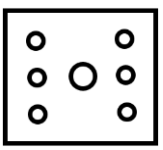

SPACE FOR ROUGH WORK

55. Find out the missing (?) number and letter.

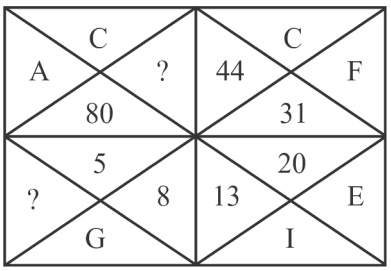

(1) 59 and K

(2) 61 and L

(3) 61 and K

(4) 59 and L

56. What will be the next number of the series

3, 6, 10.5, 17, 26, ?

(1) 31

(2) 38

(3) 40

(4) 41

57. In a class of 40 students, Anjali's rank is thrice that of Anita. There are 4 students who have ranks worse than that of Anjali. Anita's rank in the class is :

(1) 9th

(2) 10th

(3) 18th

(4) 12th

58. Six people E, H, K, M, S and U are seated in a circle facing the centre. U and H are immediate neighbours of M. E is the only person sitting between K and S. H is to the immediate right of S. Who is to the immediate right of U ?

(1) M (2) E (3) K (4) S

SPACE FOR ROUGH WORK

55. ખૂટતી (?) સંખ્યાઓ અને અક્ષર શોધો

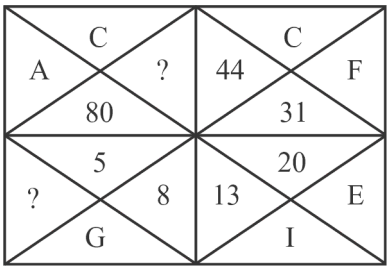

(1) 59 અને K

(2) 61 અને L

(3) 61 અને K

(4) 59 અને L

56. શ્રેણી માં આગામી સંખ્યા કેટલી હશે?

3, 6, 10.5, 17, 26, ?

(1) 31

(2) 38

(3) 40

(4) 41

57. 40 વિધાર્થીઓના વર્ગમાં અંજલિને અનિતા ની સરખામણી એ ત્રણ ગણો ક્રમ મળ્યો છે..અંજલિ કરતાં પણ ખરાબ રેન્ક ધરાવતા 4 વિધાર્થીઓ છે..વર્ગમાં અનિતાનો ક્રમ શોધો

(1) 9th

(2) 10th

(3) 18th

(4) 12th

58. છ લોકો E, H, K, M, S અને U કેન્દ્ર તરફ ના વર્તુળ માં બેઠેલા છે..U અને H એ M ના નજીકના પડોશીઓ છે..E એકમાત્ર વ્યક્તિ છે જે K અને S વચ્ચે બેસે છે..H એ S ની તાત્કાલિક જમણી બાજુ છે.U ની તાત્કાલિક જમણી બાજુ કોણ છે?

(1) M (2) E (3) K (4) S

SPACE FOR ROUGH WORK

59. Find out which of the answer figures from the options can be formed using all the pieces given in the problem figure.

Problem figure

(1)

(2)

(3)

(4) 

60. Read the given statements and conclusions carefully assuming that the information given in the statements is true, even if it appears to be at variance with commonly known facts. Decide which of the given conclusion(s) logically follows from the statements.

Statements :

No keyboard is a mouse.

All mouses are computers.

All computers are laptops.

Conclusions :

I. All mouses are laptops.

II. All computers can never be keyboards.

(1) Only conclusion I follows

(2) Only conclusion II follows

(3) Neither conclusion I nor II follows

(4) Both conclusions I and II follow

SPACE FOR ROUGH WORK

59. દાખલા ની આકૃતિમાં આપેલા ટુકડાઓમાંથી વિકલ્પોમાંથી કયા જવાબના આંકડા બનાવી શકાય છે તે શોધો.

દાખલો

(1)

(2)

(3)

(4)

60. આપેલા નિવેદનો અને નિષ્કર્ષને કાળજીપૂર્વક વાંચો, એમ ધારીને કે નિવેદનોમાં આપવામાં આવેલી માહિતી સાચી છે, ભલે તે સામાન્ય રીતે જાણીતા તથ્યો સાથે ભિન્ન હોય, તો નક્કી કરો કે આપેલ તારણોમાંથી કયો તારણ તાર્કિક રીતે નિવેદનોમાંથી અનુસરે છે?

નિવેદન :

કોઇ કીબોર્ડ માઉસ નથી

બધા માઉસ કમ્પ્યુટર્સ છે

બધા કમ્પ્યુટર્સ લેપટોપ છે.

તારણ :

II. બધા માઉસ લેપટોપ છે

II. બધા કમ્પ્યુટર્સ ક્યારેય કીબોર્ડ ન હોઇ શકે

(1) જો I માત્ર જ નિષ્કર્ષ ને અનુશરે છે

(2) જો માત્ર નિષ્કર્ષ II અનુસરે છે

(3) જો ન તો નિષ્કર્ષ I અને II અનુસરે છે

(4) જો બંને નિષ્કર્ષ I અને II અનુસરે છે

SPACE FOR ROUGH WORK

SPACE FOR ROUGH WORK

SPACE FOR ROUGH WORK

Read carefully the following instructions :

8. No candidate will be allowed to leave the OMR Answer Sheet blank. If any OMR Answer Sheet is found blank, it shall be crossed by the Invigilator with his/her signature, mentioning "Cancelled" on it.

9. Do not tear or fold any page of the Test Booklet and OMR Answer Sheet.

10. Candidates are advised to ensure that they fill the correct particulars on the OMR Answer Sheet, i.e., Application No., Roll No., Test Booklet No., Name, Mother's Name, Father's Name and Signature.

11. In case of any discrepancy in any question between English and Hindi/Regional language version, the English version will be considered as the final version for evaluation.

12. Rough work is to be done in the space provided for this purpose in the Test Booklet only.

13. The answers will be evaluated through electronic scanning process. Incomplete or incorrect entries may render the OMR Answer Sheet invalid.

14. Candidates are advised not to fold or make any stray marks on the OMR Answer Sheet. Use of Eraser, Nail, Blade, White Fluid/Whitener, etc., to smudge, scratch or damage in any manner the OMR Answer Sheet during examination is strictly prohibited. Candidature and OMR Answer Sheet of candidates using Eraser, Nail, Blade or White Fluid/Whitener to smudge, scratch or damage in any manner shall be cancelled.

15. There will be one copy of OMR Answer Sheet i.e., the Original Copy. After the examination is over, the candidate shall hand over the OMR Answer Sheet to the Invigilator. The candidate can take away the Test Booklet after the examination is over. If the candidate does not hand over the OMR Answer Sheet to the Invigilator and goes away with the OMR Answer Sheet, his/her candidature shall be cancelled and criminal proceedings shall also be initiated against him/her.

16. Candidates are advised strictly not to carry handkerchief, any mobile phone, any type of watch, belt or wear ornaments like ring, chain, ear-ring, etc., electronic or communication device, pen, pencil, eraser, sharpener and correction fluid to the Examination Centre. If any candidate is found possessing any such item, he/she will not be allowed to enter the examination centre. Possession of a mobile phone or any other aiding material as mentioned above by the candidate in the examination room will be treated as a serious violation and it may lead to cancellation of the candidature and debarring him/her from future examinations.

17. If a candidate violates any instructions or shows any indiscipline or misbehaviour, appropriate action will be taken including cancellation of candidature and debarring from future examinations.

18. Use of electronic/manual calculator is **not** allowed.

નીચેની સૂચનાઓ કાળજીપૂર્વક વાંચો :

8. કોઈપણ ઉમેદવારને OMR આન્સર શીટ ખાલી રાખવાની મંજૂરી આપવામાં આવશે નહીં. જો કોઈ OMR આન્સર શીટ ખાલી જોવા મળે છે. નિરીક્ષક દ્વારા OMR આન્સર શીટ સહી સાથે ક્રોસ કરવામાં આવશે, તેના પર "રદ કરેલ" નો ઉલ્લેખ કરવામાં આવશે.
9. ટેસ્ટ પુસ્તિકા અને OMR આન્સર શીટના કોઈપણ પાનાને ફાડશો નહીં અથવા ફોલ્ડ કરશો નહીં.
10. ઉમેદવારોને સુનિશ્ચિત કરવાની સલાહ આપવામાં આવે છે કે તેઓ OMR આન્સર શીટ, i.e., અરજી નંબર. રોલ નંબર, ટેસ્ટ પુસ્તિકા નંબર, નામ, માતાનું નામ, પિતાનું નામ પર સાચી વિગતો ભરે છે. નામ અને સહી.
11. અંગ્રેજી અને હિન્દી/પ્રાદેશિક ભાષા સંસ્કરણ વચ્ચેના કોઈપણ પ્રશ્નમાં કોઈપણ વિસંગતતાના કિસ્સામાં, અંગ્રેજી સંસ્કરણને મૂલ્યાંકન માટે અંતિમ સંસ્કરણ તરીકે ગણવામાં આવશે.
12. માત્ર ટેસ્ટ પુસ્તિકામાં આ હેતુ માટે આપવામાં આવેલ જગ્યામાં જ રફ વર્ક કરવાનું છે.
13. જવાબોનું મૂલ્યાંકન ઈલેક્ટ્રોનિક સ્કેનિંગ પ્રક્રિયા દ્વારા કરવામાં આવશે. અપૂર્ણ અથવા ખોટી એન્ટ્રીઓ OMR આન્સર શીટને અમાન્ય રેન્ડર કરી શકે છે.
14. ઉમેદવારોને સલાહ આપવામાં આવે છે કે તેઓ OMR આન્સર શીટ પર ફોલ્ડ ન કરે અથવા કોઈ અપ્રિય ગુણ ન બનાવે. ઇરેઝર, નેઇલ, બ્લેડ, સફેદ પ્રવાહી/વ્હાઇટનર વગેરેનો ઉપયોગ પરીક્ષા દરમિયાન OMR આન્સર શીટને કોઈપણ રીતે સ્મજ કરવા, ખંજવાળવા અથવા નુકસાન પહોંચાડવા માટે સખત પ્રતિબંધિત છે. ઇરેઝર, નેઇલ, બ્લેડ અથવા વ્હાઇટ ફ્લુઇડ/વ્હાઇટનરનો ઉપયોગ કરીને કોઇપણ રીતે દાગ, ખંજવાળ અથવા નુકસાન પહોંચાડનાર ઉમેદવારોની ઉમેદવારી અને OMR આન્સર શીટ રદ કરવામાં આવશે.
15. OMR આન્સર શીટ એટલે કે મૂળ નકલની એક નકલ હશે. પરીક્ષા પૂરી થયા પછી, ઉમેદવારે નિરીક્ષકને OMR આન્સર શીટ સોંપવી. પરીક્ષા પૂરી થયા પછી ઉમેદવાર ટેસ્ટ પુસ્તિકા લઈ શકે છે. જો ઉમેદવાર નિરીક્ષકને OMR આન્સર શીટ ન સોંપે અને OMR આન્સર શીટ લઈને જતો રહે, તો તેની/તેણીની ઉમેદવારી રદ કરવામાં આવશે અને તેની સામે ફોજદારી કાર્યવાહી પણ શરૂ કરવામાં આવશે.
16. ઉમેદવારોને સખત સલાહ આપવામાં આવે છે કે તેઓ રૂમાલ, કોઈપણ મોબાઈલ ફોન, કોઈપણ પ્રકારની ઘડિયાળ, પટ્ટો અથવા આભૂષણો જેમ કે વીંટી, સાંકળ, કાનની વીંટી વગેરે, ઈલેક્ટ્રોનિક અથવા કોમ્યુનિકેશન ડિવાઈસ, પેન, પેન્સિલ, ઈરેઝર, શાર્પનર અને સુધારક સાથે ન રાખવા. પરીક્ષા કેન્દ્રમાં પ્રવાહી. જો કોઈ ઉમેદવાર પાસે આવી કોઈ વસ્તુ હોય તો તેને પરીક્ષા કેન્દ્રમાં પ્રવેશવા દેવામાં આવશે નહીં. પરીક્ષા ખંડમાં ઉમેદવાર દ્વારા ઉપર જણાવ્યા મુજબ મોબાઈલ ફોન અથવા અન્ય કોઈપણ સહાયક સામગ્રી રાખવાને ગંભીર ઉલ્લંઘન તરીકે ગણવામાં આવશે અને તેને કારણે ઉમેદવારી રદ થઈ શકે છે અને તેને ભવિષ્યની પરીક્ષાઓમાંથી પ્રતિબંધિત કરી શકાય છે.
17. જો ઉમેદવાર કોઈપણ સૂચનાઓનું ઉલ્લંઘન કરે છે અથવા કોઈપણ અનુશાસન અથવા ગેરવર્તણૂક બતાવે છે, તો ઉમેદવારી રદ કરવા અને ભવિષ્યની પરીક્ષાઓમાંથી દૂર કરવા સહિત યોગ્ય પગલાં લેવામાં આવશે.
18. ઇલેક્ટ્રોનિક/મેન્યુઅલ કેલ્ક્યુલેટરનો ઉપયોગ કરવાની મંજૂરી **નથી.**