**Test Booklet No.**
**परीक्षण पुस्तिका सं.**

**Subject : GENERAL TEST**
**Code : 501 EMR**
**Medium : English and Marathi**

**Test Booklet Code**
**परीक्षण पुस्तिका कोड**

**D**

**(Do not open this Test Booklet until you are asked to do so)**
**(इस परीक्षण पुस्तिका को तब तक न खोलें जब तक आपसे ऐसा करने के लिए न कहा जाए)**

| | | | |
|---|---|---|---|
| *Time Allowed : **60** minutes*<br>*निर्धारित समय : **60** मिनट* | *Maximum Marks : **250***<br>*अधिकतम अंक : **250*** | *Total Questions : **60***<br>*कुल प्रश्न : **60*** | *Number of questions to be answered : **50***<br>*उत्तर दिए जाने वाले प्रश्नों की संख्या : **50*** |

**Kindly read the Instructions given on this Page and Back Page carefully before attempting this Question Paper.**
**या प्रश्नपत्रिकेचा प्रयत्न करण्यापूर्वी कृपया या पृष्ठावर आणि मागील पृष्ठावर दिलेल्या सूचना काळजीपूर्वक वाचा.**

***Important Instructions for the Candidates :***

1. This Test Booklet contains **60** questions printed in English and Marathi. Out of these, the candidate is required to answer any **50** questions. If a candidate answers more than 50 questions, the first 50 answered questions will be considered for evaluation.
2. When you are given the OMR Answer Sheet, fill in your particulars on it carefully with **blue/black** ball point pen only.
3. Use only Blue/Black Ball Point Pen for marking responses.
4. The CODE for this Test Booklet is **D**. Make sure that the CODE printed on the OMR Answer Sheet is the same as that on this Test Booklet. Also ensure that your Test Booklet No. and OMR Answer Sheet No. are exactly the same. In case of discrepancy, the candidate should immediately report the matter to the Invigilator for replacement of both the Test Booklet and the OMR Answer Sheet. No claim in this regard will be entertained after five minutes from the start of the examination.
5. Before attempting the question paper kindly check that this Test Booklet has total **28** pages and OMR Answer Sheet consists of one sheet. At the start of the examination within first five minutes, candidates are advised to ensure that all pages of Test Booklet and OMR Answer Sheet are properly printed and they are not damaged in any manner.
6. Each question has four answer options. Out of these four options choose the **MOST APPROPRIATE OPTION** and darken/blacken the corresponding circle on the OMR Answer Sheet with a Blue/Black Ball Point Pen.
7. Five (5) marks will be given for each correct answer. One (1) mark will be deducted for each incorrect answer. If more than one circle is found darkened/blackened for a question, then it will be considered as an incorrect answer. Unanswered questions will be given no mark.

P.T.O.

***उमेदवारांसाठी महत्त्वाच्या सूचना :***

1. चाचणी पुस्तिकेत इंग्रजी आणि मराठीमध्ये छापलेले **60** प्रश्न आहेत. यापैकी, उमेदवाराला कोणत्याही **50** प्रश्नांची उत्तरे देणे आवश्यक आहे. उमेदवाराने 50 पेक्षा जास्त प्रश्नांची उत्तरे दिल्यास, पहिल्या 50 प्रश्नांची उत्तरे मूल्यमापनासाठी विचारात घेतली जातील.
2. फक्त OMR उत्तरपत्रिकेत **निळ्या/काळ्या** बॉल पॉइंट पेनने तुमचे तपशील काळजीपूर्वक भरा .
3. प्रतिसाद चिन्हांकित करण्यासाठी फक्त निळा/काळा बॉल पॉइंट पेन वापरा.
4. या चाचणी पुस्तिकेचा **कोड D** आहे . OMR उत्तरपत्रिकेवर मुद्रित केलेला CODE या चाचणी पुस्तिकेवरील **कोड** सारखाच असल्याची खात्री करा. तसेच तुमची चाचणी पुस्तिका क्रमांक आणि OMR उत्तरपत्रिका सारखीच असल्याची खात्री करा. विसंगती आढळल्यास, उमेदवाराने चाचणी पुस्तिका आणि OMR उत्तरपत्रिका या दोन्ही बदलण्यासाठी तत्काळ पर्यवेक्षकाकडे प्रकरणाचा अहवाल द्यावा. परीक्षा सुरू झाल्यापासून पाच मिनिटांनंतर यासंदर्भातील कोणताही दावा मान्य केला जाणार नाही.
5. प्रश्नपत्रिकेचा प्रयत्न करण्यापूर्वी कृपया तपासा की या चाचणी पुस्तिकेत एकूण **28** पृष्ठे आहेत आणि OMR उत्तरपत्रिकेत एक पत्रक आहे. परीक्षेच्या सुरूवातीस पहिल्या पाच मिनिटांत, उमेदवारांना चाचणी पुस्तिकेची आणि OMR उत्तरपत्रिकेची सर्व पाने योग्यरित्या छापली गेली आहेत आणि त्यांची कोणत्याही प्रकारे हानी होणार नाही याची खात्री करण्याचा सल्ला दिला जातो.
6. प्रत्येक प्रश्नाला चार पर्याय आहेत. या चार पर्यायांपैकी **सर्वात योग्य पर्याय** निवडा आणि OMR उत्तरपत्रिकेवरील संबंधित वर्तुळ निळ्या/काळ्या बॉल पॉइंट पेनने गडद/काळे करा.
7. प्रत्येक बरोबर उत्तरासाठी पाच (5) गुण दिले जातील. प्रत्येक चुकीच्या उत्तरासाठी एक (1) गुण वजा केला जाईल. एका प्रश्नासाठी एकापेक्षा जास्त वर्तुळ गडद/काळे केलेले आढळल्यास ते चुकीचे उत्तर मानले जाईल. अनुत्तरीत प्रश्नांना मार्क दिले जाणार नाहीत.

कृ.पृ.प.

Name of the Candidate (in Capital Letters) : _____
उमेदवाराचे नाव (कॅपिटल लेटर्समध्ये) :

Application Number (in figures) / अर्ज क्रमांक (आकृतींमध्ये) : _____

Roll Number (in figures) / रोल नंबर (आकृतींमध्ये) : _____

Centre of Examination (in Capital Letters) / परीक्षा केंद्र (कॅपिटल लेटर्समध्ये) : _____

Candidate's Signature : _____ Invigilator's Signature : _____
उमेदवाराची स्वाक्षरी : निरीक्षकांची स्वाक्षरी :

Facsimile signature stamp of Centre Superintendent : _____
केंद्र अधीक्षकांच्या प्रतिकृती स्वाक्षरीचा शिक्का :

**1.** Simplify : $24 \div 4 \times 2 + 8 - 4 = ?$

(1) 1 (2) 7 (3) 16 (4) 56

**2.** The difference of the greatest and the smallest of the fractions $\frac{1}{2}, \frac{8}{11}, \frac{7}{8}, \frac{7}{9}, \frac{5}{6}$ is :

(1) $\frac{3}{8}$ (2) $\frac{6}{7}$ (3) $\frac{7}{9}$ (4) $\frac{1}{3}$

**3.** The sum of LCM and HCF of two numbers is 854. If the LCM is 60 times the HCF and one of the numbers is 70, then the other number is

(1) 160 (2) 164 (3) 168 (4) 172

**4.** The present age of Harish is 8 times the sum of the ages of his two sons at present. After 8 years, his age will be 2 times the sum of the ages of his two sons. The present age of Harish (in years) is :

(1) 31 (2) 32

(3) 33 (4) 34

**5.** In an examination, it is required to get 300 marks to pass. A student gets 225 marks and is declared fail by 10% marks. What are the maximum marks of the examination ?

(1) 700 (2) 750

(3) 800 (4) 850

**6.** In a class of 40 students, ratio of boys and girls is 3 : 2 and the average marks scored by boys is 42 and that by girls is 46. Then the average marks scored by the whole class is :

(1) 43.4 (2) 43.6

(3) 43.8 (4) 44

**7.** The sum of three numbers is 136. If the ratio between the first number and the second number is 2 : 3 and that between the second and the third number is 5 : 3, then the first number is :

(1) 42 (2) 40

(3) 36 (4) 32

---

**SPACE FOR ROUGH WORK**

**1.** सोपे करा : $24 \div 4 \times 2 + 8 - 4 = ?$

(1) 1 (2) 7 (3) 16 (4) 56

**2.** सर्वात मोठ्या आणि सर्वात लहान अपूर्णांकांचा फरक $\frac{1}{2}, \frac{8}{11}, \frac{7}{8}, \frac{7}{9}, \frac{5}{6}$ आहे :

(1) $\frac{3}{8}$ (2) $\frac{6}{7}$ (3) $\frac{7}{9}$ (4) $\frac{1}{3}$

**3.** दोन संख्यांच्या लसावि आणि मसाविची बेरीज 854 आहे. जर लसावि मसावि. च्या 60 पट असेल आणि त्यापैकी एक संख्या 70 असेल, तर दुसरी संख्या कोणती असेल ?

(1) 160 (2) 164 (3) 168 (4) 172

**4.** हरीशचे सध्याचे वय त्याच्या दोन मुलांच्या एकूण वयापेक्षा 8 पट आहे. 8 वर्षांनंतर त्याचे वय त्याच्या दोन मुलांच्या एकूण वयापेक्षा 2 पट असेल. हरीशचे सध्याचे वय (वर्षांमध्ये) किती असेल ?

(1) 31 (2) 32

(3) 33 (4) 34

**5.** एक परीक्षेत उत्तीर्ण होण्यासाठी 300 गुण मिळवणे आवश्यक असते. एका विद्यार्थ्याला 225 गुण मिळतात आणि त्याला 10% गुणांनी नापास घोषित केले जाते. परीक्षेचे कमाल गुण किती असतील ?

(1) 700 (2) 750

(3) 800 (4) 850

**6.** 40 विद्यार्थ्यांच्या वर्गात, मुले आणि मुलींचे गुणोत्तर 3 : 2 आहे आणि मुलांनी मिळवलेले सरासरी गुण 42 आहेत आणि मुलींनी मिळवलेले सरासरी गुण 46 आहेत. तर संपूर्ण वर्गाने मिळवलेले सरासरी गुण किती असतील ?

(1) 43.4 (2) 43.6

(3) 43.8 (4) 44

**7.** तीन संख्यांची बेरीज 136 आहे. जर पहिल्या आणि दुसऱ्या संख्येमधील गुणोत्तर 2 : 3 असेल आणि दुसऱ्या आणि तिसऱ्या संख्येमधील गुणोत्तर 5 : 3 असेल, तर पहिली संख्या किती ?

(1) 42 (2) 40

(3) 36 (4) 32

---

**SPACE FOR ROUGH WORK**

**8.** An item is sold for ₹ 504 after allowing 20% discount and still a profit of 5% has been earned. The marked price is how much more than the cost price ?

(1) ₹ 120 (2) ₹ 135

(3) ₹ 150 (4) ₹ 160

**9.** A certain sum becomes ₹ 2,356 in 3 years and ₹ 2,660 in 5 years on simple interest. The value of sum is :

(1) ₹ 1,800 (2) ₹ 1,880 (3) ₹ 1,900 (4) ₹ 1,980

**10.** In a square, lengths of the diagonals are (4k + 6) cm and (7k – 3) cm. The area of the square (in $cm^2$) is :

(1) 144 (2) 162 (3) 169 (4) 172

**11.** The volume of a cylinder having base radius 3 cm is 396 $cm^3$. Find its curved surface area (in $cm^2$).

(Use $\pi = \frac{22}{7}$)

(1) 280 (2) 301.5 (3) 264 (4) 320.6

**12.** A tap can fill a tank in 6 hours. After half the tank is filled, three more similar taps are opened. What is the total time taken to fill the tank completely ?

(1) 4 hours (2) 5 hours

(3) 3 hours 30 minutes (4) 3 hours 45 minutes

**13.** A train running at the speed of 80 km/h crosses a 350 m long tunnel in 36 seconds. The length of the train (in m) is

(1) 350 (2) 380 (3) 420 (4) 450

**14.** If the mean of 3, 4, 9, 2k, 10, 8, 6 and (k + 6) is 8, and mode of 2, 2, 3, 2p, (2p + 1), 4, 4, 5 and 6 (p is a natural number) is 4, then the value of (k – 2p) is :

(1) 0 (2) 1 (3) 2 (4) 3

**15.** In triangle ABC, points D and E are on AB and AC respectively such that DE is parallel to BC. If AD = 6 cm, DB = 4 cm, AE = 9 cm, then the length of EC (in cm) is

(1) 7 (2) 6.4 (3) 6 (4) 5.5

---

**SPACE FOR ROUGH WORK**

**8.** जर एखादी वस्तू 20% सूट दिल्यानंतरही ₹ 504 विकली गेली आणि तरीही 5% नफा मिळवला गेला असेल. तर छापील किंमत ही मूळ किंमतीच्या पेक्षा किती जास्त असेल ?

(1) ₹ 120 (2) ₹ 135

(3) ₹ 150 (4) ₹ 160

**9.** एक निश्चित रक्कम 3 वर्षांत ₹ 2,356 होईल आणि साद्या व्याजावर 5 वर्षांत ₹ 2,660 होते. तर त्यांची मूळ रक्कम असेल :

(1) ₹ 1,800 (2) ₹ 1,880 (3) ₹ 1,900 (4) ₹ 1,980

**10.** एका चौरसामध्ये, कर्णांची लांबी (4k + 6) cm आणि (7k – 3) cm असते. चौरसाचे क्षेत्रफळ ($cm^2$ मध्ये)किती असेल ?

(1) 144 (2) 162 (3) 169 (4) 172

**11.** आधार त्रिज्या 3 cm असलेल्या दंडगोलाचे (cylinder) आकारमान 396 $cm^3$ आहे. त्याचे वक्र पृष्ठभागाचे क्षेत्रफळ ($cm^2$ मध्ये) शोधा. ($\pi = \frac{22}{7}$ वापरा)

(1) 280 (2) 301.5 (3) 264 (4) 320.6

**12.** एक नळ द्वारे एक टाकी भरायला 6 तास लागतात. अर्धी टाकी भरल्यानंतर अजून तसेच 3 नळ टाकीत उघडले जातात. टाकी पूर्ण भरण्यासाठी एकूण किती वेळ लागणार ?

(1) 4 तास (2) 5 तास

(3) 3 तास 30 मिनिट (4) 3 तास 45 मिनिट

**13.** ताशी 80 km वेगाने धावणारी गाडी 36 सेकंदात 350 m लांबीचा बोगदा पार करते. गाडीची लांबी (मीटरमधे) किती असेल ?

(1) 350 (2) 380 (3) 420 (4) 450

**14.** जर 3, 4, 9, 2k, 10, 8, 6 आणि (k + 6) ची सरासरी 8 असेल, आणि 2, 2, 3, 2p, (2p + 1), 4, 4, 5 आणि 6 (p ही एक नैसर्गिक संख्या आहे) चे बहुलक 4 असेल, तर (k – 2p) ची किंमत किती असेल ?

(1) 0 (2) 1 (3) 2 (4) 3

**15.** त्रिकोन ABC मध्ये, बिंदू D आणि E हे अनुक्रमे AB आणि AC वर अशा प्रकारे आहेत की DE हे BC ला समांतर असते. जर AD = 6 cm, DB = 4 cm, AE = 9 cm, तर EC ची लांबी (cm मध्ये) किती असेल ?

(1) 7 (2) 6.4 (3) 6 (4) 5.5

---

**SPACE FOR ROUGH WORK**

**16.** If $\sin A = \frac{4}{5}$, then $(3 - \tan A)(2 + \cos A) =$

(1) $\frac{12}{5}$ (2) $\frac{13}{3}$ (3) $\frac{13}{5}$ (4) 3

**17.** A man can row a boat at 8 km/h in still water. If the speed of the water current is 2 km/h and it takes him 2 hours to row to a place and come back, then how far off (in km) is the place ?

(1) 7.5 (2) 6 (3) 9.5 (4) 10

**18.** From the given options, which pass connects Jammu with Srinagar ?

(1) Banihal pass (2) Nathu La pass

(3) Niti pass (4) Rohtang pass

**19.** Which of the following is ***not*** correctly matched regarding Padma Awards-2024 ?

(1) Padma Vibhushan Award ⟶ Shri Konidela Chiranjeevi

(2) Padma Shri Award ⟶ Mithun Chakraborty

(3) Padma Bhushan Award ⟶ M. Fathima Beevi

(4) Padma Bhushan Award ⟶ Sitaram Jindal

**20.** Match List-I with List-II :

| **List-I** **Person** | **List-II** **Area of work** |
|---|---|
| (A) Vishakhadatta | (I) Medicine |
| (B) Kartikeya Sarabhai | (II) Poet |
| (C) Charaka | (III) Environmentalist |
| (D) Satyendra Nath Bose | (IV) Mathematics |

Choose the correct answer from the options given below.

(1) (A) - (I), (B) - (III), (C) - (IV), (D) - (II)

(2) (A) - (II), (B) - (III), (C) - (I), (D) - (IV)

(3) (A) - (II), (B) - (I), (C) - (III), (D) - (IV)

(4) (A) - (III), (B) - (IV), (C) - (I), (D) - (II)

**SPACE FOR ROUGH WORK**

**16.** जर $\sin A = \frac{4}{5}$, तर $(3 - \tan A)(2 + \cos A) =$

(1) $\frac{12}{5}$ (2) $\frac{13}{3}$ (3) $\frac{13}{5}$ (4) 3

**17.** एक माणूस स्थिर पाण्यात ताशी 8 km वेगाने नौका चालवू शकतो. जर पाण्याच्या प्रवाहाचा वेग ताशी 2 km असेल आणि त्याला एका ठिकाणी जाण्यासाठी आणि परत येण्यासाठी 2 तास लागतील, तर ती जागा किती दूर (km मध्ये) आहे ?

(1) 7.5 (2) 6 (3) 9.5 (4) 10

**18.** दिलेल्या पर्यायांमधून, जम्मूला श्रीनगरशी जोडणारी कोणती खिंड आहे ?

(1) बनिहाल खिंड (2) नाथू ला खिंड

(3) नीती खिंड (4) रोहतांग खिंड

**19.** पद्म पुरस्कार-2024 संदर्भात खालीलपैकी कोणती विधाने योग्यरित्या जुळलेली ***नाहीत*** ?

(1) पद्म विभूषण पुरस्कार ⟶ श्री कोनिडेला चिरंजीवी

(2) पद्म श्री पुरस्कार ⟶ मिथुन चक्रवर्ती

(3) पद्म भूषण पुरस्कार ⟶ म. फातिमा बीवी

(4) पद्म भूषण पुरस्कार ⟶ सीताराम जिंदल

**20.** पहिल्या यादीसह दुसऱ्या यादीशी योग्य जोड्या जुळवा :

| **यादी-I व्यक्ती** | **यादी-II कामाचे क्षेत्र** |
|---|---|
| (A) विशाखादत्त | (I) औषधोपचार |
| (B) कार्तिकेय साराभाई | (II) कवी |
| (C) चरक | (III) पर्यावरणवादी |
| (D) सत्येंद्र नाथ बोस | (IV) गणित |

खाली दिलेल्या पर्यायांमधून योग्य उत्तर निवडा.

(1) (A) - (I), (B) - (III), (C) - (IV), (D) - (II)

(2) (A) - (II), (B) - (III), (C) - (I), (D) - (IV)

(3) (A) - (II), (B) - (I), (C) - (III), (D) - (IV)

(4) (A) - (III), (B) - (IV), (C) - (I), (D) - (II)

**SPACE FOR ROUGH WORK**

**21.** The following states were formed after 1960. What was the correct sequence of their formation ?

(A) Haryana (B) Sikkim

(C) Nagaland (D) Goa

Choose the correct answer from the options given below.

(1) (C), (B), (A), (D) (2) (C), (A), (B), (D)

(3) (C), (D), (A), (B) (4) (D), (C), (A), (B)

**22.** Out of the given options, which scheme's objective is to conduct an annual survey at the gram panchayat level to monitor the progress in the development process of rural areas ?

(1) Mission Antyodaya (2022-23) (2) Mission Karmayogi (2022-23)

(3) Mission Rashtriya Gokul (2022-23) (4) Mission Atmanirbhar Bharat (2022-23)

**23.** Which one of the following countries is ***not*** a member of the "Quadrilateral Security Dialogue", also known as "QUAD" ?

(1) China (2) Japan

(3) India (4) Australia

**24.** Who has become the first woman chairperson of the Railway Board of Indian Railways in 2023 ?

(1) Jaya Verma Sinha (2) Mita Vashishth

(3) Ravneet Kaur (4) Vasudha Gupta

**25.** Match List-I with List-II :

| **List-I**<br>**Country** | **List-II**<br>**Currency** |
|---|---|
| (A) Myanmar | (I) Ruble |
| (B) Russia | (II) Ngultrum |
| (C) Malaysia | (III) Kyat |
| (D) Bhutan | (IV) Ringgit |

Choose the correct answer from the options given below.

(1) (A) - (III), (B) - (I), (C) - (II), (D) - (IV)

(2) (A) - (III), (B) - (I), (C) - (IV), (D) - (II)

(3) (A) - (IV), (B) - (I), (C) - (III), (D) - (II)

(4) (A) - (II), (B) - (I), (C) - (IV), (D) - (III)

**SPACE FOR ROUGH WORK**

**21.** 1960 नंतर खालील राज्यांची निर्मिती झाली. त्यांच्या निर्मितीचा स्थापनेप्रमाणे योग्य क्रम कोणता होईल ?

(A) हरियाणा
(B) सिक्कीम
(C) नागालँड
(D) गोवा

खाली दिलेल्या पर्यायांमधून योग्य उत्तर निवडा.

(1) (C), (B), (A), (D)
(2) (C), (A), (B), (D)
(3) (C), (D), (A), (B)
(4) (D), (C), (A), (B)

**22.** दिलेल्या पर्यायांपैकी ग्रामीण भागातील विकास प्रक्रियेतील प्रगतीवर देखरेख ठेवण्यासाठी ग्राम पंचायत स्तरावर वार्षिक सर्वेक्षण करणे हा कोणत्या योजनेचा उद्देश आहे ?

(1) मिशन अंत्योदय (2022-23)
(2) मिशन कर्मयोगी (2022-23)
(3) मिशन राष्ट्रीय गोकुल (2022-23)
(4) मिशन आत्मनिर्भर भारत (2022-23)

**23.** खालीलपैकी कोणता देश ''क्वाड्रिलेटरल सिक्युरिटी डायलॉग'' चा सदस्य ***नाही***, ज्याला ''क्वाड (QUAD)'' असेही म्हणतात ?

(1) चीन
(2) जपान
(3) भारत
(4) ऑस्ट्रेलिया

**24.** 2023 मध्ये भारतीय रेल्वेच्या रेल्वे मंडळाच्या पहिल्या महिला अध्यक्षा कोण बनल्या ?

(1) जया वर्मा सिन्हा
(2) मिता वशिष्ठ
(3) रवनीत कौर
(4) वसुधा गुप्ता

**25.** पहिल्या यादीसह दुसऱ्या यादीशी जुळवून घ्या :

| **यादी-I देश** | **यादी-II चलन** |
|---|---|
| (A) म्यानमार | (I) रुबल |
| (B) रशिया | (II) नगुलट्रम |
| (C) मलेशिया | (III) क्यात |
| (D) भूतान | (IV) रिंगिट |

खाली दिलेल्या पर्यायांमधून योग्य उत्तर निवडा.

(1) (A) - (III), (B) - (I), (C) - (II), (D) - (IV)
(2) (A) - (III), (B) - (I), (C) - (IV), (D) - (II)
(3) (A) - (IV), (B) - (I), (C) - (III), (D) - (II)
(4) (A) - (II), (B) - (I), (C) - (IV), (D) - (III)

**SPACE FOR ROUGH WORK**

**26.** "Jhulaghat Suspension Bridge" between India and which country has become fully operational now ?

(1) Bhutan (2) Nepal

(3) China (4) Myanmar

**27.** Due to ocean acidification when the ocean becomes more acidic, what happens to the pH level of the ocean ?

(1) The pH level goes down.

(2) The pH level stays the same.

(3) The pH level goes up.

(4) The pH level becomes zero.

**28.** Who is the first para-athlete to receive the Padma Bhushan award in India ?

(1) Bhavina Patel

(2) Devendra Jhajharia

(3) Avani Lekhara

(4) Mariyappan Thangavelu

**29.** Zemu Glacier is located in which state of India ?

(1) Uttarakhand (2) Himachal Pradesh

(3) Sikkim (4) Arunachal Pradesh

**30.** Who among the following is Chile's first woman President ?

(1) Mary Robinson

(2) Michelle Bachelet

(3) Kim Campbell

(4) Jennifer Shipley

**31.** Which organisation developed and launched 'Ugram' Indigenous Assault Rifle for the armed forces ?

(1) ISRO (2) BEL

(3) HAL (4) DRDO

**32.** Which of the following substances is a bad conductor of electricity ?

(1) Diamond (2) Gold (3) Silver (4) Graphite

---

**SPACE FOR ROUGH WORK**

**26.** भारत आणि कोणता देशाच्या मध्य ''झूलाघाट झुलता पूल'' आता पूर्णपणे कार्यान्वित झाला आहे ?

(1) भूतान (2) नेपाळ

(3) चीन (4) म्यानमार

**27.** महासागराच्या आम्लीकरणामुळे जेव्हा महासागर अधिक अम्लीय होतो, तेव्हा महासागराच्या पी.एच. पातळीचे काय होते ?

(1) पी.एच. पातळी कमी होते.

(2) पी.एच. पातळी समान राहते.

(3) पी.एच. पातळी वाढते.

(4) पी.एच. पातळी शून्य होते.

**28.** पद्म भूषण पुरस्कार मिळवणारा भारतातील पहिला पॅरा-खेळाडू (Para-athlete) कोण आहे ?

(1) भाविना पटेल

(2) देवेंद्र झाझरिया

(3) अवनी लेखरा

(4) मरियप्पन थंगावेलू

**29.** झेमू हिमनदी भारताच्या कोणत्या राज्यात आहे ?

(1) उत्तराखंड (2) हिमाचल प्रदेश

(3) सिक्कीम (4) अरुणाचल प्रदेश

**30.** खालीलपैकी चिलीच्या पहिल्या महिला राष्ट्रपती कोण आहेत ?

(1) मेरी रॉबिन्सन

(2) मिशेल बैचेलेट

(3) किम कॅम्पबेल

(4) जेनिफर शिपले

**31.** भारतीय लष्करासाठी 'उग्रम' स्वदेशी असॉल्ट रायफल कोणी विकसित केली ?

(1) आय.एस.आर.ओ. (ISRO) (2) बी.ई.एल. (BEL)

(3) एच.ए.एल. (HAL) (4) डी.आर.डी.ओ. (DRDO)

**32.** खालीलपैकी कोणता पदार्थ वीज वाहक नाही ?

(1) हिरा (2) सोने (3) चांदी (4) ग्रॅफाईट

---

**SPACE FOR ROUGH WORK**

**33.** Which of the following disease is caused due to the deficiency of proteins ?

(1) Arthritis
(2) Kwashiorkor
(3) Goitre
(4) Night Blindness

**34.** Match List-I with List-II :

| **List-I** **Navy (Institution)** | **List-II** **Place** |
|---|---|
| (A) INS Chilka | (I) Goa |
| (B) INS Hansa | (II) Andhra Pradesh |
| (C) INS Satavahana | (III) Kerala |
| (D) INS Garuda | (IV) Odisha |

Choose the correct answer from the options given below.

(1) (A) - (III), (B) - (I), (C) - (II), (D) - (IV)
(2) (A) - (I), (B) - (IV), (C) - (II), (D) - (III)
(3) (A) - (IV), (B) - (I), (C) - (III), (D) - (II)
(4) (A) - (IV), (B) - (I), (C) - (II), (D) - (III)

**35.** DRDO has conducted the first successful flight test of Agni-5 missile equipped with MIRV technology. What is the full form of MIRV ?

(1) Multiple Independently Targetable Re-Entry Vehicle
(2) Mission India Target Re-Entry Vehicle
(3) Multiple Independently Technology Re-Entry Vehicle
(4) Multiple Indirect Targetable Re-Entry vehicle

**36.** Which Indian has won the "Ramon Magsaysay Award-2023" ?

(1) Korvi Rakshand
(2) Ashwini Kumar
(3) Dipti Ranjan Sahoo
(4) Dr. Ravi Kannan R.

**SPACE FOR ROUGH WORK**

**33.** खालीलपैकी कोणता आजार प्रथिनांच्या कमतरतेमुळे होतो ?

(1) संधिवात
(2) क्वाशिओर्कोर
(3) गॉइटर
(4) रातांधळेपणा

**34.** पहिल्या यादीसह दुसऱ्या यादीशी योग्य जोड्या जुळवा :

| **यादी-I नौदल (संस्था)** | **यादी-II ठिकाण** |
|---|---|
| (A) आय.एन.एस. चिल्का | (I) गोवा |
| (B) आय.एन.एस. हंसा | (II) आंध्र प्रदेश |
| (C) आय.एन.एस. सातवाहन | (III) केरळ |
| (D) आय.एन.एस. गरुड़ | (IV) ओडिशा |

खाली दिलेल्या पर्यायांमधून योग्य उत्तर निवडा.

(1) (A) - (III), (B) - (I), (C) - (II), (D) - (IV)
(2) (A) - (I), (B) - (IV), (C) - (II), (D) - (III)
(3) (A) - (IV), (B) - (I), (C) - (III), (D) - (II)
(4) (A) - (IV), (B) - (I), (C) - (II), (D) - (III)

**35.** DRDO एमआयआरव्ही या तंत्रज्ञानाने सज्ज असलेल्या अग्नी-5 क्षेपणास्त्राची पहिली यशस्वी उड्डाण चाचणी घेण्यात आली आहे. M.I.R.V. (MIRV) चे पूर्ण रूप काय आहे?

(1) मल्टीपल इंडिपेंडेंटली टार्गेटेबल री-एंट्री व्हेईकल
(2) मिशन इंडिया टार्गेट री-एंट्री व्हेईकल
(3) मल्टीपल इंडिपेंडेंटली टैक्नोलोजी री-एंट्री व्हेईकल
(4) मल्टीपल इंडाइरेक्ट टार्गेटेबल री-एंट्री व्हेईकल

**36.** कोणत्या भारतीयाने ''रॅमन मॅगसेसे पुरस्कार-2023'' जिंकला आहे ?

(1) कोरवी रक्षंद
(2) अश्विनी कुमार
(3) दीप्ती रंजन साहू
(4) डॉ. रवी कन्नन आर.

**SPACE FOR ROUGH WORK**

**37.** Who has been appointed the Chairman of the 16th Finance Commission of India ?

(1) Ajay Narayan Jha

(2) Smt. Annie George Mathew

(3) Pradip Kumar Mohanty

(4) Dr. Arvind Panagariya

**38.** Sri Ranganathswamy Temple which is situated in Tamil Nadu, is dedicated to which deity ?

(1) Lord Shiva

(2) Lord Vishnu

(3) Goddess Durga

(4) Goddess Lakshmi

**39.** The Election Commission of India gets the power to conduct elections from which of the following articles ?

(1) Article 324 (2) Article 280

(3) Article 264 (4) Article 26

**40.** Match List-I with List-II :

| **List-I** **Centre of Handicraft** | **List-II** **State** |
|---|---|
| (A) Mon | (I) Arunachal Pradesh |
| (B) Nalbari | (II) Assam |
| (C) Pasighat | (III) Meghalaya |
| (D) Tura | (IV) Nagaland |

Choose the correct answer from the options given below.

(1) (A) - (IV), (B) - (II), (C) - (I), (D) - (III)

(2) (A) - (I), (B) - (III), (C) - (IV), (D) - (II)

(3) (A) - (IV), (B) - (III), (C) - (I), (D) - (II)

(4) (A) - (I), (B) - (II), (C) - (IV), (D) - (III)

**SPACE FOR ROUGH WORK**

**37.** भारताच्या 16 व्या वित्त आयोगाच्या अध्यक्षपदी कोणाची नियुक्ती करण्यात आली आहे ?

(1) अजय नारायण झा

(2) श्रीमती एनी जॉर्ज मॅथ्यू

(3) प्रदीप कुमार मोहंती

(4) डॉ. अरविंद पनगढ़िया

**38.** तमिलनाडू चा श्री रंगनाथस्वामी मंदिर कोणत्या देवाला समर्पित आहे ?

(1) भगवान शिव

(2) भगवान विष्णू

(3) देवी दुर्गा

(4) देवी लक्ष्मी

**39.** भारतीय निवडणूक आयोगाला खालीलपैकी कोणत्या कलमांमधून निवडणुका घेण्याचे अधिकार मिळतात ?

(1) कलम 324 (2) कलम 280

(3) कलम 264 (4) कलम 26

**40.** पहिल्या यादीसह दुसऱ्या यादीशी योग्य जोड्या जुळवा :

| **यादी-I**<br>**हस्तशिल्प केंद्र** | **यादी-II**<br>**राज्य** |
|---|---|
| (A) मोन | (I) अरुणाचल प्रदेश |
| (B) नलबारी | (II) आसाम |
| (C) पासीघाट | (III) मेघालय |
| (D) तुरा | (IV) नागालँड |

खाली दिलेल्या पर्यायांमधून योग्य उत्तर निवडा.

(1) (A) - (IV), (B) - (II), (C) - (I), (D) - (III)

(2) (A) - (I), (B) - (III), (C) - (IV), (D) - (II)

(3) (A) - (IV), (B) - (III), (C) - (I), (D) - (II)

(4) (A) - (I), (B) - (II), (C) - (IV), (D) - (III)

**41.** In which state is ''Amchang Wildlife Sanctuary'' loacted ?

(1) Assam (2) Rajasthan

(3) Odisha (4) Manipur

**42.** India's first 3D-printed Post Office has been inaugurated in :

(1) Guwahati (2) Kolkata

(3) Mumbai (4) Bengaluru

**43.** What should come in the place of the question mark (?) in the following alphanumeric series ?

A1X, B4P, E25J, J100F, ?

(1) O289D (2) O225E

(3) Q289D (4) Q225E

**44.** In the given analogy, choose the word which will replace the question mark :

NEGI : MVTR :: SING : ?

(1) TRNS (2) TRNT

(3) FRMT (4) HRMT

**45.** In a certain code language 'ki ru pi' means 'nobody like cruel', 'ki mi cha' means 'king was cruel' and 'ru pi cha' means 'nobody like king'. What is the code for 'was' in the given code language ?

(1) ki (2) mi

(3) cha (4) ru

**46.** Read the following information carefully to choose the best option for the question :

'P % Q' means that 'P is the sister of Q'

'P + Q' means that 'P is the son of Q'

'P × Q' means that 'P is the husband of Q'

'P – Q' means that 'P is the brother of Q'

Which of the following means 'A is the son-in-law of G' ?

(1) A × U + S × G (2) A + S % U × G

(3) A – S + U × G (4) A × U % S + G

---

**SPACE FOR ROUGH WORK**

**41.** ''अमचांग वन्यजीव अभयारण्य'' कोणत्या राज्यात आहे ?

(1) आसाम (2) राजस्थान

(3) ओडिशा (4) मणिपूर

**42.** भारतातील पहिल्या 3D-मुद्रित टपाल कार्यालयाचे उदघाटन येथे करण्यात आले आहे :

(1) गुवाहाटी (2) कोलकाता

(3) मुंबई (4) बंगळुरू

**43.** पुढील अल्फान्यूमेरिक मालिकेमध्ये प्रश्नचिन्ह (?) च्या जागी काय असायला हवे ?

A1X, B4P, E25J, J100F, ?

(1) O289D (2) O225E

(3) Q289D (4) Q225E

**44.** दिलेल्या सादृश्यामध्ये, प्रश्नचिन्हाची जागा घेणारा शब्द निवडा

NEGI : MVTR :: SING : ?

(1) TRNS (2) TRNT

(3) FRMT (4) HRMT

**45.** एका विशिष्ट सांकेतिक भाषेत 'ki ru pi' म्हणजे 'nobody like cruel', 'ki mi cha' म्हणजे 'king was cruel' आणि 'ru pi cha' म्हणजे 'nobody like king'. दिलेल्या सांकेतिक भाषेत 'was' साठी काय संकेत आहे ?

(1) ki (2) mi

(3) cha (4) ru

**46.** प्रश्नासाठी सर्वोत्तम पर्याय निवडण्यासाठी खालील माहिती काळजीपूर्वक वाचा :

'P % Q' म्हणजे 'P ही Q ची बहीण आहे'

'P + Q' म्हणजे 'P हा Q चा मुलगा आहे'

'P × Q' म्हणजे 'P हा Q चा पती आहे'

'P – Q' म्हणजे 'P हा Q चा भाऊ आहे'

खालीलपैकी कोणत्या शब्दाचा अर्थ 'A हा G चा जावई आहे' असा होतो ?

(1) A × U + S × G (2) A + S % U × G

(3) A – S + U × G (4) A × U % S + G

---

**SPACE FOR ROUGH WORK**

**47.** If 26th January, 2020 was a Sunday, then what day of the week was it on 16th March of that year ?

(1) Sunday (2) Monday

(3) Tuesday (4) Wednesday

**48.** What will be the measurement of the angle made by the hour and minute hands of a clock when the time is 'quarter past 3' ?

(1) $6\frac{1}{2}^\circ$ (2) $10^\circ$

(3) $7\frac{1}{2}^\circ$ (4) $8\frac{1}{2}^\circ$

**49.** If in a certain code laguage, 'MERCURY' is coded as 'NGUGZXF', then how will 'ENTANGLE' be coded in the same code language ?

(1) FPXFSMSM (2) FPWESMSM

(3) FPWESNSN (4) FPWFTNSM

**50.** The problem given below consists of a question and two statements numbered I and II. You have to decide whether the data provided in the statements are sufficient to answer the question.

How many sisters does Sunny have ?

I. Sunny is the only son of his parents.

II. Sunny's parents have three children.

(1) Only statement I alone is sufficient to answer the question.

(2) Only statement II alone is sufficient to answer the question.

(3) Statements I and II together are sufficient to answer the question.

(4) Either statement I or II alone is sufficient to answer the question.

**51.** A boy leaves his house. He travels 6 km towards South, then travels 8 km towards West and further travels 9 km towards South. How far and in which direction is he from his house now ?

(1) 13 km, South West

(2) 17 km, South West

(3) 17 km, North West

(4) 13 km, West

**SPACE FOR ROUGH WORK**

**47.** जर 26 जानेवारी, 2020 हा रविवार होता, तर त्या वर्षी 16 मार्च हा आठवड्याचा कोणता दिवस होता ?

(1) रविवार (2) सोमवार

(3) मंगळवार (4) बुधवार

**48.** जेव्हा वेळ '3:15' असेल तेव्हा घड्याळाच्या काट्यानी केलेल्या कोन किती अंशाचा असेल ?

(1) $6\frac{1}{2}^{\circ}$ (2) $10^{\circ}$

(3) $7\frac{1}{2}^{\circ}$ (4) $8\frac{1}{2}^{\circ}$

**49.** जर एखाद्या विशिष्ट कोड भाषेमध्ये, 'MERCURY' ला 'NGUGZXF' म्हणून कोड केले असेल, तर त्याच कोड भाषेत 'ENTANGLE' कसे कोड केले जाईल ?

(1) FPXFSMSM (2) FPWESMSM

(3) FPWESNSN (4) FPWFTNSM

**50.** खाली दिलेल्या समस्येमध्ये एक प्रश्न आणि I आणि II क्रमांकाची दोन विधाने आहे. विधानांमध्ये दिलेली माहिती प्रश्नांची उत्तरे देण्यासाठी पुरेशी आहे की नाही हे तुम्हाला ठरवावे लागेल.

सनीला किती बहिणी आहेत ?

I. सनी आपल्या आई-वडिलांचा एकुलता एक मुलगा आहे.

II. सनीच्या आई-वडिलांना तीन मुले आहेत.

(1) केवळ I हे विधानच प्रश्नाचे उत्तर देण्यासाठी पुरेसे असेल तर.

(2) केवळ II विधानच प्रश्नाचे उत्तर देण्यासाठी पुरेसे असेल तर.

(3) विधान I आणि II एकत्रितपणे प्रश्नाचे उत्तर देण्यासाठी पुरेसे असतील तर.

(4) प्रश्नाचे उत्तर देण्यासाठी एकटे विधान I किंवा II पुरेसे असेल तर.

**51.** एक मुलगा आपले घर सोडतो. तो दक्षिणेकडे 6 km प्रवास करतो, नंतर पश्चिमेकडे 8 km प्रवास करतो आणि पुढे दक्षिणेकडे 9 km प्रवास करतो. त्याच्या घरापासून आता किती लांब (किमी) आणि कोणत्या दिशेला आहे ?

(1) 13 km, नैऋत्य

(2) 17 km, नैऋत्य

(3) 17 km, वायव्य

(4) 13 km, पश्चिम

**SPACE FOR ROUGH WORK**

**52.** Find out which of the answer figures completes the figure matrix :

Problem figure :




(1) 

(2) 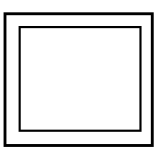

(3) 

(4) 

**53.** A clock seen through a mirror shows 'quarter to seven'. What is the correct time shown by the clock ?

(1) 6:15 (2) 6:17 (3) 5:17 (4) 5:15

**54.** The sequence of folding a piece of paper and the manner in which the folded paper has been cut is shown in the following figures. How would this paper look when unfolded ?

(1) 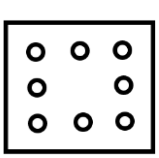

(2) 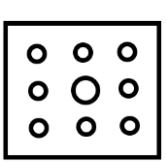

(3) 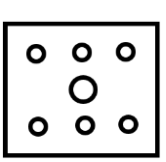

(4) 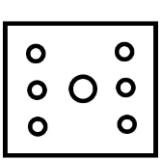

SPACE FOR ROUGH WORK

**52.** उत्तरांच्या आकृतीपैकी कोणती आकृती मॅट्रिक्स पूर्ण करते ते शोधा ?

समस्या आकृती :




(1) 

(2) 

(3) 

(4) 

**53.** आरशातून दिसणारे घड्याळ 6:45 दर्शवते. घड्याळाने दाखवलेली योग्य वेळ कोणती ?

(1) 6:15 वा. (2) 6:17 वा. (3) 5:17 वा. (4) 5:15 वा.

**54.** कागदाचा तुकडा दुमटण्याचा क्रम आणि दुमटलेला कागद कापण्याची पद्धत, खालील आकृत्यामध्ये दर्शविली आहे. उघडल्यावर हा कागद कसा दिसेल ?

(1) 

(2) 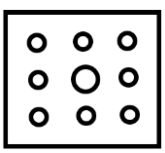

(3) 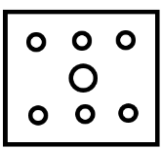

(4) 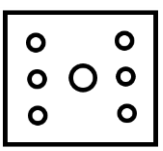

SPACE FOR ROUGH WORK

**55.** Find out the missing (?) number and letter.

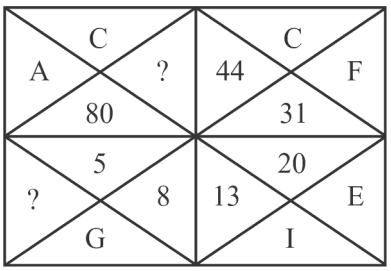


(1) 59 and K

(2) 61 and L

(3) 61 and K

(4) 59 and L

**56.** What will be the next number of the series

3, 6, 10.5, 17, 26, ?

(1) 31

(2) 38

(3) 40

(4) 41

**57.** In a class of 40 students, Anjali's rank is thrice that of Anita. There are 4 students who have ranks worse than that of Anjali. Anita's rank in the class is :

(1) $9^{th}$

(2) $10^{th}$

(3) $18^{th}$

(4) $12^{th}$

**58.** Six people E, H, K, M, S and U are seated in a circle facing the centre. U and H are immediate neighbours of M. E is the only person sitting between K and S. H is to the immediate right of S. Who is to the immediate right of U ?

(1) M (2) E (3) K (4) S

**SPACE FOR ROUGH WORK**

**55.** प्रश्नचिन्हाच्या (?) ठिकाणचे लुप्त अंक आणि अक्षर शोधा.

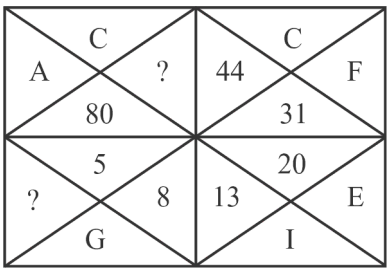


(1) 59 आणि K

(2) 61 आणि L

(3) 61 आणि K

(4) 59 आणि L

**56.** मालिकेची पुढील संख्या किती असेल ?

3, 6, 10.5, 17, 26, ?

(1) 31

(2) 38

(3) 40

(4) 41

**57.** 40 विद्यार्थ्यांच्या वर्गात अंजलीची रँक अनिताच्या तिप्पट आहे. अंजलीपेक्षा वाईट रँक असलेले 4 विद्यार्थी आहेत. वर्गात अनिताची रँक किती असेल ?

(1) 9वी

(2) 10वी

(3) 18वी

(4) 12वी

**58.** E, H, K, M, S आणि U हे सहा लोक मध्यभागी असलेल्या वर्तुळात केंद्राकडे तोंडकरून बसले आहेत. U आणि H हे M चे जवळचे शेजारी आहेत. K आणि S दरम्यान बसलेली एकमेव व्यक्ती E आहे. H हे S च्या अगदी उजवीकडे आहे. तर कोण U च्या अगदी उजवीकडे आहे. ?

(1) M (2) E (3) K (4) S

**SPACE FOR ROUGH WORK**

**59.** Find out which of the answer figures from the options can be formed using all the pieces given in the problem figure.

Problem figure

(1)

(2)

(3)

(4)

**60.** Read the given statements and conclusions carefully assuming that the information given in the statements is true, even if it appears to be at variance with commonly known facts. Decide which of the given conclusion(s) logically follows from the statements.

*Statements :*

No keyboard is a mouse.

All mouses are computers.

All computers are laptops.

*Conclusions :*

I. All mouses are laptops.

II. All computers can never be keyboards.

(1) Only conclusion I follows

(2) Only conclusion II follows

(3) Neither conclusion I nor II follows

(4) Both conclusions I and II follow

**SPACE FOR ROUGH WORK**

**59.** समस्येच्या आकृतीमध्ये दिलेल्या तुकड्यांमधून पर्यायांपैकी कोणते उत्तर तयार केले जाऊ शकते, ते शोधा ?

समस्या आकृती

(1)

(2)

(3)

(4)

**60.** दिलेली विधाने आणि निष्कर्ष काळजीपूर्वक वाचा, विधानांमध्ये दिलेली माहिती खरी आहे. असे गृहीत धरून, जरी ती सामान्यपणे ज्ञात असलेल्या तथ्यांशी भिन्न असल्याचे दिसून येत असले तरी, दिलेल्या निष्कर्षांपैकी कोणता तार्किकदृष्ट्या विधानांचे अनुसरण करतो हे ठरवा ?

*विधान :*

कोणताही कीबोर्ड हा माऊस नसतो.

सर्व माऊस संगणक आहेत.

सर्व संगणक लॅपटॉप आहेत.

*निष्कर्ष असा :*

I. सर्व माऊस हे लॅपटॉप आहेत.

II. सर्व संगणक कधीही कीबोर्ड असू शकत नाहीत.

(1) फक्त निष्कर्ष I चे अनुसरण करतो

(2) केवळ निष्कर्ष II चा अनुसरण करतो

(3) दोन्हीपैकी कोणताही निष्कर्ष I आणि II अनुसरण करत नसेल तर

(4) दोन्ही निष्कर्ष I आणि II अनुसरण करतात

**SPACE FOR ROUGH WORK**

## SPACE FOR ROUGH WORK

## SPACE FOR ROUGH WORK

***Read carefully the following instructions :***

8. No candidate will be allowed to leave the OMR Answer Sheet blank. If any OMR Answer Sheet is found blank, it shall be crossed by the Invigilator with his/her signature, mentioning “Cancelled” on it.

9. Do not tear or fold any page of the Test Booklet and OMR Answer Sheet.

10. Candidates are advised to ensure that they fill the correct particulars on the OMR Answer Sheet, i.e., Application No., Roll No., Test Booklet No., Name, Mother’s Name, Father’s Name and Signature.

11. In case of any discrepancy in any question between English and Hindi/Regional language version, the English version will be considered as the final version for evaluation.

12. Rough work is to be done in the space provided for this purpose in the Test Booklet only.

13. The answers will be evaluated through electronic scanning process. Incomplete or incorrect entries may render the OMR Answer Sheet invalid.

14. Candidates are advised not to fold or make any stray marks on the OMR Answer Sheet. Use of Eraser, Nail, Blade, White Fluid/Whitener, etc., to smudge, scratch or damage in any manner the OMR Answer Sheet during examination is strictly prohibited. Candidature and OMR Answer Sheet of candidates using Eraser, Nail, Blade or White Fluid/Whitener to smudge, scratch or damage in any manner shall be cancelled.

15. There will be one copy of OMR Answer Sheet i.e., the Original Copy. After the examination is over, the candidate shall hand over the OMR Answer Sheet to the Invigilator. The candidate can take away the Test Booklet after the examination is over. If the candidate does not hand over the OMR Answer Sheet to the Invigilator and goes away with the OMR Answer Sheet, his/her candidature shall be cancelled and criminal proceedings shall also be initiated against him/her.

16. Candidates are advised strictly not to carry handkerchief, any mobile phone, any type of watch, belt or wear ornaments like ring, chain, ear-ring, etc., electronic or communication device, pen, pencil, eraser, sharpener and correction fluid to the Examination Centre. If any candidate is found possessing any such item, he/she will not be allowed to enter the examination centre. Possession of a mobile phone or any other aiding material as mentioned above by the candidate in the examination room will be treated as a serious violation and it may lead to cancellation of the candidature and debarring him/her from future examinations.

17. If a candidate violates any instructions or shows any indiscipline or misbehaviour, appropriate action will be taken including cancellation of candidature and debarring from future examinations.

18. Use of electronic/manual calculator is **not** allowed.

***खालील सूचना काळजीपूर्वक वाचा:***

8. कोणत्याही उमेदवाराला OMR उत्तरपत्रिका रिक्त ठेवण्याची परवानगी दिली जाणार नाही . कोणतीही OMR उत्तरपत्रिका कोरी आढळल्यास, ती तपासकाने त्याच्या/तिच्या स्वाक्षरीने ओलांडली जाईल, त्यावर "रद्द" असा उल्लेख केला जाईल.

9. चाचणी पुस्तिका आणि OMR उत्तरपत्रिकेचे कोणतेही पान फाडू नका किंवा दुमडू नका.

10. उमेदवारांनी OMR उत्तरपत्रिकेवर योग्य तपशील भरल्याची खात्री करावी, म्हणजे अर्ज क्रमांक, रोल क्रमांक, चाचणी पुस्तिका क्रमांक, नाव, आईचे नाव, वडिलांचे नाव आणि स्वाक्षरी.

11. इंग्रजी आणि हिंदी/प्रादेशिक भाषेतील आवृत्तीमधील कोणत्याही प्रश्नामध्ये विसंगती आढळल्यास, इंग्रजी आवृत्ती मूल्यमापनासाठी अंतिम आवृत्ती मानली जाईल.

12. केवळ चाचणी पुस्तिकेत या उद्देशासाठी प्रदान केलेल्या जागेत खडबडीत काम करणे आवश्यक आहे.

13. इलेक्ट्रॉनिक स्कॅनिंग प्रक्रियेद्वारे उत्तरांचे मूल्यमापन केले जाईल. अपूर्ण किंवा चुकीच्या नोंदीमुळे OMR उत्तरपत्रिका अवैध ठरू शकते .

14. उमेदवारांना OMR उत्तरपत्रिकेवर दुमडणे किंवा कोणतेही चुकीचे गुण न बनवण्याचा सल्ला दिला जातो . खोडरबर, खिळे, ब्लेड, पांढरा द्रव/व्हाइटनर इत्यादींचा वापर, कोणत्याही प्रकारे ओएमआर उत्तरपत्रिका परीक्षेच्या वेळी डागणे, स्क्रॅच करणे किंवा खराब करणे यासाठी सक्त मनाई आहे. इरेजर, नेल, ब्लेड किंवा व्हाईट फ्लुइड/व्हाइटनरचा वापर करून कोणत्याही प्रकारे डाग, ओरखडे किंवा नुकसान झाल्यास उमेदवारांची उमेदवारी आणि OMR उत्तरपत्रिका रद्द केली जाईल.

15. OMR उत्तरपत्रिकेची एक प्रत असेल , म्हणजे मूळ प्रत. परीक्षा संपल्यानंतर, उमेदवाराने OMR उत्तरपत्रिका पर्यवेक्षकाकडे सोपवावी. परीक्षा संपल्यानंतर उमेदवार चाचणी पुस्तिका काढून घेऊ शकतो. उमेदवाराने OMR उत्तरपत्रिका पर्यवेक्षकाकडे न दिल्यास आणि OMR उत्तरपत्रिका घेऊन निघून गेल्यास, त्याची/तिची उमेदवारी रद्द केली जाईल आणि त्याच्याविरुद्ध फौजदारी कारवाई देखील सुरू केली जाईल.

16. उमेदवारांनी रुमाल, कोणताही मोबाईल फोन, कोणत्याही प्रकारची घड्याळ, बेल्ट किंवा अंगठी, चेन, कानातली अंगठी इत्यादी दागिने, इलेक्ट्रॉनिक किंवा संपर्क साधने, पेन, पेन्सिल, खोडरबर, शार्पनर आणि दुरुस्ती सोबत नेऊ नयेत अशी सक्त सूचना देण्यात आली आहे. परीक्षा केंद्रात द्रव. कोणत्याही उमेदवाराकडे अशी कोणतीही वस्तू आढळून आल्यास, त्याला परीक्षा केंद्रात प्रवेश दिला जाणार नाही. परीक्षा कक्षात उमेदवाराने वर नमूद केल्याप्रमाणे मोबाईल फोन किंवा इतर कोणतेही सहाय्यक साहित्य बाळगणे हे गंभीर उल्लंघन मानले जाईल आणि यामुळे उमेदवारी रद्द केली जाऊ शकते आणि भविष्यातील परीक्षांपासून त्याला/तिला काढून टाकले जाऊ शकते.

17. जर उमेदवाराने कोणत्याही सूचनांचे उल्लंघन केले किंवा कोणतीही अनुशासनहीनता किंवा गैरवर्तणूक दाखवली, तर उमेदवारी रद्द करणे आणि भविष्यातील परीक्षांपासून परावृत्त करणे यासह योग्य कारवाई केली जाईल.

18. इलेक्ट्रॉनिक/मॅन्युअल कॅल्क्युलेटर वापरण्यास परवानगी **नाही** .