Test Booklet No.
టెస్ట్ బుక్‌లెట్ కోడ్

Subject : GENERAL TEST
Code : 501 ETG
Medium : English and Telugu

Test Booklet Code
టెస్ట్ బుక్‌లెట్ నం.

C

(Do not open this Test Booklet until you are asked to do so)

(మిమ్మల్ని అడిగే వరకు ఈ టెస్ట్ బుక్‌లెట్‌ని తెరవకండి)

*Time Allowed : **60** minutes* *అనుమతించబడిన సమయం : **60** నిమిషాలు*	*Maximum Marks : **250*** ***గరిష్ట మార్కులు : 250***	*Total Questions : **60*** ***మొత్తం ప్రశ్నలు : 60***	*Number of questions to be answered : **50*** *సమాధానం ఇవ్వాల్సిన ప్రశ్నల సంఖ్య : **50***

Kindly read the Instructions given on this Page and Back Page carefully before attempting this Question Paper.
ఈ ప్రశ్నాపత్రాన్ని ప్రయత్నించే ముందు దయచేసి ఈ పేజీ మరియు వెనుక పేజీలో ఇవ్వబడిన సూచనలను జాగ్రత్తగా చదవండి.

Important Instructions for the Candidates :

1. This Test Booklet contains **60** questions printed in English and Telugu Out of these, the candidate is required to answer any **50** questions. If a candidate answers more than 50 questions, the first 50 answered questions will be considered for evaluation.
2. When you are given the OMR Answer Sheet, fill in your particulars on it carefully with **blue/black** ball point pen only.
3. Use only Blue/Black Ball Point Pen for marking responses.
4. The CODE for this Test Booklet is **C**. Make sure that the CODE printed on the OMR Answer Sheet is the same as that on this Test Booklet. Also ensure that your Test Booklet No. and OMR Answer Sheet No. are exactly the same. In case of discrepancy, the candidate should immediately report the matter to the Invigilator for replacement of both the Test Booklet and the OMR Answer Sheet. No claim in this regard will be entertained after five minutes from the start of the examination.
5. Before attempting the question paper kindly check that this Test Booklet has total **28** pages and OMR Answer Sheet consists of one sheet. At the start of the examination within first five minutes, candidates are advised to ensure that all pages of Test Booklet and OMR Answer Sheet are properly printed and they are not damaged in any manner.
6. Each question has four answer options. Out of these four options choose the **MOST APPROPRIATE OPTION** and darken/blacken the corresponding circle on the OMR Answer Sheet with a Blue/Black Ball Point Pen.
7. Five (5) marks will be given for each correct answer. One (1) mark will be deducted for each incorrect answer. If more than one circle is found darkened/blackened for a question, then it will be considered as an incorrect answer. Unanswered questions will be given no mark.

P.T.O.

అభ్యర్థులకు ముఖ్యమైన సూచనలు :

1. ఈ టెస్ట్ బుక్‌లెట్‌లో ఇంగ్లీష్ మరియు తెలుగులో ముద్రించిన **60** ప్రశ్నలు ఉన్నాయి. వీటిలో, అభ్యర్థి దేనికైనా **50** ప్రశ్నలకు సమాధానం ఇవ్వాలి. అభ్యర్థి 50 కంటే ఎక్కువ ప్రశ్నలకు సమాధానమిస్తే, మొదటి 50 సమాధానాలు మూల్యాంకనం కోసం పరిగణించబడతాయి.
2. OMR ఆన్సర్ షీట్‌లో **బ్లూ/బ్లాక్** బాల్ పాయింట్ పెన్‌తో మాత్రమే మీ వివరాలను జాగ్రత్తగా పూరించండి.
3. మార్కింగ్ కొరకు బ్లూ/బ్లాక్ బాల్ పాయింట్ పెన్‌ను మాత్రమే ఉపయోగించండి.
4. ఈ టెస్ట్ బుక్‌లెట్ కోడ్ **C**. OMR ఆన్సర్ షీట్‌పై ముద్రించిన కోడ్ ఈ టెస్ట్ బుక్‌లెట్‌లో అదే విధంగా ఉందని నిర్ధారించుకోండి. అలాగే మీ టెస్ట్ బుక్‌లెట్ నెం. మరియు OMR జవాబు పత్రం నం. సరిగ్గా అలాగే ఉంటాయి. వ్యత్యాసం ఉన్నట్లయితే, పరీక్ష బుక్‌లెట్ మరియు OMR జవాబు పత్రం రెండింటినీ మార్చుకొనుటకు అభ్యర్థి వెంటనే ఇన్విజిలేటర్‌కు విషయాన్ని నివేదించాలి. పరీక్ష ప్రారంభమైన ఐదు నిమిషాల తర్వాత దీనికి సంబంధించి ఎలాంటి క్లెయిమ్ స్వీకరించబడదు.
5. ప్రశ్నపత్రాన్ని ప్రయత్నించే ముందు ఈ టెస్ట్ బుక్‌లెట్‌లో మొత్తం **28** పేజీలు ఉన్నాయని మరియు OMR జవాబు పత్రం ఒక షీట్‌ను కలిగి ఉందని దయచేసి తనిఖీ చేయండి. పరీక్ష ప్రారంభమైన మొదటి ఐదు నిమిషాలలో, అభ్యర్థులు పరీక్ష బుక్‌లెట్ మరియు OMR జవాబు పత్రం యొక్క అన్ని పేజీలు సరిగ్గా ముద్రించబడి ఉన్నాయని మరియు అవి ఏ విధంగానూ పాడవకుండా చూసుకోవాలని సూచించ బడినది.
6. ప్రతి ప్రశ్నకు నాలుగు ఎంపికలు ఉంటాయి. ఈ నాలుగు ఎంపికలలో **అత్యంత సముచితమైన ఎంపికను** ఎంచుకుని, OMR జవాబు పత్రంలో సంబంధిత సర్కిల్‌ను బ్లూ/బ్లాక్ బాల్ పాయింట్ పెన్ తో **డార్క్/నలుపు** చేయండి.
7. ప్రతి సరైన సమాధానానికి ఐదు (5) మార్కులు ఇవ్వబడతాయి. ప్రతి తప్పు సమాధానానికి ఒక (1) మార్కు తీసివేయబడుతుంది. ఒక ప్రశ్నకు ఒకటి కంటే ఎక్కువ సర్కిల్‌లు **డార్క్/నలుపు** చేయబడి ఉన్నట్లయితే, అది తప్పు సమాధానంగా పరిగణించబడుతుంది. సమాధానం లేని ప్రశ్నలకు మార్కులు ఇవ్వబడవు.

Name of the Candidate (in Capital Letters) : _____
అభ్యర్థి పేరు (క్యాపిటల్ అక్షరాలలో) :

Application Number (in figures) / దరఖాస్తు సంఖ్య (అంకెలల్లో) : _____

Roll Number (in figures) / రోల్ నంబర్ (అంకెలలో) : _____

Centre of Examination (in Capital Letters) / పరీక్షా కేంద్రం (క్యాపిటల్ అక్షరాలలో) : _____

Candidate's Signature : _____ Invigilator's Signature : _____
అభ్యర్థి సంతకం : ఇన్విజిలేటర్ సంతకం :

Facsimile signature stamp of Centre Superintendent : _____
సెంటర్ సూపరింటెండెంట్ యొక్క ప్రతిరూప (ఫేసిమయిల్) సంతకం స్టాంపు :

1. Simplify : $24 \div 4 \times 2 + 8 - 4 = ?$

(1) 1 (2) 7 (3) 16 (4) 56

2. The difference of the greatest and the smallest of the fractions $\frac{1}{2}, \frac{8}{11}, \frac{7}{8}, \frac{7}{9}, \frac{5}{6}$ is :

(1) $\frac{3}{8}$ (2) $\frac{6}{7}$ (3) $\frac{7}{9}$ (4) $\frac{1}{3}$

3. The sum of LCM and HCF of two numbers is 854. If the LCM is 60 times the HCF and one of the numbers is 70, then the other number is

(1) 160 (2) 164 (3) 168 (4) 172

4. The present age of Harish is 8 times the sum of the ages of his two sons at present. After 8 years, his age will be 2 times the sum of the ages of his two sons. The present age of Harish (in years) is :

(1) 31 (2) 32

(3) 33 (4) 34

5. In an examination, it is required to get 300 marks to pass. A student gets 225 marks and is declared fail by 10% marks. What are the maximum marks of the examination ?

(1) 700 (2) 750

(3) 800 (4) 850

6. In a class of 40 students, ratio of boys and girls is 3 : 2 and the average marks scored by boys is 42 and that by girls is 46. Then the average marks scored by the whole class is :

(1) 43.4 (2) 43.6

(3) 43.8 (4) 44

7. The sum of three numbers is 136. If the ratio between the first number and the second number is 2 : 3 and that between the second and the third number is 5 : 3, then the first number is :

(1) 42 (2) 40

(3) 36 (4) 32

SPACE FOR ROUGH WORK

1. సరళీకృతం చేయండి : $24 \div 4 \times 2 + 8 - 4 = ?$

(1) 1 (2) 7 (3) 16 (4) 56

2. ఇచ్చిన భిన్నాలలో అతి పెద్ద మరియు అతి చిన్న భిన్నాల వ్యత్యాసం కనుగొనండి : $\frac{1}{2}, \frac{8}{11}, \frac{7}{8}, \frac{7}{9}, \frac{5}{6}$

(1) $\frac{3}{8}$ (2) $\frac{6}{7}$ (3) $\frac{7}{9}$ (4) $\frac{1}{3}$

3. రెండు సంఖ్యల LCM మరియు HCF మొత్తం 854. LCM అనేది HCF కు 60 రెట్లు మరియు సంఖ్యలలో ఒకటి 70 అయితే, అప్పుడు ఇతర సంఖ్య ఎంత ?

(1) 160 (2) 164 (3) 168 (4) 172

4. హరీష్ ప్రస్తుత వయస్సు అతని ఇద్దరు కుమారుల ప్రస్తుత వయస్సు మొత్తానికి 8 రెట్లు. 8 సంవత్సరాల తరువాత అతని వయస్సు అతని ఇద్దరు కుమారుల వయస్సు మొత్తానికి 2 రెట్లు ఉంటుంది. హరీష్ ప్రస్తుత వయస్సు (సంవత్సరాలలో)

(1) 31 (2) 32

(3) 33 (4) 34

5. ఒక పరీక్షలో ఉత్తీర్ణత సాధించడానికి 300 మార్కులు సాధించాల్సి ఉండగా, ఒక విద్యార్థి 225 మార్కులు సాధించి, 10 శాతం మార్కులతో ఫెయిల్ అయినా, ఆ పరీక్షలో గరిష్ట మార్కులు ఎన్ని ?

(1) 700 (2) 750

(3) 800 (4) 850

6. 40 మంది విద్యార్థుల తరగతిలో, బాలురు మరియు బాలికల నిష్పత్తి 3 : 2 మరియు బాలురు సాధించిన సగటు మార్కులు 42 మరియు బాలికలు సాధించిన సగటు మార్కులు 46, అప్పుడు మొత్తం తరగతి సాధించిన సగటు మార్కులు ఎన్ని ?

(1) 43.4 (2) 43.6

(3) 43.8 (4) 44

7. మూడు సంఖ్యల మొత్తం 136. మొదటి సంఖ్య మరియు రెండవ సంఖ్య మధ్య నిష్పత్తి 2 : 3 మరియు రెండవ మరియు మూడవ సంఖ్య మధ్య నిష్పత్తి 5 : 3 అయితే, మొదటి సంఖ్య ఎంత ?

(1) 42 (2) 40

(3) 36 (4) 32

SPACE FOR ROUGH WORK

8. An item is sold for ₹ 504 after allowing 20% discount and still a profit of 5% has been earned. The marked price is how much more than the cost price ?

(1) ₹ 120 (2) ₹ 135

(3) ₹ 150 (4) ₹ 160

9. A certain sum becomes ₹ 2,356 in 3 years and ₹ 2,660 in 5 years on simple interest. The value of sum is :

(1) ₹ 1,800 (2) ₹ 1,880 (3) ₹ 1,900 (4) ₹ 1,980

10. In a square, lengths of the diagonals are (4k + 6) cm and (7k – 3) cm. The area of the square (in cm^2) is :

(1) 144 (2) 162 (3) 169 (4) 172

11. The volume of a cylinder having base radius 3 cm is 396 cm^3. Find its curved surface area (in cm^2).

(Use $\pi = \frac{22}{7}$)

(1) 280 (2) 301.5 (3) 264 (4) 320.6

12. A tap can fill a tank in 6 hours. After half the tank is filled, three more similar taps are opened. What is the total time taken to fill the tank completely ?

(1) 4 hours (2) 5 hours

(3) 3 hours 30 minutes (4) 3 hours 45 minutes

13. A train running at the speed of 80 km/h crosses a 350 m long tunnel in 36 seconds. The length of the train (in m) is

(1) 350 (2) 380 (3) 420 (4) 450

14. If the mean of 3, 4, 9, 2k, 10, 8, 6 and (k + 6) is 8, and mode of 2, 2, 3, 2p, (2p + 1), 4, 4, 5 and 6 (p is a natural number) is 4, then the value of (k – 2p) is :

(1) 0 (2) 1 (3) 2 (4) 3

15. In triangle ABC, points D and E are on AB and AC respectively such that DE is parallel to BC. If AD = 6 cm, DB = 4 cm, AE = 9 cm, then the length of EC (in cm) is

(1) 7 (2) 6.4 (3) 6 (4) 5.5

SPACE FOR ROUGH WORK

8. 20 శాతం తగ్గింపును నిర్ణయించిన తర్వాత ఒక వస్తువును 504 రూపాయలకు విక్రయించినప్పటికీ 5 శాతం లాభాన్ని ఆర్జించినట్లయితే, నిర్ణయించిన ధర ఖర్చు ధర కంటే ఎంత ఎక్కువ ?

(1) ₹ 120 (2) ₹ 135 (3) ₹ 150 (4) ₹ 160

9. ఒక నిర్దిష్ట మొత్తం 3 సంవత్సరాలలో రూ. 2,356 మరియు సాధారణ వడ్డీపై 5 సంవత్సరాలలో రూ. 2,660 అవుతుంది. ఆ మొత్తం ఎంతనగా ?

(1) ₹ 1,800 (2) ₹ 1,880 (3) ₹ 1,900 (4) ₹ 1,980

10. ఒక చతురస్రంలో, వికర్ణాల పొడవు (4k + 6) సెం.మీ. మరియు (7k – 3) సెం.మీ. అయిన, చతురస్రం యొక్క వైశాల్యం (cm^2లో) ఎంత ?

(1) 144 (2) 162 (3) 169 (4) 172

11. బేస్ వ్యాసార్థం 3 cm ఉన్న సిలిండర్ యొక్క వాల్యూమ్ 396 cm^3. అయిన, దాని వక్ర ఉపరితల వైశాల్యాన్ని కనుగొనండి (cm^2 లో).($\pi = \frac{22}{7}$ ఉపయోగించండి)

(1) 280 (2) 301.5 (3) 264 (4) 320.6

12. ఒక పైపుతో ఒక ట్యాంకు నింపడానికి 6 గంటల సమయం పడుతుంది. ట్యాంకు సగం నిండిన తరువాత, ఇంకొక మూడు పైపులు తెరవడం జరిగినది. ట్యాంకు మొత్తం నింపుటకు ఎంత సమయం పట్టింది ?

(1) 4 గంటలు (2) 5 గంటలు

(3) 3 గంటలు 30 నిమిషములు (4) 3 గంటలు 45 నిమిషములు

13. గంటకు 80 కిమీ వేగంతో నడిచే రైలు 36 సెకన్లలో 350 మీటర్ల పొడవైన సొరంగాన్ని దాటుతుంది. అయితె రైలు పొడవు (m లో) ఎంత ?

(1) 350 (2) 380 (3) 420 (4) 450

14. 3, 4, 9, 2k, 10, 8, 6 మరియు (k + 6) యొక్క సగటు 8 అయితే, మరియు 2, 2, 3, 2p, (2p + 1), 4, 4, 5 మరియు 6 (p అనేది సహజ సంఖ్య) యొక్క మోడ్ 4 అయితే, అప్పుడు (k – 2p) యొక్క విలువ ఎంత ?

(1) 0 (2) 1 (3) 2 (4) 3

15. త్రిభుజ ABCలో, D మరియు E బిందువులు వరుసగా AB మరియు ACపై ఉంటాయి, అంటే DE అనేది BCకి సమాంతరంగా ఉంటుంది. AD = 6 cm, DB = 4 cm, AE = 9 cm అయితే, అప్పుడు EC పొడవు (సెం. మీ. లో)-

(1) 7 (2) 6.4 (3) 6 (4) 5.5

SPACE FOR ROUGH WORK

16. If $\sin A = \frac{4}{5}$, then $(3 - \tan A)(2 + \cos A) =$

(1) $\frac{12}{5}$ (2) $\frac{13}{3}$ (3) $\frac{13}{5}$ (4) 3

17. A man can row a boat at 8 km/h in still water. If the speed of the water current is 2 km/h and it takes him 2 hours to row to a place and come back, then how far off (in km) is the place ?

(1) 7.5 (2) 6 (3) 9.5 (4) 10

18. From the given options, which pass connects Jammu with Srinagar ?

(1) Banihal pass (2) Nathu La pass

(3) Niti pass (4) Rohtang pass

19. Which of the following is ***not*** correctly matched regarding Padma Awards-2024 ?

(1) Padma Vibhushan Award ⟶ Shri Konidela Chiranjeevi

(2) Padma Shri Award ⟶ Mithun Chakraborty

(3) Padma Bhushan Award ⟶ M. Fathima Beevi

(4) Padma Bhushan Award ⟶ Sitaram Jindal

20. Match List-I with List-II :

List-I **Person**	**List-II** **Area of work**
(A) Vishakhadatta	(I) Medicine
(B) Kartikeya Sarabhai	(II) Poet
(C) Charaka	(III) Environmentalist
(D) Satyendra Nath Bose	(IV) Mathematics

Choose the correct answer from the options given below.

(1) (A) - (I), (B) - (III), (C) - (IV), (D) - (II)

(2) (A) - (II), (B) - (III), (C) - (I), (D) - (IV)

(3) (A) - (II), (B) - (I), (C) - (III), (D) - (IV)

(4) (A) - (III), (B) - (IV), (C) - (I), (D) - (II)

SPACE FOR ROUGH WORK

16. ఒకవేళ $\sin A = \frac{4}{5}$ అయితే, అప్పుడు $(3 - \tan A)(2 + \cos A) = ?$

(1) $\frac{12}{5}$ (2) $\frac{13}{3}$ (3) $\frac{13}{5}$ (4) 3

17. ఒక వ్యక్తి నిశ్చల నీటిలో గంటకు 8 కి. మీ. వేగంతో పడవను నడపగలడు. నీటి ప్రవాహం యొక్క వేగం గంటకు 2 కి.మీ. అయితే, ఒక ప్రదేశానికి వరుసలో వెళ్లి తిరిగి రావడానికి అతనికి 2 గంటలు పడుతుంది, అప్పుడు ఆ ప్రదేశం ఎంత దూరంలో (కి.మీ.లో) ఉంటుంది?

(1) 7.5 (2) 6 (3) 9.5 (4) 10

18. దిగువ ఇవ్వబడిన వాటిలో, ఏ కనుమ జమ్మూని శ్రీనగర్ తో కలుపుతుంది?

(1) బనిహాల్ కనుమ (2) నాథు లా కనుమ (3) నీతి కనుమ (4) రోహ్తాంగ్ కనుమ

19. పద్మ అవార్డులు-2024కి సంబంధించి ఈ క్రింది ప్రకటనలలో ఏది సరిగ్గా సరిపోలడం లేదు?

(1) పద్మ విభూషణ్ అవార్డు → శ్రీ కొణిదెల చిరంజీవి

(2) పద్మశ్రీ అవార్డు → మిథున్ చక్రవర్తి

(3) పద్మభూషణ్ అవార్డు → ఎం.ఫాతిమా బీవీ

(4) పద్మభూషణ్ అవార్డు → సీతారాం జిందాల్

20. జాబితా-I ని జాబితా-II తో సరిపోల్చండి

జాబితా-I **వ్యక్తి**	**జాబితా-II** **పని ఏరియా**
(A) విశాఖ దత్తా	(I) ఔషధం
(B) కార్తికేయ సారాభాయ్	(II) కవి
(C) చరకా	(III) పర్యావరణవేత్త
(D) సత్యేంద్ర నాథ్ బోస్	(IV) గణితం

క్రింద ఇవ్వబడిన ఎంపికల నుండి సరైన జవాబును ఎంచుకోండి :

(1) (A) - (I), (B) - (III), (C) - (IV), (D) - (II)

(2) (A) - (II), (B) - (III), (C) - (I), (D) - (IV)

(3) (A) - (II), (B) - (I), (C) - (III), (D) - (IV)

(4) (A) - (III), (B) - (IV), (C) - (I), (D) - (II)

SPACE FOR ROUGH WORK

21. The following states were formed after 1960. What was the correct sequence of their formation ?

(A) Haryana (B) Sikkim

(C) Nagaland (D) Goa

Choose the correct answer from the options given below.

(1) (C), (B), (A), (D) (2) (C), (A), (B), (D)

(3) (C), (D), (A), (B) (4) (D), (C), (A), (B)

22. Out of the given options, which scheme's objective is to conduct an annual survey at the gram panchayat level to monitor the progress in the development process of rural areas ?

(1) Mission Antyodaya (2022-23) (2) Mission Karmayogi (2022-23)

(3) Mission Rashtriya Gokul (2022-23) (4) Mission Atmanirbhar Bharat (2022-23)

23. Which one of the following countries is ***not*** a member of the "Quadrilateral Security Dialogue", also known as "QUAD" ?

(1) China (2) Japan

(3) India (4) Australia

24. Who has become the first woman chairperson of the Railway Board of Indian Railways in 2023 ?

(1) Jaya Verma Sinha (2) Mita Vashishth

(3) Ravneet Kaur (4) Vasudha Gupta

25. Match List-I with List-II :

List-I **Country**	**List-II** **Currency**
(A) Myanmar	(I) Ruble
(B) Russia	(II) Ngultrum
(C) Malaysia	(III) Kyat
(D) Bhutan	(IV) Ringgit

Choose the correct answer from the options given below.

(1) (A) - (III), (B) - (I), (C) - (II), (D) - (IV)

(2) (A) - (III), (B) - (I), (C) - (IV), (D) - (II)

(3) (A) - (IV), (B) - (I), (C) - (III), (D) - (II)

(4) (A) - (II), (B) - (I), (C) - (IV), (D) - (III)

SPACE FOR ROUGH WORK

21. 1960 తరువాత ఈ క్రింది రాష్ట్రాలు ఏర్పడ్డాయి. వాటి ఏర్పాటుకు సరైన క్రమం ఏమిటి ?

(A) హర్యానా (B) సిక్కిం (C) నాగాలాండ్ (D) గోవా

క్రింద ఇవ్వబడిన ఎంపికల నుండి సరైన జవాబును ఎంచుకోండిః.

(1) (C), (B), (A), (D)
(2) (C), (A), (B), (D)
(3) (C), (D), (A), (B)
(4) (D), (C), (A), (B)

22. ఇచ్చిన ఎంపికలలో గ్రామీణ ప్రాంతాల అభివృద్ధి ప్రక్రియలో పురోగతిని పర్యవేక్షించడానికి గ్రామ పంచాయతీ స్థాయిలో వార్షిక సర్వే నిర్వహించడం ఏ పథకం లక్ష్యం?

(1) మిషన్ అంత్యోదయం (2022-23)
(2) మిషన్ కర్మయోగి (2022-23)
(3) మిషన్ రాష్ట్రీయ గోకుల్ (2022-23)
(4) మిషన్ ఆత్మనిర్భర్ భారత్ (2022-23)

23. " QUAD " అని కూడా పిలువబడే "క్వాడ్రిలేటరల్ సెక్యూరిటీ డైలాగ్" లో సభ్యత్వం లేనిది ఈ క్రింది దేశాలలో ఏది?

(1) చైనా (2) జపాన్ (3) భారత్ (4) ఆస్ట్రేలియా

24. 2023లో "భారతీయ రైల్వే బోర్డు" కు మొదటి మహిళా చైర్పర్సన్ ఎవరు అయ్యారు?

(1) జయ వర్మ సిన్హా
(2) మితా వశిష్ఠ
(3) రవ్నీత్ కౌర్
(4) వసుధా గుప్తా

25. జాబితా-I ని జాబితా-II తో సరిపోల్చండి

జాబితా-I **దేశాలు**	**జాబితా-II** **కరెన్సీ**
(A) మయన్మార్	(I) రూబుల్
(B) రష్యా	(II) నిగుల్ఫరం
(C) మలేషియా	(III) క్యాట్
(D) భూటాన్	(IV) రింగ్గిట్

క్రింద ఇవ్వబడిన ఎంపికల నుండి సరైన జవాబును ఎంచుకోండి :

(1) (A) - (III), (B) - (I), (C) - (II), (D) - (IV)
(2) (A) - (III), (B) - (I), (C) - (IV), (D) - (II)
(3) (A) - (IV), (B) - (I), (C) - (III), (D) - (II)
(4) (A) - (II), (B) - (I), (C) - (IV), (D) - (III)

SPACE FOR ROUGH WORK

26. "Jhulaghat Suspension Bridge" between India and which country has become fully operational now ?

(1) Bhutan (2) Nepal

(3) China (4) Myanmar

27. Due to ocean acidification when the ocean becomes more acidic, what happens to the pH level of the ocean ?

(1) The pH level goes down.

(2) The pH level stays the same.

(3) The pH level goes up.

(4) The pH level becomes zero.

28. Who is the first para-athlete to receive the Padma Bhushan award in India ?

(1) Bhavina Patel

(2) Devendra Jhajharia

(3) Avani Lekhara

(4) Mariyappan Thangavelu

29. Zemu Glacier is located in which state of India ?

(1) Uttarakhand (2) Himachal Pradesh

(3) Sikkim (4) Arunachal Pradesh

30. Who among the following is Chile's first woman President ?

(1) Mary Robinson

(2) Michelle Bachelet

(3) Kim Campbell

(4) Jennifer Shipley

31. Which organisation developed and launched 'Ugram' Indigenous Assault Rifle for the armed forces ?

(1) ISRO (2) BEL

(3) HAL (4) DRDO

32. Which of the following substances is a bad conductor of electricity ?

(1) Diamond (2) Gold (3) Silver (4) Graphite

SPACE FOR ROUGH WORK

26. భారతదేశం మరియు ఏ దేశం మధ్య "ఝూలాఘాట్ సస్పెన్షన్ వంతెన" ఇప్పుడు పూర్తిగా పనిచేస్తోంది?

(1) భూటాన్ (2) నేపాల్

(3) చైనా (4) మయన్మార్

27. సముద్రపు ఆమ్లీకరణ కారణంగా సముద్రం మరింత ఆమ్లంగా మారినప్పుడు, సముద్రం యొక్క పిహెచ్ స్థాయికి ఏమి జరుగుతుంది?

(1) పిహెచ్ స్థాయి తగ్గుతుంది.

(2) పిహెచ్ స్థాయి ఒకే విధంగా ఉంటుంది .

(3) పిహెచ్ స్థాయి పెరుగుతుంది

(4) పిహెచ్ స్థాయి సున్నా అవుతుంది

28. భారతదేశంలో పద్మభూషణ్ అవార్డును అందుకున్న మొదటి పారా అథ్లెట్ ఎవరు?

(1) భావినా పటేల్ (2) దేవేంద్ర జజారియా

(3) అవని లేఖరా (4) మరియప్పన్ తంగవేలు

29. జెము హిమానీనదం భారతదేశంలోని ఏ రాష్ట్రంలో ఉంది??

(1) ఉత్తరాఖండ్ (2) హిమాచల్ ప్రదేశ్

(3) సిక్కిం (4) అరుణాచల్ ప్రదేశ్

30. ఈ క్రింది వారిలో చిలీ మొదటి మహిళా అధ్యక్షురాలు ఎవరు?

(1) మేరీ రాబిన్సన్ (2) మిచెల్ బచెలెట్

(3) కిమ్ కాంప్బెల్ (4) జెన్నిఫర్ షిప్లీ

31. భారత సైన్యానికి 'ఉగ్రం' స్వదేశీ అస్సాల్ట్ రైఫిల్ను ఏ సంస్థ అభివృద్ధి చేసింది మరియు ప్రవేశపెట్టింది ?

(1) ISRO (2) BEL (3) HAL (4) DRDO

32. ఈ క్రింది పదార్థాలలో ఏది విద్యుత్ కి చెడు వాహకం?

(1) డైమండ్ (2) బంగారం (3) వెండి (4) గ్రాఫైట్

SPACE FOR ROUGH WORK

33. Which of the following disease is caused due to the deficiency of proteins ?

(1) Arthritis
(2) Kwashiorkor
(3) Goitre
(4) Night Blindness

34. Match List-I with List-II :

List-I Navy (Institution)	**List-II** Place
(A) INS Chilka	(I) Goa
(B) INS Hansa	(II) Andhra Pradesh
(C) INS Satavahana	(III) Kerala
(D) INS Garuda	(IV) Odisha

Choose the correct answer from the options given below.

(1) (A) - (III), (B) - (I), (C) - (II), (D) - (IV)
(2) (A) - (I), (B) - (IV), (C) - (II), (D) - (III)
(3) (A) - (IV), (B) - (I), (C) - (III), (D) - (II)
(4) (A) - (IV), (B) - (I), (C) - (II), (D) - (III)

35. DRDO has conducted the first successful flight test of Agni-5 missile equipped with MIRV technology. What is the full form of MIRV ?

(1) Multiple Independently Targetable Re-Entry Vehicle
(2) Mission India Target Re-Entry Vehicle
(3) Multiple Independently Technology Re-Entry Vehicle
(4) Multiple Indirect Targetable Re-Entry vehicle

36. Which Indian has won the "Ramon Magsaysay Award-2023" ?

(1) Korvi Rakshand
(2) Ashwini Kumar
(3) Dipti Ranjan Sahoo
(4) Dr. Ravi Kannan R.

SPACE FOR ROUGH WORK

33. ఈ క్రింది వాటిలో ప్రోటీన్ లోపం వల్ల కలిగే వ్యాధి ఏది?

(1) ఆర్థరైటిస్

(2) క్వాషియోర్కర్

(3) గోయిట్రే

(4) రే-చీకటి

34. జాబితా-I ని జాబితా-II తో సరిపోల్చండి

జాబితా-I నౌకాదళం (ఇన్స్టిట్యూట్)	**జాబితా-II స్థలం**
(A) ఐఎన్ఎస్ చిల్కా	(I) గోవా
(B) ఐఎన్ఎస్ హన్సా	(II) ఆంధ్రప్రదేశ్
(C) ఐఎన్ఎస్ శాతవాహన	(III) కేరళ
(D) ఐఎన్ఎస్ గరుడ	(IV) ఒడిశా

క్రింద ఇవ్వబడిన ఎంపికల నుండి సరైన జవాబును ఎంచుకోండి :

(1) (A) - (III), (B) - (I), (C) - (II), (D) - (IV)

(2) (A) - (I), (B) - (IV), (C) - (II), (D) - (III)

(3) (A) - (IV), (B) - (I), (C) - (III), (D) - (II)

(4) (A) - (IV), (B) - (I), (C) - (II), (D) - (III)

35. MIRV టెక్నాలజీ గల అగ్ని-5 క్షిపణిని DRDO మొదటి ప్రయోగంలోనే సఫలంగా పరీక్ష చేసింది. MIRV అనగా నేమి ?

(1) **మల్టిపల్ ఇండిపెండెంట్లీ టార్గెటబుల్ రీ ఎంట్రీ వెహికల్**

(2) **మిషన్ ఇండియా టార్గెట్ రీ ఎంట్రీ వెహికల్**

(3) **మల్టిపల్ ఇండిపెండెంట్లీ టెక్నాలజీ రీ ఎంట్రీ వెహికల్**

(4) **మల్టిపల్ ఇండైరెక్ట్ టార్గెటబుల్ రీ ఎంట్రీ వెహికల్**

36. రామన్ మెగసెసే అవార్డు-2023 ను గెలుచుకున్న భారతీయుడు ఎవరు?

(1) కొర్వి రక్షంద్

(2) అశ్వనీ కుమార్

(3) దీప్తి రంజన్ సాహూ

(4) డా.రవి కన్నన్ ఆర్

SPACE FOR ROUGH WORK

37. Who has been appointed the Chairman of the 16th Finance Commission of India ?

(1) Ajay Narayan Jha

(2) Smt. Annie George Mathew

(3) Pradip Kumar Mohanty

(4) Dr. Arvind Panagariya

38. Sri Ranganathswamy Temple which is situated in Tamil Nadu, is dedicated to which deity ?

(1) Lord Shiva

(2) Lord Vishnu

(3) Goddess Durga

(4) Goddess Lakshmi

39. The Election Commission of India gets the power to conduct elections from which of the following articles ?

(1) Article 324 (2) Article 280

(3) Article 264 (4) Article 26

40. Match List-I with List-II :

List-I **Centre of Handicraft**	**List-II** **State**
(A) Mon	(I) Arunachal Pradesh
(B) Nalbari	(II) Assam
(C) Pasighat	(III) Meghalaya
(D) Tura	(IV) Nagaland

Choose the correct answer from the options given below.

(1) (A) - (IV), (B) - (II), (C) - (I), (D) - (III)

(2) (A) - (I), (B) - (III), (C) - (IV), (D) - (II)

(3) (A) - (IV), (B) - (III), (C) - (I), (D) - (II)

(4) (A) - (I), (B) - (II), (C) - (IV), (D) - (III)

SPACE FOR ROUGH WORK

37. 16వ భారత ఆర్థిక సంఘం ఛైర్మన్గా ఎవరు నియమితులయ్యారు ?

(1) అజయ్ నారాయణ్ ఝా

(2) శ్రీమతి అన్నీ జార్జ్ మాథ్యూ

(3) ప్రదీప్ కుమార్ మొహంతి

(4) డా.అరవింద్ పనగారియా

38. తమిళనాడులో ఉన్న శ్రీ రంగనాథస్వామి ఆలయం ఏ దేవతకు అంకితం చేయబడింది ?

(1) శివుడు

(2) విష్ణువు

(3) దుర్గాదేవి

(4) లక్ష్మీదేవి

39. ఈ క్రింది ఏ ఆర్టికల్ నుండి ఎన్నికలను నిర్వహించే అధికారం భారత ఎన్నికల కమిషన్కు ఉంది?

(1) ఆర్టికల్ 324 (2) ఆర్టికల్ 280

(3) ఆర్టికల్ 264 (4) ఆర్టికల్ 26

40. జాబితా-I ని జాబితా-II తో సరిపోల్చండి

జాబితా-I హస్తకళల కేంద్రం	**జాబితా-II రాష్ట్రం**
(A) మోన్	(I) అరుణాచల్ ప్రదేశ్
(B) నల్బరి	(II) అస్సాం
(C) పాసిఘాట్	(III) మేఘాలయ
(D) తురా	(IV) నాగాలాండ్

క్రింద ఇవ్వబడిన ఎంపికల నుండి సరైన జవాబును ఎంచుకోండి :

(1) (A) - (IV), (B) - (II), (C) - (I), (D) - (III)

(2) (A) - (I), (B) - (III), (C) - (IV), (D) - (II)

(3) (A) - (IV), (B) - (III), (C) - (I), (D) - (II)

(4) (A) - (I), (B) - (II), (C) - (IV), (D) - (III)

41. In which state is ''Amchang Wildlife Sanctuary'' loacted ?

(1) Assam (2) Rajasthan

(3) Odisha (4) Manipur

42. India's first 3D-printed Post Office has been inaugurated in :

(1) Guwahati (2) Kolkata

(3) Mumbai (4) Bengaluru

43. What should come in the place of the question mark (?) in the following alphanumeric series ?

A1X, B4P, E25J, J100F, ?

(1) O289D (2) O225E

(3) Q289D (4) Q225E

44. In the given analogy, choose the word which will replace the question mark :

NEGI : MVTR :: SING : ?

(1) TRNS (2) TRNT

(3) FRMT (4) HRMT

45. In a certain code language 'ki ru pi' means 'nobody like cruel', 'ki mi cha' means 'king was cruel' and 'ru pi cha' means 'nobody like king'. What is the code for 'was' in the given code language ?

(1) ki (2) mi

(3) cha (4) ru

46. Read the following information carefully to choose the best option for the question :

'P % Q' means that 'P is the sister of Q'

'P + Q' means that 'P is the son of Q'

'P × Q' means that 'P is the husband of Q'

'P – Q' means that 'P is the brother of Q'

Which of the following means 'A is the son-in-law of G' ?

(1) A × U + S × G (2) A + S % U × G

(3) A – S + U × G (4) A × U % S + G

SPACE FOR ROUGH WORK

41. "అమ్చాంగ్ వన్యప్రాణుల అభయారణ్యం" ఏ రాష్ట్రంలో ఉంది?

(1) అస్సాం (2) రాజస్థాన్

(3) ఒడిశా (4) మణిపూర్

42. భారతదేశపు మొట్టమొదటి 3డి-ప్రింటెడ్ తపాలా కార్యాలయం ఇక్కడ ప్రారంభించబడిందిః

(1) గౌహతి (2) కోల్కతా

(3) ముంబై (4) బెంగళూరు

43. ఈ క్రింది ఆల్పాన్యూమరిక్ శ్రేణిలో ప్రశ్న గుర్తు (?) స్థానంలో ఏమి రావాలి ?

A1X, B4P, E25J, J100F, ?

(1) O289D (2) O225E

(3) Q289D (4) Q225E

44. ఇవ్వబడిన సారూప్యతలో, ప్రశ్న గుర్తును భర్తీ చేసే పదాన్ని ఎంచుకోండి :

NEGI : MVTR :: SING : ?

(1) TRNS (2) TRNT

(3) FRMT (4) HRMT

45. ఒక నిర్దిష్ట సంకేత భాషలో ' ki ru pi' అంటే ' nobody like cruel', 'ki mi cha' అంటే 'king was cruel' మరియు 'ru pi cha' అంటే 'nobody like king'. ఇచ్చిన కోడ్ లాంగ్వేజ్లో 'was' కోసం కోడ్ ఏమిటి ?

(1) ki (2) mi (3) cha (4) ru

46. ప్రశ్నకు ఉత్తమ ఎంపికను ఎంచుకోవడానికి ఈ క్రింది సమాచారాన్ని జాగ్రత్తగా చదవండి :

'P % Q' అంటే 'P అనేది Q యొక్క సోదరి'

'P + Q' అంటే 'P అనేది Q యొక్క కుమారుడు'

'P × Q' అంటే 'P అనేది Q యొక్క భర్త'

'P – Q' అంటే 'P అనేది Q యొక్క సోదరుడు'.

ఈ క్రింది వాటిలో 'A అనేది G యొక్క అల్లుడు' అంటే ఏమిటి ?

(1) A × U + S × G (2) A + S % U × G

(3) A – S + U × G (4) A × U % S + G

SPACE FOR ROUGH WORK

47. If 26th January, 2020 was a Sunday, then what day of the week was it on 16th March of that year ?

(1) Sunday (2) Monday

(3) Tuesday (4) Wednesday

48. What will be the measurement of the angle made by the hour and minute hands of a clock when the time is 'quarter past 3' ?

(1) $6\frac{1}{2}^\circ$ (2) 10°

(3) $7\frac{1}{2}^\circ$ (4) $8\frac{1}{2}^\circ$

49. If in a certain code laguage, 'MERCURY' is coded as 'NGUGZXF', then how will 'ENTANGLE' be coded in the same code language ?

(1) FPXFSMSM (2) FPWESMSM

(3) FPWESNSN (4) FPWFTNSM

50. The problem given below consists of a question and two statements numbered I and II. You have to decide whether the data provided in the statements are sufficient to answer the question.

How many sisters does Sunny have ?

I. Sunny is the only son of his parents.

II. Sunny's parents have three children.

(1) Only statement I alone is sufficient to answer the question.

(2) Only statement II alone is sufficient to answer the question.

(3) Statements I and II together are sufficient to answer the question.

(4) Either statement I or II alone is sufficient to answer the question.

51. A boy leaves his house. He travels 6 km towards South, then travels 8 km towards West and further travels 9 km towards South. How far and in which direction is he from his house now ?

(1) 13 km, South West

(2) 17 km, South West

(3) 17 km, North West

(4) 13 km, West

SPACE FOR ROUGH WORK

47. 2020 జనవరి 26 ఆదివారం అయితే, ఆ సంవత్సరం మార్చి 16న వారంలో ఏ రోజు ఉండేది ?

(1) ఆదివారం (2) సోమవారం

(3) మంగళవారం (4) బుధవారం

48. సమయం 'మూడు గంటల పావు' అయినప్పుడు గడియారం ముళ్ళులు చేసిన కోణం యొక్క కొలత ఎంత ఉంటుంది?

(1) $6\frac{1}{2}^\circ$ (2) 10° (3) $7\frac{1}{2}^\circ$ (4) $8\frac{1}{2}^\circ$

49. ఒక నిర్దిష్ట కోడ్ లాంగ్వేజ్లో, ' MERCURY' ను 'NGUGZXF' గా కోడ్ చేసినట్లయితే, అదే కోడ్ లాంగ్వేజ్లో 'ENTANGLE' ఎలా కోడ్ చేయబడుతుంది ?

(1) FPXFSMSM (2) FPWESMSM

(3) FPWESNSN (4) FPWFTNSM

50. క్రింద ఇవ్వబడిన సమస్యలో ఒక ప్రశ్న మరియు I మరియు II సంఖ్య గల రెండు ప్రకటనలు ఉంటాయి. ప్రశ్నలకు సమాధానం ఇవ్వడానికి ప్రకటనలో అందించిన డేటా సరిపోతుందా అని మీరు నిర్ణయించుకోవాలి.

సన్నీకి ఎంత మంది సోదరీమణులు ఉన్నారు ?

I. సన్నీ తన తల్లిదండ్రులకు ఏకైక కుమారుడు.

II. సన్నీ తల్లిదండ్రులకు ముగ్గురు పిల్లలు ఉన్నారు.

(1) ప్రశ్నకు సమాధానం ఇవ్వడానికి 'I' అనే ప్రకటన మాత్రమే ఉంటే సరిపోతుంది.

(2) ప్రశ్నకు సమాధానం ఇవ్వడానికి II ప్రకటన మాత్రమే ఉంటే సరిపోతుంది.

(3) ప్రశ్నకు సమాధానం ఇవ్వడానికి I మరియు II అనే ప్రకటనలు కలిసి ఉంటే సరిపోతుంది.

(4) ప్రశ్నకు సమాధానం ఇవ్వడానికి I లేదా II అనే ప్రకటన ఒక్కటే సరిపోతుంది

51. ఒక అబ్బాయి తన ఇంటి నుండి బాయిలదేరాడు. అతను దక్షిణం వైపు 6 కి. మీ. ప్రయాణించి, ఆపై పశ్చిమం వైపు 8 కి. మీ. ప్రయాణించి, దక్షిణం వైపు 9 కి. మీ. ప్రయాణిస్తాడు, అతని ఇంటి నుండి అతను ఇప్పుడు ఎంత దూరం, ఏ దిశలో ఉన్నాడు ?

(1) 13 కి. మీ., దక్షిణ పశ్చిమం (2) 17 కి. మీ., దక్షిణ పశ్చిమం

(3) 17 కి. మీ., ఉత్తర పశ్చిమం (4) 13 కి. మీ., పశ్చిమం

SPACE FOR ROUGH WORK

52. Find out which of the answer figures completes the figure matrix :

Problem figure :



(1) 

(2) 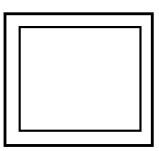

(3) 

(4) 

53. A clock seen through a mirror shows 'quarter to seven'. What is the correct time shown by the clock ?

(1) 6:15 (2) 6:17 (3) 5:17 (4) 5:15

54. The sequence of folding a piece of paper and the manner in which the folded paper has been cut is shown in the following figures. How would this paper look when unfolded ?

(1) 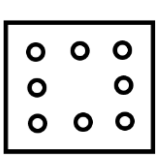

(2) 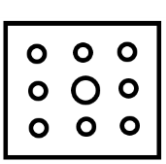

(3) 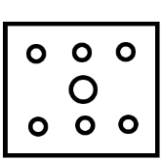

(4) 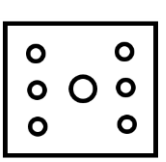

SPACE FOR ROUGH WORK

52. జవాబు సంఖ్యలలో ఏ ఫిగర్ దత్తాంశాన్ని పూర్తి చేస్తుందో తెలుసుకోండి.

సమస్య ఫిగర్ :



(1) 

(2) 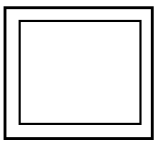

(3) 

(4) 

53. అద్దం ద్వారా చూస్తే గడియారం 'పావు తక్కువ ఏడు' చూపిస్తుంది. గడియారం చూపించిన సరైన సమయం ఏమిటి ?

(1) 6:15 (2) 6:17 (3) 5:17 (4) 5:15

54. ఒక కాగితం ముక్కను మడతపెట్టే క్రమం మరియు మడతపెట్టే కాగితాలను కత్తిరించే విధానం ఈ క్రింది చిత్రాలలో చూపబడింది. తెరచినప్పుడు ఈ కాగితం ఎలా ఉంటుంది ?

(1) 

(2) 

(3) 

(4) 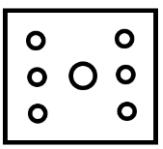

SPACE FOR ROUGH WORK

55. Find out the missing (?) number and letter.

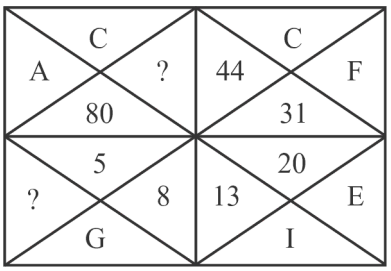

(1) 59 and K

(2) 61 and L

(3) 61 and K

(4) 59 and L

56. What will be the next number of the series

3, 6, 10.5, 17, 26, ?

(1) 31

(2) 38

(3) 40

(4) 41

57. In a class of 40 students, Anjali's rank is thrice that of Anita. There are 4 students who have ranks worse than that of Anjali. Anita's rank in the class is :

(1) 9th

(2) 10th

(3) 18th

(4) 12th

58. Six people E, H, K, M, S and U are seated in a circle facing the centre. U and H are immediate neighbours of M. E is the only person sitting between K and S. H is to the immediate right of S. Who is to the immediate right of U ?

(1) M (2) E (3) K (4) S

SPACE FOR ROUGH WORK

55. తప్పిపోయిన (?) సంఖ్యలు మరియు అక్షరాలను కనుగొనండి

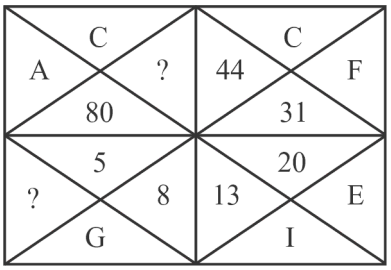

(1) 59 మరియు K

(2) 61 మరియు L

(3) 61 మరియు K

(4) 59 మరియు L

56. తదుపరి సిరీస్ సంఖ్య ఎంత ఉంటుంది?

3, 6, 10.5, 17, 26, ?

(1) 31

(2) 38

(3) 40

(4) 41

57. 40 మంది విద్యార్థులతో కూడిన తరగతిలో అంజలి ర్యాంక్ అనిత ర్యాంక్ కంటే మూడు రెట్లు ఎక్కువ. అంజలి కంటే అధ్వాన్నమైన ర్యాంకులున్న నలుగురు విద్యార్థులు ఉన్నారు. తరగతిలో అనిత ర్యాంక్ ఎంత ?

(1) 9th

(2) 10th

(3) 18th

(4) 12th

58. ఆరుగురు వ్యక్తులు E, H, K, M, S మరియు U మధ్యలో ఉన్న వృత్తంలో కూర్చున్నారు. U మరియు H లు M కి తక్షణ పొరుగువారు. K మరియు S మధ్య కూర్చున్న ఏకైక వ్యక్తి E. H, S యొక్క తక్షణ కుడివైపున ఉన్నాడు. U యొక్క తక్షణ కుడివైపున ఎవరు ఉన్నారు?

(1) M (2) E (3) K (4) S

SPACE FOR ROUGH WORK

59. Find out which of the answer figures from the options can be formed using all the pieces given in the problem figure.

Problem figure

(1)

(2)

(3)

(4)

60. Read the given statements and conclusions carefully assuming that the information given in the statements is true, even if it appears to be at variance with commonly known facts. Decide which of the given conclusion(s) logically follows from the statements.

Statements :

No keyboard is a mouse.

All mouses are computers.

All computers are laptops.

Conclusions :

I. All mouses are laptops.

II. All computers can never be keyboards.

(1) Only conclusion I follows

(2) Only conclusion II follows

(3) Neither conclusion I nor II follows

(4) Both conclusions I and II follow

SPACE FOR ROUGH WORK

59. సమస్య చిత్రంలో ఇచ్చిన భాగాల ఎంపికల నుండి ఏ జవాబు చిత్రాన్ని రూపొందించవచ్చో తెలపండి.

సమస్య చిత్రం

(1)

(2) 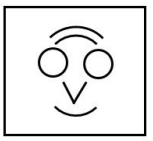

(3)

(4) 

60. ఇచ్చిన ప్రకటనలు మరియు ముగింపును జాగ్రత్తగా చదవండి, ప్రకటనలలో ఇవ్వబడిన సమాచారం నిజం అని భావించి, అది సాధారణంగా తెలిసిన వాస్తవాలకు భిన్నంగా ఉన్నట్లు కనిపించినప్పటికీ, ఇచ్చిన ముగింపులో ఏది ప్రకటనల నుండి తార్కికంగా అనుసరిస్తుందో నిర్ణయించుకోండి?

ప్రకటన:

ఏ కీబోర్డ్ మౌస్ కాదు

అన్ని మౌస్లు కంప్యూటర్లు

అన్ని కంప్యూటర్లు ల్యాప్టాప్లు

తీర్మానం :

I. అన్ని మౌస్ లు ల్యాప్టాప్లు

II. అన్ని కంప్యూటర్లు ఎప్పుడూ కీబోర్డ్ కాకపోవచ్చు

(1) మొదటి తీర్మానాన్ని మాత్రమే అనుసరిస్తే

(2) రెండవ తీర్మానం మాత్రమే అనుసరిస్తే

(3) I మరియు II అనే రెండు తీర్మానాలు అనుసరించకపోతే

(4) ముగింపు I మరియు II రెండూ అనుసరిస్తే

SPACE FOR ROUGH WORK

SPACE FOR ROUGH WORK

SPACE FOR ROUGH WORK

Read carefully the following instructions :

8. No candidate will be allowed to leave the OMR Answer Sheet blank. If any OMR Answer Sheet is found blank, it shall be crossed by the Invigilator with his/her signature, mentioning “Cancelled” on it.

9. Do not tear or fold any page of the Test Booklet and OMR Answer Sheet.

10. Candidates are advised to ensure that they fill the correct particulars on the OMR Answer Sheet, i.e., Application No., Roll No., Test Booklet No., Name, Mother’s Name, Father’s Name and Signature.

11. In case of any discrepancy in any question between English and Hindi/Regional language version, the English version will be considered as the final version for evaluation.

12. Rough work is to be done in the space provided for this purpose in the Test Booklet only.

13. The answers will be evaluated through electronic scanning process. Incomplete or incorrect entries may render the OMR Answer Sheet invalid.

14. Candidates are advised not to fold or make any stray marks on the OMR Answer Sheet. Use of Eraser, Nail, Blade, White Fluid/Whitener, etc., to smudge, scratch or damage in any manner the OMR Answer Sheet during examination is strictly prohibited. Candidature and OMR Answer Sheet of candidates using Eraser, Nail, Blade or White Fluid/Whitener to smudge, scratch or damage in any manner shall be cancelled.

15. There will be one copy of OMR Answer Sheet i.e., the Original Copy. After the examination is over, the candidate shall hand over the OMR Answer Sheet to the Invigilator. The candidate can take away the Test Booklet after the examination is over. If the candidate does not hand over the OMR Answer Sheet to the Invigilator and goes away with the OMR Answer Sheet, his/her candidature shall be cancelled and criminal proceedings shall also be initiated against him/her.

16. Candidates are advised strictly not to carry handkerchief, any mobile phone, any type of watch, belt or wear ornaments like ring, chain, ear-ring, etc., electronic or communication device, pen, pencil, eraser, sharpener and correction fluid to the Examination Centre. If any candidate is found possessing any such item, he/she will not be allowed to enter the examination centre. Possession of a mobile phone or any other aiding material as mentioned above by the candidate in the examination room will be treated as a serious violation and it may lead to cancellation of the candidature and debarring him/her from future examinations.

17. If a candidate violates any instructions or shows any indiscipline or misbehaviour, appropriate action will be taken including cancellation of candidature and debarring from future examinations.

18. Use of electronic/manual calculator is **not** allowed.

కింది సూచనలను జాగ్రత్తగా చదవండి:

8. OMR జవాబు పత్రాన్ని ఖాళీగా ఉంచడానికి అభ్యర్థులెవరూ అనుమతించబడరు. ఏదైనా OMR జవాబు పత్రం ఖాళీగా ఉన్నట్లయితే, దానిపై ఇన్విజిలేటర్ అతని/ఆమె సంతకంతో "రద్దు చేయబడింది" అని పేర్కొనాలి.
9. టెస్ట్ బుక్‌లెట్ మరియు OMR ఆన్సర్ షీట్‌లోని ఏ పేజీని చింపివేయవద్దు లేదా మడవకండి.
10. అభ్యర్థులు OMR ఆన్సర్ షీట్‌లో సరైన వివరాలను పూరించారని, అంటే దరఖాస్తు నంబర్, రోల్ నంబర్, టెస్ట్ బుక్‌లెట్ నంబర్, పేరు, తల్లి పేరు, తండ్రి పేరు మరియు సంతకం ఉండేలా చూసుకోవాలని సూచించబడినది.
11. ఇంగ్లీష్ మరియు హిందీ/ప్రాంతీయ భాషా వెర్షన్ మధ్య ఏదైనా ప్రశ్నలో ఏదైనా వ్యత్యాసం ఉన్నట్లయితే, మూల్యాంకనం కోసం ఆంగ్ల వెర్షన్ చివరి వెర్షన్‌గా పరిగణించబడుతుంది.
12. పరీక్ష బుక్‌లెట్‌లో మాత్రమే దీని కోసం అందించిన స్థలంలో రఫ్ వర్క్ చేయాలి.
13. ఎలక్ట్రానిక్ స్కానింగ్ ప్రక్రియ ద్వారా సమాధానాలు మూల్యాంకనం చేయబడతాయి. అసంపూర్తిగా లేదా తప్పుగా నమోదు చేసినట్లయితే OMR జవాబు పత్రం చెల్లదు.
14. OMR జవాబు పత్రంపై అభ్యర్థులు మడత పెట్టవద్దని లేదా తప్పుగా గుర్తులు వేయవద్దని సూచించబడినది. ఎరేజర్, నెయిల్, బ్లేడ్, వైట్ ఫ్లూయిడ్/వైటనర్ మొదలైనవాటిని ఉపయోగించి, పరీక్ష సమయంలో OMR జవాబు పత్రాన్ని ఏ విధంగానైనా స్మడ్జ్ చేయడానికి, స్క్రాచ్ చేయడానికి లేదా డ్యామేజ్ చేయడానికి ఖచ్చితంగా నిషేధించబడింది. ఎరేజర్, నెయిల్, బ్లేడ్ లేదా వైట్ ఫ్లూయిడ్/వైటనర్ ఉపయోగించి, స్మడ్జ్ చేయడానికి, స్క్రాచ్ చేయడానికి లేదా ఏ విధంగానైనా డ్యామేజ్ చేయడానికి ప్రయత్నిస్తే అభ్యర్థుల అభ్యర్థిత్వం మరియు OMR జవాబు పత్రం రద్దు చేయబడుతుంది.
15. OMR జవాబు పత్రం యొక్క ఒక కాపీ, అంటే ఒరిజినల్ కాపీ మాత్రమే ఉంటుంది. పరీక్ష ముగిసిన తర్వాత, అభ్యర్థి OMR జవాబు పత్రాన్ని ఇన్విజిలేటర్‌కు అందజేయాలి. పరీక్ష ముగిసిన తర్వాత అభ్యర్థి టెస్ట్ బుక్‌లెట్‌ను తీసుకెళ్లవచ్చు. అభ్యర్థి OMR జవాబు పత్రాన్ని ఇన్విజిలేటర్‌కు అందజేయకపోతే మరియు OMR జవాబు పత్రంతో వెళ్లిపోతే, అతని/ఆమె అభ్యర్థిత్వం రద్దు చేయబడుతుంది మరియు అతని/ఆమెపై క్రిమినల్ చర్యలు కూడా ప్రారంభించబడతాయి.
16. అభ్యర్థులు పరీక్షా కేంద్రానికి చేతి రుమాలు, మొబైల్ ఫోన్, ఏ రకమైన వాచ్, బెల్ట్ లేదా రింగ్, చైన్, ఇయర్-రింగ్, మొదలైన ఆభరణాలు, ఎలక్ట్రానిక్ లేదా కమ్యూనికేషన్ పరికరం, పెన్, పెన్సిల్, ఎరేజర్, షార్పనర్ మరియు కరెక్షన్ వంటి వాటిని తీసుకెళ్లకూడదని ఖచ్చితంగా సూచించబడింది. అభ్యర్థి ఎవరైనా అలాంటి వస్తువును కలిగి ఉన్నట్లు తేలితే, అతను/ఆమె పరీక్షా కేంద్రంలోకి ప్రవేశించడానికి అనుమతించబడరు. పరీక్ష గదిలో అభ్యర్థి పైన పేర్కొన్న విధంగా మొబైల్ ఫోన్ లేదా ఏదైనా ఇతర సహాయక సామగ్రిని కలిగి ఉండటం తీవ్రమైన ఉల్లంఘనగా పరిగణించబడుతుంది మరియు అది అభ్యర్థిత్వాన్ని రద్దు చేయడానికి మరియు భవిష్యత్తులో పరీక్షల నుండి అతన్ని/ఆమెను డిబార్ చేయడానికి దారితీయవచ్చు.
17. అభ్యర్థి ఏదైనా సూచనలను ఉల్లంఘిస్తే లేదా ఏదైనా క్రమశిక్షణా రాహిత్యాన్ని లేదా దుష్ప్రవర్తనను ప్రదర్శిస్తే, అభ్యర్థిత్వాన్ని రద్దు చేయడం మరియు భవిష్యత్ పరీక్షల నుండి డిబార్ చేయడంతో సహా తగిన చర్యలు తీసుకోబడతాయి.
18. ఎలక్ట్రానిక్/మాన్యువల్ కాలిక్యులేటర్ వాడకం **అనుమతించబడదు.**