Test Booklet No.
ಪರೀಕ್ಷಾ ಪುಸ್ತಿಕೆ ಸಂಖ್ಯೆ

Subject : GENERAL TEST
Code : 501 EKN
Medium : English and Kannada

Test Booklet Code
ಪರೀಕ್ಷಾ ಪುಸ್ತಿಕೆ ಕೋಡ್

D

(Do not open this Test Booklet until you are asked to do so)

(ನಿಮಗೆ ತೆರೆಯಲು ತಿಳಿಸುವವರೆಗೂ ಈ ಪರೀಕ್ಷಾ ಪುಸ್ತಕವನ್ನು ತೆರೆಯಬೇಡಿ)

*Time Allowed : **60** minutes* *ನೀಡಿರುವ ಸಮಯ : **60** ನಿಮಿಷಗಳು*	*Maximum Marks : **250*** *ಗರಿಷ್ಠ ಅಂಕಗಳು : **250***	*Total Questions : **60*** *ಒಟ್ಟು ಪ್ರಶ್ನೆಗಳು : **60***	*Number of questions to be answered : **50*** *ಉತ್ತರಿಸಬೇಕಾದ ಪ್ರಶ್ನೆಗಳ ಸಂಖ್ಯೆ : **50***

Kindly read the Instructions given on this Page and Back Page carefully before attempting this Question Paper.
ಈ ಪ್ರಶ್ನೆ ಪತ್ರಿಕೆಯನ್ನು ಉತ್ತರಿಸುವ ಮೊದಲು ದಯವಿಟ್ಟು ಈ ಪುಟ ಮತ್ತು ಹಿಂದಿನ ಪುಟದಲ್ಲಿ ನೀಡಲಾದ ಸೂಚನೆಗಳನ್ನು ಎಚ್ಚರಿಕೆಯಿಂದ ಓದಿ.

Important Instructions for the Candidates :

1. This Test Booklet contains **60** questions printed in English and Kannada. Out of these, the candidate is required to answer any **50** questions. If a candidate answers more than 50 questions, the first 50 answered questions will be considered for evaluation.
2. When you are given the OMR Answer Sheet, fill in your particulars on it carefully with **blue/black** ball point pen only.
3. Use only Blue/Black Ball Point Pen for marking responses.
4. The CODE for this Test Booklet is **D**. Make sure that the CODE printed on the OMR Answer Sheet is the same as that on this Test Booklet. Also ensure that your Test Booklet No. and OMR Answer Sheet No. are exactly the same. In case of discrepancy, the candidate should immediately report the matter to the Invigilator for replacement of both the Test Booklet and the OMR Answer Sheet. No claim in this regard will be entertained after five minutes from the start of the examination.
5. Before attempting the question paper kindly check that this Test Booklet has total **28** pages and OMR Answer Sheet consists of one sheet. At the start of the examination within the first five minutes, candidates are advised to ensure that all pages of Test Booklet and OMR Answer Sheet are properly printed and they are not damaged in any manner.
6. Each question has four answer options. Out of these four options choose the **MOST APPROPRIATE OPTION** and darken/blacken the corresponding circle on the OMR Answer Sheet with a Blue/Black Ball Point Pen.
7. Five (5) marks will be given for each correct answer. One (1) mark will be deducted for each incorrect answer. If more than one circle is found darkened/blackened for a question, then it will be considered as an incorrect answer. Unanswered questions will be given no mark.

P.T.O.

ಅಭ್ಯರ್ಥಿಗಳಿಗೆ ಪ್ರಮುಖ ಸೂಚನೆಗಳು :

1. ಈ ಪರೀಕ್ಷಾ ಪುಸ್ತಕವು ಇಂಗ್ಲಿಷ್ ಮತ್ತು ಕನ್ನಡದಲ್ಲಿ ಮುದ್ರಿಸಲಾದ **60** ಪ್ರಶ್ನೆಗಳನ್ನು ಒಳಗೊಂಡಿದೆ. ಇವುಗಳಲ್ಲಿ, ಅಭ್ಯರ್ಥಿಯು ಯಾವುದಾದರೂ **50** ಪ್ರಶ್ನೆಗಳಿಗೆ ಉತ್ತರಿಸಬೇಕಾಗುತ್ತದೆ. ಅಭ್ಯರ್ಥಿಯು 50 ಕ್ಕಿಂತ ಹೆಚ್ಚು ಪ್ರಶ್ನೆಗಳಿಗೆ ಉತ್ತರಿಸಿದರೆ, ಮೊದಲ 50 ಉತ್ತರಿಸಿದ ಪ್ರಶ್ನೆಗಳನ್ನು ಮೌಲ್ಯಮಾಪನಕ್ಕೆ ಪರಿಗಣಿಸಲಾಗುತ್ತದೆ.
2. ನಿಮಗೆ OMR ಉತ್ತರ ಪತ್ರಿಕೆಯನ್ನು ನೀಡಿದಾಗ, ನಿಮ್ಮ ವಿವರಗಳನ್ನು ಎಚ್ಚರಿಕೆಯಿಂದ, **ನೀಲಿ/ಕಪ್ಪು** ಬಾಲ್ ಪಾಯಿಂಟ್ ಪೆನ್ನಿನಿಂದ ಮಾತ್ರ ಭರ್ತಿ ಮಾಡಿ.
3. ಪ್ರತಿಕ್ರಿಯೆಗಳನ್ನು ಗುರುತಿಸಲು ನೀಲಿ/ಕಪ್ಪು ಬಾಲ್ ಪಾಯಿಂಟ್ ಪೆನ್ ಅನ್ನು ಮಾತ್ರ ಬಳಸಿ.
4. ಈ ಪರೀಕ್ಷಾ ಬುಕ್‌ಲೆಟ್‌ನ ಕೋಡ್ **D** ಆಗಿದೆ. OMR ಉತ್ತರ ಪತ್ರಿಕೆಯಲ್ಲಿ ಮುದ್ರಿಸಲಾದ ಕೋಡ್ ಮತ್ತು ಈ ಪರೀಕ್ಷಾ ಬುಕ್‌ಲೆಟ್‌ನಲ್ಲಿರುವ ಕೋಡ್ ಒಂದೇ ಆಗಿರುವುದನ್ನು ಖಚಿತಪಡಿಸಿಕೊಳ್ಳಿ. ನಿಮ್ಮ ಪರೀಕ್ಷಾ ಬುಕ್‌ಲೆಟ್ ಸಂಖ್ಯೆ ಮತ್ತು OMR ಉತ್ತರ ಪತ್ರಿಕೆಯ ಸಂಖ್ಯೆ ಒಂದೇ ಆಗಿರುವುದನ್ನು ಕೂಡಾ ಖಚಿತಪಡಿಸಿಕೊಳ್ಳಿ. ವ್ಯತ್ಯಾಸ ಕಂಡುಬಂದಲ್ಲಿ, ಪರೀಕ್ಷಾ ಬುಕ್‌ಲೆಟ್ ಮತ್ತು OMR ಉತ್ತರ ಪತ್ರಿಕೆ ಎರಡನ್ನೂ ಬದಲಿಸಲು ಅಭ್ಯರ್ಥಿಯು ತಕ್ಷಣವೇ ಇನ್ವಿಜಿಲೇಟರ್‌ಗೆ ವಿಷಯವನ್ನು ವರದಿ ಮಾಡಬೇಕು. ಪರೀಕ್ಷೆ ಪ್ರಾರಂಭವಾದ ಐದು ನಿಮಿಷಗಳ ನಂತರ ಈ ವಿಷಯ ಕುರಿತಂತೆ ಯಾವುದೇ ಬೇಡಿಕೆಯನ್ನು ಪರಿಗಣಿಸಲಾಗುವುದಿಲ್ಲ.
5. ಪ್ರಶ್ನೆ ಪತ್ರಿಕೆಯನ್ನು ಉತ್ತರಿಸಲು ತೊಡಗುವುದಕ್ಕೆ ಮೊದಲು ಈ ಪರೀಕ್ಷಾ ಪುಸ್ತಿಕೆಯು ಒಟ್ಟು **28** ಪುಟಗಳನ್ನು ಹೊಂದಿದೆ ಮತ್ತು OMR ಉತ್ತರ ಪತ್ರಿಕೆಯು ಒಂದು ಹಾಳೆಯನ್ನು ಒಳಗೊಂಡಿದೆ ಎಂಬುದನ್ನು ದಯವಿಟ್ಟು ಪರಿಶೀಲಿಸಿ. ಪರೀಕ್ಷೆಯ ಪ್ರಾರಂಭದ ಮೊದಲ ಐದು ನಿಮಿಷಗಳಲ್ಲಿ, ಪರೀಕ್ಷಾ ಪುಸ್ತಿಕೆ ಮತ್ತು OMR ಉತ್ತರ ಪತ್ರಿಕೆಯ ಎಲ್ಲಾ ಪುಟಗಳನ್ನು ಸರಿಯಾಗಿ ಮುದ್ರಿಸಲಾಗಿದೆ ಮತ್ತು ಅವು ಯಾವುದೇ ರೀತಿಯಲ್ಲಿ ಹಾನಿಗೊಳಗಾಗಿಲ್ಲ ಎಂದು ಖಚಿತಪಡಿಸಿಕೊಳ್ಳಬೇಕೆಂದು ಅಭ್ಯರ್ಥಿಗಳಿಗೆ ಸೂಚಿಸಲಾಗಿದೆ.
6. ಪ್ರತಿ ಪ್ರಶ್ನೆಗೆ ನಾಲ್ಕು ಉತ್ತರ ಆಯ್ಕೆಗಳಿವೆ. ಈ ನಾಲ್ಕರಲ್ಲಿ **ಅತ್ಯಂತ ಹೆಚ್ಚು ಸೂಕ್ತವಾದ ಆಯ್ಕೆಯನ್ನು** ಆರಿಸಿ ಮತ್ತು ನೀಲಿ/ಕಪ್ಪು ಬಾಲ್ ಪಾಯಿಂಟ್ ಪೆನ್ ನಿಂದ OMR ಉತ್ತರ ಪತ್ರಿಕೆಯಲ್ಲಿ ಅನುಗುಣವಾದ ವೃತ್ತವನ್ನು ಗಾಢಗೊಳಿಸಿ/ಕಪ್ಪುಗೊಳಿಸಿ.
7. ಪ್ರತಿ ಸರಿಯಾದ ಉತ್ತರಕ್ಕೆ ಐದು (5) ಅಂಕಗಳನ್ನು ನೀಡಲಾಗುತ್ತದೆ. ಪ್ರತಿ ತಪ್ಪಾದ ಉತ್ತರಕ್ಕೆ ಒಂದು (1) ಅಂಕವನ್ನು ಕಡಿತಗೊಳಿಸಲಾಗುತ್ತದೆ. ಪ್ರಶ್ನೆಗೆ ಒಂದಕ್ಕಿಂತ ಹೆಚ್ಚು ವೃತ್ತಗಳು ಕಪ್ಪಾಗಿರುವುದು ಕಂಡುಬಂದರೆ, ಅದನ್ನು ತಪ್ಪು ಉತ್ತರವೆಂದು ಪರಿಗಣಿಸಲಾಗುತ್ತದೆ. ಉತ್ತರಿಸದ ಪ್ರಶ್ನೆಗಳಿಗೆ ಯಾವುದೇ ಅಂಕ ನೀಡಲಾಗುವುದಿಲ್ಲ.

Name of the Candidate (in Capital Letters) : _____
ಅಭ್ಯರ್ಥಿಯ ಹೆಸರು (ದಪ್ಪಕ್ಷರಗಳಲ್ಲಿ)

Application Number (in figures) : _____
ಅರ್ಜಿ ಸಂಖ್ಯೆ (ಅಂಕಿಗಳಲ್ಲಿ)

Roll Number (in figures) : _____
ಕ್ರಮ ಸಂಖ್ಯೆ (ಸಂಖ್ಯೆಗಳಲ್ಲಿ)

Centre of Examination (in Capital Letters) : _____
ಪರೀಕ್ಷಾ ಕೇಂದ್ರ (ದಪ್ಪಕ್ಷರಗಳಲ್ಲಿ)

Candidate's Signature : _____ Invigilator's Signature : _____
ಅಭ್ಯರ್ಥಿಯ ಸಹಿ ಪರಿವೀಕ್ಷಕರ ಸಹಿ

Facsimile signature stamp of Centre Superintendent : _____
ಕೇಂದ್ರದ ಸೂಪರಿಂಟೆಂಡೆಂಟ್ ಅವರ ಸಹಿಯ ಯಥಾಪ್ರತಿಯ ಮೊಹರು

1. Simplify : $24 \div 4 \times 2 + 8 - 4 = ?$

(1) 1 (2) 7 (3) 16 (4) 56

2. The difference of the greatest and the smallest of the fractions $\frac{1}{2}, \frac{8}{11}, \frac{7}{8}, \frac{7}{9}, \frac{5}{6}$ is :

(1) $\frac{3}{8}$ (2) $\frac{6}{7}$ (3) $\frac{7}{9}$ (4) $\frac{1}{3}$

3. The sum of LCM and HCF of two numbers is 854. If the LCM is 60 times the HCF and one of the numbers is 70, then the other number is

(1) 160 (2) 164 (3) 168 (4) 172

4. The present age of Harish is 8 times the sum of the ages of his two sons at present. After 8 years, his age will be 2 times the sum of the ages of his two sons. The present age of Harish (in years) is :

(1) 31 (2) 32

(3) 33 (4) 34

5. In an examination, it is required to get 300 marks to pass. A student gets 225 marks and is declared fail by 10% marks. What are the maximum marks of the examination ?

(1) 700 (2) 750

(3) 800 (4) 850

6. In a class of 40 students, ratio of boys and girls is 3 : 2 and the average marks scored by boys is 42 and that by girls is 46. Then the average marks scored by the whole class is :

(1) 43.4 (2) 43.6

(3) 43.8 (4) 44

7. The sum of three numbers is 136. If the ratio between the first number and the second number is 2 : 3 and that between the second and the third number is 5 : 3, then the first number is :

(1) 42 (2) 40

(3) 36 (4) 32

SPACE FOR ROUGH WORK

1. ಸರಳಗೊಳಿಸಿ: $24 \div 4 \times 2 + 8 - 4 = ?$

(1) 1 (2) 7 (3) 16 (4) 56

2. ಇದರಲ್ಲಿ ದೊಡ್ಡ ಮತ್ತು ಚಿಕ್ಕ ಭಿನ್ನರಾಶಿಗಳ ವ್ಯತ್ಯಾಸ

$\frac{1}{2}, \frac{8}{11}, \frac{7}{8}, \frac{7}{9}, \frac{5}{6}$

(1) $\frac{3}{8}$ (2) $\frac{6}{7}$ (3) $\frac{7}{9}$ (4) $\frac{1}{3}$

3. ಎರಡು ಸಂಖ್ಯೆಗಳ ಲ.ಸಾ.ಅ ಮತ್ತು ಮ.ಸಾ. ಅ ದ ಮೊತ್ತವು 854 ಆಗಿದೆ..ಲ.ಸಾ.ಅ ವು ಮ.ಸಾ. ಅ ದ 60 ರಷ್ಟಿದೆ ಮತ್ತು ಒಂದು ಸಂಖ್ಯೆಯು 70 ಆಗಿದ್ದರೆ, ಇನ್ನೊಂದು ಸಂಖ್ಯೆಯು

(1) 160 (2) 164 (3) 168 (4) 172

4. ಹರೀಶ್ ಅವರ ಪ್ರಸ್ತುತ ವಯಸ್ಸು ಅವರ ಇಬ್ಬರು ಪುತ್ರರ ಒಟ್ಟು ವಯಸ್ಸಿನ 8 ಪಟ್ಟು ಹೆಚ್ಚಾಗಿದೆ. 8 ವರ್ಷಗಳ ನಂತರ ಅವರ ವಯಸ್ಸು ಅವರ ಇಬ್ಬರು ಪುತ್ರರ ವಯಸ್ಸಿನ ಮೊತ್ತಕ್ಕಿಂತ 2 ಪಟ್ಟು ಹೆಚ್ಚಾಗುತ್ತದೆ. ಹರೀಶ್ ಅವರ ಪ್ರಸ್ತುತ ವಯಸ್ಸು (ವರ್ಷಗಳಲ್ಲಿ)

(1) 31 (2) 32
(3) 33 (4) 34

5. ಒಂದು ಪರೀಕ್ಷೆಯಲ್ಲಿ ಉತ್ತೀರ್ಣರಾಗಲು 300 ಅಂಕಗಳನ್ನು ಪಡೆಯಬೇಕಾಗುತ್ತದೆ. ಒಬ್ಬ ವಿದ್ಯಾರ್ಥಿಯು 225 ಅಂಕಗಳನ್ನು ಪಡೆಯುತ್ತಾನೆ ಮತ್ತು ಶೇಕಡಾ 10ರಷ್ಟು ಅಂಕಗಳಿಂದ ಅವನು ಅನುತ್ತೀರ್ಣನಾಗುತ್ತಾನೆ ಎಂದು ಘೋಷಿಸಲಾಗುತ್ತದೆ.ಪರೀಕ್ಷೆಯ ಗರಿಷ್ಠ ಅಂಕಗಳು ಯಾವುವು ?

(1) 700 (2) 750
(3) 800 (4) 850

6. 40 ವಿದ್ಯಾರ್ಥಿಗಳ ತರಗತಿಯಲ್ಲಿ, ಹುಡುಗರು ಮತ್ತು ಹುಡುಗಿಯರ ಅನುಪಾತವು 3 : 2 ಇದೆ ಮತ್ತು ಹುಡುಗರು ಗಳಿಸಿದ ಸರಾಸರಿ ಅಂಕಗಳು 42 ಮತ್ತು ಹುಡುಗಿಯರು ಗಳಿಸಿದ ಸರಾಸರಿ ಅಂಕಗಳು 46 ಆಗ, ಇಡೀ ತರಗತಿಯು ಗಳಿಸಿದ ಸರಾಸರಿ ಅಂಕಗಳು ಹೀಗಿವೆ

(1) 43.4 (2) 43.6
(3) 43.8 (4) 44

7. ಮೂರು ಸಂಖ್ಯೆಗಳ ಮೊತ್ತ 136 ಆಗಿದೆ. ಮೊದಲ ಸಂಖ್ಯೆ ಮತ್ತು ಎರಡನೇ ಸಂಖ್ಯೆಯ ನಡುವಿನ ಅನುಪಾತವು 2 : 3 ಆಗಿದ್ದರೆ ಮತ್ತು ಎರಡನೇ ಮತ್ತು ಮೂರನೇ ಸಂಖ್ಯೆಯ ನಡುವಿನ ಅನುಪಾತವು 5 : 3 ಆಗಿದ್ದರೆ, ಆಗ ಮೊದಲ ಸಂಖ್ಯೆಯು ಹೀಗಿರುತ್ತದೆ

(1) 42 (2) 40
(3) 36 (4) 32

SPACE FOR ROUGH WORK

8. An item is sold for ₹ 504 after allowing 20% discount and still a profit of 5% has been earned. The marked price is how much more than the cost price ?

(1) ₹ 120 (2) ₹ 135

(3) ₹ 150 (4) ₹ 160

9. A certain sum becomes ₹ 2,356 in 3 years and ₹ 2,660 in 5 years on simple interest. The value of sum is :

(1) ₹ 1,800 (2) ₹ 1,880 (3) ₹ 1,900 (4) ₹ 1,980

10. In a square, lengths of the diagonals are (4k + 6) cm and (7k – 3) cm. The area of the square (in cm^2) is :

(1) 144 (2) 162 (3) 169 (4) 172

11. The volume of a cylinder having base radius 3 cm is 396 cm^3. Find its curved surface area (in cm^2).

(Use $\pi = \frac{22}{7}$)

(1) 280 (2) 301.5 (3) 264 (4) 320.6

12. A tap can fill a tank in 6 hours. After half the tank is filled, three more similar taps are opened. What is the total time taken to fill the tank completely ?

(1) 4 hours (2) 5 hours

(3) 3 hours 30 minutes (4) 3 hours 45 minutes

13. A train running at the speed of 80 km/h crosses a 350 m long tunnel in 36 seconds. The length of the train (in m) is

(1) 350 (2) 380 (3) 420 (4) 450

14. If the mean of 3, 4, 9, 2k, 10, 8, 6 and (k + 6) is 8, and mode of 2, 2, 3, 2p, (2p + 1), 4, 4, 5 and 6 (p is a natural number) is 4, then the value of (k – 2p) is :

(1) 0 (2) 1 (3) 2 (4) 3

15. In triangle ABC, points D and E are on AB and AC respectively such that DE is parallel to BC. If AD = 6 cm, DB = 4 cm, AE = 9 cm, then the length of EC (in cm) is

(1) 7 (2) 6.4 (3) 6 (4) 5.5

SPACE FOR ROUGH WORK

8. ಒಂದು ವಸ್ತುವಿಗೆ ಶೇಕಡ 20ರಷ್ಟು ರಿಯಾಯಿತಿ ನೀಡಿ 504 ರೂಪಾಯಿಗೆ ಮಾರಾಟ ಮಾಡಿದ ನಂತರವೂ, ಶೇ 5ರಷ್ಟು ಲಾಭವನ್ನು ಗಳಿಸಿವುದಾದರೆ .ಗುರುತಿಸಲಾದ ಬೆಲೆ(Marked price) ಕೊಂಡ ಬೆಲೆಗಿಂತ ಎಷ್ಟು ಹೆಚ್ಚಾಗಿರುತ್ತದೆ ?

(1) ರೂ. 120 (2) ರೂ. 135

(3) ರೂ. 150 (4) ರೂ. 160

9. ಒಂದು ಖಚಿತವಾದ ಮೊತ್ತವು 3 ವರ್ಷಗಳಲ್ಲಿ ರೂ. 2,356 ಆಗುತ್ತದೆ ಮತ್ತು ಸರಳ ಬಡ್ಡಿಯಂತೆ 5 ವರ್ಷಗಳಲ್ಲಿ ರೂ. 2,660 ಆಗುತ್ತದೆ. ಆಗ ರಕಮು

(1) ರೂ. 1,800 (2) ರೂ. 1,880 (3) ರೂ. 1,900 (4) ರೂ. 1,980

10. ಒಂದು ಚೌಕದಲ್ಲಿ, ಕರ್ಣಗಳ ಉದ್ದಗಳು $(4k + 6)$ ಸೆಂ. ಮೀ. ಮತ್ತು $(7k - 3)$ ಸೆಂ. ಮೀ. ಆಗಿರುತ್ತವೆ. ಚೌಕದ ವಿಸ್ತೀರ್ಣವು (ಚದರ ಸೆಂ. ಮೀ. ರಲ್ಲಿ)

(1) 144 (2) 162 (3) 169 (4) 172

11. 3 ಸೆಂ. ಮೀ. ಮೂಲ ತ್ರಿಜ್ಯವನ್ನು ಹೊಂದಿರುವ ಕೊಳವೆಯಾಕಾರದ (ಸಿಲಿಂಡರ್‌ನ) ಘನಫಲವು 396 ಘನ ಸೆಂ. ಮೀ. ಆಗಿದೆ. ಅದರ ವಕ್ರ ರೇಖೆ ಮೇಲ್ಮೈ ವಿಸ್ತೀರ್ಣವನ್ನು ಕಂಡು ಹಿಡಿಯಿರಿ (ಚದರ ಸೆಂ. ಮೀ. ರಲ್ಲಿ).

(Use $\pi = \frac{22}{7}$ ಅನ್ನು ಬಳಸಿ)

(1) 280 (2) 301.5 (3) 264 (4) 320.6

12. ಒಂದು ಟ್ಯಾಪ್ 6 ಗಂಟೆಗಳಲ್ಲಿ ಟ್ಯಾಂಕ್ ಅನ್ನು ತುಂಬುತ್ತದೆ. ಅರ್ಧದಷ್ಟು ಟ್ಯಾಂಕ್ ತುಂಬಿದ ನಂತರ, ಇನ್ನೂ ಮೂರು ರೀತಿಯ ಟ್ಯಾಪ್‌ಗಳನ್ನು ತೆರೆಯಲಾಗುತ್ತದೆ. ಟ್ಯಾಂಕ್ ಅನ್ನು ಸಂಪೂರ್ಣವಾಗಿ ತುಂಬಲು ತೆಗೆದುಕೊಂಡ ಒಟ್ಟು ಸಮಯ ಎಷ್ಟು?

(1) 4 ಗಂಟೆ (2) 5 ಗಂಟೆ

(3) 3 ಗಂಟೆ 30 ನಿಮಿಷಗಳು (4) 3 ಗಂಟೆ 45 ನಿಮಿಷಗಳು

13. ಗಂಟೆಗೆ 80 ಕಿ. ಮೀ. ವೇಗದಲ್ಲಿ ಚಲಿಸುವ ರೈಲು 36 ಸೆಕೆಂಡುಗಳಲ್ಲಿ 350 ಮೀಟರ್ ಉದ್ದದ ಸುರಂಗವನ್ನು ದಾಟುತ್ತದೆ. ರೈಲಿನ ಉದ್ದ (ಮೀ ನಲ್ಲಿ)

(1) 350 (2) 380 (3) 420 (4) 450

14. 3, 4, 9, 2k, 10, 8, 6 ಮತ್ತು $(k + 6)$ ಗಳ ಸರಾಸರಿ 8 ಆಗಿದ್ದರೆ, ಮತ್ತು 2, 2, 3, 2p, $(2p + 1)$, 4, 4, 5 ಮತ್ತು 6 (p ಒಂದು ಸ್ವಾಭಾವಿಕ ಸಂಖ್ಯೆ) ಗಳ ರೂಢಿಬೆಲೆ(ಮಾಧ್ಯ) 4 ಆಗಿದ್ದರೆ, $(k - 2p)$ ನ ಬೆಲೆಯು

(1) 0 (2) 1 (3) 2 (4) 3

15. ತ್ರಿಕೋನ ABC ಯಲ್ಲಿ, D ಮತ್ತು E ಬಿಂದುಗಳು ಕ್ರಮವಾಗಿ AB ಮತ್ತು AC ಮೇಲೆ ಇರುತ್ತವೆ, ಅಂದರೆ DE ಯು BC ಗೆ ಸಮಾನಾಂತರವಾಗಿರುತ್ತದೆ. AD = 6 cm, DB = 4 cm, AE = 9 cm ಆಗಿದ್ದರೆ, EC ಯ ಉದ್ದವು (ಸೆಂ. ಮೀ. ನಲ್ಲಿ)

(1) 7 (2) 6.4 (3) 6 (4) 5.5

SPACE FOR ROUGH WORK

16. If $\sin A = \frac{4}{5}$, then $(3 - \tan A)(2 + \cos A) =$

(1) $\frac{12}{5}$ (2) $\frac{13}{3}$ (3) $\frac{13}{5}$ (4) 3

17. A man can row a boat at 8 km/h in still water. If the speed of the water current is 2 km/h and it takes him 2 hours to row to a place and come back, then how far off (in km) is the place ?

(1) 7.5 (2) 6 (3) 9.5 (4) 10

18. From the given options, which pass connects Jammu with Srinagar ?

(1) Banihal pass (2) Nathu La pass

(3) Niti pass (4) Rohtang pass

19. Which of the following is ***not*** correctly matched regarding Padma Awards-2024 ?

(1) Padma Vibhushan Award ⟶ Shri Konidela Chiranjeevi

(2) Padma Shri Award ⟶ Mithun Chakraborty

(3) Padma Bhushan Award ⟶ M. Fathima Beevi

(4) Padma Bhushan Award ⟶ Sitaram Jindal

20. Match List-I with List-II :

List-I **Person**	**List-II** **Area of work**
(A) Vishakhadatta	(I) Medicine
(B) Kartikeya Sarabhai	(II) Poet
(C) Charaka	(III) Environmentalist
(D) Satyendra Nath Bose	(IV) Mathematics

Choose the correct answer from the options given below.

(1) (A) - (I), (B) - (III), (C) - (IV), (D) - (II)

(2) (A) - (II), (B) - (III), (C) - (I), (D) - (IV)

(3) (A) - (II), (B) - (I), (C) - (III), (D) - (IV)

(4) (A) - (III), (B) - (IV), (C) - (I), (D) - (II)

SPACE FOR ROUGH WORK

16. $\sin A = \frac{4}{5}$, ಆಗಿದ್ದರೆ, $(3 - \tan A)(2 + \cos A) =$

(1) $\frac{12}{5}$ (2) $\frac{13}{3}$ (3) $\frac{13}{5}$ (4) 3

17. ಒಬ್ಬ ವ್ಯಕ್ತಿಯು ನಿಶ್ಚಲ ನೀರಿನಲ್ಲಿ ಗಂಟೆಗೆ 8 ಕಿ. ಮೀ. ವೇಗದಲ್ಲಿ ದೋಣಿಯನ್ನು ಓಡಿಸಬಹುದು. ನೀರಿನ ಪ್ರವಾಹದ ವೇಗವು ಗಂಟೆಗೆ 2 ಕಿ. ಮೀ. ಆಗಿದ್ದರೆ ಮತ್ತು ಒಂದು ಸ್ಥಳಕ್ಕೆ ಹೋಗಿ ಮತ್ತು ಹಿಂತಿರುಗಲು ಅವನಿಗೆ 2 ಗಂಟೆಗಳು ಬೇಕಾದರೆ, ಆ ಸ್ಥಳವು ಎಷ್ಟು ದೂರದಲ್ಲಿದೆ (ಕಿ. ಮೀ. ನಲ್ಲಿ) ?

(1) 7.5 (2) 6 (3) 9.5 (4) 10

18. ಕೆಳಗೆ ನಿಡಿರುವ ಆಯ್ಕೆಗಳಲ್ಲಿ, ಜಮ್ಮುವನ್ನು ಶ್ರೀನಗರದೊಂದಿಗೆ ಸಂಪರ್ಕಿಸುವ ಪಾಸ್ ಯಾವುದು ?

(1) ಬನಿಹಾಲ್ ಪಾಸ್ (2) ನಾಥು ಲಾ ಪಾಸ್
(3) ನೀತಿ ಪಾಸ್ (4) ರೋಹ್ಟಾಂಗ್ ಪಾಸ್

19. ಪದ್ಮ ಪ್ರಶಸ್ತಿ-2024ಕ್ಕೆ ಸಂಬಂಧಿಸಿದಂತೆ ಈ ಕೆಳಗಿನ ಯಾವ ಹೇಳಿಕೆಗಳು ಸರಿಯಾಗಿ ಹೊಂದಿಕೆಯಾಗಿಲ್ಲ ?

(1) ಪದ್ಮವಿಭೂಷಣ ಪ್ರಶಸ್ತಿ → ಶ್ರೀ ಕೊನಿಡೆಲಾ ಚಿರಂಜೀವಿ
(2) ಪದ್ಮಶ್ರೀ ಪ್ರಶಸ್ತಿ → ಮಿಥುನ್ ಚಕ್ರವರ್ತಿ
(3) ಪದ್ಮಭೂಷಣ ಪ್ರಶಸ್ತಿ → ಎಂ.ಫಾತಿಮಾ ಬೀವಿ
(4) ಪದ್ಮಭೂಷಣ ಪ್ರಶಸ್ತಿ → ಸೀತಾರಾಂ ಜಿಂದಾಲ್

20. ಪಟ್ಟಿ-I ಅನ್ನು ಪಟ್ಟಿ-II ರೊಂದಿಗೆ ಹೊಂದಿಸಿ

ಪಟ್ಟಿ-I ವ್ಯಕ್ತಿ	**ಪಟ್ಟಿ-II** ಕೆಲಸದ ಪ್ರದೇಶ
(A) ವಿಶಾಖದತ್ತ	(I) ಔಷಧ
(B) ಕಾರ್ತಿಕೇಯ ಸಾರಾಭಾಯಿ	(II) ಕವಿ
(C) ಚರಕಾ	(III) ಪರಿಸರವಾದಿ
(D) ಸತ್ಯೇಂದ್ರ ನಾಥ್ ಬೋಸ್	(IV) ಗಣಿತಶಾಸ್ತ್ರ

ಈ ಕೆಳಗಿನ ಆಯ್ಕೆಗಳಲ್ಲಿ ಸರಿಯಾದ ಉತ್ತರವನ್ನು ಆಯ್ಕೆ ಮಾಡಿಃ

(1) (A) - (I), (B) - (III), (C) - (IV), (D) - (II)
(2) (A) - (II), (B) - (III), (C) - (I), (D) - (IV)
(3) (A) - (II), (B) - (I), (C) - (III), (D) - (IV)
(4) (A) - (III), (B) - (IV), (C) - (I), (D) - (II)

21. The following states were formed after 1960. What was the correct sequence of their formation ?

(A) Haryana (B) Sikkim

(C) Nagaland (D) Goa

Choose the correct answer from the options given below.

(1) (C), (B), (A), (D) (2) (C), (A), (B), (D)

(3) (C), (D), (A), (B) (4) (D), (C), (A), (B)

22. Out of the given options, which scheme's objective is to conduct an annual survey at the gram panchayat level to monitor the progress in the development process of rural areas ?

(1) Mission Antyodaya (2022-23) (2) Mission Karmayogi (2022-23)

(3) Mission Rashtriya Gokul (2022-23) (4) Mission Atmanirbhar Bharat (2022-23)

23. Which one of the following countries is ***not*** a member of the "Quadrilateral Security Dialogue", also known as "QUAD" ?

(1) China (2) Japan

(3) India (4) Australia

24. Who has become the first woman chairperson of the Railway Board of Indian Railways in 2023 ?

(1) Jaya Verma Sinha (2) Mita Vashishth

(3) Ravneet Kaur (4) Vasudha Gupta

25. Match List-I with List-II :

List-I **Country**	**List-II** **Currency**
(A) Myanmar	(I) Ruble
(B) Russia	(II) Ngultrum
(C) Malaysia	(III) Kyat
(D) Bhutan	(IV) Ringgit

Choose the correct answer from the options given below.

(1) (A) - (III), (B) - (I), (C) - (II), (D) - (IV)

(2) (A) - (III), (B) - (I), (C) - (IV), (D) - (II)

(3) (A) - (IV), (B) - (I), (C) - (III), (D) - (II)

(4) (A) - (II), (B) - (I), (C) - (IV), (D) - (III)

SPACE FOR ROUGH WORK

21. 1960ರ ನಂತರ ಈ ಕೆಳಗಿನ ರಾಜ್ಯಗಳನ್ನು ರಚಿಸಲಾಯಿತು. ಅವುಗಳ ರಚನೆಯ ಸರಿಯಾದ ಅನುಕ್ರಮ ಯಾವುದು ?

(A) ಹರಿಯಾಣ
(B) ಸಿಕ್ಕಿಂ
(C) ನಾಗಾಲ್ಯಾಂಡ್
(D) ಗೋವಾ

ಈ ಕೆಳಗಿನ ಆಯ್ಕೆಗಳಲ್ಲಿ ಸರಿಯಾದ ಉತ್ತರವನ್ನು ಆಯ್ಕೆ ಮಾಡಿ

(1) (C), (B), (A), (D)
(2) (C), (A), (B), (D)
(3) (C), (D), (A), (B)
(4) (D), (C), (A), (B)

22. ಕೊಟ್ಟಿರುವ ಆಯ್ಕೆಗಳಲ್ಲಿ, ಗ್ರಾಮೀಣ ಪ್ರದೇಶಗಳ ಅಭಿವೃದ್ಧಿ ಪ್ರಕ್ರಿಯೆಯ ಪ್ರಗತಿಯನ್ನು ಮೇಲ್ವಿಚಾರಣೆ ಮಾಡಲು ಗ್ರಾಮ ಪಂಚಾಯಿತಿ ಮಟ್ಟದಲ್ಲಿ ವಾರ್ಷಿಕ ಸಮೀಕ್ಷೆಯನ್ನು ನಡೆಸುವುದು ಯಾವ ಯೋಜನೆಯ ಉದ್ದೇಶವಾಗಿದೆ ?

(1) ಮಿಷನ್ ಅಂತ್ಯೋದಯ (2022-23)
(2) ಮಿಷನ್ ಕರ್ಮಯೋಗಿ (2022-23)
(3) ಮಿಷನ್ ರಾಷ್ಟ್ರೀಯ ಗೋಕುಲ್ (2022-23)
(4) ಮಿಷನ್ ಆತ್ಮನಿರ್ಭರ್ ಭಾರತ್ (2022-23)

23. ಈ ಕೆಳಗಿನ ಯಾವ ದೇಶವು "ಕ್ವಾಡ್ರಿಲೇಟರಲ್ ಸೆಕ್ಯುರಿಟಿ ಡಯಲಾಗ್" ನ ಸದಸ್ಯರಲ್ಲ, ಇದನ್ನು "ಕ್ವಾಡ್(QUAD)" ಎಂದೂ ಕೂಡ ಕರೆಯಲಾಗುತ್ತದೆ ?

(1) ಚೀನಾ
(2) ಜಪಾನ್
(3) ಭಾರತ
(4) ಆಸ್ಟ್ರೇಲಿಯಾ

24. 2023 ರಲ್ಲಿ "ಭಾರತೀಯ ರೈಲ್ವೆಯ ರೈಲ್ವೆ ಮಂಡಳಿಯ" ಮೊದಲ ಮಹಿಳಾ ಅಧ್ಯಕ್ಷರಾದವರು ಯಾರು ?

(1) ಜಯ ವರ್ಮಾ ಸಿನ್ಹಾ
(2) ಮಿತಾ ವಶಿಷ್ಠ
(3) ರವ್ನೀತ್ ಕೌರ್
(4) ವಸುಧಾ ಗುಪ್ತಾ

25. ಪಟ್ಟಿ-I ಅನ್ನು ಪಟ್ಟಿ-II ರೊಂದಿಗೆ ಹೊಂದಿಸಿ

ಪಟ್ಟಿ-I **ದೇಶ**	**ಪಟ್ಟಿ-II** **ಕರೆನ್ಸಿ.**
(A) ಮ್ಯಾನ್ಮಾರ್	(I) ರೂಬಲ್.
(B) ರಷ್ಯಾ	(II) ಗುಲ್ಟ್ರಮ್
(C) ಮಲೇಷ್ಯಾ	(III) ಕ್ಯಾತ್
(D) ಭೂತಾನ್	(IV) ರಿಂಗಿಟ್

ಈ ಕೆಳಗಿನ ಆಯ್ಕೆಗಳಲ್ಲಿ ಸರಿಯಾದ ಉತ್ತರವನ್ನು ಆಯ್ಕೆ ಮಾಡಿಃ

(1) (A) - (III), (B) - (I), (C) - (II), (D) - (IV)
(2) (A) - (III), (B) - (I), (C) - (IV), (D) - (II)
(3) (A) - (IV), (B) - (I), (C) - (III), (D) - (II)
(4) (A) - (II), (B) - (I), (C) - (IV), (D) - (III)

SPACE FOR ROUGH WORK

26. "Jhulaghat Suspension Bridge" between India and which country has become fully operational now ?

(1) Bhutan (2) Nepal

(3) China (4) Myanmar

27. Due to ocean acidification when the ocean becomes more acidic, what happens to the pH level of the ocean ?

(1) The pH level goes down.

(2) The pH level stays the same.

(3) The pH level goes up.

(4) The pH level becomes zero.

28. Who is the first para-athlete to receive the Padma Bhushan award in India ?

(1) Bhavina Patel

(2) Devendra Jhajharia

(3) Avani Lekhara

(4) Mariyappan Thangavelu

29. Zemu Glacier is located in which state of India ?

(1) Uttarakhand (2) Himachal Pradesh

(3) Sikkim (4) Arunachal Pradesh

30. Who among the following is Chile's first woman President ?

(1) Mary Robinson

(2) Michelle Bachelet

(3) Kim Campbell

(4) Jennifer Shipley

31. Which organisation developed and launched 'Ugram' Indigenous Assault Rifle for the armed forces ?

(1) ISRO (2) BEL

(3) HAL (4) DRDO

32. Which of the following substances is a bad conductor of electricity ?

(1) Diamond (2) Gold (3) Silver (4) Graphite

SPACE FOR ROUGH WORK

26. ಭಾರತ ಮತ್ತು ಕೆಳಗಿನ ಯಾವ ದೇಶದ ನಡುವಿನ "ಝುಲಾಘಾಟ್ ತೂಗು ಸೇತುವೆ" ಈಗ ಸಂಪೂರ್ಣವಾಗಿ ಕಾರ್ಯಾರಂಭ ಮಾಡಿದೆ ?

(1) ಭೂತಾನ್ (2) ನೇಪಾಳ
(3) ಚೀನಾ (4) ಮಯನ್ಮಾರ್

27. ಸಮುದ್ರದ ಆಮ್ಲೀಕರಣದಿಂದಾಗಿ ಸಮುದ್ರವು ಹೆಚ್ಚು ಆಮ್ಲೀಯವಾದಾಗ, ಸಮುದ್ರದ pH(ಪಿ ಎಚ್) ಮಟ್ಟವು ಏನಾಗುತ್ತದೆ ?

(1) pH ಮಟ್ಟ ಕಡಿಮೆಯಾಗುತ್ತದೆ. (2) pH ಮಟ್ಟವು ಒಂದೇ ಆಗಿರುತ್ತದೆ.
(3) pH ಮಟ್ಟ ಹೆಚ್ಚಾಗುತ್ತದೆ. (4) pH ಮಟ್ಟವು ಶೂನ್ಯವಾಗುತ್ತದೆ.

28. ಭಾರತದಲ್ಲಿ ಪದ್ಮಭೂಷಣ ಪ್ರಶಸ್ತಿಯನ್ನು ಪಡೆದ ಮೊದಲ ಪ್ಯಾರಾ-ಅಥ್ಲೀಟ್ ಯಾರು ?

(1) ಭಾವಿನಾ ಪಟೇಲ್ (2) ದೇವೇಂದ್ರ ಝಝಾರಿಯಾ
(3) ಅವನಿ ಲೇಖರಾ (4) ಮರಿಯಪ್ಪನ್ ತಂಗವೇಲು

29. ಝೆಮು ಗ್ಲೇಸಿಯರ್ ಭಾರತದ ಯಾವ ರಾಜ್ಯದಲ್ಲಿದೆ ?

(1) ಉತ್ತರಾಖಂಡ್ (2) ಹಿಮಾಚಲ ಪ್ರದೇಶ
(3) ಸಿಕ್ಕಿಂ (4) ಅರುಣಾಚಲ ಪ್ರದೇಶ

30. ಈ ಕೆಳಗಿನವರಲ್ಲಿ ಚಿಲಿಯ ಮೊದಲ ಮಹಿಳಾ ಅಧ್ಯಕ್ಷರು ಯಾರು ?

(1) ಮೇರಿ ರಾಬಿನ್ಸನ್ (2) ಮಿಚೆಲ್ ಬ್ಯಾಚೆಲೆಟ್
(3) ಕಿಮ್ ಕ್ಯಾಂಪ್ಬೆಲ್ (4) ಜೆನ್ನಿಫರ್ ಶಿಪ್ಲಿ

31. ಭಾರತೀಯ ಸೇನೆಗೆ 'ಉಗ್ರಂ' ಇಂಡೀಜೀನಿಯಸ್ ಅಸಾಲ್ಟ್ ರೈಫಲ್ ಅನ್ನು ಯಾವ ಸಂಘಟನೆಯು ಅಭಿವೃದ್ಧಿಪಡಿಸಿತು ಮತ್ತು ಪ್ರಾರಂಭಿಸಿತು

(1) ಭಾರತೀಯ ಬಾಹ್ಯಾಕಾಶ ಸಂಶೋಧನಾ ಸಂಸ್ಥೆ (ISRO)
(2) ಬಿಇಎಲ್ (BEL)
(3) ಎಚ್ಎಎಲ್ (HAL)
(4) ಡಿ ಆರ್ ಡಿ ಓ (DRDO)

32. ಈ ಕೆಳಗಿನವುಗಳಲ್ಲಿ ಯಾವುದು ವಿದ್ಯುತ್ತಿನ ಕೆಟ್ಟ ವಾಹಕ (ಅವಾಹಕ)ವಾಗಿದೆ ?

(1) ವಜ್ರ (2) ಚಿನ್ನ (3) ಬೆಳ್ಳಿ (4) ಗ್ರ್ಯಾಫೈಟ್

SPACE FOR ROUGH WORK

33. Which of the following disease is caused due to the deficiency of proteins ?

(1) Arthritis
(2) Kwashiorkor
(3) Goitre
(4) Night Blindness

34. Match List-I with List-II :

List-I **Navy (Institution)**	**List-II** **Place**
(A) INS Chilka	(I) Goa
(B) INS Hansa	(II) Andhra Pradesh
(C) INS Satavahana	(III) Kerala
(D) INS Garuda	(IV) Odisha

Choose the correct answer from the options given below.

(1) (A) - (III), (B) - (I), (C) - (II), (D) - (IV)
(2) (A) - (I), (B) - (IV), (C) - (II), (D) - (III)
(3) (A) - (IV), (B) - (I), (C) - (III), (D) - (II)
(4) (A) - (IV), (B) - (I), (C) - (II), (D) - (III)

35. DRDO has conducted the first successful flight test of Agni-5 missile equipped with MIRV technology. What is the full form of MIRV ?

(1) Multiple Independently Targetable Re-Entry Vehicle
(2) Mission India Target Re-Entry Vehicle
(3) Multiple Independently Technology Re-Entry Vehicle
(4) Multiple Indirect Targetable Re-Entry vehicle

36. Which Indian has won the "Ramon Magsaysay Award-2023" ?

(1) Korvi Rakshand
(2) Ashwini Kumar
(3) Dipti Ranjan Sahoo
(4) Dr. Ravi Kannan R.

SPACE FOR ROUGH WORK

33. ಈ ಕೆಳಗಿನ ಯಾವ ರೋಗವು ಪ್ರೋಟೀನಿನ ಕೊರತೆಯಿಂದ ಉಂಟಾಗುತ್ತದೆ ?

(1) ಸಂಧಿವಾತ
(2) ಕ್ವಾಶಿಯೋರ್ಕರ್
(3) ಗಾಯಿಟರ್
(4) ರಾತ್ರಿ ಕುರುಡುತನ

34. ಪಟ್ಟಿ-I ಅನ್ನು ಪಟ್ಟಿ-II ರೊಂದಿಗೆ ಹೊಂದಿಸಿ

ಪಟ್ಟಿ-I **ನೌಕಾಪಡೆ (ಇನ್ಸ್ಟಿಟ್ಯೂಟ್)**	**ಪಟ್ಟಿ-II** **ಸ್ಥಳ**
(A) ಐಎನ್ಎಸ್ ಚಿಲ್ಕಾ	(I) ಗೋವಾ
(B) ಐಎನ್ಎಸ್ ಹನ್ಸಾ	(II) ಆಂಧ್ರಪ್ರದೇಶ
(C) ಐಎನ್ಎಸ್ ಸಾತವಾಹನ	(III) ಕೇರಳ
(D) ಐಎನ್ಎಸ್ ಗರುಡ	(IV) ಒಡಿಶಾ

ಈ ಕೆಳಗಿನ ಆಯ್ಕೆಗಳಲ್ಲಿ ಸರಿಯಾದ ಉತ್ತರವನ್ನು ಆಯ್ಕೆ ಮಾಡಿಃ

(1) (A) - (III), (B) - (I), (C) - (II), (D) - (IV)
(2) (A) - (I), (B) - (IV), (C) - (II), (D) - (III)
(3) (A) - (IV), (B) - (I), (C) - (III), (D) - (II)
(4) (A) - (IV), (B) - (I), (C) - (II), (D) - (III)

35. MIRV ತಂತ್ರಜ್ಞಾನ ಹೊಂದಿದ ಅಗ್ನಿ-5 ಕ್ಷಿಪಣಿಯ ಮೊದಲ ಹಾರಾಟ ಪರೀಕ್ಷೆಯನ್ನು DRDO ನಡೆಸಿದ. MIRV ನ ಪೂರ್ಣರೂಪ ಯಾವುದು ?

(1) ಮಲ್ಟಿಪಲ್ ಇಂಡಿಪೆಂಡೆಂಟಲಿ ಟಾರ್ಗೆಟೆಬಲ ರೀ-ಎಂಟ್ರಿ ವೆಹಿಕಲ್
(2) ಮಿಷನ್ ಇಂಡಿಯಾ ಟಾರ್ಗೆಟ್ ರೀ-ಎಂಟ್ರಿ ವೆಹಿಕಲ್
(3) ಮಲ್ಟಿಪಲ್ ಇಂಡಿಪೆಂಡೆಂಟಲಿ ಟೆಕ್ನಾಲೊಜಿ ರೀ-ಎಂಟ್ರಿ ವೆಹಿಕಲ್
(4) ಮಲ್ಟಿಪಲ್ ಇಂಡೈರೆಕ್ಟ್ ಟಾರ್ಗೆಟೆಬಲ ರೀ-ಎಂಟ್ರಿ ವೆಹಿಕಲ್

36. ಯಾವ ಭಾರತೀಯರು "ರಾಮನ್ ಮ್ಯಾಗ್ಸೆಸೆ ಪ್ರಶಸ್ತಿ-2023" ಗೆದ್ದಿದ್ದಾರೆ ?

(1) ಕೊರ್ವಿ ರಕ್ಷಂದ್
(2) ಅಶ್ವಿನಿ ಕುಮಾರ್
(3) ದೀಪ್ತಿ ರಂಜನ್ ಸಾಹೂ
(4) ಡಾ. ರವಿ ಕಣ್ಣನ್ ಆರ್.

SPACE FOR ROUGH WORK

37. Who has been appointed the Chairman of the 16th Finance Commission of India ?

(1) Ajay Narayan Jha

(2) Smt. Annie George Mathew

(3) Pradip Kumar Mohanty

(4) Dr. Arvind Panagariya

38. Sri Ranganathswamy Temple which is situated in Tamil Nadu, is dedicated to which deity ?

(1) Lord Shiva

(2) Lord Vishnu

(3) Goddess Durga

(4) Goddess Lakshmi

39. The Election Commission of India gets the power to conduct elections from which of the following articles ?

(1) Article 324 (2) Article 280

(3) Article 264 (4) Article 26

40. Match List-I with List-II :

List-I **Centre of Handicraft**	**List-II** **State**
(A) Mon	(I) Arunachal Pradesh
(B) Nalbari	(II) Assam
(C) Pasighat	(III) Meghalaya
(D) Tura	(IV) Nagaland

Choose the correct answer from the options given below.

(1) (A) - (IV), (B) - (II), (C) - (I), (D) - (III)

(2) (A) - (I), (B) - (III), (C) - (IV), (D) - (II)

(3) (A) - (IV), (B) - (III), (C) - (I), (D) - (II)

(4) (A) - (I), (B) - (II), (C) - (IV), (D) - (III)

SPACE FOR ROUGH WORK

37. ಭಾರತದ 16ನೇ ಹಣಕಾಸು ಆಯೋಗದ ಅಧ್ಯಕ್ಷರಾಗಿ ನೇಮಕಗೊಂಡವರು ಯಾರು ?

(1) ಅಜಯ್ ನಾರಾಯಣ್ ಝಾ

(2) ಶ್ರೀಮತಿ. ಅನ್ನಿ ಜಾರ್ಜ್ ಮ್ಯಾಥ್ಯೂ

(3) ಪ್ರದೀಪ್ ಕುಮಾರ್ ಮೊಹಂತಿ

(4) ಡಾ. ಅರವಿಂದ್ ಪಣಗರಿಯಾ

38. ತಮಿಳುನಾಡಿನಲ್ಲಿ ನೆಲೆಗೊಂಡಿರುವ, ಶ್ರೀ ರಂಗನಾಥಸ್ವಾಮಿ ದೇವಾಲಯವು ಯಾವ ದೇವರಿಗೆ ಸಮರ್ಪಿತವಾಗಿದೆ ?

(1) ಭಗವಾನ್ ಶಿವ

(2) ಭಗವಾನ್ ವಿಷ್ಣು

(3) ದುರ್ಗಾ ದೇವತೆ

(4) ಲಕ್ಷ್ಮೀ ದೇವತೆ.

39. ಭಾರತದ ಚುನಾವಣಾ ಆಯೋಗವು ಈ ಕೆಳಗಿನ ಯಾವ ವಿಧಿಯಿಂದ ಚುನಾವಣೆಗಳನ್ನು ನಡೆಸುವ ಅಧಿಕಾರವನ್ನು ಪಡೆಯುತ್ತದೆ ?

(1) ಪರಿಚ್ಛೇದ 324

(2) ಪರಿಚ್ಛೇದ 280

(3) ಪರಿಚ್ಛೇದ 264

(4) ಪರಿಚ್ಛೇದ 26

40. ಪಟ್ಟಿ-I ಅನ್ನು ಪಟ್ಟಿ-II ರೊಂದಿಗೆ ಹೊಂದಿಸಿ

ಪಟ್ಟಿ-I **ಕರಕುಶಲ ಕೇಂದ್ರ**	**ಪಟ್ಟಿ-II** **ರಾಜ್ಯ**
(A) ಸೋಮ	(I) ಅರುಣಾಚಲ ಪ್ರದೇಶ
(B) ನಲ್ಬರಿ	(II) ಅಸ್ಸಾಂ
(C) ಪಾಸಿಘಾಟ್	(III) ಮೇಘಾಲಯ
(D) ತುರಾ	(IV) ನಾಗಾಲ್ಯಾಂಡ್

ಈ ಕೆಳಗಿನ ಆಯ್ಕೆಗಳಲ್ಲಿ ಸರಿಯಾದ ಉತ್ತರವನ್ನು ಆಯ್ಕೆ ಮಾಡಿಃ

(1) (A) - (IV), (B) - (II), (C) - (I), (D) - (III)

(2) (A) - (I), (B) - (III), (C) - (IV), (D) - (II)

(3) (A) - (IV), (B) - (III), (C) - (I), (D) - (II)

(4) (A) - (I), (B) - (II), (C) - (IV), (D) - (III)

SPACE FOR ROUGH WORK

41. In which state is ''Amchang Wildlife Sanctuary'' located ?

(1) Assam (2) Rajasthan

(3) Odisha (4) Manipur

42. India's first 3D-printed Post Office has been inaugurated in :

(1) Guwahati (2) Kolkata

(3) Mumbai (4) Bengaluru

43. What should come in the place of the question mark (?) in the following alphanumeric series ?

A1X, B4P, E25J, J100F, ?

(1) O289D (2) O225E

(3) Q289D (4) Q225E

44. In the given analogy, choose the word which will replace the question mark :

NEGI : MVTR :: SING : ?

(1) TRNS (2) TRNT

(3) FRMT (4) HRMT

45. In a certain code language 'ki ru pi' means 'nobody like cruel', 'ki mi cha' means 'king was cruel' and 'ru pi cha' means 'nobody like king'. What is the code for 'was' in the given code language ?

(1) ki (2) mi

(3) cha (4) ru

46. Read the following information carefully to choose the best option for the question :

'P % Q' means that 'P is the sister of Q'

'P + Q' means that 'P is the son of Q'

'P × Q' means that 'P is the husband of Q'

'P – Q' means that 'P is the brother of Q'

Which of the following means 'A is the son-in-law of G' ?

(1) A × U + S × G (2) A + S % U × G

(3) A – S + U × G (4) A × U % S + G

SPACE FOR ROUGH WORK

41. ಯಾವ ರಾಜ್ಯದಲ್ಲಿ "ಅಮ್ಚಾಂಗ್ ವನ್ಯಜೀವಿ ಅಭಯಾರಣ್ಯ" ಇದೆ ?

(1) ಅಸ್ಸಾಂ (2) ರಾಜಸ್ಥಾನ

(3) ಒಡಿಶಾ (4) ಮಣಿಪುರ

42. ಭಾರತದ ಮೊದಲ 3D-ಮುದ್ರಿತ ಅಂಚೆ ಕಚೇರಿಯನ್ನು ಇಲ್ಲಿ ಉದ್ಘಾಟಿಸಲಾಗಿದೆಃ

(1) ಗುವಾಹಟಿ (2) ಕೋಲ್ಕತ್ತಾ

(3) ಮುಂಬೈ (4) ಬೆಂಗಳೂರು

43. ಮುಂದಿನ ಆಲ್ಫಾನ್ಯೂಮರಿಕ್ ಸರಣಿಯಲ್ಲಿ ಪ್ರಶ್ನೆ ಗುರುತಿನ (?)ಸ್ಥಳದಲ್ಲಿ ಏನು ಬರಬೇಕು ?

A1X, B4P, E25J, J100F, ?

(1) O289D (2) O225E

(3) Q289D (4) Q225E

44. ಕೆಳಗೆ ಕೊಟ್ಟಿರುವ ಸಾದೃಶ್ಯದಲ್ಲಿ, ಪ್ರಶ್ನಾರ್ಥಕ ಚಿಹ್ನೆಯನ್ನು ಬದಲಿಸಿ ಸೂಕ್ತ ಪದವನ್ನು ಆಯ್ಕೆ ಮಾಡಿ.

NEGI : MVTR :: SING : ?

(1) TRNS (2) TRNT

(3) FRMT (4) HRMT

45. ಒಂದು ನಿರ್ದಿಷ್ಟ ಸಂಕೇತ ಭಾಷೆಯಲ್ಲಿ ' ki ru pi' ಎಂದರೆ 'nobody like cruel', 'ki mi cha' ಎಂದರೆ 'king was cruel' ಮತ್ತು 'ru pi cha' ಎಂದರೆ 'nobody like king' ಎಂದರ್ಥ. ಕೊಟ್ಟಿರುವ ಕೋಡ್ ಭಾಷೆಯಲ್ಲಿ 'was' ಗಾಗಿ ಕೋಡ್ ಯಾವುದು ?

(1) ki (2) mi

(3) cha (4) ru

46. ಪ್ರಶ್ನೆಗೆ ಉತ್ತಮ ಆಯ್ಕೆಯನ್ನು ಆಯ್ಕೆ ಮಾಡಲು ಈ ಕೆಳಗಿನ ಮಾಹಿತಿಯನ್ನು ಎಚ್ಚರಿಕೆಯಿಂದ ಓದಿ.

'P % Q' ಎಂದರೆ 'P ಎಂಬುದು Q ನ ಸಹೋದರಿ' ಎಂದರ್ಥ.

'P + Q' ಎಂದರೆ 'P ಎಂಬುದು Q ನ ಮಗ' ಎಂದರ್ಥ.

'P × Q ಎಂದರೆ 'P ಎಂಬುದು Q ನ ಗಂಡ' ಎಂದರ್ಥ.

'P – Q ' ಎಂದರೆ 'P ಎಂದರೆ Q ನ ಸಹೋದರ' ಎಂದರ್ಥ.

ಈ ಕೆಳಗಿನವುಗಳಲ್ಲಿ ಯಾವುದು 'A ಎಂದರೆ G ನ ಅಳಿಯ(son-in-law)' ಎಂದರ್ಥ ?

(1) A × U + S × G (2) A + S % U × G

(3) A – S + U × G (4) A × U % S + G

SPACE FOR ROUGH WORK

47. If 26th January, 2020 was a Sunday, then what day of the week was it on 16th March of that year ?

(1) Sunday (2) Monday

(3) Tuesday (4) Wednesday

48. What will be the measurement of the angle made by the hour and minute hands of a clock when the time is 'quarter past 3' ?

(1) $6\frac{1}{2}^\circ$ (2) 10°

(3) $7\frac{1}{2}^\circ$ (4) $8\frac{1}{2}^\circ$

49. If in a certain code laguage, 'MERCURY' is coded as 'NGUGZXF', then how will 'ENTANGLE' be coded in the same code language ?

(1) FPXFSMSM (2) FPWESMSM

(3) FPWESNSN (4) FPWFTNSM

50. The problem given below consists of a question and two statements numbered I and II. You have to decide whether the data provided in the statements are sufficient to answer the question.

How many sisters does Sunny have ?

I. Sunny is the only son of his parents.

II. Sunny's parents have three children.

(1) Only statement I alone is sufficient to answer the question.

(2) Only statement II alone is sufficient to answer the question.

(3) Statements I and II together are sufficient to answer the question.

(4) Either statement I or II alone is sufficient to answer the question.

51. A boy leaves his house. He travels 6 km towards South, then travels 8 km towards West and further travels 9 km towards South. How far and in which direction is he from his house now ?

(1) 13 km, South West

(2) 17 km, South West

(3) 17 km, North West

(4) 13 km, West

SPACE FOR ROUGH WORK

47. 2020ರ ಜನವರಿ 26 ಭಾನುವಾರವಾಗಿದ್ದರೆ, ಆ ವರ್ಷದ ಮಾರ್ಚ್ 16ರಂದು ವಾರದ ಯಾವ ದಿನವಾಗಿತ್ತು ?

(1) ಭಾನುವಾರ (2) ಸೋಮವಾರ
(3) ಮಂಗಳವಾರ (4) ಬುಧವಾರ

48. ಸಮಯವು' 3:15 (ಕ್ವಾರ್ಟರ್ ಪಾಸ್ಟ್ 3) ಆಗಿರುವಾಗ ಗಡಿಯಾರದ ಕೈಗಳಿಂದ (ಮುಳ್ಳುಗಳಿಂದ) ಮಾಡಲಾದ ಕೋನದ ಅಳತೆ ಎಷ್ಟು ?

(1) $6\frac{1}{2}^\circ$ (2) 10°
(3) $7\frac{1}{2}^\circ$ (4) $8\frac{1}{2}^\circ$

49. ಒಂದು ನಿರ್ದಿಷ್ಟ ಕೋಡ್ ಭಾಷೆಯಲ್ಲಿ, 'MERCURY' ಅನ್ನು 'NGUGZXF' ಎಂದು ಕೋಡ್ ಮಾಡಿದರೆ, ಅದೇ ಕೋಡ್ ಭಾಷೆಯಲ್ಲಿ 'ENTANGLE' ಅನ್ನು ಹೇಗೆ ಕೋಡ್ ಮಾಡಲಾಗುತ್ತದೆ ?

(1) FPXFSMSM (2) FPWESMSM
(3) FPWESNSN (4) FPWFTNSM

50. ಈ ಕೆಳಗಿನ ಸಮಸ್ಯೆಯು ಒಂದು ಪ್ರಶ್ನೆ ಮತ್ತು I ಮತ್ತು II ಸಂಖ್ಯೆಯ ಎರಡು ಹೇಳಿಕೆಗಳನ್ನು ಒಳಗೊಂಡಿದೆ. ಹೇಳಿಕೆಗಳಲ್ಲಿ ಒದಗಿಸಲಾದ ಮಾಹಿತಿಯು ಪ್ರಶ್ನೆಗಳಿಗೆ ಉತ್ತರಿಸಲು ಸಾಕಾಗುತ್ತದೆಯೇ ಎಂದು ನೀವು ನಿರ್ಧರಿಸಬೇಕು.

ಸನ್ನಿಗೆ ಎಷ್ಟು ಸಹೋದರಿಯರಿದ್ದಾರೆ ?

I. ಸನ್ನಿ ತನ್ನ ಹೆತ್ತವರ(ಪೋಷಕರ) ಏಕೈಕ ಮಗ.
II. ಸನ್ನಿ ಅವರ ಪೋಷಕರಿಗೆ ಮೂವರು ಮಕ್ಕಳಿದ್ದಾರೆ.

(1) ಪ್ರಶ್ನೆಗೆ ಉತ್ತರಿಸಲು ಕೇವಲ I ಹೇಳಿಕೆಯೇ ಸಾಕಾಗಿದ್ದರೆ
(2) ಪ್ರಶ್ನೆಗೆ ಉತ್ತರಿಸಲು ಕೇವಲ ಹೇಳಿಕೆ II ಮಾತ್ರ ಸಾಕಾಗಿದ್ದರೆ
(3) ಪ್ರಶ್ನೆಗೆ ಉತ್ತರಿಸಲು ಹೇಳಿಕೆ I ಮತ್ತು II ಒಟ್ಟಾಗಿ ಸಾಕಾಗಿದ್ದರೆ
(4) ಒಂದು ಹೇಳಿಕೆಯು I ಅಥವಾ II ಮಾತ್ರವೇ ಪ್ರಶ್ನೆಗೆ ಉತ್ತರಿಸಲು ಸಾಕಾಗಿದ್ದರೆ

51. ಒಬ್ಬ ಹುಡುಗ ತನ್ನ ಮನೆಯನ್ನು ಬಿಟ್ಟು ಹೊರಡುತ್ತಾನೆ. ಅವನು ದಕ್ಷಿಣದ ಕಡೆಗೆ 6 ಕಿ. ಮೀ. ಪ್ರಯಾಣಿಸುತ್ತಾನೆ, ನಂತರ ಪಶ್ಚಿಮದ ಕಡೆಗೆ 8 ಕಿ. ಮೀ. ಪ್ರಯಾಣಿಸುತ್ತಾನೆ ಮತ್ತು ದಕ್ಷಿಣದ ಕಡೆಗೆ ಮತ್ತೆ 9 ಕಿ. ಮೀ. ಪ್ರಯಾಣಿಸುತ್ತಾನೆ, ಅವನ ಮನೆಯಿಂದ ಈಗ ಎಷ್ಟು ದೂರ ಮತ್ತು ಯಾವ ದಿಕ್ಕಿನಲ್ಲಿದ್ದಾನೆ ?

(1) 13 ಕಿ. ಮೀ., ನೈಋತ್ಯ (2) 17 ಕಿ. ಮೀ., ನೈಋತ್ಯ
(3) 17 ಕಿ. ಮೀ., ವಾಯುವ್ಯ (4) 13 ಕಿ. ಮೀ., ಪಶ್ಚಿಮ

52. Find out which of the answer figures completes the figure matrix :

Problem figure :



(1) 

(2) 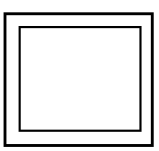

(3) 

(4) 

53. A clock seen through a mirror shows 'quarter to seven'. What is the correct time shown by the clock ?

(1) 6:15 (2) 6:17 (3) 5:17 (4) 5:15

54. The sequence of folding a piece of paper and the manner in which the folded paper has been cut is shown in the following figures. How would this paper look when unfolded ?

(1) 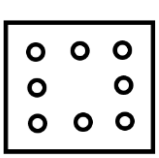

(2) 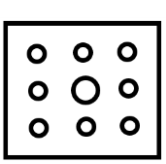

(3) 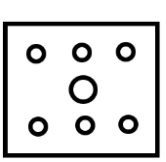

(4) 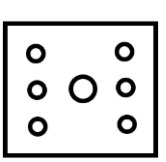

SPACE FOR ROUGH WORK

52. ಯಾವ ಉತ್ತರ ಅಂಕಿ ಅಂಶಗಳು ಫಿಗರ್ ಮ್ಯಾಟ್ರಿಕ್ಸ್ (ಚಿತ್ರ ಮಾತೃಕೆಯ)ನ್ನು ಪೂರ್ಣಗೊಳಿಸುತ್ತವೆ ಎಂಬುದನ್ನು ಕಂಡುಕೊಳ್ಳಿ.
ಸಮಸ್ಯೆಯ ಅಂಕಿ ಅಂಶ



(1) 
(2) 
(3) 
(4) 

53. ಕನ್ನಡಿಯ ಮೂಲಕ ನೋಡಿದಾಗ ಗಡಿಯಾರವು 6:45 (‘quarter to seven’) ಅನ್ನು ತೋರಿಸುತ್ತದೆ. ಗಡಿಯಾರವು ತೋರಿಸಿದ ಸರಿಯಾದ ಸಮಯ ಯಾವುದು ?

(1) 6:15 (2) 6:17 (3) 5:17 (4) 5:15

54. ಕಾಗದದ ತುಂಡನ್ನು ಮಡಿಸುವ ಕ್ರಮ ಮತ್ತು ಮಡಿಸಿದ ಕಾಗದಗಳನ್ನು ಕತ್ತರಿಸುವ ವಿಧಾನವನ್ನು ಈ ಕೆಳಗಿನ ಚಿತ್ರಗಳಲ್ಲಿ ತೋರಿಸಲಾಗಿದೆ. ತೆರೆದಾಗ ಈ ಕಾಗದವು ಹೇಗೆ ಕಾಣುತ್ತದೆ ?

(1) 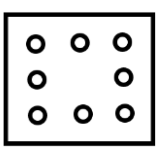
(2) 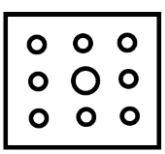
(3) 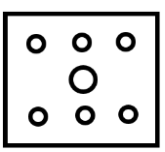
(4) 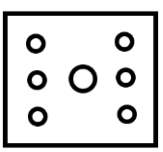

SPACE FOR ROUGH WORK

55. Find out the missing (?) number and letter.

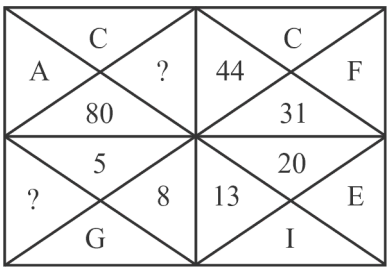

(1) 59 and K

(2) 61 and L

(3) 61 and K

(4) 59 and L

56. What will be the next number of the series

3, 6, 10.5, 17, 26, ?

(1) 31

(2) 38

(3) 40

(4) 41

57. In a class of 40 students, Anjali's rank is thrice that of Anita. There are 4 students who have ranks worse than that of Anjali. Anita's rank in the class is :

(1) 9th

(2) 10th

(3) 18th

(4) 12th

58. Six people E, H, K, M, S and U are seated in a circle facing the centre. U and H are immediate neighbours of M. E is the only person sitting between K and S. H is to the immediate right of S. Who is to the immediate right of U ?

(1) M (2) E (3) K (4) S

SPACE FOR ROUGH WORK

55. ಕಾಣೆಯಾದ (?) ಸಂಖ್ಯೆಗಳು ಮತ್ತು ಅಕ್ಷರಗಳನ್ನು ಹುಡುಕಿ

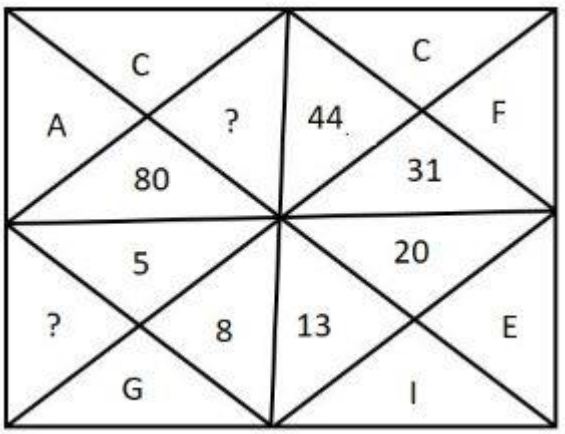

(1) 59 ಮತ್ತು K

(2) 61 ಮತ್ತು L

(3) 61 ಮತ್ತು K

(4) 59 ಮತ್ತು L

56. ಸರಣಿಯ ಮುಂದಿನ ಸಂಖ್ಯೆ ಏನು ?

3, 6, 10.5, 17, 26, ?

(1) 31 (2) 38 (3) 40 (4) 41

57. 40 ವಿದ್ಯಾರ್ಥಿಗಳಿರುವ ತರಗತಿಯಲ್ಲಿ ಅಂಜಲಿಯ ರ್‍ಯಾಂಕ್ ಅನಿತಾಳ ಶ್ರೇಯಾಂಕಕ್ಕಿಂತ ಮೂರು ಪಟ್ಟು ಹೆಚ್ಚಾಗಿದೆ. ಅಂಜಲಿಗಿಂತ ಕೆಟ್ಟ (ಕನಿಷ್ಠ) ರ್‍ಯಾಂಕ್ ಹೊಂದಿರುವ 4 ವಿದ್ಯಾರ್ಥಿಗಳಿದ್ದಾರೆ. ತರಗತಿಯಲ್ಲಿ ಅನಿತಾ ಅವರ ರ್‍ಯಾಂಕ್

(1) 9ನೆಯದು (2) 10ನೆಯದು

(3) 18ನೆಯದು (4) 12ನೆಯದು

58. E, H, K, M, S ಮತ್ತು U ಎಂಬ ಆರು ಜನರು ಮಧ್ಯಭಾಗಕ್ಕೆ ಎದುರಾಗಿ ವೃತ್ತಾಕಾರದಲ್ಲಿ ಕುಳಿತಿದ್ದಾರೆ. U ಮತ್ತು H ಗಳು M ನ ಹತ್ತಿರದ ನೆರೆಹೊರೆಯವರಾಗಿದ್ದಾರೆ. K ಮತ್ತು S ನಡುವೆ ಕುಳಿತಿರುವ ಏಕೈಕ ವ್ಯಕ್ತಿ E. H ಎಂದರೆ S ನ ತಕ್ಷಣದ ಬಲಕ್ಕೆ ಇದ್ದಾರೆ. U ನ ತಕ್ಷಣದ ಬಲಕ್ಕೆ ಯಾರು

(1) M (2) E (3) K (4) S

SPACE FOR ROUGH WORK

59. Find out which of the answer figures from the options can be formed using all the pieces given in the problem figure.

Problem figure

(1)

(2)

(3)

(4)

60. Read the given statements and conclusions carefully assuming that the information given in the statements is true, even if it appears to be at variance with commonly known facts. Decide which of the given conclusion(s) logically follows from the statements.

Statements :

No keyboard is a mouse.

All mouses are computers.

All computers are laptops.

Conclusions :

I. All mouses are laptops.

II. All computers can never be keyboards.

(1) Only conclusion I follows

(2) Only conclusion II follows

(3) Neither conclusion I nor II follows

(4) Both conclusions I and II follow

SPACE FOR ROUGH WORK

59. ಸಮಸ್ಯೆಯ ಚಿತ್ರದಲ್ಲಿ ನೀಡಲಾದ ತುಣುಕುಗಳಿಂದ, ಆಯ್ಕೆಗಳಲ್ಲಿರುವ ಯಾವ ಉತ್ತರದ ಚಿತ್ರವನ್ನು ರಚಿಸಬಹುದು ಎಂಬುದನ್ನು ಕಂಡುಕೊಳ್ಳಿ.

ಸಮಸ್ಯೆಯ ಅಂಕಿ ಅಂಶ

(1)

(2) 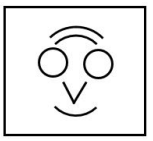

(3)

(4)

60. ಕೊಟ್ಟಿರುವ ಹೇಳಿಕೆಗಳನ್ನು ಮತ್ತು ತೀರ್ಮಾನವನ್ನು ಎಚ್ಚರಿಕೆಯಿಂದ ಓದಿ, ಹೇಳಿಕೆಗಳಲ್ಲಿ ನೀಡಲಾದ ಮಾಹಿತಿಯು ನಿಜವೆಂದು ಭಾವಿಸಿ, ಅದು ಸಾಮಾನ್ಯವಾಗಿ ತಿಳಿದಿರುವ ಸಂಗತಿಗಳೊಂದಿಗೆ ಭಿನ್ನವಾಗಿದೆ ಎಂದು ತೋರುತ್ತದೆಯಾದರೂ, ಕೊಟ್ಟಿರುವ ತೀರ್ಮಾನಗಳಲ್ಲಿ ಯಾವುದು ತಾರ್ಕಿಕವಾಗಿ ಹೇಳಿಕೆಗಳನ್ನು ಅನುಸರಿಸುತ್ತದೆ ಎಂಬುದನ್ನು ನಿರ್ಧರಿಸಿ.

ಹೇಳಿಕೆಃ

ಯಾವುದೇ ಕೀಬೋರ್ಡ್ ಒಂದು ಮೌಸ್ ಅಲ್ಲ.

ಎಲ್ಲಾ ಮೌಸ್ಗಳು ಕಂಪ್ಯೂಟರ್‌ಗಳಾಗಿವೆ.

ಎಲ್ಲಾ ಕಂಪ್ಯೂಟರ್‌ಗಳು ಲ್ಯಾಪ್ಟಾಪ್ ಗಳಾಗಿವೆ.

ತೀರ್ಮಾನಃ

I. ಎಲ್ಲಾ ಮೌಸ್ಗಳು ಲ್ಯಾಪ್ಟಾಪ್ ಗಳಾಗಿವೆ.

II. ಎಲ್ಲಾಕಂಪ್ಯೂಟರ್‌ಗಳು ಎಂದಿಗೂ ಕೀಬೋರ್ಡ್ ಆಗಿರಲು ಸಾಧ್ಯವಿಲ್ಲ.

(1) I ತೀರ್ಮಾನ ಮಾತ್ರ ಅನುಸರಿಸುವುದು

(2) II ತೀರ್ಮಾನ ಮಾತ್ರ ಅನುಸರಿಸುವುದು

(3) I ಮತ್ತು II ಎರಡೂ ತೀರ್ಮಾನಗಳು ಅನುಸರಿಸುವುದಿಲ್ಲ

(4) I ಮತ್ತು II ಎರಡೂ ತೀರ್ಮಾನಗಳು ಅನುಸರಿಸುತ್ತವೆ

SPACE FOR ROUGH WORK

SPACE FOR ROUGH WORK

SPACE FOR ROUGH WORK

Read carefully the following instructions :

8. No candidate will be allowed to leave the OMR Answer Sheet blank. If any OMR Answer Sheet is found blank, it shall be crossed by the Invigilator with his/her signature, mentioning “Cancelled” on it.

9. Do not tear or fold any page of the Test Booklet and OMR Answer Sheet.

10. Candidates are advised to ensure that they fill the correct particulars on the OMR Answer Sheet, i.e., Application No., Roll No., Test Booklet No., Name, Mother’s Name, Father’s Name and Signature.

11. In case of any discrepancy in any question between English and Hindi/Regional language version, the English version will be considered as the final version for evaluation.

12. Rough work is to be done in the space provided for this purpose in the Test Booklet only.

13. The answers will be evaluated through electronic scanning process. Incomplete or incorrect entries may render the OMR Answer Sheet invalid.

14. Candidates are advised not to fold or make any stray marks on the OMR Answer Sheet. Use of Eraser, Nail, Blade, White Fluid/Whitener, etc., to smudge, scratch or damage in any manner the OMR Answer Sheet during examination is strictly prohibited. Candidature and OMR Answer Sheet of candidates using Eraser, Nail, Blade or White Fluid/Whitener to smudge, scratch or damage in any manner shall be cancelled.

15. There will be one copy of OMR Answer Sheet i.e., the Original Copy. After the examination is over, the candidate shall hand over the OMR Answer Sheet to the Invigilator. The candidate can take away the Test Booklet after the examination is over. If the candidate does not hand over the OMR Answer Sheet to the Invigilator and goes away with the OMR Answer Sheet, his/her candidature shall be cancelled and criminal proceedings shall also be initiated against him/her.

16. Candidates are advised strictly not to carry handkerchief, any mobile phone, any type of watch, belt or wear ornaments like ring, chain, ear-ring, etc., electronic or communication device, pen, pencil, eraser, sharpener and correction fluid to the Examination Centre. If any candidate is found possessing any such item, he/she will not be allowed to enter the examination centre. Possession of a mobile phone or any other aiding material as mentioned above by the candidate in the examination room will be treated as a serious violation and it may lead to cancellation of the candidature and debarring him/her from future examinations.

17. If a candidate violates any instructions or shows any indiscipline or misbehaviour, appropriate action will be taken including cancellation of candidature and debarring from future examinations.

18. Use of electronic/manual calculator is **not** allowed.

ಕೆಳಗಿನ ಸೂಚನೆಗಳನ್ನು ಎಚ್ಚರಿಕೆಯಿಂದ ಓದಿ :

8. OMR ಉತ್ತರ ಹಾಳೆಯನ್ನು ಖಾಲಿ ಬಿಡಲು ಯಾವುದೇ ಅಭ್ಯರ್ಥಿಯನ್ನು ಅನುಮತಿಸಲಾಗುವುದಿಲ್ಲ. ಯಾವುದೇ OMR ಉತ್ತರ ಪತ್ರಿಕೆಯು ಖಾಲಿಯಾಗಿರುವುದು ಕಂಡುಬಂದರೆ, ಅದು ಇನ್ವಿಜಿಲೇಟರ್ ಅವರು ಅದರ ಮೇಲೆ ಅಡ್ಡ ಗೆರೆ ಹಾಕಿ "ರದ್ದುಮಾಡಲಾಗಿದೆ" ಎಂದು ನಮೂದಿಸಿ ಸಹಿ ಹಾಕಬೇಕು.

9. ಪರೀಕ್ಷಾ ಪುಸ್ತಿಕೆ ಮತ್ತು OMR ಉತ್ತರ ಪತ್ರಿಕೆಯ ಯಾವುದೇ ಪುಟವನ್ನು ಹರಿದು ಹಾಕಬೇಡಿ ಅಥವಾ ಮಡಿಸಬೇಡಿ.

10. ಅಭ್ಯರ್ಥಿಗಳು OMR ಉತ್ತರ ಪತ್ರಿಕೆಯಲ್ಲಿ ವಿವರಗಳನ್ನು, ಅಂದರೆ, ಅರ್ಜಿ ಸಂಖ್ಯೆ, ಕ್ರಮ ಸಂಖ್ಯೆ, ಪರೀಕ್ಷಾ ಪುಸ್ತಿಕೆ ಸಂಖ್ಯೆ, ಹೆಸರು, ತಾಯಿಯ ಹೆಸರು, ತಂದೆಯ ಹೆಸರು ಮತ್ತು ಸಹಿಗಳನ್ನು ಸರಿಯಾಗಿ ಭರ್ತಿ ಮಾಡಿರುವುದನ್ನು ಖಚಿತಪಡಿಸಿಕೊಳ್ಳಲು ಸೂಚಿಸಲಾಗಿದೆ.

11. ಇಂಗ್ಲಿಷ್ ಮತ್ತು ಕನ್ನಡ/ಪ್ರಾದೇಶಿಕ ಭಾಷಾ ಆವೃತ್ತಿಯಲ್ಲಿ ಯಾವುದೇ ಪ್ರಶ್ನೆಯಲ್ಲಿ ಯಾವುದೇ ವ್ಯತ್ಯಾಸವಿದ್ದಲ್ಲಿ, ಮೌಲ್ಯಮಾಪನಕ್ಕಾಗಿ ಇಂಗ್ಲಿಷ್ ಆವೃತ್ತಿಯನ್ನು ಅಂತಿಮ ಆವೃತ್ತಿಯಾಗಿ ಪರಿಗಣಿಸಲಾಗುತ್ತದೆ.

12. ರಫ್ ಕೆಲಸಗಳಿಗೆ ಅದೇ ಉದ್ದೇಶಕ್ಕಾಗಿ ಪರೀಕ್ಷಾ ಪುಸ್ತಿಕೆಯಲ್ಲಿ ನೀಡಿರುವ ನಿಗದಿತ ಜಾಗವನ್ನು ಮಾತ್ರ ಬಳಸಬೇಕು.

13. ಎಲೆಕ್ಟ್ರಾನಿಕ್ ಸ್ಕ್ಯಾನಿಂಗ್ ಪ್ರಕ್ರಿಯೆಯ ಮೂಲಕ ಉತ್ತರಗಳನ್ನು ಮೌಲ್ಯಮಾಪನ ಮಾಡಲಾಗುತ್ತದೆ. ಅಪೂರ್ಣ ಅಥವಾ ತಪ್ಪಾದ ನಮೂದುಗಳು OMR ಉತ್ತರ ಹಾಳೆಯನ್ನು ಅಮಾನ್ಯಗೊಳಿಸಬಹುದು.

14. OMR ಉತ್ತರ ಪತ್ರಿಕೆಯಲ್ಲಿ ಯಾವುದೇ ತಪ್ಪು ಗುರುತುಗಳನ್ನು ಮಾಡದಂತೆ ಅಥವಾ ಮಡಿಸದಂತೆ ಅಭ್ಯರ್ಥಿಗಳಿಗೆ ಸೂಚಿಸಲಾಗಿದೆ. ಪರೀಕ್ಷೆಯ ಸಮಯದಲ್ಲಿ OMR ಉತ್ತರ ಪತ್ರಿಕೆಯನ್ನು ಯಾವುದೇ ರೀತಿಯಲ್ಲಿ ಚಿತ್ತು ಮಾಡಲು, ಕೆರೆಯಲು ಅಥವಾ ಹಾನಿ ಮಾಡಲು ಎರೇಸರ್, ಉಗುರು, ಬ್ಲೇಡ್, ವೈಟ್ ಫ್ಲೂಯಿಡ್/ವೈಟ್ನರ್ ಇತ್ಯಾದಿಗಳ ಬಳಕೆಯನ್ನು ಕಟ್ಟುನಿಟ್ಟಾಗಿ ನಿಷೇಧಿಸಲಾಗಿದೆ. OMR ಉತ್ತರ ಪತ್ರಿಕೆಯನ್ನು ಯಾವುದೇ ರೀತಿಯಲ್ಲಿ ಚಿತ್ತು ಮಾಡಲು, ಕೆರೆಯಲು ಅಥವಾ ಹಾನಿ ಮಾಡಲು ಎರೇಸರ್, ಉಗುರು, ಬ್ಲೇಡ್, ವೈಟ್ ಫ್ಲೂಯಿಡ್/ವೈಟ್ನರ್ ಇತ್ಯಾದಿಗಳ ಬಳಕೆ ಮಾಡಿದ ಅಭ್ಯರ್ಥಿಗಳ ಹಾಜರಾತಿ ಮತ್ತು ಉತ್ತರ ಪತ್ರಿಕೆಯನ್ನು ರದ್ದುಗೊಳಿಸಲಾಗುವುದು.

15. OMR ಉತ್ತರ ಪತ್ರಿಕೆಯ ಒಂದೇ ಪ್ರತಿ ಇರುತ್ತದೆ, ಅದೇ ಮೂಲ ಪ್ರತಿ. ಪರೀಕ್ಷೆ ಮುಗಿದ ನಂತರ, ಅಭ್ಯರ್ಥಿ OMR ಉತ್ತರ ಪತ್ರಿಕೆಯನ್ನು ಇನ್ವಿಜಿಲೇಟರ್‌ಗೆ ಹಸ್ತಾಂತರಿಸಬೇಕು. ಪರೀಕ್ಷೆ ಮುಗಿದ ನಂತರ ಅಭ್ಯರ್ಥಿಯು ಪರೀಕ್ಷಾ ಪುಸ್ತಿಕೆಯನ್ನು ತೆಗೆದುಕೊಂಡು ಹೋಗಬಹುದು. ಅಭ್ಯರ್ಥಿಯು OMR ಉತ್ತರ ಪತ್ರಿಕೆಯನ್ನು ಇನ್ವಿಜಿಲೇಟರ್‌ಗೆ ಹಸ್ತಾಂತರಿಸದಿದ್ದರೆ ಮತ್ತು OMR ಉತ್ತರ ಪತ್ರಿಕೆಯೊಂದಿಗೆ ಹೋದರೆ, ಅವರ ಹಾಜರಾತಿಯನ್ನು ರದ್ದುಗೊಳಿಸಲಾಗುತ್ತದೆ ಮತ್ತು ಅವರ ವಿರುದ್ಧ ಕ್ರಿಮಿನಲ್ ಮೊಕದ್ದಮೆಗಳನ್ನು ಸಹ ಪ್ರಾರಂಭಿಸಲಾಗುವುದು.

16. ಅಭ್ಯರ್ಥಿಗಳು ಪರೀಕ್ಷಾ ಕೇಂದ್ರದೊಳಗೆ ಕರವಸ್ತ್ರ, ಯಾವುದೇ ಮೊಬೈಲ್ ಫೋನ್, ಯಾವುದೇ ರೀತಿಯ ಗಡಿಯಾರ ತೆಗೆದುಕೊಂಡು ಹೋಗುವುದನ್ನು ಮತ್ತು ಬೆಲ್ಟ್ ಅಥವಾ ಉಂಗುರ, ಸರಪಳಿ, ಕಿವಿ-ಉಂಗುರ ಮುಂತಾದ ಆಭರಣಗಳನ್ನು ಧರಿಸುವುದನ್ನು ಹಾಗೂ ಎಲೆಕ್ಟ್ರಾನಿಕ್ ಅಥವಾ ಸಂವಹನ ಸಾಧನ, ಪೆನ್, ಪೆನ್ಸಿಲ್, ಎರೇಸರ್, ಶಾರ್ಪನರ್ ಮತ್ತು ತಿದ್ದುಪಡಿ ದ್ರವ ತೆಗೆದುಕೊಂಡು ಹೋಗುವುದನ್ನು ಕಟ್ಟುನಿಟ್ಟಾಗಿ ನಿಷೇಧಿಸಲಾಗಿದೆ. ಯಾವುದೇ ಅಭ್ಯರ್ಥಿಯು ಅಂತಹ ಯಾವುದೇ ಐಟಂ ಹೊಂದಿರುವುದು ಕಂಡುಬಂದರೆ ಅವರಿಗೆ ಪರೀಕ್ಷಾ ಕೇಂದ್ರ ಪ್ರವೇಶಿಸಲು ಅನುಮತಿಸಲಾಗುವುದಿಲ್ಲ. ಅಭ್ಯರ್ಥಿಯು ಪರೀಕ್ಷಾ ಕೊಠಡಿಯಲ್ಲಿ ಮೇಲೆ ತಿಳಿಸಿದಂತೆ ಮೊಬೈಲ್ ಫೋನ್ ಅಥವಾ ಯಾವುದೇ ಇತರ ಸಹಾಯ ಸಾಮಗ್ರಿಯನ್ನು ಹೊಂದಿರುವುದು ಕಂಡುಬಂದಲ್ಲಿ ಅದನ್ನು ಗಂಭೀರ ಉಲ್ಲಂಘನೆ ಎಂದು ಪರಿಗಣಿಸಲಾಗುತ್ತದೆ ಮತ್ತು ಪರಿಣಾಮವಾಗಿ ಇದು ಹಾಜರಾತಿಯನ್ನು ರದ್ದುಗೊಳಿಸುವುದಕ್ಕೆ ಕಾರಣವಾಗಬಹುದು ಮತ್ತು ಭವಿಷ್ಯದ ಪರೀಕ್ಷೆಗಳಿಂದ ಅವರನ್ನು ಡಿಬಾರ್ ಮಾಡಬಹುದು.

17. ಅಭ್ಯರ್ಥಿಯು ಯಾವುದೇ ಸೂಚನೆಗಳನ್ನು ಉಲ್ಲಂಘಿಸಿದಲ್ಲಿ ಅಥವಾ ಯಾವುದೇ ಅಶಿಸ್ತು ಅಥವಾ ಅನುಚಿತ ವರ್ತನೆ ತೋರಿಸಿದಲ್ಲಿ ಅವರ ಹಾಜರಾತಿಯನ್ನು ರದ್ದು ಮಾಡಲಾಗುವುದು ಮತ್ತು ಭವಿಷ್ಯದ ಪರೀಕ್ಷೆಗಳಿಂದ ಡಿಬಾರಿಂಗ್ ಸೇರಿದಂತೆ ಸೂಕ್ತ ಕ್ರಮ ಕೈಗೊಳ್ಳಲಾಗುವುದು.

18. ಎಲೆಕ್ಟ್ರಾನಿಕ್/ಹಸ್ತಚಾಲಿತ ಕ್ಯಾಲ್ಕುಲೇಟರ್ ಬಳಕೆಗೆ ಅನುಮತಿಯಿಲ್ಲ.