Test Booklet No.
পরীক্ষার বুকলেট নং

Subject : GENERAL TEST
Code : 501 EBG (New)
Medium : English and Bengali

Test Booklet Code
পরীক্ষার বুকলেট কোড

D

(Do not open this Test Booklet until you are asked to do so)

(যতক্ষণ না আপনাকে টেস্ট বুকলেট খুলতে বলা হয় ততক্ষণ এই টেস্ট বুকলেট খুলবেন না)

*Time Allowed : **60** minutes* *অনুমোদিত সময় : **60** মিনিট*	*Maximum Marks : **250*** *সর্বোচ্চ মার্কস : **250***	*Total Questions : **60*** *মোট প্রশ্ন : **60***	*Number of questions to be answered : **50*** *উত্তর দেওয়ার জন্য প্রশ্নের সংখ্যা : **50***

Kindly read the Instructions given on this Page and Back Page carefully before attempting this Question Paper.

এই প্রশ্নপত্রের উত্তর করার আগে দয়া করে এই পৃষ্ঠা এবং পিছনের পৃষ্ঠায় দেওয়া নির্দেশাবলী যত্নসহকারে পড়ুন।

Important Instructions for the Candidates :

1. This Test Booklet contains **60** questions printed in English and Bengali. Out of these, the candidate is required to answer any **50** questions. If a candidate answers more than 50 questions, the first 50 answered questions will be considered for evaluation.
2. When you are given the OMR Answer Sheet, fill in your particulars on it carefully with **blue/black** ball point pen only.
3. Use only Blue/Black Ball Point Pen for marking responses.
4. The CODE for this Test Booklet is **D**. Make sure that the CODE printed on the OMR Answer Sheet is the same as that on this Test Booklet. Also ensure that your Test Booklet No. and OMR Answer Sheet No. are exactly the same. In case of discrepancy, the candidate should immediately report the matter to the Invigilator for replacement of both the Test Booklet and the OMR Answer Sheet. No claim in this regard will be entertained after five minutes from the start of the examination.
5. Before attempting the question paper kindly check that this Test Booklet has total **28** pages and OMR Answer Sheet consists of one sheet. At the start of the examination within first five minutes, candidates are advised to ensure that all pages of Test Booklet and OMR Answer Sheet are properly printed and they are not damaged in any manner.
6. Each question has four answer options. Out of these four options choose the **MOST APPROPRIATE OPTION** and darken/blacken the corresponding circle on the OMR Answer Sheet with a Blue/Black Ball Point Pen.
7. Five (5) marks will be given for each correct answer. One (1) mark will be deducted for each incorrect answer. If more than one circle is found darkened/blackened for a question, then it will be considered as an incorrect answer. Unanswered questions will be given no mark.

P.T.O.

প্রার্থীদের জন্য গুরুত্বপূর্ণ নির্দেশনা :

1. এই পরীক্ষার পুস্তিকাটিতে ইংরেজি এবং বাংলায় মুদ্রিত **60টি** প্রশ্ন রয়েছে। এর মধ্যে প্রার্থীকে যেকোনো **50টি** প্রশ্নের উত্তর দিতে হবে। যদি একজন প্রার্থী 50টির বেশি প্রশ্নের উত্তর দেন, তাহলে প্রথম 50টি উত্তর দেওয়া প্রশ্ন মূল্যায়ণের জন্য বিবেচনা করা হবে।
2. শুধুমাত্র OMR উত্তরপত্রে **নীল/কালো** বল পয়েন্ট পেন দিয়ে সাবধানে আপনার বিবরণ পূরণ করুন।
3. উত্তর চিহ্নিত করার জন্য শুধুমাত্র নীল/কালো বল পয়েন্ট পেন ব্যবহার করুন।
4. এই পরীক্ষার পুস্তিকাটির কোড হল **D** । নিশ্চিত করুন যে OMR উত্তরপত্রে মুদ্রিত কোডটি এই পরীক্ষার পুস্তিকাটির মতোই। এছাড়াও নিশ্চিত করুন যে আপনার পরীক্ষার পুস্তিকা নং এবং ওএমআর উত্তরপত্র নং হুবহু একই। অমিলের ক্ষেত্রে, পরীক্ষার্থীকে পরীক্ষামূলক পুস্তিকা এবং ওএমআর উত্তরপত্র উভয়ই পাল্টে দেওয়ার জন্য অবিলম্বে পরীক্ষা হলের দায়িত্বে থাকা ব্যক্তির কাছে বিষয়টি রিপোর্ট করতে হবে। পরীক্ষা শুরু হওয়ার পাঁচ মিনিট পর এ বিষয়ে কোনো দাবি গ্রহণ করা হবেনা।
5. প্রশ্নপত্রের উত্তর করার আগে দয়া করে দেখে নিন যে এই পরীক্ষার পুস্তিকাটিতে মোট **28** পৃষ্ঠা রয়েছে এবং ওএমআর উত্তরপত্রের পাতা সংখ্যা একটি। পরীক্ষার শুরুতে প্রথম পাঁচ মিনিটের মধ্যে, পরীক্ষার্থীদের পরামর্শ দেওয়া হয় যে পরীক্ষার পুস্তিকা এবং ওএমআর উত্তর পত্রের সমস্ত পৃষ্ঠাগুলি সঠিক ভাবে মুদ্রিত হয়েছে এবং সেগুলি কোনও ভাবে ক্ষতিগ্রস্ত না।
6. প্রতিটি প্রশ্নের চারটি বিকল্প আছে। এই চারটি বিকল্পের মধ্যে **সবচেয়ে উপযুক্ত বিকল্পটি** বেছে নিন এবং একটি নীল/কালো বলপয়েন্ট পেন দিয়ে OMR উত্তরপত্রে সংশ্লিষ্ট বৃত্তটিকে ডার্ক/কালো করুন।
7. প্রতিটি সঠিক উত্তরের জন্য পাঁচ (5) নম্বর দেওয়া হবে। প্রতিটি ভুল উত্তরের জন্য এক (1) নম্বর কাটা হবে। যদি একটি প্রশ্নের জন্য একাধিক বৃত্ত ডার্ক/কালো পাওয়া যায়, তবে এটি একটি ভুল উত্তর হিসাবে বিবেচিত হবে। উত্তর না দেওয়া প্রশ্নে কোন মার্ক দেওয়া হবে না।

কৃ.পৃ.প.

Name of the Candidate (in Capital Letters) : _____
প্রার্থীর নাম (ক্যাপিটাল অক্ষরে) :

Application Number (in figures) : _____
আবেদন নম্বর (সংখ্যায়) :

Roll Number (in figures) : _____
রোল নম্বর (সংখ্যায়) :

Centre of Examination (in Capital Letters) : _____
পরীক্ষা কেন্দ্র (ক্যাপিটাল লেটারে):

Candidate's Signature : _____ Invigilator's Signature : _____
পরীক্ষার্থীর স্বাক্ষর : পরিদর্শকের স্বাক্ষর :

Facsimile signature stamp of Centre Superintendent : _____
কেন্দ্র সুপারিনটেনডেন্টের ফ্যাসিমাইল স্বাক্ষর স্ট্যাম্প :

1. Find the missing number in the following figure.

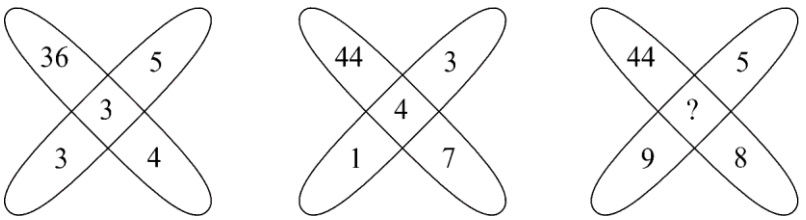

(1) 3 (2) 4 (3) 1 (4) 2

2. In the given analogy, choose the number which will replace the question mark (?).

WSH : 5 : : KMJ : ?

(1) 3 (2) 7 (3) 5 (4) 2

3. From the given options, at what angle are the hands of a clock inclined at 10 minutes to 2 (Smaller angle) ?

(1) 115° (2) 65° (3) 120° (4) 112°

4. If 1st January, 2001 was a Monday, what was the day on 26th January, 2003 ?

(1) Saturday (2) Sunday

(3) Monday (4) Wednesday

5. What comes in place of the question mark (?) in the series given below ?

B2D, C3F, E5J, G7N, ?, M13Z

(1) I9R (2) K11Z

(3) K9W (4) K11V

6. Which one will replace the question mark (?) ?

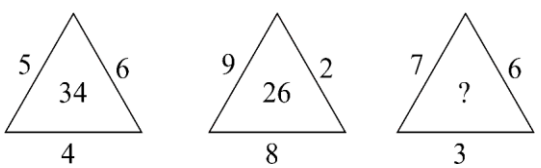

(1) 40 (2) 43 (3) 44 (4) 45

SPACE FOR ROUGH WORK

1. নিম্নলিখিত চিত্রে অনুপস্থিত অক্ষরটি খুঁজে বের করুন।

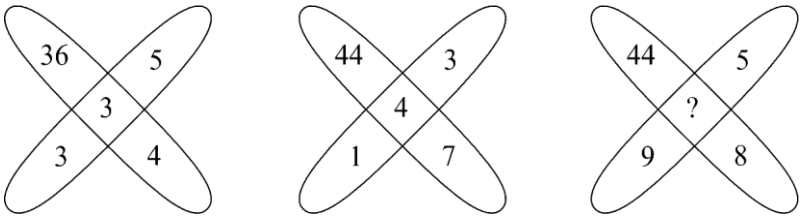

(1) 3 (2) 4 (3) 1 (4) 2

2. প্রদত্ত সাদৃশ্যটিতে, প্রশ্ন চিহ্নটি প্রতিস্থাপন করবে এমন সংখ্যাটি বেছে নিন।

WSH : 5 : : KMJ : ?

(1) 3 (2) 7 (3) 5 (4) 2

3. প্রদত্ত বিকল্পগুলি থেকে, একটি ঘড়ির কাটা গুলী 2 এর ঘর থেকে 10 মিনিট দূরে থাকা অবস্থায় কোণ কি হবে (ন্যূনতম কোণটি)?

(1) 115° (2) 65° (3) 120° (4) 112°

4. 2001 সালের 1লা জানুয়ারি যদি সোমবার হত, তা হলে 2003 সালের 26শে জানুয়ারি কোন দিন ছিল?

(1) শনিবার (2) রবিবার

(3) সোমবার (4) বুধবার

5. নীচের সিরিজে প্রশ্ন চিহ্ন (?)-এর জায়গায় কী আসবে?

B2D, C3F, E5J, G7N, ?, M13Z

(1) I9R (2) K11Z

(3) K9W (4) K11V

6. কোনটি, প্রশ্ন চিহ্নটি প্রতিস্থাপন করবে?

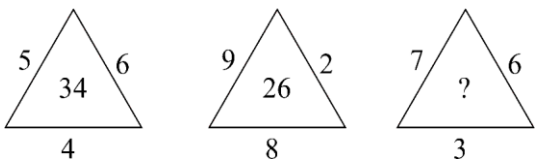

(1) 40 (2) 43 (3) 44 (4) 45

SPACE FOR ROUGH WORK

7. Take the given statements to be true even if they seem to be at variance with commonly known facts. Then decide which of the given conclusions logically follow the given statements.

Statements :

0% chairs are tables.

All computers are chairs.

Some books are tables.

Conclusions :

I. Not a single table is a computer.

II. Some books are not chairs.

(1) Only conclusion I follows.

(2) Only conclusion II follows.

(3) Both conclusions I and II follow.

(4) Neither conclusion I nor II follows.

8. Read the directions carefully and give the answer from the given options.

P, Q, R, S, T, K, L, M and N are sitting around a circle facing the centre.

K is 4th to the right of P and P is 3rd to the right of Q.

N is 4th to the left of Q and 3rd to the right of S.

R is 2nd to the right of M and M is the immediate neighbour of P.

T is 2nd to the left of L.

Who is to the immediate left of K ?

(1) R (2) T (3) Q (4) M

9. Find the number of triangles in the given figure.

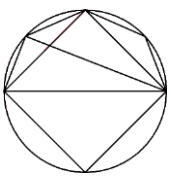

(1) 8 (2) 10

(3) 12 (4) 14

SPACE FOR ROUGH WORK

7. প্রদত্ত বিবৃতিগুলি সত্য বলে মনে করুন, যদিও সেগুলি সাধারণভাবে পরিচিত তথ্যের সঙ্গে ভিন্ন বলে মনে হয়। তারপর সিদ্ধান্ত নিন যে প্রদত্ত সিদ্ধান্তগুলির মধ্যে কোনটি যুক্তিসঙ্গতভাবে প্রদত্ত বিবৃতিগুলি অনুসরণ করে।

বিবৃতি :

0 শতাংশ চেয়ার হল টেবিল।

সব কম্পিউটারই চেয়ার।

কিছু বই হল টেবিল।

উপসংহার :

I. একটি টেবিলও কম্পিউটার নয়।

II. কিছু বই চেয়ার নয়।

(1) একমাত্র উপসংহার I অনুসরণ করা হচ্ছে।

(2) শুধুমাত্র II উপসংহারটি অনুসরণ করা হচ্ছে।

(3) I এবং II উভয় সিদ্ধান্তই অনুসরণ করা হচ্ছে।

(4) I বা II কোনও উপসংহারই অনুসরণ করা হচ্ছে না।

8. নির্দেশাবলী সাবধানে পড়ুন এবং প্রদত্ত বিকল্পগুলি থেকে উত্তর দিন।

P, Q, R, S, T, K, L, M এবং N কেন্দ্রের দিকে মুখ করে একটি বৃত্তের চারপাশে বসে আছে।

K হল P-এর ডানদিকে 4র্থ এবং P হল Q-এর ডানদিকে 3য়।

N হল Q-এর বাম দিকে 4র্থ এবং S-এর ডানদিকে 3য়।

R হল M-এর ডানদিকে 2য় এবং M হল P-এর একান্ন নিকটবর্তী প্রতিবেশী।

T হল L-এর বাম দিকে 2য়।

K-এর অবিলম্বে বাম দিকে কে?

(1) R (2) T (3) Q (4) M

9. প্রদত্ত চিত্রে ত্রিভুজের মোট সংখ্যা খুঁজুন।

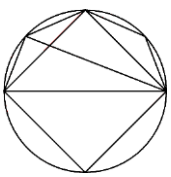

(1) 8 (2) 10

(3) 12 (4) 14

SPACE FOR ROUGH WORK

10. Rakesh is 17th from the right and Ankit is 15th from the left in a line of students. If they interchange their places, the position of Ankit becomes 19th from the left. How many students are there in the line ?

(1) 36 (2) 35

(3) 34 (4) 33

11. In a family, Bhanu is the father of Kamlesh. Bhanu has only two children. Kamlesh is the brother of Ritu. Ritu is the daughter of Santosh. Aryan is the grandson of Santosh. Sunny is the father of Aryan. How is Sunny related to Bhanu ?

(1) Son-in-law (2) Son

(3) Nephew (4) Brother-in-law

12. Identify the number that will replace the question mark in the second equation based on the relationship represented in the first equation.

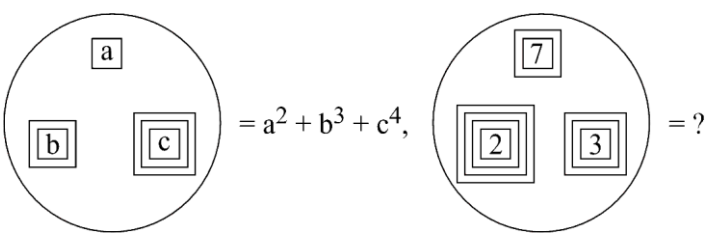

(1) 420 (2) 92 (3) 602 (4) 456

13. Choose the box that is similar to the box formed from the given sheet of paper (Y).

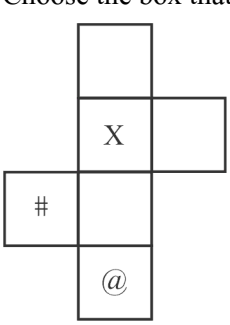

(Y)

(1) 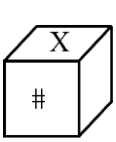

(2) 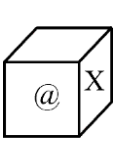

(3) 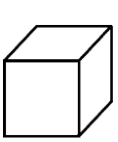

(4) 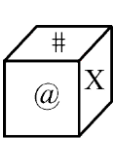

SPACE FOR ROUGH WORK

10. ছাত্রদের সারিতে রাকেশ ডান দিক থেকে 17তম এবং অঙ্কিত বাম দিক থেকে 15তম। যদি তারা তাদের স্থান বিনিময় করে, অঙ্কিতের অবস্থান বাম থেকে 19তম হয়ে যায়। সারিতে কতজন শিক্ষার্থী রয়েছে?

(1) 36 (2) 35

(3) 34 (4) 33

11. একটি পরিবারে ভানু হলেন কমলেশের বাবা। ভানুর মাত্র দুটি সন্তান রয়েছে।.কমলেশ ঋতুর ভাই। ঋতু হলেন সন্তোষের কন্যা। আরিয়ান সন্তোষের নাতি। সানি হলেন আরিয়ানের বাবা। সানির সঙ্গে ভানুর সম্পর্ক কোনটি?

(1) জামাতা (2) ছেলে

(3) ভাগ্নে (4) শ্যালক

12. প্রথম সমীকরণে উপস্থাপিত সম্পর্কের উপর ভিত্তি করে দ্বিতীয় সমীকরণে প্রশ্ন চিহ্নটি (?) প্রতিস্থাপন করবে এমন সংখ্যাটি চিহ্নিত করুন।

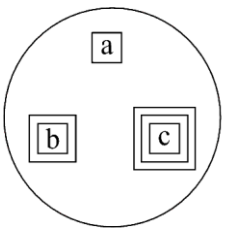

$= a^2 + b^3 + c^4,$

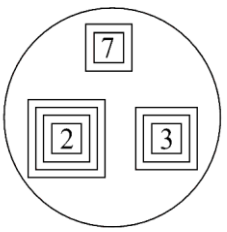

$= ?$

(1) 420 (2) 92 (3) 602 (4) 456

13. প্রদত্ত কাগজের শীট/ টুকরো (Y) থেকে তৈরি বাক্সের অনুরূপ বাক্সটি বেছে নিন।

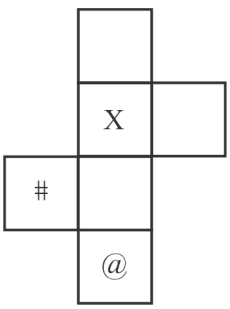

(Y)

(1) 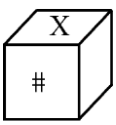

(2) 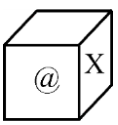

(3) 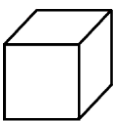

(4) 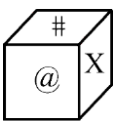

SPACE FOR ROUGH WORK

14. Find the number of triangles in the given figure.

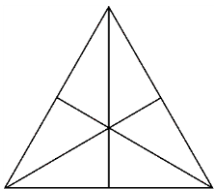

(1) 14 (2) 15

(3) 16 (4) 18

15. Which option figure will complete the pattern in the given figure ?

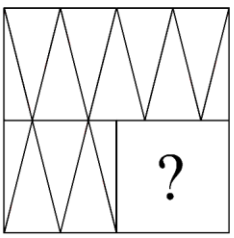

(1) 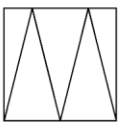

(2) 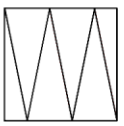

(3) 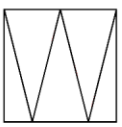

(4) 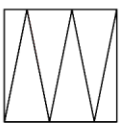

16. A woman leaves her home. She walks 40 m in North-West direction and then 90 m in South-East direction. Then, she moves 30 m in North direction. How far is she now from her initial position ?

(1) 30 m

(2) 60 m

(3) 50 m

(4) 40 m

SPACE FOR ROUGH WORK

14. প্রদত্ত চিত্রে মোট ত্রিভুজের সংখ্যা খুঁজুন।

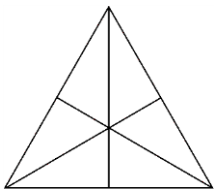

(1) 14 (2) 15

(3) 16 (4) 18

15. কোন বিকল্প চিত্রটি চিত্রের প্যাটার্নটি সম্পূর্ণ করবে?



(1) 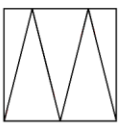

(2) 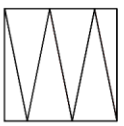

(3) 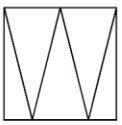

(4) 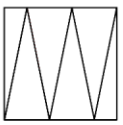

16. এক মহিলা তার বাড়ি ছেড়ে চলে যায়। তিনি উত্তর-পশ্চিম দিকে 40 মিটার এবং তারপর দক্ষিণ-পূর্ব দিকে 90 মিটার হাঁটেন। তারপর, সে উত্তর দিকে 30 মিটার এগিয়ে যায়। সে এখন তার প্রাথমিক অবস্থান থেকে কত দূরে?

(1) 30 মিটার

(2) 60 মিটার

(3) 50 মিটার

(4) 40 মিটার

SPACE FOR ROUGH WORK

17. In the given question, a statement is given followed by some conclusions. Choose the conclusion(s) which logically follow(s) the given statement.

Statement :

Few shops on this road have neon lights, but they all have signboards.

Conclusions :

I. Some shops have either signboards or neon lights.

II. Some shops have no signboards.

III. Some shops have no neon lights.

IV. Some shops have both signboards and neon lights.

The conclusion(s) correctly drawn is/are :

(1) IV alone

(2) I alone

(3) II and III

(4) III and IV

18. Anubhav spent 14% of his income on electricity bills, 28% on rent and 18% on shopping. If $\frac{1}{4}^{th}$ of the remaining amount is ₹ 5120, how much did he spend on electricity bills ?

(1) ₹ 7160 (2) ₹ 7168

(3) ₹ 8160 (4) ₹ 9000

19. If the average of p numbers is q^2 and that of q numbers is p^2, then the average of (p + q) numbers is :

(1) $\frac{p}{q}$ (2) $p + q$

(3) pq (4) $p - q$

20. The sum of the digits of a two-digit number is 10. If 18 is subtracted from it, the digits in the resulting number will be equal. The number is :

(1) 75

(2) 73

(3) 65

(4) 64

SPACE FOR ROUGH WORK

17. প্রদত্ত প্রশ্নটিতে একটি বিবৃতি দেওয়া হয় যার থেকে কিছু সিদ্ধান্ত নেওয়া হয়। উপসংহার (গুলি) বেছে নিন যা যুক্তিসঙ্গতভাবে প্রদত্ত বিবৃতি অনুসরণ করে।

বিবৃতি :

এই রাস্তার কয়েকটি দোকানে নিয়ন লাইট রয়েছে, তবে সেগুলির প্রত্যেকটিতে সাইনবোর্ড রয়েছে।

উপসংহার :

I. কিছু কিছু দোকানে সাইনবোর্ড বা নিয়ন লাইট থাকে।

II. কিছু কিছু দোকানে সাইনবোর্ড নেই।

III. কিছু কিছু দোকানে নিয়ন লাইট নেই।

IV. কিছু কিছু দোকানে সাইনবোর্ড এবং নিয়ন লাইট উভয়ই থাকে।

সঠিকভাবে যে উপসংহার (গুলি) আঁকা হয়েছে তা হল :

(1) IV শুধুমাত্র

(2) I শুধুমাত্র

(3) II এবং III

(4) III এবং IV

18. অনুভব তাঁর আয়ের 14 শতাংশ বিদ্যুতের বিলে, 28 শতাংশ বাড়ি-ভাড়ায় এবং 18 শতাংশ কেনাকাটায় ব্যয় করেন। যদি অবশিষ্ট পরিমাণের $\frac{1}{4}$ 5,120 টাকা হয়, তাহলে তিনি বিদ্যুতের বিলে কত খরচ করেছেন?

(1) ₹ 7160 (2) ₹ 7168

(3) ₹ 8160 (4) ₹ 9000

19. যদি p সংখ্যক সংখ্যার গড় q^2 হয় এবং q সংখ্যক সংখ্যার গড় হল p^2. তাহলে (p + q) সংখ্যক সংখ্যার গড় হবে :

(1) $\frac{p}{q}$ (2) $p + q$

(3) pq (4) $p - q$

20. একটি দুই অঙ্কের সংখ্যার অঙ্কগুলির সমষ্টি হল 10 .যদি এই প্রদত্ত সংখ্যা থেকে 18 বিয়োগ করা হয়, তাহলে ফলাফল সংখ্যার সংখ্যা এর (প্রদত্ত সংখ্যা) সমান হবে।সংখ্যাটি হলো :

(1) 75

(2) 73

(3) 65

(4) 64

SPACE FOR ROUGH WORK

21. Ajay walks at a speed of 4 km/hr. He doubles his speed after reaching exactly half way. He walks for 12 hours in all. What is the total distance travelled by him ?

(1) 32 km (2) 30 km

(3) 64 km (4) 60 km

22. Aman can go downstream thrice as fast as he can go upstream between two specific points on a river. If the river flows at 8 kmph, what is the speed of the boat in still water (in kmph) ?

(1) 14 kmph (2) 15 kmph

(3) 16 kmph (4) 18 kmph

23. A shopkeeper earned a profit (in ₹) by selling an item, which is three times the discount offered (in ₹). If the discount offered is 6.25%, what is his profit percentage ?

(1) 20% (2) 25%

(3) 10% (4) 12%

24. The total population of a town is 50,000. The number of males and females increases by 10% and 15% respectively and consequently the population of the town becomes 56,000. What was the number of males in the town ?

(1) 20,000 (2) 30,000

(3) 35,000 (4) 40,000

25. A 6-digit number has digits as consecutive natural numbers. The number is always divisible by :

(1) 3 (2) 4

(3) 5 (4) 2

26. The average of 101 consecutive odd numbers is 303. Find the largest number.

(1) 373 (2) 401

(3) 403 (4) 409

27. If A : B = 5 : 6 and B : C = 6 : 7, then A + B : B + C : A + C is :

(1) 10 : 12 : 11 (2) 9 : 11 : 10

(3) 11 : 13 : 12 (4) 19 : 21 : 20

SPACE FOR ROUGH WORK

21. অজয় 4 কিমি/ঘণ্টা গতিতে হাঁটেন। ঠিক অর্ধেক পথে পৌঁছনোর পর সে তার গতি দ্বিগুণ করে। তিনি সর্বমোট 12 ঘন্টা হাঁটেন। তিনি মোট কত দূরত্ব অতিক্রম করেছেন?

(1) 32 কিমি (2) 30 কিমি

(3) 64 কিমি (4) 60 কিমি

22. আমান নদীর উপর দুটি নির্দিষ্ট বিন্দুর মধ্যে উজানে (স্রোত এর বিপরীত) যাওয়ার চেয়ে স্রোত এর দিকে তিনগুণ দ্রুত যেতে পারে। যদি নদীটি 8 কিমি/ঘণ্টা বেগে প্রবাহিত হয়, তবে স্থির জলে নৌকার গতিবেগ কত (কিমি/ঘন্টায়)?

(1) 14 কিমি/ঘণ্টা (2) 15 কিমি/ঘণ্টা

(3) 16 কিমি/ঘণ্টা (4) 18 কিমি/ঘণ্টা

23. একজন দোকানদার একটি জিনিস বিক্রি করে মুনাফা (₹-এ) অর্জন করেন, যা প্রদত্ত ছাড়ের (₹-এ) তিনগুণ।.যদি ছাড় এর শতাংশ 6.25% হয়, তার লাভের শতাংশ কত?

(1) 20 শতাংশ (2) 25 শতাংশ

(3) 10 শতাংশ (4) 12 শতাংশ

24. একটি শহরের মোট জনসংখ্যা 50,000 জন। পুরুষ ও মহিলাদের সংখ্যা যথাক্রমে 10 শতাংশ এবং 15 শতাংশ বৃদ্ধি পেয়েছে এবং ফলস্বরূপ শহরের জনসংখ্যা 56,000 হয়ে গেছে। শহরে পুরুষের সংখ্যা কত ছিল?

(1) 20,000 (2) 30,000

(3) 35,000 (4) 40,000

25. একটি 6-সংখ্যার সংখ্যায় পরপর প্রাকৃতিক অঙ্ক হিসাবে সংখ্যাটি আছে। সংখ্যাটি সর্বদা কী দ্বারা বিভাজ্য :

(1) 3 (2) 4

(3) 5 (4) 2

26. পরপর 101টি বিজোড় সংখ্যার গড় হল 303 । সবচেয়ে বড় সংখ্যাটি খুঁজে বের করুন

(1) 373 (2) 401

(3) 403 (4) 409

27. যদি A : B = 5 : 6 এবং B : C = 6 : 7 হয়, তাহলে A + B : B + C : A + C হবে :

(1) 10 : 12 : 11 (2) 9 : 11 : 10

(3) 11 : 13 : 12 (4) 19 : 21 : 20

SPACE FOR ROUGH WORK

28. Aman can do 50% of the job in 16 days, and Bhanu can do 25% of the job in 24 days. In how many days can they do $\frac{1}{4}^{th}$ of the job working together ?

(1) 6 days (2) 8 days

(3) 10 days (4) 12 days

29. In 80 litres mixture of milk and water, the ratio of amount of milk to that of amount of water is 7 : 3. In order to make this ratio 2 : 1, how many litres of water should be added ?

(1) 5 litres (2) 6 litres

(3) 4 litres (4) 10 litres

30. In a triangle PQR, if $\angle P + \angle R = 150°$ and $\angle P + 3\angle Q = 170°$, then $\angle P$ is equal to :

(1) 70° (2) 80°

(3) 75° (4) 65°

31. Aman invested ₹ (P + 3000) for 3 years at 8% simple interest. Anuj invested an amount of ₹ P for 2 years at 12% compound interest and received the same amount of interest as Aman received. Find the amount that is invested by Anuj.

(1) ₹ 45,000 (2) ₹ 50,000

(3) ₹ 55,000 (4) ₹ 60,000

32. In the Delhi zoo, there are some ducks and rabbits. If the heads are counted there are 160, while the legs are 450. What will be number of ducks in the zoo ?

(1) 90 (2) 92

(3) 95 (4) 99

33. Ankit and Raju decided to start a business and they invested ₹ 5500 and ₹ 6500 respectively. After 11 months, the difference between their profits is ₹ 680. Find the total profit.

(1) ₹ 8160

(2) ₹ 7260

(3) ₹ 7000

(4) ₹ 6500

SPACE FOR ROUGH WORK

28. অমন 16 দিনে 50 শতাংশ কাজ করতে পারে এবং ভানু 24 দিনে 25 শতাংশ কাজ করতে পারে। তারা কত দিনে $\frac{1}{4}$ কাজ একসঙ্গে করতে পারে?

(1) 6 দিন (2) 8 দিন

(3) 10 দিন (4) 12 দিন

29. 80 লিটার দুধ ও জলের মিশ্রণে দুধের পরিমাণ ও জলের পরিমাণের অনুপাত 7 : 3 । এই অনুপাত 2 : 1 করতে হলে কত লিটার জল যোগ করতে হবে?

(1) 5 লিটার (2) 6 লিটার

(3) 4 লিটার (4) 10 লিটার

30. একটি ত্রিভুজ PQR -এ, যদি $\angle P + \angle R = 150°$ এবং $\angle P + 3\angle Q = 170°$, তারপর $\angle P$ এর সমান :

(1) 70° (2) 80°

(3) 75° (4) 65°

31. অমন 8 শতাংশ সাধারণ সুদে 3 বছরের জন্য ₹ (P + 3000) বিনিয়োগ করেন। অনুজ 12 শতাংশ চক্রবৃদ্ধি সুদে 2 বছরের জন্য P টাকা বিনিয়োগ করেছিলেন এবং অমন যে পরিমাণ সুদ পেয়েছিলেন সেই পরিমাণ সুদ পেয়েছিলেন। অনুজ যে পরিমাণ অর্থ বিনিয়োগ করেছেন তা খুঁজে বের করুন।

(1) ₹ 45,000 (2) ₹ 50,000

(3) ₹ 55,000 (4) ₹ 60,000

32. দিল্লির চিড়িয়াখানায় কিছু হাঁস এবং খরগোশ রয়েছে। যদি মাথা গণনা করা হয় তবে 160 টি এবং পা 450 টি। চিড়িয়াখানায় হাঁসের সংখ্যা কত হবে?

(1) 90 (2) 92

(3) 95 (4) 99

33. অঙ্কিত এবং রাজু একটি ব্যবসা শুরু করার সিদ্ধান্ত নেয় এবং তারা যথাক্রমে 5500 টাকা এবং 6500 টাকা বিনিয়োগ করে। 11 মাস পর, তাদের লাভের মধ্যে পার্থক্য হল 680 টাকা। মোট মুনাফা খুঁজে বের করুন ।

(1) 8160 টাকা

(2) 7260 টাকা

(3) 7000 টাকা

(4) 6500 টাকা

SPACE FOR ROUGH WORK

34. PQR is a triangle. The bisectors of the internal angle $\angle Q$ and external angle $\angle R$ intersect at M. If $\angle QMR = 40°$, then $\angle P$ is :

(1) 75° (2) 60°

(3) 65° (4) 80°

35. What is the name of the alloy which is obtained after mixing mercury with another metal ?

(1) Solder (2) Amalgam

(3) Duralumin (4) Pewter

36. What is the name of the scheme launched by the Defence Minister at DefConnect 2024 to foster innovation in defence technology ?

(1) INNOVATE (2) TECHBOOST

(3) ADITI (4) DEFEND

37. Who is the author of the book "Kashmir : Travels in Paradise on Earth" ?

(1) Romesh Bhattacharji (2) Vikram Seth

(3) Jhumpa Lahiri (4) Shamas Faqir

38. Which state became the 25th state of India on 30th May, 1987 ?

(1) Telangana (2) Haryana

(3) Gujarat (4) Goa

39. Which of these temples is not located in Uttarakhand ?

(1) Nanda Devi (2) Surkanda Devi

(3) Kalighat Kali (4) Tungnath

40. Which of these states do not share a border with Chhattisgarh ?

(1) Karnataka (2) Madhya Pradesh

(3) Telangana (4) Jharkhand

SPACE FOR ROUGH WORK

34. PQR একটি ত্রিভুজ। অভ্যন্তরীণ কোণ $\angle Q$ এর দ্বিখণ্ডক এবং বাহ্যিক কোণ $\angle R$ এর দ্বিখণ্ডক, M এ ছেদ করে। যদি $\angle QMR = 40°$ তাহলে $\angle P$ এর মান কী হবে?

(1) 75° (2) 60°

(3) 65° (4) 80°

35. অন্য ধাতুর সঙ্গে পারদ মিশিয়ে যে ধাতুসংকর পাওয়া যায় তার নাম কী?

(1) সোল্ডার (2) আমালগাম

(3) ডুরালুমিন (4) পিউটার

36. প্রতিরক্ষা প্রযুক্তিতে উদ্ভাবনকে উৎসাহিত করতে প্রতিরক্ষা মন্ত্রী "DefConnect 2024"-এ যে প্রকল্পের সূচনা করেছেন, তার নাম কী?

(1) INNOVATE (2) TECHBOOST

(3) ADITI (4) DEFEND

37. "Kashmir : Travels in Paradise on Earth" বইয়ের লেখক কে?

(1) রমেশ ভট্টাচার্জি (2) বিক্রম শেঠ

(3) ঝুম্পা লাহিড়ী (4) শামাস ফকির

38. 1987 সালের 30শে মে , কোন রাজ্যটি ভারতের 25তম রাজ্যে পরিণত হয়?

(1) তেলেঙ্গানা (2) হরিয়ানা

(3) গুজরাট (4) গোয়া

39. এই মন্দিরগুলির মধ্যে কোনটি উত্তরাখণ্ডে অবস্থিত নয়?

(1) নন্দা দেবী (2) সুরকান্দা দেবী

(3) কালিঘাট কালি (4) তুঙ্গনাথ

40. এর মধ্যে কোন রাজ্যের সঙ্গে ছত্তিশগড়ের সীমান্ত নেই?

(1) কর্ণাটক (2) মধ্যপ্রদেশ

(3) তেলেঙ্গানা (4) ঝাড়খণ্ড

SPACE FOR ROUGH WORK

41. Which bowler became second Indian bowler to take 500 wickets in Test matches in February, 2024 ?

(1) Harbhajan Singh
(2) Ravichandran Ashwin
(3) Ishant Sharma
(4) Mohammed Shami

42. Which one of the following rivers is not included in 'Panchnad – The five rivers of Punjab' ?

(1) The Luni
(2) The Jhelum
(3) The Chenab
(4) The Sutlej

43. Where was the 15th BRICS Summit-2023 organised ?

(1) South Africa
(2) Brazil
(3) Russia
(4) China

44. Match List I with List II :

List I **Indian Notes (New Currency)**	**List II** **Pictures**
(A) ₹ 10	(I) Ellora Caves
(B) ₹ 100	(II) Konark, Sun Temple
(C) ₹ 500	(III) Rani Ki Vav
(D) ₹ 20	(IV) Red Fort

Choose the correct answer from the options given below :

(1) (A) - (II), (B) - (III), (C) - (I), (D) - (IV)

(2) (A) - (III), (B) - (I), (C) - (IV), (D) - (II)

(3) (A) - (I), (B) - (IV), (C) - (III), (D) - (II)

(4) (A) - (II), (B) - (III), (C) - (IV), (D) - (I)

45. From the given options, name the longest river in Asia.

(1) Yangtze River
(2) Lena River
(3) Indus River
(4) Brahmaputra River

SPACE FOR ROUGH WORK

41. 2024 সালের ফেব্রুয়ারিতে টেস্ট ম্যাচে 500 উইকেট নেওয়া দ্বিতীয় ভারতীয় বোলার কে?

(1) হর্ভজন সিং
(2) রবিচন্দ্রন অশ্বিন
(3) ইশান্ত শর্মা
(4) মহম্মদ শামি

42. নিম্নলিখিত নদীগুলির মধ্যে কোনটি 'পঞ্চনাদ-পঞ্জাবের পাঁচটি নদী'-এর অন্তর্ভুক্ত নয়?

(1) দ্য লুনি
(2) দ্য ঝিলাম
(3) দ্য চেনাব
(4) শতদ্রু

43. 15তম ব্রিকস শীর্ষ সম্মেলন(BRICS Summit)-2023 কোথায় অনুষ্ঠিত হয়েছিল?

(1) দক্ষিণ আফ্রিকা
(2) ব্রাজিল
(3) রাশিয়া
(4) চীন

44. ম্যাচ তালিকা I সঙ্গে তালিকা II :

তালিকা I ভারতীয় নোট (নতুন মুদ্রা)	**তালিকা II ছবিগুলো**
(A) 10 টাকা	(I) ইলোরা গুহা
(B) 100 টাকা	(II) কোণার্ক, সূর্য মন্দির
(C) 500 টাকা	(III) রানী কা ভাভ
(D) 20 টাকা	(IV) লাল কেল্লা

নীচের বিকল্পগুলি থেকে সঠিক উত্তরটি বেছে নিন :

(1) (A) - (II), (B) - (III), (C) - (I), (D) - (IV)
(2) (A) - (III), (B) - (I), (C) - (IV), (D) - (II)
(3) (A) - (I), (B) - (IV), (C) - (III), (D) - (II)
(4) (A) - (II), (B) - (III), (C) - (IV), (D) - (I)

45. প্রদত্ত বিকল্পগুলি থেকে এশিয়ার দীর্ঘতম নদীর নাম বলুন।

(1) ইয়াংজি নদী
(2) লিনা নদী
(3) সিন্ধু নদী
(4) ব্রহ্মপুত্র নদী

46. Arrange the following important days according to their chronological order from January to December :

A. Indian Airforce Day

B. Kargil Victory Day

C. World Soil Day

D. National Youth Day

E. International Women's Day

Select the correct answer from the options given below :

(1) A – D – B – C – E

(2) D – E – B – A – C

(3) D – B – E – C – A

(4) E – A – D – C – B

47. Which Railway Minister from the following, resigned immediately after the 1956 Ariyalur train accident ?

(1) Jagjivan Ram (2) Lal Bahadur Shastri

(3) S.K. Patil (4) Lalit Narayan Mishra

48. Which of the following countries won the FIH Hockey Men's World Cup 2023 ?

(1) Germany (2) Netherlands

(3) Belgium (4) Australia

49. Who won the title of the 6th Khelo India Youth Games 2024 ?

(1) Haryana (2) Maharashtra

(3) Karnataka (4) Tamil Nadu

50. In January 2024, which Indian state was the host of the Purple Fest, the first inclusive festival for persons with disabilities ?

(1) Goa (2) Gujarat

(3) Kerala (4) Maharashtra

SPACE FOR ROUGH WORK

46. জানুয়ারি থেকে ডিসেম্বর পর্যন্ত তাদের কালানুক্রমিক ক্রম অনুসারে নিম্নলিখিত গুরুত্বপূর্ণ দিনগুলি সাজান :

A. ভারতীয় বিমান বাহিনী দিবস

B. কার্গিল বিজয় দিবস

C. বিশ্ব মৃত্তিকা দিবস

D. জাতীয় যুব দিবস

E. আন্তর্জাতিক নারী দিবস

নীচের বিকল্পগুলি থেকে সঠিক উত্তরটি নির্বাচন করুন :

(1) A – D – B – C – E

(2) D – E – B – A – C

(3) D – B – E – C – A

(4) E – A – D – C – B

47. নিম্নলিখিতদের মধ্যে কোন রেলমন্ত্রী 1956 সালের আরিয়ালুর ট্রেন দুর্ঘটনার পর সাথেসাথেই পদত্যাগ করেন?

(1) জগজীবন রাম (2) লাল বাহাদুর শাস্ত্রী

(3) এস.কে.পাটিল (4) ললিত নারায়ণ মিশ্র

48. নিচের কোন দেশ FIH হকি পুরুষ বিশ্বকাপ 2023 জিতেছে?

(1) জার্মানি (2) নেদারল্যান্ডস

(3) বেলজিয়াম (4) অস্ট্রেলিয়া

49. 6ষ্ঠ খেলো ইন্ডিয়া যুব গেমস 2024-এর শিরোপা কে জিতেছে?

(1) হরিয়ানা (2) মহারাষ্ট্র

(3) কর্ণাটক (4) তামিলনাড়ু

50. 2024 সালের জানুয়ারিতে, ভারতের কোন রাজ্য Purple Fest আয়োজক ছিল, যা প্রতিবন্ধী ব্যক্তিদের জন্য প্রথম অন্তর্ভুক্তিমূলক উৎসব ছিল?

(1) গোয়া (2) গুজরাট

(3) কেরালা (4) মহারাষ্ট্র

SPACE FOR ROUGH WORK

51. In December 2023, Sultan Haitham bin Tarik was on a State visit to India. He is the Sultan and Prime Minister of which country ?

(1) Iran
(2) Yemen
(3) Qatar
(4) Oman

52. Which of the following states launched the 'Mukhyamantri Seekho-Kamao Yojana' (MMSKY) in 2023 ?

(1) Uttar Pradesh
(2) Himachal Pradesh
(3) Madhya Pradesh
(4) Bihar

53. Rabindranath Tagore had renounced his knighthood because _____.

(1) of execution of Bhagat Singh
(2) of Chauri-Chaura incident
(3) he wanted to join the Congress
(4) of the Jallianwala Bagh tragedy

54. In which of the following cities of Madhya Pradesh was the 17th edition of Pravasi Bharatiya Divas (PBD) organized ?

(1) Bhopal
(2) Indore
(3) Jabalpur
(4) Gwalior

55. In the joint military exercise 'Desert Cyclone', 2024, which two nations collaborated to enhance interoperability through knowledge exchange ?

(1) India and Qatar
(2) India and Vietnam
(3) India and Australia
(4) India and UAE

SPACE FOR ROUGH WORK

51. 2023 সালের ডিসেম্বরে সুলতান হাইথাম বিন তারিক ভারতে রাষ্ট্রীয় সফরে এসেছিলেন। তিনি কোন দেশের সুলতান এবং প্রধানমন্ত্রী?

(1) ইরান
(2) ইয়েমেন
(3) কাতার
(4) ওমান

52. নিম্নলিখিত রাজ্যগুলির মধ্যে কোনটি 2023 সালে 'মুখ্যমন্ত্রী শিখও-কামাও যোজনা' (MMSKY) চালু করেছে?

(1) উত্তরপ্রদেশ
(2) হিমাচল প্রদেশ
(3) মধ্যপ্রদেশ
(4) বিহার

53. রবীন্দ্রনাথ ঠাকুর তাঁর নাইটহুড ত্যাগ করেছিলেন কারণ _____ ।

(1) ভগৎ সিং-এর ফাঁসি
(2) চৌরি-চৌরা ঘটনা
(3) তিনি কংগ্রেসে যোগ দিতে চেয়েছিলেন
(4) জালিয়ানওয়ালা বাগের মর্মান্তিক ঘটনা

54. মধ্যপ্রদেশের কোন শহরে প্রবাসী ভারতীয় দিবসের (PBD) 17তম সংস্করণের আয়োজন করা হয়েছিল?

(1) ভোপাল
(2) ইন্দোর
(3) জব্বলপুর
(4) গোয়ালিয়র

55. যৌথ সামরিক মহড়া 'ডেজার্ট সাইক্লোন', 2024-এ কোন দুটি দেশ জ্ঞান বিনিময়ের মাধ্যমে আন্তঃব্যবহারযোগ্যতা বাড়াতে সহযোগিতা করেছে?

(1) ভারত ও কাতার
(2) ভারত ও ভিয়েতনাম
(3) ভারত ও অস্ট্রেলিয়া
(4) ভারত ও সংযুক্ত আরব আমিরশাহী

SPACE FOR ROUGH WORK

56. Who among the following wrote the book "Guilty Men of India's Partition" ?

(1) Mahatma Gandhi

(2) Lala Har Dayal

(3) Lala Lajpat Rai

(4) Ram Manohar Lohia

57. Who authored the famous novels, 'The Fountainhead' and 'Atlas Shrugged' ?

(1) H.G. Wells

(2) Ayn Rand

(3) George Orwell

(4) J.M. Barrie

58. The Bhoodan-Gramadan Movement started by Vinoba Bhave is also known as _____.

(1) Civil Revolution

(2) Green Revolution

(3) Bloodless Revolution

(4) White Revolution

59. 23 January, the birth anniversary of Netaji Subhas Chandra Bose, is celebrated every year as _____ .

(1) Shaheed Diwas

(2) Parakram Diwas

(3) National Youth Day

(4) Hindi Diwas

60. 23 December, the birthday of former Prime Minister Chaudhary Charan Singh, is celebrated every year as _____ .

(1) Samvidhan Diwas

(2) National Milk Day

(3) National Farmers' Day

(4) Good Governance Day

SPACE FOR ROUGH WORK

56. নিম্নলিখিতদের মধ্যে কে "Guilty Men of India's Partition" বইটি লিখেছেন?

(1) মহাত্মা গান্ধী

(2) লালা হর দয়াল

(3) লালা লাজপত রায়

(4) রাম মনোহর লোহিয়া

57. বিখ্যাত উপন্যাস 'দ্য ফাউন্টেনহেড' এবং 'অ্যাটলাস শ্রাগ্‌ড' কে লিখেছেন?

(1) এইচ.জি. ওয়েলস

(2) অয়ন র্যান্ড

(3) জর্জ অরওয়েল

(4) জে.এম.ব্যারি

58. বিনোবা ভাবে, দ্বারা শুরু হওয়া ভূদান-গ্রামাদান আন্দোলন _____ নামেও পরিচিত।

(1) নাগরিক বিপ্লব

(2) সবুজ বিপ্লব

(3) রক্তহীন বিপ্লব

(4) শ্বেত বিপ্লব

59. 23শে জানুয়ারি, নেতাজি সুভাষ চন্দ্র বসুর জন্মবার্ষিকী, প্রতি বছর _____ হিসাবে পালিত হয়।

(1) শহীদ দিবস

(2) পরাক্রম দিবস

(3) জাতীয় যুব দিবস

(4) হিন্দি দিবস

60. 23শে ডিসেম্বর, প্রাক্তন প্রধানমন্ত্রী চৌধুরী চরন সিং র জন্মদিন। প্রতি বছর _____ হিসাবে উদযাপিত হয় ।

(1) সংবিধান দিবস

(2) জাতীয় দুগ্ধ দিবস

(3) জাতীয় কৃষক দিবস

(4) সুশাসন দিবস

SPACE FOR ROUGH WORK

SPACE FOR ROUGH WORK

SPACE FOR ROUGH WORK

Read carefully the following instructions :

8. No candidate will be allowed to leave the OMR Answer Sheet blank. If any OMR Answer Sheet is found blank, it shall be crossed by the Invigilator with his/her signature, mentioning “Cancelled” on it.

9. Do not tear or fold any page of the Test Booklet and OMR Answer Sheet.

10. Candidates are advised to ensure that they fill the correct particulars on the OMR Answer Sheet, i.e., Application No., Roll No., Test Booklet No., Name, Mother’s Name, Father’s Name and Signature.

11. In case of any discrepancy in any question between English and Hindi/Regional language version, the English version will be considered as the final version for evaluation.

12. Rough work is to be done in the space provided for this purpose in the Test Booklet only.

13. The answers will be evaluated through electronic scanning process. Incomplete or incorrect entries may render the OMR Answer Sheet invalid.

14. Candidates are advised not to fold or make any stray marks on the OMR Answer Sheet. Use of Eraser, Nail, Blade, White Fluid/Whitener, etc., to smudge, scratch or damage in any manner the OMR Answer Sheet during examination is strictly prohibited. Candidature and OMR Answer Sheet of candidates using Eraser, Nail, Blade or White Fluid/Whitener to smudge, scratch or damage in any manner shall be cancelled.

15. There will be one copy of OMR Answer Sheet i.e., the Original Copy. After the examination is over, the candidate shall hand over the OMR Answer Sheet to the Invigilator. The candidate can take away the Test Booklet after the examination is over. If the candidate does not hand over the OMR Answer Sheet to the Invigilator and goes away with the OMR Answer Sheet, his/her candidature shall be cancelled and criminal proceedings shall also be initiated against him/her.

16. Candidates are advised strictly not to carry handkerchief, any mobile phone, any type of watch, belt or wear ornaments like ring, chain, ear-ring, etc., electronic or communication device, pen, pencil, eraser, sharpener and correction fluid to the Examination Centre. If any candidate is found possessing any such item, he/she will not be allowed to enter the examination centre. Possession of a mobile phone or any other aiding material as mentioned above by the candidate in the examination room will be treated as a serious violation and it may lead to cancellation of the candidature and debarring him/her from future examinations.

17. If a candidate violates any instructions or shows any indiscipline or misbehaviour, appropriate action will be taken including cancellation of candidature and debarring from future examinations.

18. Use of electronic/manual calculator is **not** allowed.

নিম্নলিখিত নির্দেশাবলী মন দিয়ে পড়ুন :

8. কোনো প্রার্থীকে ওএমআর উত্তরপত্র খালি রাখতে দেওয়া হবে না। যদি কোনো OMR উত্তরপত্র খালি পাওয়া যায়, তাহলে তা পরিদর্শক তার স্বাক্ষরসহ এটিতে "বাতিল" বলে উল্লেখ করে ক্রস করবেন।

9. টেস্ট বুকলেটের ও ওএমআর উত্তরপত্র এর কোনো পৃষ্ঠা ছিঁড়বেন না বা ভাঁজ করবেন না।

10. প্রার্থীদের ওএমআর উত্তরপত্রে সঠিক বিবরণ যেমন, আবেদন নং, রোল নং, টেস্ট বুকলেট নং, নাম, মায়ের নাম, পিতার নাম এবং স্বাক্ষর সঠিক ভাবে পূরণ করার পরামর্শ দেওয়া হচ্ছে।

11. ইংরেজি এবং হিন্দি/আঞ্চলিক ভাষার প্রশ্নপত্রের সংস্করণের মধ্যে কোনো প্রশ্নে কোনো অমিল হলে, ইংরেজি প্রশ্নটিকে মূল্যায়নের জন্য চূড়ান্ত সংস্করণ হিসেবে বিবেচনা করা হবে।

12. পরীক্ষার পুস্তিকাতে ফাঁকা যায়গাটি রাফ কাজের জন্য দেওয়া হয়েছে।

13. উত্তরগুলি ইলেকট্রনিক স্ক্যানিং প্রক্রিয়ার মাধ্যমে মূল্যায়ন করা হবে। অসম্পূর্ণ বা ভুল এন্ট্রি হলে OMR উত্তর পত্র অবৈধ হিসাবে ধরা হতে পারে।

14. প্রার্থীদের ওএমআর উত্তরপত্রে ভাঁজ বা বিভ্রান্তিকর চিহ্ন না ব্যবহার করার পরামর্শ দেওয়া হচ্ছে। পরীক্ষার সময় ওএমআর উত্তরপত্রে যেকোনও উপায়ে দাগ, আঁচড় বা ক্ষতি করার জন্যই রেজার, পেরেক, ব্লেড, সাদাতরল/হোয়াইটনার ইত্যাদি ব্যবহার করা কঠোর ভাবে নিষিদ্ধ। ইরেজার, পেরেক, ব্লেড বা হোয়াইট ফ্লুইড/হোয়াইটনার ব্যবহার করে যেকোনো উপায়ে দাগ, আঁচড় বা ক্ষতিকরার জন্য প্রার্থীদের প্রার্থীতা এবং OMR উত্তরপত্র বাতিল করা হবে।

15. ওএমআর উত্তরপত্রের একটিই কপি থাকবে, অর্থাৎ মূলকপি। পরীক্ষা শেষ হওয়ার পরে, প্রার্থীকে ওএমআর উত্তরপত্রটি পরিদর্শকের কাছে হস্তান্তর করতে হবে। পরীক্ষা শেষ হওয়ার পর পরীক্ষার্থী পরীক্ষা পুস্তিকাটি নিয়ে যেতে পারেন। যদি পরীক্ষার্থী পরীক্ষকের কাছে OMR উত্তর পত্র হস্তান্তর না করে এবং OMR উত্তর পত্র নিয়ে চলে যায়, তবে তার পরীক্ষার্থীকে বাতিল করা হবে এবং তার বিরুদ্ধে ফৌজদারি মামলাও শুরু করা হবে।

16. পরীক্ষাকেন্দ্রে প্রার্থীদেরকে রুমাল, কোনো মোবাইল ফোন, কোনো ধরনের ঘড়ি, বেল্ট বা অলঙ্কার যেমন রিং, চেইন, কানের রিং ইত্যাদি, ইলেকট্রনিক বা যোগাযোগের যন্ত্র, কলম, পেন্সিল, ইরেজার, শার্পনার এবং সংশোধন তরল বহন না করার জন্য কঠোর ভাবে নির্দেশ দেওয়া হচ্ছে। কোনো পরীক্ষার্থীর কাছে এ ধরনের কোনো জিনিস পাওয়া গেলে তাকে পরীক্ষা কেন্দ্রে প্রবেশ করতে দেওয়া হবে না। পরীক্ষাকক্ষে প্রার্থীর দ্বারা উপরে উল্লিখিত জিনিস, মোবাইল ফোন বা অন্য কোন সাহায্যকারী সামগ্রী রাখা একটি গুরুতর নিয়ম লঙ্ঘন হিসাবে বিবেচিত হবে এবং এটি পরীক্ষা থেকে তাকে বাতিল এবং ভবিষ্যতের পরীক্ষা থেকেও তাকে বঞ্চিত করতে পারে।

17. যদি কোনো প্রার্থী কোনো নির্দেশ লঙ্ঘন করে বা কোনো বিশৃঙ্খলা বা অসদাচরণ দেখায়, তাহলে প্রার্থীকে বাতিল করা হবে এবং ভবিষ্যত পরীক্ষা থেকে বিরত থাকা সহ যথাযথ ব্যবস্থা নেওয়া হবে।

18. ইলেকট্রনিক/ম্যানুয়াল ক্যালকুলেটর ব্যবহার অনুমোদিত ***নয়***।