PREVIEW QUESTION BANK

Module Name : NCET - PUN
Exam Date : 10-Jul-2024 Batch : 14:00-17:00

Sr. No.	Client Question ID	Question Body and Alternatives	Marks	Negative Marks
Objective Question				
1201	1201	ਹੇਠ ਲਿਖਿਆਂ ਵਿਚੋਂ ਕਿਹੜਾ ਬੁੱਧ ਧਰਮ ਦੇ ਚਾਰ ਸੱਚੇ ਨੈਤਿਕ ਗੁਣਾਂ ਵਿਚ ਸ਼ਾਮਲ **ਨਹੀਂ** ਹੈ : (1) ਦੁੱਖ (2) ਦੁੱਖ ਦਾ ਕਾਰਨ (3) ਦੁੱਖ ਨਿਵਰਤੀ ਦਾ ਮਾਰਗ (4) ਦੁੱਖ ਲਈ ਅਭਿਆਸ A1 : 1 A2 : 2 A3 : 3 A4 : 4	4.0	1.00
Objective Question				
1202	1202	ਪ੍ਰਸਿੱਧ ਜੂਡੋ ਕਰਾਟੇ ਕਲਾ (Kalarippayaṭṭu) ਦਾ ਜਨਮ ਕਿੱਥੇ ਹੋਇਆ : (1) ਕੇਰਲ (2) ਤਮਿਲਨਾਡੂ (3) ਆਂਧਰਾ ਪ੍ਰਦੇਸ਼ (4) ਮਿਜ਼ੋਰਮ A1 : 1 A2 : 2 A3 : 3 A4 : 4	4.0	1.00
Objective Question				
1203	1203	ਭਵਨ ਨਿਰਮਾਣ ਕਲਾ ਦੇ ਵਿਗਿਆਨ ਨੂੰ ਕੀ ਕਹਿੰਦੇ ਹਨ : (1) ਵਸਤੂ ਵਿੱਦਿਆ (2) ਅਰਥ ਵਿੱਦਿਆ (3) ਨੀਤੀ ਵਿੱਦਿਆ (4) ਮੂਰਤੀ ਵਿੱਦਿਆ A1 : 1	4.0	1.00

A2 : 2

A3 : 3

A4 : 4

Objective Question

1204 1204 4.0 1.00

ਹੇਠ ਲਿਖਿਆਂ ਵਿਚੋਂ ਕਿਹੜਾ ਨਾਟਕੀ-ਅਭਿਵਿਅਕਤੀ (Dramatic expression) ਦਾ ਹਿੱਸਾ ਨਹੀਂ ਹੈ :

(1) ਅੰਗੀਕਾ (Āṅgika)

(2) ਵਾਚਿਕਾ (Vācika)

(3) ਆਹਰਿਆ (Āharya)

(4) ਰਾਜਸਿਕਾ (Rājasika)

A1 : 1

A2 : 2

A3 : 3

A4 : 4

Objective Question

1205 1205 4.0 1.00

ਸੂਚੀ-I ਦਾ **ਸੂਚੀ-II** ਨਾਲ ਮਿਲਾਨ ਕਰੋ ।

	ਸੂਚੀ-I		**ਸੂਚੀ-II**
(A)	ਕ੍ਰੀੜਾ (Kriḍā)	(I)	ਕਸਰਤ
(B)	ਵਿਆਯਾਮ (Vyāyāma) (ਕਸਰਤ)	(II)	ਪ੍ਰਾਣਾਯਾਮ
(C)	ਧਨੁਰਵੇਦ (Dhanurveda)	(III)	ਖੇਡਾਂ
(D)	ਯੋਗਾ (Yoga)	(IV)	ਤੀਰਅੰਦਾਜ਼ੀ

ਹੇਠਾਂ ਲਿਖੇ ਵਿਕਲਪਾਂ ਵਿੱਚੋਂ **ਸਹੀ ਉੱਤਰ** ਦੀ ਚੋਣ ਕਰੋ :

(1) (A)-(I), (B)-(II), (C)-(III), (D)-(IV)

(2) (A)-(II), (B)-(III), (C)-(IV), (D)-(I)

(3) (A)-(III), (B)-(I), (C)-(IV), (D)-(II)

(4) (A)-(IV), (B)-(II), (C)-(I), (D)-(III)

A1 : 1

A2 : 2

A3 : 3

A4 : 4

Objective Question

1206 1206 4.0 1.00

ਵਾਕਯਪਦੀਯ _____ ਦੁਆਰਾ ਲਿਖੀ ਗਈ ਹੈ ।

(1) ਭਰਤਮੁਨੀ

(2) ਪਣਿਨੀ

(3) ਭਰਥਰੀ ਹਰੀ

(4) ਪਤੰਜਲੀ

A1 : 1

A2 : 2

A3 : 3

A4 : 4

Objective Question

1207 1207 4.0 1.00

'ਨਿਸ਼ਕਾਮ ਕਰਮ' _____ ਦਾ ਪ੍ਰਸਿੱਧ ਸਿਧਾਂਤ ਹੈ ।

(1) ਹਿੰਦੂ ਧਰਮ

(2) ਜੈਨ ਧਰਮ

(3) ਬੁੱਧ ਧਰਮ

(4) ਸਿੱਖ ਧਰਮ

A1 : 1

A2 : 2

A3 : 3

A4 : 4

Objective Question

1208 1208 4.0 1.00

ਕਿਹੜਾ ਪੁਰਾਣ ਸ੍ਰੀ ਕ੍ਰਿਸ਼ਨ ਅਤੇ ਬਲਰਾਮ ਦੇ ਦੰਗਲ/ਕੁਸ਼ਤੀ ਵਿਚ ਨਿਪੁੰਨ ਹੋਣ ਦੀ ਜਾਣਕਾਰੀ ਪ੍ਰਦਾਨ ਕਰਦਾ ਹੈ :

(1) ਅਗਨੀ ਪੁਰਾਣ

(2) ਵਿਸ਼ਣੂ ਪੁਰਾਣ

(3) ਹਰੀਵੰਸ਼ ਪੁਰਾਣ

(4) ਵਾਯੂ ਪੁਰਾਣ

A1 : 1

A2 : 2

A3 : 3

A4 : 4

Objective Question

1209 1209 4.0 1.00

ਵਿਜੈ ਨਗਰ ਦਾ ਸਮਾਰਾਜ ਕਿਹੜੇ ਸਾਲ ਸਥਾਪਿਤ ਕੀਤਾ ਗਿਆ ਸੀ :

(1) 1236
(2) 1336
(3) 1250
(4) 1350

A1 : 1

A2 : 2

A3 : 3

A4 : 4

Objective Question

1210 1210 4.0 1.00

ਹੇਠ ਲਿਖਿਆਂ ਵਿਚੋਂ ਕਿਹੜੀ ਲੋਕ ਨਾਚ ਸ਼ੈਲੀ ਰਾਜਸਥਾਨ ਵਿਚ ਵਿਕਸਿਤ ਹੋਈ :

(A) ਘੂੰਮਰ
(B) ਕਾਲਬੇਲਿਆ
(C) ਕੱਠਪੁਤਲੀ
(D) ਗਰਬਾ
(E) ਡਾਂਡੀਆ

ਹੇਠਾਂ ਲਿਖੇ ਵਿਕਲਪਾਂ ਵਿੱਚੋਂ **ਸਹੀ ਉੱਤਰ** ਦੀ ਚੋਣ ਕਰੋ :

(1) ਸਿਰਫ਼ (A), (B) ਅਤੇ (C)
(2) ਸਿਰਫ਼ (B), (C) ਅਤੇ (D)
(3) ਸਿਰਫ਼ (C), (D) ਅਤੇ (E)
(4) ਸਿਰਫ਼ (A), (B) ਅਤੇ (D)

A1 : 1

A2 : 2

A3 : 3

A4 : 4

Objective Question

1211 1211 4.0 1.00

ਸੂਚੀ-I ਦਾ ਸੂਚੀ-II ਨਾਲ ਮਿਲਾਨ ਕਰੋ ।

	ਸੂਚੀ-I		ਸੂਚੀ-II
(A)	ਕਲਪਾ	(I)	ਸ਼ਬਦਾਂ ਦੀ ਵਿਆਖਿਆ
(B)	ਨਿਰੂਕਤਾ	(II)	ਖਗੋਲ ਸ਼ਾਸ਼ਤਰ
(C)	ਜੋਤਿਸ਼	(III)	ਸਮਾਜਿਕ ਵਿਚਾਰ
(D)	ਅੰਲਕਾਰ ਸ਼ਾਸਤਰ	(IV)	ਗਤੀ ਦੀ ਅਕ੍ਰਿਤੀਆਂ ਦਾ ਅਧਿਐਨ

ਹੇਠਾਂ ਲਿਖੇ ਵਿਕਲਪਾਂ ਵਿੱਚੋਂ **ਸਹੀ ਉੱਤਰ** ਦੀ ਚੋਣ ਕਰੋ :

(1) (A)-(II), (B)-(III), (C)-(IV), (D)-(I)
(2) (A)-(III), (B)-(I), (C)-(II), (D)-(IV)
(3) (A)-(III), (B)-(IV), (C)-(I), (D)-(II)
(4) (A)-(IV), (B)-(II), (C)-(III), (D)-(I)

A1 : 1

A2 : 2

A3 : 3

A4 : 4

Objective Question

1212 1212 4.0 1.00

ਮਨੂੰ ਸਮ੍ਰਿਤੀ ਹੇਠ ਲਿਖੀਆਂ ਮੱਛੀਆਂ ਦਾ ਵਰਣਨ ਕਰਦੀ ਹੈ :

(A) Rohu
(B) Pathen
(C) Jhinga
(D) Padin
(E) Jelly Fish

ਹੇਠਾਂ ਲਿਖੇ ਵਿਕਲਪਾਂ ਵਿੱਚੋਂ **ਸਹੀ ਉੱਤਰ** ਦੀ ਚੋਣ ਕਰੋ :

(1) ਸਿਰਫ਼ (A) ਅਤੇ (B)
(2) ਸਿਰਫ਼ (B) ਅਤੇ (C)
(3) ਸਿਰਫ਼ (C) ਅਤੇ (D)
(4) ਸਿਰਫ਼ (D) ਅਤੇ (E)

A1 : 1

A2 : 2

A3 : 3

A4 : 4

Objective Question

1213 1213 4.0 1.00

Who is the appointing authority of Advocate-General for the State ?
(1) President
(2) Prime Minister
(3) Chief Minister
(4) Governor

A1 : 1

A2 : 2

A3 : 3

A4 : 4

Objective Question

1214 1214 4.0 1.00

The Judiciary in India derives its powers and functions from :
(1) Parliament
(2) Supreme Court of India
(3) Constitution of India
(4) President

A1 : 1

A2 : 2

A3 : 3

A4 : 4

Objective Question

1215 1215 4.0 1.00

Which of the following Article of the Constitution deals with the advisory jurisdiction of the Supreme Court of India ?
(1) Article 142
(2) Article 143
(3) Article 144
(4) Article 145

A1 : 1

A2 : 2

A3 : 3

A4 : 4

Objective Question

1216 1216 4.0 1.00

_____ is a transfer of right to enjoy a property for a specific period of time in consideration for a price.

(1) Exchange
(2) Gift
(3) Lease
(4) Sale

A1 : 1

A2 : 2

A3 : 3

A4 : 4

Objective Question

1217 1217 4.0 1.00

Arrange the following as per the Indian Contract Act, 1872 -

(A) Acceptance
(B) Offer
(C) Consideration
(D) Contract
(E) Performance

Choose the **correct** answer from the options given below :

(1) (A), (B), (C), (D), (E)
(2) (B), (A), (C), (D), (E)
(3) (B), (A), (D), (C), (E)
(4) (A), (B), (D), (C), (E)

A1 : 1

A2 : 2

A3 : 3

A4 : 4

Objective Question

1218 1218 4.0 1.00

Match **List - I** with **List - II**.

	List - I		**List - II**
(A)	Novation	(I)	Acceptance to a lesser fulfilment of the promise
(B)	Rescission	(II)	Certain terms of a contract are cancelled
(C)	Remission	(III)	Abandon of mutual rights
(D)	Waiver	(IV)	New contract is substituted for an old one

Choose the **correct** answer from the options given below :

(1) (A)-(I), (B)-(II), (C)-(III), (D)-(IV)
(2) (A)-(IV), (B)-(I), (C)-(II), (D)-(III)
(3) (A)-(IV), (B)-(II), (C)-(I), (D)-(III)
(4) (A)-(III), (B)-(II), (C)-(I), (D)-(IV)

A1 : 1

A2 : 2

A3 : 3

A4 : 4

Objective Question

1219 1219 4.0 1.00

In which of the following tort, intention or carelessness of the defendant is not taken into consideration ?

(1) Negligence
(2) Battery
(3) Assault
(4) Strict Liability

A1 : 1

A2 : 2

A3 : 3

A4 : 4

Objective Question

1220 1220 4.0 1.00

Find the correct ascending order of stages of crime.

(A) Commission
(B) Attempt
(C) Preparation
(D) Intention
(E) Punishment

Choose the **correct** answer from the options given below :

(1) (A), (B), (C), (D), (E)
(2) (B), (A), (C), (D), (E)
(3) (C), (B), (A), (D), (E)
(4) (D), (C), (B), (A), (E)

A1 : 1

A2 : 2

A3 : 3

A4 : 4

Objective Question

1221 1221 4.0 1.00

Match **List - I** with **List - II**.

	List - I		**List - II**
(A)	Retribution	(I)	repair the injury
(B)	Deterrence	(II)	to prevent the repeating of the crime
(C)	Rehabilitation	(III)	Righting of Balance
(D)	Restoration	(IV)	Transforming the offender

Choose the **correct** answer from the options given below :

(1) (A)-(II), (B)-(IV), (C)-(III), (D)-(I)
(2) (A)-(III), (B)-(I), (C)-(IV), (D)-(II)
(3) (A)-(I), (B)-(II), (C)-(IV), (D)-(III)
(4) (A)-(III), (B)-(II), (C)-(IV), (D)-(I)

A1 : 1

A2 : 2

A3 : 3

A4 : 4

Objective Question

1222 1222 4.0 1.00

The term 'Ombudsman' means :

(1) Principal
(2) Agent
(3) President
(4) Representative

A1 : 1

A2 : 2

A3 : 3

A4 : 4

Objective Question

1223 1223 4.0 1.00

Which provision of the Civil Procedure Code, 1908 deals with Mediation and Conciliation ?

(1) Section 88
(2) Section 89
(3) Section 90
(4) Section 91

A1 : 1

A2 : 2

A3 : 3

A4 : 4

Objective Question

1224	1224	Which of the following Constitutional Amendment deals with the 'tribunalisation of Indian Judiciary' ? (1) 24th Constitutional Amendment Act (2) 25th Constitutional Amendment Act (3) 42nd Constitutional Amendment Act (4) 44th Constitutional Amendment Act A1 : 1 A2 : 2 A3 : 3 A4 : 4	4.0	1.00

Objective Question

1225	1225	Which of the following is not a fundamental duty under Article 51 A ? (A) Respect the Constitution (B) Defend the Country (C) Duty to Vote (D) Duty to Pay income tax (E) Develop Scientific temper Choose the **correct** answer from the options given below : (1) (C), (D), (E) Only (2) (C) and (D) Only (3) (B) and (C) Only (4) (D) and (E) Only A1 : 1 A2 : 2 A3 : 3 A4 : 4	4.0	1.00

Objective Question

1226	1226	Which of the following is correct ? (A) Article 51 of the constitution deals with promotion of International Peace and Security (B) Article 253 of the constitution gives power to parliament to implement international treaties (C) Article 18 of the constitution deals with abolition of untouchability (D) Article 24 deals with right to education (E) Article 14 deals with right to life Choose the **correct** answer from the options given below : (1) (A), (B), (D) Only (2) (A), (C), (E) Only (3) (B), (C) Only (4) (A), (B) Only	4.0	1.00

A1 : 1

A2 : 2

A3 : 3

A4 : 4

Objective Question

1227 1227 4.0 1.00

Which of the following is incorrect about fundamental rights ?
(A) Part II of the Constitution deals with Fundamental Rights
(B) Fundamental Rights are enforceable against the State
(C) Articles 36 to 51 deals with Fundamental Rights
(D) Article 13 elevates the authority of Fundamental Rights
(E) Under Art. 32 writ can be filed if Fundamental Rights are violated
Choose the **correct** answer from the options given below :
(1) (B) and (C) Only
(2) (A) and (C) Only
(3) (D) and (E) Only
(4) (A) and (E) Only

A1 : 1

A2 : 2

A3 : 3

A4 : 4

Objective Question

1228 1228 4.0 1.00

The designation of an advocate as a senior advocate is responsibility of _____.
(A) Supreme Court
(B) High Court
(C) Bar Council of India
(D) Legal Education Committee
(E) Attorney-General
Choose the **correct** answer from the options given below :
(1) (B) and (C) Only
(2) (A) and (E) Only
(3) (A) and (B) Only
(4) (B) and (D) Only

A1 : 1

A2 : 2

A3 : 3

A4 : 4

Objective Question

1229 1229 4.0 1.00

Match **List - I** with **List - II**.

	List - I		**List - II**
	Countries		**Mode of Advertisement**
(A)	India	(I)	Print Media
(B)	USA	(II)	Allowed within the Legal Profession (Publicity Rules) 2001
(C)	Malaysia	(III)	5 Piece information website
(D)	Hong Kong	(IV)	Business cards and Internet forums

Choose the **correct** answer from the options given below :

(1) (A)-(II), (B)-(III), (C)-(I), (D)-(IV)
(2) (A)-(III), (B)-(IV), (C)-(II), (D)-(I)
(3) (A)-(IV), (B)-(I), (C)-(III), (D)-(II)
(4) (A)-(I), (B)-(II), (C)-(IV), (D)-(III)

A1 : 1

A2 : 2

A3 : 3

A4 : 4

Objective Question

1230 1230 4.0 1.00

In which year Article 39-A was inserted in the Constitution of India ?

(1) 1974
(2) 1976
(3) 1977
(4) 1978

A1 : 1

A2 : 2

A3 : 3

A4 : 4

Objective Question

1231 1231 4.0 1.00

When the Committee on National Implementation of Legal Aid under Justice Bhagwati was constituted ?

(1) 1973
(2) 1980
(3) 1987
(4) 1888

A1 : 1

A2 : 2

A3 : 3

A4 : 4

Objective Question

1232 1232 4.0 1.00

Which of the following case provided clarity on what procedure means under Article 21 of the Constitution ?

(1) M.H. Hoskot V State of Maharashtra
(2) Tara Singh V State of Rajasthan
(3) Maneka Gandhi V Union of India
(4) Maganbhai Patel V Union of India

A1 : 1

A2 : 2

A3 : 3

A4 : 4

Objective Question

1233 1233 4.0 1.00

Which of the following is incorrect ?

(A) WHO was set up in 1948
(B) Article 38 of the UN Charter deals with sources of International law
(C) League of Nations came into existence in 1919
(D) United Nations came into existence in 1946
(E) UNESCO formed in 1945

Choose the **correct** answer from the options given below :

(1) (B), (D) Only
(2) (A), (B) Only
(3) (D), (E) Only
(4) (C), (E) Only

A1 : 1

A2 : 2

A3 : 3

A4 : 4

Objective Question

1234 1234 4.0 1.00

Match **List - I** with **List - II**.

	List - I		**List - II**
(A)	ICC was setup through _____	(I)	Human rights are universal and inter dependent
(B)	General Assembly of the UN, enacted the statute of _____	(II)	Right to social security
(C)	Vienna Declaration and Programme of Action	(III)	Rome Statute
(D)	Universal Declaration of Human Rights	(IV)	ICJ

Choose the **correct** answer from the options given below :

(1) (A)-(IV), (B)-(I), (C)-(III), (D)-(II)
(2) (A)-(III), (B)-(I), (C)-(II), (D)-(IV)
(3) (A)-(II), (B)-(I), (C)-(IV), (D)-(III)
(4) (A)-(III), (B)-(IV), (C)-(I), (D)-(II)

A1 : 1

A2 : 2

A3 : 3

A4 : 4

Objective Question

1235 1235 4.0 1.00

Private International Law often referred to as :

(1) International Law
(2) Municipal Law
(3) Conflict of Laws
(4) Supreme Law

A1 : 1

A2 : 2

A3 : 3

A4 : 4

Objective Question

1236 1236 4.0 1.00

Match **List - I** with **List - II**.

	List - I		**List - II**
(A)	Res lpsa loquitor	(I)	By the way
(B)	Quid pro quo	(II)	Something in return
(C)	Obiter dicta	(III)	Things speaks itself
(D)	Amicus Curiae	(IV)	Friend of court

Choose the **correct** answer from the options given below :

(1) (A)-(I), (B)-(II), (C)-(III), (D)-(IV)
(2) (A)-(III), (B)-(II), (C)-(I), (D)-(IV)
(3) (A)-(II), (B)-(III), (C)-(I), (D)-(IV)
(4) (A)-(IV), (B)-(I), (C)-(II), (D)-(III)

A1 : 1

A2 : 2

A3 : 3

A4 : 4

Objective Question

1237 1237 4.0 1.00

The maxim Caveat Emptor means :
(1) Seller beware
(2) Buyer beware
(3) Business man beware
(4) Manufacturer beware

A1 : 1

A2 : 2

A3 : 3

A4 : 4

Objective Question

1238 1238 4.0 1.00

Find the correct ascending order of the following Acts/Institution.
(A) The Advocates Act
(B) Legal Practitioner's (Women) Act, XXIII
(C) Mayor's Courts
(D) Indian Bar Councils Act on Chamier Committee Recommendations
(E) Supreme Court of Judicature at Calcutta
Choose the **correct** answer from the options given below :
(1) (A), (B), (C), (D), (E)
(2) (C), (E), (B), (D), (A)
(3) (A), (B), (D), (C), (E)
(4) (C), (B), (A), (D), (E)

A1 : 1

A2 : 2

A3 : 3

A4 : 4

Objective Question

1239 1239 4.0 1.00

Find the correct ascending order of the following Directive Principles of State Policy (DPSP)

(A) Protection to children against exploitation

(B) Uniform Civil Code

(C) Separation of the judiciary from the executive

(D) Promotion of International Peace and Security

(E) Equal pay for equal work for both man and women

Choose the **correct** answer from the options given below :

(1) (E), (A), (B), (C), (D)

(2) (A), (B), (C), (D), (E)

(3) (E), (A), (B), (D), (C)

(4) (E), (B), (D), (C), (A)

A1 : 1

A2 : 2

A3 : 3

A4 : 4

Objective Question

1240 1240 4.0 1.00

Which of the following are Crimes Against Property ?

(A) Dacoity

(B) Robbery

(C) Counterfeiting

(D) Theft

(E) Burglary

Choose the **correct** answer from the options given below :

(1) (A), (B), (C), (D) Only

(2) (A), (B), (D), (E) Only

(3) (A), (B), (E) Only

(4) (B), (C), (D), (E) Only

A1 : 1

A2 : 2

A3 : 3

A4 : 4

Objective Question

1241 1241 4.0 1.00

Which was the first soap opera to be telecast on Indian Television ?

(1) Buniyaad

(2) Hum Panch

(3) Hum Log

(4) Shanti

A1 : 1

A2 : 2

A3 : 3

A4 : 4

Objective Question

1242 1242 4.0 1.00

What is the primary characteristic of mass communication ?

(1) Bi-directional communication

(2) Limited Reach to a specific audience

(3) Uni-directional Communication to a large audience

(4) Private and informal communication

A1 : 1

A2 : 2

A3 : 3

A4 : 4

Objective Question

1243 1243 4.0 1.00

All marketing activities that attempt to stimulate quick buyer action or immediate sales of a product is known as :

(1) Sponsorship

(2) Advertising

(3) Personal Selling

(4) Sales Promotion

A1 : 1

A2 : 2

A3 : 3

A4 : 4

Objective Question

1244 1244 4.0 1.00

The _____ is principally designed to convert the optical image, as projected by the lens, into an electric signal often called the video signal.

(1) Video tape recorder

(2) Microphone

(3) Camera

(4) Disc

A1 : 1

A2 : 2

A3 : 3

A4 : 4

Objective Question

1245 1245 4.0 1.00

'The Guardian' newspaper is an example of which type of newspaper format ?

(1) Berliner
(2) Broadsheet
(3) Tabloid
(4) Free

A1 : 1

A2 : 2

A3 : 3

A4 : 4

Objective Question

1246 1246 4.0 1.00

Identify the characteristic of a good radio script :

(1) Use of jargons
(2) Conversational language
(3) Passive voice
(4) Complex sentences

A1 : 1

A2 : 2

A3 : 3

A4 : 4

Objective Question

1247 1247 4.0 1.00

"It is the woman who is capable of playing the more effective role in the preservation of society and therefore, that had to be respected".

The above statement was made by the Supreme Court (1985) in the case of :

(1) State of Punjab Vs Sandhu Singh
(2) State of Bengal Vs Sunoj Chatterjee
(3) State of Bihar Vs Manoj Kumar
(4) State of Delhi Vs Laxman Kumar

A1 : 1

A2 : 2

A3 : 3

A4 : 4

Objective Question

1248 1248 4.0 1.00

Which of these is **NOT** a type of film shooting budget ?

(1) Contingent
(2) Middle line
(3) Above the line
(4) Below the line

A1 : 1

A2 : 2

A3 : 3

A4 : 4

Objective Question

1249 1249 4.0 1.00

The concept of introducing social messages in regular soap operas in Indian Television was borrowed from which country ?

(1) Mexico
(2) Argentina
(3) USA
(4) UK

A1 : 1

A2 : 2

A3 : 3

A4 : 4

Objective Question

1250 1250 4.0 1.00

Which of type of reporting is agenda driven or biased towards a particular political party ?

(1) Investigative Reporting
(2) Plagiarism
(3) Partisan Reporting
(4) Sensationalism

A1 : 1

A2 : 2

A3 : 3

A4 : 4

Objective Question

1251 1251 4.0 1.00

		The study of touch in non-verbal communication is known as : (1) Chronemics (2) Oculesics (3) Kinesics (4) Haptics A1 : 1 A2 : 2 A3 : 3 A4 : 4		
Objective Question				
1252	1252	_____ is involved in the convergence of all the mass media. (1) Television (2) Newspaper (3) Radio (4) Internet A1 : 1 A2 : 2 A3 : 3 A4 : 4	4.0	1.00
Objective Question				

1253	1253	Identify the correct sequence of the films released in India beginning from the first. (A) Sholay (B) DDLJ (Dilwale Dulhaniya Le Jayenge) (C) Raja Harishchandra (D) Pather Panchali (E) Alam Ara Choose the **correct** answer from the options given below : (1) (A), (B), (C), (D), (E) (2) (C), (E), (D), (A), (B) (3) (E). (D), (A), (C), (B) (4) (D), (E), (C), (A), (B) A1 : 1 A2 : 2 A3 : 3 A4 : 4	4.0	1.00
Objective Question				
1254	1254	What are the two primary factors influencing media selection for advertising ? (1) Brand identity and loyalty (2) Budget and target audience reach (3) Production quality and frequency (4) Advertising needs and convergence A1 : 1 A2 : 2 A3 : 3 A4 : 4	4.0	1.00
Objective Question				
1255	1255	The term of 'Global Village' was coined by : (1) Denis McQuail (2) Marshall McLuhan (3) Maxwell McCombs (4) Donald Shaw A1 : 1 A2 : 2 A3 : 3 A4 : 4	4.0	1.00

Objective Question

1256 1256 4.0 1.00

Arrange in correct sequence the stages involved in film production :

(A) Picture Positive (Rushes)

(B) Release Print

(C) Rough Cut

(D) Lab Receives Exposed Film

(E) Picture Negative

Choose the **correct** answer from the options given below :

(1) (A), (B), (C), (D), (E)

(2) (D), (E), (A), (C), (B)

(3) (E), (D), (B), (A), (C)

(4) (A), (D), (C), (E), (B)

A1 : 1

A2 : 2

A3 : 3

A4 : 4

Objective Question

1257 1257 4.0 1.00

Arrange in correct sequence the steps involved in conducting a cyber crime investigation :

(A) Collection of digital evidence

(B) Identification of the crime

(C) Analysis of the evidence

(D) Reporting the findings

Choose the **correct** answer from the options given below :

(1) (A), (C), (B), (D)

(2) (B), (A), (C), (D)

(3) (A), (B), (C), (D)

(4) (C), (A), (B), (D)

A1 : 1

A2 : 2

A3 : 3

A4 : 4

Objective Question

1258 1258 4.0 1.00

Identify the correct sequence of the following newspapers on the basis of their origin.
(A) Bombay Darpan
(B) Bombay Samachar
(C) Bengal Gazette
(D) Bombay Courier
Choose the **correct** answer from the options given below :
(1) (B), (C), (D), (A)
(2) (C), (D), (B), (A)
(3) (D), (C), (A), (B)
(4) (A), (B), (C), (D)

A1 : 1

A2 : 2

A3 : 3

A4 : 4

Objective Question

1259	1259	Which among the following are stages of Interpersonal Communication ? (A) Shooting Stage (B) Scripting Stage (C) Intimate Stage (D) Phatic Stage (E) Mass Communication Stage Choose the **correct** answer from the options given below : (1) (C) and (D) only (2) (D) and (E) only (3) (D) only (4) (A) and (B) only A1 : 1 A2 : 2 A3 : 3 A4 : 4	4.0	1.00

Objective Question

1260	1260		4.0	1.00

Which of the following options describe the qualities/skills for a radio producer ?

(A) He/she should be inquisitive

(B) He/she should be a good observer to get ideas

(C) He/she should have good table manners

(D) He/she should be creative

(E) He/she should have the ability to use words/jargon which are difficult to understand

Choose the **correct** answer from the options given below :

(1) (A), (B) and (C) only

(2) (A), (B) and (D) only

(3) (B), (C) and (E) only

(4) (B), (C) and (D) only

A1 : 1

A2 : 2

A3 : 3

A4 : 4

Objective Question

1261 1261 4.0 1.00

Advertising is needed because :

(A) It does not distinguish a product from its competitors

(B) It reminds the people to stick to a product

(C) It can not create brand loyalty

(D) It informs about product details in advance

(E) It decreases the buzz about the product

Choose the **correct** answer from the options given below :

(1) (A) and (C) only

(2) (C) and (E) only

(3) (A) and (D) only

(4) (B) and (D) only

A1 : 1

A2 : 2

A3 : 3

A4 : 4

Objective Question

1262 1262 4.0 1.00

Identify the option which has all news agencies listed together.

(A) PTI, DNA, UNO

(B) UPI, AP, Reuters

(C) TASS, Reuters, DPA

(D) AP, UNI, AFP

(E) KYC, ABP, CBA

Choose the **correct** answer from the options given below :

(1) (A), (C) and (E) only

(2) (B), (C) and (D) only

(3) (C), (D) and (E) only

(4) (A), (B) and (D) only

A1 : 1

A2 : 2

A3 : 3

A4 : 4

Objective Question

1263	1263		4.0	1.00

Arrange in correct sequence the following events :

(A) Vietnam War

(B) Persian Gulf War

(C) Kargil War

(D) Disintegration of USSR

(E) World War II

Choose the **correct** answer from the options given below :

(1) (E), (A), (D), (B), (C)

(2) (A), (E), (B), (C), (D)

(3) (B), (C), (E), (A), (D)

(4) (E), (A), (C), (B), (D)

A1 : 1

A2 : 2

A3 : 3

A4 : 4

Objective Question

1264	1264		4.0	1.00

Arrange in correct chronological sequence the events listed below from the first.

(A) First newspaper 'Public Occurrences' by USA.

(B) First modern advertising agency in the World by N.W. Ayer.

(C) First newspaper in India 'Bengal Gazette' by James Hickey.

(D) First formal radio station in Bombay.

(E) First Indian talkie film 'Alam Ara'.

Choose the **correct** answer from the options given below :

(1) (A), (C), (B), (D), (E)

(2) (C), (A), (B), (D), (E)

(3) (D), (E), (A), (C), (B)

(4) (B), (D), (C), (A), (E)

A1 : 1

A2 : 2

A3 : 3

A4 : 4

Objective Question

1265 1265 4.0 1.00

Match **List - I** with **List - II**.

	List - I		**List - II**
	Theory		**Theorist**
(A)	Agenda Setting	(I)	Paul Lazarsfeld
(B)	Two-step Flow	(II)	McCombs and Shaw
(C)	Magic Bullet	(III)	Elihu Katz and Blumler Jay
(D)	Uses and Gratifications	(IV)	Harold Laswell

Choose the **correct** answer from the options given below :

(1) (A)-(III), (B)-(IV), (C)-(I), (D)-(II)

(2) (A)-(II), (B)-(I), (C)-(IV), (D)-(III)

(3) (A)-(IV), (B)-(III), (C)-(II), (D)-(I)

(4) (A)-(I), (B)-(II), (C)-(III), (D)-(IV)

A1 : 1

A2 : 2

A3 : 3

A4 : 4

Objective Question

1266 1266 4.0 1.00

Match **List - I** with **List - II**.

	List - I		**List - II**
(A)	Station Director	(I)	Heads the program
(B)	Radio Presenter	(II)	Director General of AIR
(C)	Lionel Fielden	(III)	Weather and traffic news
(D)	Radio Producer	(IV)	Station Manager

Choose the **correct** answer from the options given below :

(1) (A)-(IV), (B)-(II), (C)-(I), (D)-(III)
(2) (A)-(IV), (B)-(III), (C)-(II), (D)-(I)
(3) (A)-(IV), (B)-(II), (C)-(III), (D)-(I)
(4) (A)-(IV), (B)-(I), (C)-(II), (D)-(III)

A1 : 1

A2 : 2

A3 : 3

A4 : 4

Objective Question

1267 1267 4.0 1.00

Match **List - I** with **List - II**.

	List - I		**List - II**
(A)	Facebook	(I)	Sharing short videos and following creators
(B)	Instagram	(II)	Long form content and professional networking
(C)	LinkedIn	(III)	Social networking site to connect with family, friends and people online
(D)	YouTube	(IV)	Photos and videos sharing with a focus on aesthetics

Choose the **correct** answer from the options given below :

(1) (A)-(IV), (B)-(II), (C)-(I), (D)-(III)
(2) (A)-(III), (B)-(IV), (C)-(II), (D)-(I)
(3) (A)-(II), (B)-(III), (C)-(I), (D)-(IV)
(4) (A)-(I), (B)-(IV), (C)-(II), (D)-(III)

A1 : 1

A2 : 2

A3 : 3

A4 : 4

Objective Question

1268 1268 4.0 1.00

Match **List - I** with **List - II**.

	List - I		List - II
(A)	Lumiere Brothers	(I)	Father of Documentary
(B)	John Grierson	(II)	American film Maker
(C)	Dada Saheb Phalke	(III)	Father of Cinema
(D)	Robert Flaharty	(IV)	Raja Harishchandra

Choose the **correct** answer from the options given below :

(1) (A)-(I), (B)-(II), (C)-(III), (D)-(IV)
(2) (A)-(IV), (B)-(III), (C)-(II), (D)-(I)
(3) (A)-(III), (B)-(I), (C)-(IV), (D)-(II)
(4) (A)-(IV), (B)-(II), (C)-(I), (D)-(III)

A1 : 1

A2 : 2

A3 : 3

A4 : 4

Objective Question

1269 1269 4.0 1.00

Question no. 1 to 10 are Mandatory

ਜੇਕਰ $A = \begin{bmatrix} 3 & -2 \\ 4 & -2 \end{bmatrix}$ ਹੈ ਅਤੇ ਕਿਸੇ ਸੰਖਿਆ k ਲਈ $A^2 = kA - 2I_{2\times 2}$ ਹੈ, ਤਾਂ ਫਿਰ k ਬਰਾਬਰ ਹੈ :

(1) -1
(2) 1
(3) 2
(4) -2

A1 : 1

A2 : 2

A3 : 3

A4 : 4

Objective Question

1270 1270 4.0 1.00

Question no. 1 to 10 are Mandatory

ਜੇਕਰ $A_{3\times 3}$ ਇਕ ਮੈਟ੍ਰਿਕ ਹੈ ਇਵੇਂ ਕਿ $\det(A) = 2^a$ ਅਤੇ $\det(\text{adj}(2A)) = 2^8$, ਤਾਂ ਫਿਰ a ਬਰਾਬਰ ਹੈ :

(1) 0
(2) 1
(3) 2
(4) 3

A1 : 1

A2 : 2

A3 : 3

A4 : 4

Objective Question

1271 1271 **Question no. 1 to 10 are Mandatory** 4.0 1.00

ਜੇਕਰ $(1, -1)$ ਤੇ ਵਕਰ $2y^2 = ax^2 + b$ ਦੀ ਢਲਾਨ -1 ਹੈ, ਤਾਂ a ਅਤੇ b ਦਾ ਮੁੱਲ ਹੋਵੇਗਾ :

(1) $a = 2,\ b = 0$
(2) $a = 0,\ b = 2$
(3) $a = 2,\ b = -1$
(4) $a = -1,\ b = 1$

A1 : 1

A2 : 2

A3 : 3

A4 : 4

Objective Question

1272 1272 **Question no. 1 to 10 are Mandatory** 4.0 1.00

ਉਹ ਅੰਤਰਾਲ ਜਿਸ ਵਿਚ $f(x) = 2x^3 - 9x^2 + 12x + 15$ ਵਧਦਾ ਹੈ, ਉਹ ਹੈ :

(1) $(-\infty, 1) \cup (2, \infty)$
(2) $(1, 2)$
(3) $(-\infty, \infty)$
(4) $(-\infty, -1) \cup (2, \infty)$

A1 : 1

A2 : 2

A3 : 3

A4 : 4

Objective Question

1273 1273 **Question no. 1 to 10 are Mandatory** 4.0 1.00

ਜੇਕਰ $\int_0^1 \frac{(9^x + 3^x)^2}{3^{3x}} dx = \frac{a^b}{\log_e b^b} + a$ ਹੈ, ਤਾਂ $a + b$ ਬਰਾਬਰ ਹੈ :

(1) 3
(2) 5
(3) 7
(4) 9

A1 : 1

A2 : 2

A3 : 3

A4 : 4

Objective Question

1274 1274

Question no. 1 to 10 are Mandatory

4.0 1.00

ਡਿਫਰੈਂਸ਼ੀਅਲ ਸਮੀਕਰਣ $\frac{dx}{dy} = e^{y-x} + y^2 e^{-x}$ ਦਾ ਹੱਲ ਹੈ :

(1) $e^y = e^x + \frac{x^3}{3} + C$, ਜਿੱਥੇ C ਸਵੈਇੱਛਤ ਅਚਲ ਹੈ ।

(2) $e^x = e^y + \frac{y^3}{3} + C$, ਜਿੱਥੇ C ਸਵੈਇੱਛਤ ਅਚਲ ਹੈ ।

(3) $e^x = e^y + C$, ਜਿੱਥੇ C ਸਵੈਇੱਛਤ ਅਚਲ ਹੈ ।

(4) $e^x + e^{2y} + \frac{y^2}{2} + C = 0$, ਜਿੱਥੇ C ਸਵੈਇੱਛਤ ਅਚਲ ਹੈ ।

A1 : 1

A2 : 2

A3 : 3

A4 : 4

Objective Question

1275 1275

Question no. 1 to 10 are Mandatory

4.0 1.00

ਵਿਚਾਰ ਕਰੋ ਡਿਫਰੈਂਸ਼ੀਅਲ ਸਮੀਕਰਣ $y = Px + \sqrt{a^2P^2 + b^2}$ ਹੈ, ਜਿਥੇ $P = \frac{dy}{dx}$ ਹੈ ਤਾਂ ਫਿਰ ਡਿਫਰੈਂਸ਼ੀਅਲ ਸਮੀਕਰਣ ਦਾ ਕ੍ਰਮ ਅਤੇ ਡਿਗਰੀ ਹੋਣਗੇ :

(1) ਕ੍ਰਮ 2, ਡਿਗਰੀ 1

(2) ਕ੍ਰਮ 1, ਡਿਗਰੀ 2

(3) ਕ੍ਰਮ 2, ਡਿਗਰੀ 2

(4) ਕ੍ਰਮ 1, ਡਿਗਰੀ 1

A1 : 1

A2 : 2

A3 : 3

A4 : 4

Objective Question

1276 1276

Question no. 1 to 10 are Mandatory

4.0 1.00

$n \geq 2, 0 < p < 1$, ਲਈ ਦੋ ਪਦੀ (ਦੁਪਦ) ਵੰਡ ਵਿਚ, ਹੇਠਾਂ ਵਿਚੋਂ ਕਿਹੜਾ ਸਹੀ ਹੈ ?

(1) mean > variance

(2) mean < variance

(3) mean = variance

(4) $(\text{mean})^2 = \text{variance}$

A1 : 1

A2 : 2

A3 : 3

A4 : 4

Objective Question

1277 1277 4.0 1.00

Question no. 1 to 10 are Mandatory

ਦੋ ਪਾਸੇ ਇਕੱਠੇ ਸੁੱਟੇ ਗਏ। ਜੇਕਰ X ਛੇ ਦੇ ਪ੍ਰਾਪਤ ਹੋਣ ਦੀ ਗਿਣਤੀ ਦਰਸਾਉਂਦਾ ਹੈ, ਤਾਂ X ਦੀ ਉਮੀਦ ਹੈ :

(1) $\frac{2}{3}$

(2) $\frac{1}{3}$

(3) $\frac{4}{3}$

(4) $\frac{1}{6}$

A1 : 1

A2 : 2

A3 : 3

A4 : 4

Objective Question

1278 1278 4.0 1.00

Question no. 1 to 10 are Mandatory

ਜੇਕਰ $x \le 2, x+y \le 3, -2x+y \le 1, x \ge 0, y \ge 0,$ ਦੇ ਸੰਦਰਭ ਵਿਚ $Z=6x+4y,$ ਹੈ, ਤਾਂ ਉਦੇਸ਼ ਫਲਨ Z ਦਾ ਅਧਿਕਤਮ ਮੁੱਲ ਪ੍ਰਾਪਤ ਹੋਵੇਗਾ, ਬਿੰਦੂ ਤੇ :

(1) $\left(\frac{2}{3}, \frac{7}{3}\right)$

(2) (2, 1)

(3) (2, 0)

(4) (0, 0)

A1 : 1

A2 : 2

A3 : 3

A4 : 4

Objective Question

1279 1279 4.0 1.00

Candidate can only answer 15 Questions for Q11 to Q28, First 15 attempted questions will be considered for evaluation.

$f(x) = e^{-x}$ ਵੱਲੋਂ ਪਰਿਭਾਸ਼ਿਤ ਕੀਤਾ ਫਲਨ $f: \mathbf{R} \to \mathbf{R}$, ਹੈ :

(1) ਇਕ-ਇਕ ਅਤੇ ਔਨਟੂ ਅਤੇ $f^{-1}(x) = -\log_e x$

(2) ਇਕ-ਇਕ ਪਰ ਔਨਟੂ ਨਹੀਂ

(3) ਨਾ ਹੀ ਇਕ-ਇਕ ਨਾ ਔਨਟੂ

(4) ਔਨਟੂ ਪਰ ਇਕ-ਇਕ ਨਹੀਂ

A1 : 1

A2 : 2

A3 : 3

A4 : 4

Objective Question

1280	1280	**Candidate can only answer 15 Questions for Q11 to Q28, First 15 attempted questions will be considered for evaluation.**	4.0	1.00

ਮੁੱਖ ਮੂਲ ਸ਼ਾਖਾ ਲਈ, ਜੇਕਰ $\cos^{-1}\left(\frac{3}{5}\right) - \sin^{-1}\left(\frac{4}{5}\right) = \cos^{-1}(x)$, ਹੈ ਤਾਂ x ਬਰਾਬਰ ਹੈ :

(1) 0

(2) $1/2$

(3) 1

(4) $-1/2$

A1 : 1

A2 : 2

A3 : 3

A4 : 4

Objective Question

1281	1281	**Candidate can only answer 15 Questions for Q11 to Q28, First 15 attempted questions will be considered for evaluation.**	4.0	1.00

ਜੇਕਰ $[1\ x\ 1]\begin{bmatrix} 1 & 3 & 2 \\ 2 & 5 & 1 \\ 15 & 3 & 2 \end{bmatrix}\begin{bmatrix} 1 \\ 2 \\ x \end{bmatrix} = O$ ਹੈ, ਤਾਂ x ਦਾ ਕੋਈ ਇਕ ਮੁੱਲ ਹੋਵੇਗਾ :

(1) -2

(2) -1

(3) 4

(4) 14

A1 : 1

A2 : 2

A3 : 3

A4 : 4

Objective Question

1282 | 1282 | 4.0 | 1.00

Candidate can only answer 15 Questions for Q11 to Q28, First 15 attempted questions will be considered for evaluation.

ਰੇਖੀ ਸਮੀਕਰਣ ਦੀ ਪ੍ਰਣਾਲੀ

$$5x + 10y + 3z = 0$$
$$-2x - 4y + 6z = 0$$
$$kx - 2y + z = 0$$

ਦੇ ਅਣਗਿਣਤ ਹੱਲ ਹਨ, ਤਾਂ k ਦਾ ਮੁੱਲ ਹੈ :

(1) -1
(2) 1
(3) 0
(4) 2

A1 : 1

A2 : 2

A3 : 3

A4 : 4

Objective Question

1283 | 1283 | 4.0 | 1.00

Candidate can only answer 15 Questions for Q11 to Q28, First 15 attempted questions will be considered for evaluation.

ਮੰਨ ਲਓ A ਅਤੇ B, 3×3 ਮੈਟ੍ਰਿਕਸ ਹਨ ਇਵੇਂ $A \neq B$. ਜੇਕਰ $A^3 = B^3$ ਅਤੇ $A^2B = B^2A$, ਫਿਰ $(A^2 + B^2)$ ਦਾ ਡਿਟਰਮੀਨੈਂਟ ਬਰਾਬਰ ਹੈ :

(1) 0
(2) 1
(3) -1
(4) 2

A1 : 1

A2 : 2

A3 : 3

A4 : 4

Objective Question

1284 | 1284 | 4.0 | 1.00

Candidate can only answer 15 Questions for Q11 to Q28, First 15 attempted questions will be considered for evaluation.

ਮੰਨ ਲਓ 4 ਘਾਤ ਦਾ ਬਹੁਲਕ $f(x)$ ਹੈ, ਇਸ ਤਰ੍ਹਾਂ ਕਿ $f(0) = 0$, $f(1) = 2$, $f(2) = -4$, ਅਤੇ $f(3) = 6$, ਹੈ ਤਾਂ ਫਿਰ ਅੰਤਰਾਲ $[0, 3]$ ਵਿਚ ਆ ਰਹੇ $f(x)$ ਦੇ ਮੂਲ ਦੀ ਨਿਊਨਤਮ ਗਿਣਤੀ ਹੋਵੇਗੀ :

(1) 1
(2) 2
(3) 3
(4) 4

A1 : 1

A2 : 2

A3 : 3

A4 : 4

Objective Question

1285 1285

Candidate can only answer 15 Questions for Q11 to Q28, First 15 attempted questions will be considered for evaluation.

4.0 1.00

ਬਿੰਦੂ $(\pi, 0)$ ਤੇ, ਸਧਾਰਣ ਤੋਂ ਵਕਰ $y = \sin x$ ਦਾ ਸਮੀਕਰਣ ਹੈ :

(1) $x + y = \pi$
(2) $x + y + \pi = 0$
(3) $x - y = \pi$
(4) $x - y + \pi = 0$

A1 : 1

A2 : 2

A3 : 3

A4 : 4

Objective Question

1286 1286

Candidate can only answer 15 Questions for Q11 to Q28, First 15 attempted questions will be considered for evaluation.

4.0 1.00

ਫਲਨ $f(x) = \dfrac{x}{\log_e x}; x > 1$, ਸਖ਼ਤੀ ਨਾਲ ਅੰਤਰਾਲ ਵਿਚ ਵਧਦਾ ਹੈ :

(1) $(1, e^2)$
(2) $(1, \infty)$
(3) (e, ∞)
(4) $(1, e)$

A1 : 1

A2 : 2

A3 : 3

A4 : 4

Objective Question

1287 1287

Candidate can only answer 15 Questions for Q11 to Q28, First 15 attempted questions will be considered for evaluation.

4.0 1.00

ਜੇਕਰ $f'(x) = 3x^2 - \frac{2}{x^3}$ ਹੈ ਅਤੇ $f(1) = 0$, ਹੈ ਤਾਂ $f(x)$ ਬਰਾਬਰ ਹੈ :

(1) $x^3 + \frac{1}{x^2} - 2$

(2) $x^3 + \frac{1}{x^2} + 2$

(3) $x^3 - \frac{1}{x^2} + 2$

(4) $x^3 - \frac{1}{x^4} - 2$

A1 : 1

A2 : 2

A3 : 3

A4 : 4

Objective Question

1288 | 1288 | 4.0 | 1.00

Candidate can only answer 15 Questions for Q11 to Q28, First 15 attempted questions will be considered for evaluation.

$\int_{-\pi}^{\pi} \frac{\sin x}{1+\sin^2 x} dx$ ਬਰਾਬਰ ਹੈ :

(1) π

(2) 2π

(3) π^2

(4) 0

A1 : 1

A2 : 2

A3 : 3

A4 : 4

Objective Question

1289 | 1289 | 4.0 | 1.00

Candidate can only answer 15 Questions for Q11 to Q28, First 15 attempted questions will be considered for evaluation.

ਚੱਕਰ $x^2+y^2=4$ ਅਤੇ ਰੇਖਾ $x+y=-2$ ਦੁਆਰਾ ਘਿਰੇ ਵੱਡੇ ਖੇਤਰ ਦਾ ਖੇਤਰਫਲ ਹੈ :

(1) $(\pi-2)$ ਵਰਗ ਇਕਾਈ

(2) $(\pi+2)$ ਵਰਗ ਇਕਾਈ

(3) $\left(3\pi - \frac{1}{2}\right)$ ਵਰਗ ਇਕਾਈ

(4) $(3\pi+2)$ ਵਰਗ ਇਕਾਈ

A1 : 1

A2 : 2

A3 : 3

A4 : 4

Objective Question

1290 1290

Candidate can only answer 15 Questions for Q11 to Q28, First 15 attempted questions will be considered for evaluation.

4.0 1.00

ਡਿਫਰੈਂਸ਼ੀਅਲ ਸਮੀਕਰਣ $\left(x + 2y^2\right) \frac{dy}{dx} = y$ ਦਾ ਇਨਟੀਗਰੇਟ ਗੁਣਨਖੰਡ ਹੈ :

(1) $\frac{1}{x}$

(2) $\frac{1}{y}$

(3) $-\frac{1}{x}$

(4) $-\frac{1}{y}$

A1 : 1

A2 : 2

A3 : 3

A4 : 4

Objective Question

1291 1291

Candidate can only answer 15 Questions for Q11 to Q28, First 15 attempted questions will be considered for evaluation.

4.0 1.00

x-ਧੁਰੇ ਨੂੰ ਮੂਲ ਬਿੰਦੂ ਤੇ ਛੂਹਣ ਵਾਲੇ ਚੱਕਰ ਦੇ ਪਰਿਵਾਰ ਦੀ ਡਿਫਰੈਂਸ਼ੀਅਲ ਸਮੀਕਰਣ ਹੈ :

(1) $\left(x^2 - y^2\right) \frac{dy}{dx} = 2x$

(2) $\left(x^2 + y^2\right) \frac{dy}{dx} = 2y$

(3) $\left(x^2 - y^2\right) \frac{dy}{dx} = 2xy$

(4) $\left(x^2 + y^2\right) \frac{dy}{dx} = 2xy$

A1 : 1

A2 : 2

A3 : 3

A4 : 4

Objective Question

1292 1292

Candidate can only answer 15 Questions for Q11 to Q28, First 15 attempted questions will be considered for evaluation.

4.0 1.00

ਜੇਕਰ $|\vec{a}+\vec{b}|=5$ ਹੈ ਅਤੇ $|\vec{a}-\vec{b}|=3$, ਹੈ ਤਾਂ $\vec{a}\cdot\vec{b}$ ਬਰਾਬਰ ਹੈ :

(1) 2
(2) 3
(3) 4
(4) 5

A1 : 1

A2 : 2

A3 : 3

A4 : 4

Objective Question

1293 1293 **Candidate can only answer 15 Questions for Q11 to Q28, First 15 attempted questions will be considered for evaluation.** 4.0 1.00

ਮੰਨ ਲਓ $\vec{a}, \vec{b}, \vec{c}$ ਤਿੰਨ ਵੈਕਟਰ ਹਨ ਤਾਂ ਫਿਰ ਇਹਨਾਂ ਵਿਚੋਂ ਕਿਹੜਾ ਗ਼ਲਤ ਹੈ ?

(1) $\left[\vec{a}\ \vec{b}\ \vec{c}\right]=\left[\vec{c}\ \vec{b}\ \vec{a}\right]$

(2) $\left(\vec{a}\times\vec{b}\right)\cdot\vec{c}=\vec{a}\cdot\left(\vec{b}\times\vec{c}\right)$

(3) $\left[\vec{a}\ \vec{b}\ \vec{c}\right]=\left[\vec{c}\ \vec{a}\ \vec{b}\right]$

(4) $\left[\vec{a}\ \vec{b}\ \vec{c}\right]=0$ if $\vec{a}=\vec{b}$

A1 : 1

A2 : 2

A3 : 3

A4 : 4

Objective Question

1294 1294 **Candidate can only answer 15 Questions for Q11 to Q28, First 15 attempted questions will be considered for evaluation.** 4.0 1.00

ਇਕ ਰੇਖਾ ਦਾ ਕਾਰਟੀਜਨ ਸਮੀਕਰਣ ਹੈ $x=py+q$, $z=ry+s$. ਇਹਨਾਂ ਰੇਖਾਵਾਂ ਦਾ ਦਿਸ਼ਾ-ਅਨੁਪਾਤ ਹੈ :

(1) p, r, s
(2) p, 1, r
(3) 1, s, q
(4) p, s, 1

A1 : 1

A2 : 2

A3 : 3

A4 : 4

Objective Question

1295 1295

Candidate can only answer 15 Questions for Q11 to Q28, First 15 attempted questions will be considered for evaluation.

4.0 1.00

ਹੇਠਾਂ ਦਿੱਤੀ ਰੇਖਿਕ ਪ੍ਰੋਗਰਾਮਿੰਗ ਸਮੱਸਿਆ ਲਈ, ਨਿਮਨ ਪ੍ਰਤੀਬੰਧਾਂ ਦੇ ਤਹਿਤ $Z = 3x + 6y$ ਦਾ ਅਧਿਕਤਮੀਕਰਣ ਕਰੋ :

$3x - 4y + 12 \geq 0$, $2x - y + 2 \geq 0$ ਅਤੇ $2x + 3y - 12 \geq 0$, $0 \leq x \leq 4$ ਅਤੇ $y \geq 2$ ਦਾ ਅਨੁਕੂਲਤਮ ਹੱਲ, ਬਿੰਦੂਆਂ ਤੇ ਹੈ :

(1) (4, 6)

(2) (3, 2)

(3) $\left(\frac{4}{5}, \frac{18}{5}\right)$

(4) (3, 8)

A1 : 1

A2 : 2

A3 : 3

A4 : 4

Objective Question

1296 1296

Candidate can only answer 15 Questions for Q11 to Q28, First 15 attempted questions will be considered for evaluation.

4.0 1.00

ਦੋ ਵਿਦਿਆਰਥੀਆਂ A ਅਤੇ B ਦੀ ਸਮੱਸਿਆ ਹੱਲ ਕਰਨ ਦੀ ਸੰਭਾਵਨਾ ਕ੍ਰਮਵਾਰ $\frac{9}{10}$ ਅਤੇ $\frac{7}{10}$ ਹੈ। ਘੱਟ ਤੋਂ ਘੱਟ ਕਿਸੇ ਇਕ ਦੇ ਸਮੱਸਿਆ ਦਾ ਹੱਲ ਕਰਨ ਦੀ ਸੰਭਾਵਨਾ ਹੈ :

(1) $\frac{49}{50}$

(2) $\frac{97}{100}$

(3) $\frac{24}{25}$

(4) $\frac{19}{20}$

A1 : 1

A2 : 2

A3 : 3

A4 : 4

Objective Question

1297 1297

Question no. 1 to 10 are Mandatory

4.0 1.00

ਜੇਕਰ $A = \begin{bmatrix} 3 & -2 \\ 4 & -2 \end{bmatrix}$ ਹੈ ਅਤੇ ਕਿਸੇ ਸੰਖਿਆ k ਲਈ $A^2 = kA - 2I_{2\times 2}$ ਹੈ, ਤਾਂ ਫਿਰ k ਬਰਾਬਰ ਹੈ :

(1) -1
(2) 1
(3) 2
(4) -2

A1 : 1

A2 : 2

A3 : 3

A4 : 4

Objective Question

1298	1298	**Question no. 1 to 10 are Mandatory** ਜੇਕਰ $A_{3\times 3}$ ਇਕ ਮੈਟ੍ਰਿਕ ਹੈ ਇਵੇਂ ਕਿ det (A) = 2^a ਅਤੇ det (adj (2A)) = 2^8, ਤਾਂ ਫਿਰ a ਬਰਾਬਰ ਹੈ : (1) 0 (2) 1 (3) 2 (4) 3 A1 : 1 A2 : 2 A3 : 3 A4 : 4	4.0	1.00

Objective Question

1299	1299	**Question no. 1 to 10 are Mandatory** ਜੇਕਰ (1, -1) ਤੇ ਵਕਰ $2y^2 = ax^2 + b$ ਦੀ ਢਲਾਨ -1 ਹੈ, ਤਾਂ a ਅਤੇ b ਦਾ ਮੁੱਲ ਹੋਵੇਗਾ : (1) $a = 2,\ b = 0$ (2) $a = 0,\ b = 2$ (3) $a = 2,\ b = -1$ (4) $a = -1,\ b = 1$ A1 : 1 A2 : 2 A3 : 3 A4 : 4	4.0	1.00

Objective Question

1300	1300	**Question no. 1 to 10 are Mandatory**	4.0	1.00

ਉਹ ਅੰਤਰਾਲ ਜਿਸ ਵਿਚ $f(x)=2x^3-9x^2+12x+15$ ਵਧਦਾ ਹੈ, ਉਹ ਹੈ :

(1) $(-\infty, 1)\cup(2, \infty)$
(2) $(1, 2)$
(3) $(-\infty, \infty)$
(4) $(-\infty, -1)\cup(2, \infty)$

A1 : 1

A2 : 2

A3 : 3

A4 : 4

Objective Question

1301 1301 **Question no. 1 to 10 are Mandatory** 4.0 1.00

ਜੇਕਰ $\int_0^1 \frac{(9^x+3^x)^2}{3^{3x}}dx = \frac{a^b}{\log_e b^b} + a$ ਹੈ, ਤਾਂ $a+b$ ਬਰਾਬਰ ਹੈ :

(1) 3
(2) 5
(3) 7
(4) 9

A1 : 1

A2 : 2

A3 : 3

A4 : 4

Objective Question

1302 1302 **Question no. 1 to 10 are Mandatory** 4.0 1.00

ਡਿਫਰੈਂਸ਼ੀਅਲ ਸਮੀਕਰਣ $\frac{dx}{dy} = e^{y-x} + y^2 e^{-x}$ ਦਾ ਹੱਲ ਹੈ :

(1) $e^y = e^x + \frac{x^3}{3} + C$, ਜਿੱਥੇ C ਸਵੈਇੱਛਤ ਅਚਲ ਹੈ ।

(2) $e^x = e^y + \frac{y^3}{3} + C$, ਜਿੱਥੇ C ਸਵੈਇੱਛਤ ਅਚਲ ਹੈ ।

(3) $e^x = e^y + C$, ਜਿੱਥੇ C ਸਵੈਇੱਛਤ ਅਚਲ ਹੈ ।

(4) $e^x + e^{2y} + \frac{y^2}{2} + C = 0$, ਜਿੱਥੇ C ਸਵੈਇੱਛਤ ਅਚਲ ਹੈ ।

A1 : 1

A2 : 2

A3 : 3

A4 : 4

Objective Question

1303 1303 **Question no. 1 to 10 are Mandatory** 4.0 1.00

ਵਿਚਾਰ ਕਰੋ ਡਿਫਰੈਂਸ਼ੀਅਲ ਸਮੀਕਰਣ $y = Px + \sqrt{a^2P^2 + b^2}$ ਹੈ, ਜਿਥੇ $P = \frac{dy}{dx}$ ਹੈ ਤਾਂ ਫਿਰ ਡਿਫਰੈਂਸ਼ੀਅਲ ਸਮੀਕਰਣ ਦਾ ਕ੍ਰਮ ਅਤੇ ਡਿਗਰੀ ਹੋਣਗੇ :

(1) ਕ੍ਰਮ 2, ਡਿਗਰੀ 1

(2) ਕ੍ਰਮ 1, ਡਿਗਰੀ 2

(3) ਕ੍ਰਮ 2, ਡਿਗਰੀ 2

(4) ਕ੍ਰਮ 1, ਡਿਗਰੀ 1

A1 : 1

A2 : 2

A3 : 3

A4 : 4

Objective Question

1304 1304 **Question no. 1 to 10 are Mandatory** 4.0 1.00

$n \geq 2, 0 < p < 1$, ਲਈ ਦੋ ਪਦੀ (ਦੁਪਦ) ਵੰਡ ਵਿਚ, ਹੇਠਾਂ ਵਿਚੋਂ ਕਿਹੜਾ ਸਹੀ ਹੈ ?

(1) mean > variance

(2) mean < variance

(3) mean = variance

(4) $(\text{mean})^2 = \text{variance}$

A1 : 1

A2 : 2

A3 : 3

A4 : 4

Objective Question

1305 1305 **Question no. 1 to 10 are Mandatory** 4.0 1.00

ਦੋ ਪਾਸੇ ਇਕੱਠੇ ਸੁੱਟੇ ਗਏ। ਜੇਕਰ X ਛੇ ਦੇ ਪ੍ਰਾਪਤ ਹੋਣ ਦੀ ਗਿਣਤੀ ਦਰਸਾਉਂਦਾ ਹੈ, ਤਾਂ X ਦੀ ਉਮੀਦ ਹੈ :

(1) $\frac{2}{3}$

(2) $\frac{1}{3}$

(3) $\frac{4}{3}$

(4) $\frac{1}{6}$

A1 : 1

A2 : 2

A3 : 3

A4 : 4

Objective Question

1306 1306 4.0 1.00

Question no. 1 to 10 are Mandatory

ਜੇਕਰ $x \le 2, x+y \le 3, -2x+y \le 1, x \geqslant 0, y \geqslant 0,$ ਦੇ ਸੰਦਰਭ ਵਿਚ $Z=6x+4y,$ ਹੈ, ਤਾਂ ਉਦੇਸ਼ ਫਲਨ Z ਦਾ ਅਧਿਕਤਮ ਮੁੱਲ ਪ੍ਰਾਪਤ ਹੋਵੇਗਾ, ਬਿੰਦੂ ਤੇ :

(1) $\left(\frac{2}{3}, \frac{7}{3}\right)$

(2) (2, 1)

(3) (2, 0)

(4) (0, 0)

A1 : 1

A2 : 2

A3 : 3

A4 : 4

Objective Question

1307 1307 4.0 1.00

Candidate can only answer 15 Questions for Q11 to Q28, First 15 attempted questions will be considered for evaluation.

$m > 0$ ਲਈ, ਜੇਕਰ $247 \equiv -5 \pmod{k}$, ਤਾਂ ਫਿਰ ਅਜਿਹੇ ਸੰਭਾਵਿਤ k's ਦੀ ਸੰਖਿਆ ਹੈ :

(1) 15

(2) 16

(3) 17

(4) 18

A1 : 1

A2 : 2

A3 : 3

A4 : 4

Objective Question

1308 1308 4.0 1.00

Candidate can only answer 15 Questions for Q11 to Q28, First 15 attempted questions will be considered for evaluation.

ਦੋ ਪਾਈਪਾਂ A ਅਤੇ B ਟੈਂਕੀ ਨੂੰ ਕ੍ਰਮਵਾਰ 20 ਮਿੰਟ ਅਤੇ 30 ਮਿੰਟ ਭਰ ਸਕਦੀਆਂ ਹਨ ਅਤੇ ਪਾਈਪ C ਪੂਰੀ ਟੈਂਕੀ ਨੂੰ 40 ਮਿੰਟ ਵਿਚ ਖਾਲੀ ਕਰ ਸਕਦੀ ਹੈ। ਜੇਕਰ ਤਿੰਨੇ ਪਾਈਪਾਂ ਨੂੰ ਇਕੋ ਸਮੇਂ ਇਕੱਠੇ ਖੋਲ ਦਿੱਤਾ ਜਾਵੇ ਤਾਂ ਟੈਂਕੀ ਨੂੰ ਪੂਰਾ ਭਰਨ ਲਈ ਸਮਾਂ ਲੱਗੇਗਾ :

(1) $17\frac{1}{7}$ ਮਿੰਟ

(2) $13\frac{1}{7}$ ਮਿੰਟ

(3) $15\frac{1}{7}$ ਮਿੰਟ

(4) $19\frac{1}{7}$ ਮਿੰਟ

A1 : 1

A2 : 2

A3 : 3

A4 : 4

Objective Question

1309 1309

Candidate can only answer 15 Questions for Q11 to Q28, First 15 attempted questions will be considered for evaluation.

4.0 1.00

ਜੇਕਰ $\frac{2x+4}{x-1} \geq 5$, ਹੈ ਤਾਂ x ਅੰਤਰਾਲ ਵਿਚ ਪੈਂਦਾ ਹੈ :

(1) $(-\infty, 3]$ ਵਿਚ

(2) $(1, 3]$ ਵਿਚ

(3) $(0, 3]$ ਵਿਚ

(4) $[3, \infty)$ ਵਿਚ

A1 : 1

A2 : 2

A3 : 3

A4 : 4

Objective Question

1310 1310

Candidate can only answer 15 Questions for Q11 to Q28, First 15 attempted questions will be considered for evaluation.

4.0 1.00

ਇਕ ਮਿਸ਼ਰਣ ਵਿਚ ਦੁੱਧ ਅਤੇ ਪਾਣੀ 3 : 2 ਅਨੁਪਾਤ ਵਿਚ ਹਨ। ਜੇਕਰ ਮਿਸ਼ਰਣ ਵਿਚ 4 ਲੀਟਰ ਪਾਣੀ ਮਿਲਾਇਆ ਜਾਂਦਾ ਹੈ, ਮਿਸ਼ਰਣ ਵਿਚ ਦੁੱਧ ਅਤੇ ਪਾਣੀ ਬਰਾਬਰ ਹੋ ਜਾਂਦੇ ਹਨ, ਫਿਰ ਮਿਸ਼ਰਣ ਵਿਚ ਦੁੱਧ ਦੀ ਮਾਤਰਾ (ਲੀਟਰ ਵਿਚ) ਹੋਵੇਗੀ :

(1) 8 ਲੀਟਰ

(2) 12 ਲੀਟਰ

(3) 16 ਲੀਟਰ

(4) 20 ਲੀਟਰ

A1 : 1

A2 : 2

A3 : 3

A4 : 4

Objective Question

1311 1311 4.0 1.00

Candidate can only answer 15 Questions for Q11 to Q28, First 15 attempted questions will be considered for evaluation.

ਜੇਕਰ $A^T = \begin{bmatrix} 1 & 3 \\ 2 & -1 \end{bmatrix}$ ਹੈ ਅਤੇ $B = \begin{bmatrix} 0 & 1 \\ -1 & 3 \end{bmatrix}$ ਹੈ, ਤਾਂ $(A+2B)^T$ ਬਰਾਬਰ ਹੈ :

(1) $\begin{bmatrix} 1 & -1 \\ 4 & 5 \end{bmatrix}$

(2) $\begin{bmatrix} 1 & 1 \\ 4 & 5 \end{bmatrix}$

(3) $\begin{bmatrix} 1 & 1 \\ -4 & 5 \end{bmatrix}$

(4) $\begin{bmatrix} 4 & 1 \\ 1 & 5 \end{bmatrix}$

A1 : 1

A2 : 2

A3 : 3

A4 : 4

Objective Question

1312 1312 4.0 1.00

Candidate can only answer 15 Questions for Q11 to Q28, First 15 attempted questions will be considered for evaluation.

ਜੇਕਰ $\begin{bmatrix} 2x & -7 \\ 5y & 3x+y \end{bmatrix} = \begin{bmatrix} 6 & -7 \\ -5 & 8 \end{bmatrix}$ ਹੈ, ਤਾਂ $(3x-y)$ ਦਾ ਮੁੱਲ ਹੈ :

(1) 8
(2) 6
(3) -10
(4) 10

A1 : 1

A2 : 2

A3 : 3

A4 : 4

Objective Question

1313	1313	**Candidate can only answer 15 Questions for Q11 to Q28, First 15 attempted questions will be considered for evaluation.** ਕਿਸੇ ਖਾਸ ਉਤਪਾਦ ਦੀ ਦਿੱਤੀ ਗਈ ਪ੍ਰਤੀ ਯੂਨਿਟ ਕੀਮਤ $p = 250 + 30x - x^2$ (₹ ਵਿਚ) ਹੈ, ਜਿਥੇ ਕਿ x ਮੰਗ ਕੀਤੀ ਗਈ ਇਕਾਈ ਦੀ ਸੰਖਿਆ ਹੈ, ਤਾਂ ਫਿਰ 10 ਯੂਨਿਟ ਦੀ ਮੰਗ ਹੋਣ 'ਤੇ ਸੀਮਾਂਤ ਆਮਦਨ ਹੈ : (1) ₹ 550 (2) ₹ 500 (3) ₹ 650 (4) ₹ 600 A1 : 1 A2 : 2 A3 : 3 A4 : 4	4.0	1.00
Objective Question				
1314	1314	**Candidate can only answer 15 Questions for Q11 to Q28, First 15 attempted questions will be considered for evaluation.** ਜੇਕਰ ਫਲਨ $x^4 - 62x^2 + ax + 9$ ਆਪਣਾ ਅਧਿਕਤਮ ਮੁੱਲ $x = 1$ ਤੇ ਪ੍ਰਾਪਤ ਕਰਦਾ ਹੈ, ਤਾਂ a ਦਾ ਮੁੱਲ ਪਤਾ ਕਰੋ : (1) 124 (2) 128 (3) 120 (4) 129 A1 : 1 A2 : 2 A3 : 3 A4 : 4	4.0	1.00
Objective Question				
1315	1315	**Candidate can only answer 15 Questions for Q11 to Q28, First 15 attempted questions will be considered for evaluation.** ਕੋਈ ਬੇਤਰਤੀਬੀ ਵੈਰੀਏਬਲ ਤਿੰਨ ਮੁੱਲ 0, 1, 2 ਲੈ ਸਕਦਾ ਹੈ। ਦਿੱਤੇ ਅਨੁਸਾਰ $P(X=0) = P(X=1) = p$ ਅਤੇ $E(X^2) = E(X)$, ਹੈ, ਤਾਂ p ਦਾ ਮੁੱਲ ਹੈ : (1) $\frac{1}{2}$ (2) $\frac{1}{3}$ (3) $\frac{1}{4}$ (4) $\frac{1}{6}$ A1 : 1 A2 : 2	4.0	1.00

A3 : 3

A4 : 4

Objective Question

1316 1316

Candidate can only answer 15 Questions for Q11 to Q28, First 15 attempted questions will be considered for evaluation.

4.0 1.00

ਜੇਕਰ ਸੰਭਾਵਨਾ ਵੰਡ

X	2	3	4
P(X)	0.2	0.5	K

ਦਾ ਮੱਧ 3.1 ਹੈ, ਤਾਂ K ਬਰਾਬਰ ਹੈ :

(1) 0.3
(2) 0.4
(3) 0.5
(4) 0.6

A1 : 1

A2 : 2

A3 : 3

A4 : 4

Objective Question

1317 1317

Candidate can only answer 15 Questions for Q11 to Q28, First 15 attempted questions will be considered for evaluation.

4.0 1.00

2024 ਵਿਚ ਕਣਕ ਦਾ ਥੋਕ ਮੁੱਲ ਸੂਚਕ ਅੰਕ 2015 ਦੀ ਤੁਲਨਾ ਵਿਚ 130 ਹੈ। ਜੇਕਰ ਕਣਕ ਦਾ ਮੁੱਲ 2024 ਵਿਚ ₹ 15.60 ਪ੍ਰਤੀ ਕਿਲੋ ਹੈ, ਤਾਂ 2015 ਵਿਚ ਕਣਕ ਦਾ ਮੁੱਲ ਸੀ :

(1) ₹ 10 ਪ੍ਰਤੀ ਕਿਲੋ
(2) ₹ 12 ਪ੍ਰਤੀ ਕਿਲੋ
(3) ₹ 14 ਪ੍ਰਤੀ ਕਿਲੋ
(4) ₹ 16 ਪ੍ਰਤੀ ਕਿਲੋ

A1 : 1

A2 : 2

A3 : 3

A4 : 4

Objective Question

1318 1318

Candidate can only answer 15 Questions for Q11 to Q28, First 15 attempted questions will be considered for evaluation.

4.0 1.00

ਪੱਧਰੀ ਨਮੂਨੇ ਲਈ ਹੇਠਾਂ ਵਿਚੋਂ ਕਿਹੜਾ ਸਹੀ ਹੈ :

(1) ਸੰਬੰਧਿਤ ਗੁਣਾਂ ਦੇ ਆਧਾਰ 'ਤੇ ਜਨ ਸੰਖਿਆ ਨੂੰ ਉਪ ਸਮੂਹਾਂ ਵਿਚ ਵੰਡ ਦਿੱਤਾ ਜਾਂਦਾ ਹੈ ।
(2) ਜਨ ਸੰਖਿਆ ਨੂੰ ਉਪ ਸਮੂਹਾਂ ਵਿਚ ਵੰਡ ਦਿੱਤਾ ਜਾਂਦਾ ਹੈ ਪਰ ਹਰੇਕ ਉਪ ਸਮੂਹ ਵਿਚ ਪੂਰੀ ਆਬਾਦੀ ਦੇ ਸਮਾਨ ਗੁਣ ਹਨ
(3) ਜਨ ਸੰਖਿਆ ਦੇ ਹਰੇਰ ਮੈਂਬਰ ਨੂੰ ਇੱਕ ਨੰਬਰ ਸੌਪਿਆ ਜਾਂਦਾ ਹੈ ਅਤੇ ਨੰਬਰ ਲਗਾਤਾਰ ਅੰਤਰਾਲ ਉੱਤੇ ਚੁਣੇ ਜਾਂਦੇ ਹਨ ।
(4) ਜਨ ਸੰਖਿਆ ਦੇ ਹਰੇਕ ਮੈਂਬਰ ਦੇ ਚੁਣੇ ਜਾਣ ਦੀ ਬਰਾਬਰ ਸੰਭਾਵਨਾ ਹੁੰਦੀ ਹੈ ।

A1 : 1

A2 : 2

A3 : 3

A4 : 4

Objective Question

1319 1319 **Candidate can only answer 15 Questions for Q11 to Q28, First 15 attempted questions will be considered for evaluation.** 4.0 1.00

ਕੇਂਦਰੀ ਸੀਮਾ ਸਿਧਾਂਤ ਦੱਸਦਾ ਹੈ ਕਿ ਨਮੂਨੇ ਮੀਨ ਦੀ ਨਮੂਨਾ ਵੰਡ ਸਾਧਾਰਣ ਵੰਡ ਤਕ ਪਹੁੰਚਦੀ ਹੈ :

(1) ਜਿਵੇਂ ਨਮੂਨੇ ਦਾ ਆਕਾਰ ਵਧਦਾ ਹੈ

(2) ਜਿਵੇਂ ਨਮੂਨੇ ਦਾ ਆਕਾਰ ਘਟਦਾ ਹੈ

(3) ਜਿਵੇਂ ਨਮੂਨੇ ਦਾ ਆਕਾਰ ਸਥਿਰ ਰਹਿੰਦਾ ਹੈ

(4) ਅਤੇ ਉਹ ਨਮੂਨੇ ਦੇ ਆਕਾਰ 'ਤੇ ਨਿਰਭਰ ਨਹੀਂ ਕਰਦਾ ।

A1 : 1

A2 : 2

A3 : 3

A4 : 4

Objective Question

1320 1320 **Candidate can only answer 15 Questions for Q11 to Q28, First 15 attempted questions will be considered for evaluation.** 4.0 1.00

ਗਰਮੀਆਂ ਵਿਚ ਕੁਲਫੀ ਦੀ ਵਿਕਰੀ ਵਿਚ ਅਚਾਨਕ ਵਾਧਾ ਉਦਾਹਰਣ ਹੈ :

(1) ਸਮਾਂ ਲੜੀ ਦੇ ਅਨਿਯਮਿਤ ਭਾਗ ਦਾ

(2) ਸਮਾਂ ਲੜੀ ਦੇ ਚੱਕਰਵਾਤੀ ਭਾਗ ਦਾ

(3) ਸਮਾਂ ਲੜੀ ਦੇ ਮੌਸਮੀ ਹਿੱਸੇ ਦਾ

(4) ਸਮਾਂ ਲੜੀ ਦੇ ਰੁਝਾਨ ਹਿੱਸੇ ਦਾ

A1 : 1

A2 : 2

A3 : 3

A4 : 4

Objective Question

1321 1321 **Candidate can only answer 15 Questions for Q11 to Q28, First 15 attempted questions will be considered for evaluation.** 4.0 1.00

ਮਹੀਨਾਵਾਰ ਮਿਸ਼ਰਿਤ ਪੈਸੇ ਦੀ ਕੀਮਤ 6% ਪ੍ਰਤੀ ਸਾਲ ਹੈ, ਤਾਂ ਆਜੀਵਨ ਹਰ ਮਹੀਨੇ ਦੇ ਆਰੰਭ ਵਿਚ ₹ 10,000 ਪ੍ਰਾਪਤ ਕਰਨ ਲਈ ਹੁਣੇ ਨਿਵੇਸ਼ ਕਰਨ ਯੋਗ ਲੋੜੀਂਦੀ ਰਕਮ ਹੈ :

(1) ₹ 2,00,50,000
(2) ₹ 2,00,10,000
(3) ₹ 20,10,000
(4) ₹ 20,60,000

A1 : 1

A2 : 2

A3 : 3

A4 : 4

Objective Question

1322	1322	**Candidate can only answer 15 Questions for Q11 to Q28, First 15 attempted questions will be considered for evaluation.**	4.0	1.00

ਅਮਨ ਇਕ ਗੱਡੀ ਖਰੀਦਦਾ ਹੈ ਜਿਸ ਦੀ ਉਹ ₹ 1,00,000 ਤਤਕਾਲ ਅਦਾਇਗੀ ਭਰਦਾ ਹੈ ਅਤੇ ਬਾਕੀ ਰਾਸ਼ੀ 2 ਸਾਲ ਵਿਚ ₹ 25,500 ਪ੍ਰਤੀ ਮਹੀਨੇ ਦੀ ਕਿਸ਼ਤ ਜਮ੍ਹਾਂ ਕਰਨੀ ਹੈ । ਜੇਕਰ ਵਿੱਚ ਦੇਣ ਵਾਲਾ 10% ਦੀ ਵਿਆਜ ਦਰ ਪ੍ਰਤੀ ਸਾਲ ਲਾਉਂਦਾ ਹੈ ਤਾਂ ਕਾਰ ਦਾ ਅਸਲੀ ਮੁੱਲ ਹੈ : (ਦਿੱਤਾ $\left(\frac{120}{121}\right)^{24} = 0.8$ ਤਕਰੀਬਨ)

(1) ₹ 6,12,000
(2) ₹ 7,12,000
(3) ₹ 8,12,000
(4) ₹ 9,12,000

A1 : 1

A2 : 2

A3 : 3

A4 : 4

Objective Question

1323	1323	**Candidate can only answer 15 Questions for Q11 to Q28, First 15 attempted questions will be considered for evaluation.**	4.0	1.00

ਜੇਕਰ $3x+y\leq 12$, $x+2y\leq 10$, $x\geq 0$, $y\geq 0$, ਹੈ, ਤਾਂ ਘਿਰੇ ਹੋਏ ਖੇਤਰ ਦੇ ਸਿਖਰ ਬਿੰਦੂ ਹਨ :

(1) $(0, 0), (4, 0), \left(\frac{14}{5}, \frac{18}{5}\right), (0, 5)$

(2) $(4, 0), (0, 0), (0, 12), \left(\frac{14}{5}, \frac{18}{5}\right)$

(3) $(10, 0), (0, 12), (0, 0), (0, 5)$

(4) $(0, 5), (0, 0), \left(\frac{14}{5}, \frac{18}{5}\right), (10, 0)$

A1 : 1

A2 : 2

A3 : 3

A4 : 4

Objective Question

1324 1324 4.0 1.00

Candidate can only answer 15 Questions for Q11 to Q28, First 15 attempted questions will be considered for evaluation.

ਰੇਖੀ ਪ੍ਰੋਗਰਾਮਿੰਗ ਸਮੱਸਿਆ ਦੇ ਗੈਰ-ਘਿਰੇ ਉਪਯੁਕਤ ਖੇਤਰ ਦੇ ਸਥਿਰ ਬਿੰਦੂ (30, 0), (10, 40) ਅਤੇ (0, 80) ਹਨ। ਉਦੇਸ਼ ਫਲਨ ਨਿਊਨਤਮ $Z = 10x + 4y$ ਦਾ ਅਨੁਕੂਲਤਮ ਮੁੱਲ ਹੈ :

(1) 180
(2) 260
(3) 320
(4) 300

A1 : 1

A2 : 2

A3 : 3

A4 : 4

Objective Question

1325 1325 4.0 1.00

Question no. 1 to 10 are Mandatory

ਭਾਰਤੀ ਸੰਗੀਤ ਅਤੇ ਨਾਚ ਵਿਚ ਸਮਾਂ/ਕਾਲ ਚੱਕਰ ਲਈ ਉਪਯੋਗੀ ਸ਼ਬਦ ਕੀ ਹੈ ?

(1) ਰਾਗ
(2) ਨਾਦ
(3) ਤਾਲ
(4) ਸਵਰ

A1 : 1

A2 : 2

A3 : 3

A4 : 4

Objective Question

1326 1326 4.0 1.00

Question no. 1 to 10 are Mandatory

ਨਾਟ ਸ਼ਾਸਤਰ ਦੇ ਲੇਖਕ ਹਨ :

(1) ਤਾਨਸੈਨ
(2) ਭਾਰਤਮੁਨੀ
(3) ਤਿਆਗ ਰਾਜ
(4) ਬਿਰਜੂ ਮਹਾਰਾਜ

A1 : 1

A2 : 2

A3 : 3

A4 : 4

Objective Question

1327 1327

Question no. 1 to 10 are Mandatory

ਤਾਲ ਕਹਰਵਾ ਕਿਸਦੇ ਨਾਲ ਪ੍ਰਯੋਗ ਹੁੰਦਾ ਹੈ :

(1) ਖਿਆਲ

(2) ਭਜਨ

(3) ਧਰੁਪਦ

(4) ਕੁਚੀਪੁੜੀ

A1 : 1

A2 : 2

A3 : 3

A4 : 4

4.0 1.00

Objective Question

1328 1328

Question no. 1 to 10 are Mandatory

ਭਾਰਤੀ ਸੰਗੀਤ ਵਿਚ ਰਾਗ ਕੀ ਹੈ ?

(1) ਸੰਗੀਤਕ ਰੂਪ ਰੇਖਾ/ਰਚਨਾ

(2) ਲੈਅਬੱਧ ਰੂਪ ਰੇਖਾ

(3) ਸੰਗੀਤਕ ਉਪਕਰਣ

(4) ਤਾਲ ਦਾ ਇਕ ਤੱਤ

A1 : 1

A2 : 2

A3 : 3

A4 : 4

4.0 1.00

Objective Question

1329 1329

Question no. 1 to 10 are Mandatory

ਇਕ ਪ੍ਰਸਿੱਧ ਸੰਸਕ੍ਰਿਤ ਨਾਟਕਕਾਰ ਹਨ :

(1) ਮੁਨਸ਼ੀ ਪ੍ਰੇਮ ਚੰਦ

(2) ਕਾਲੀਦਾਸ

(3) ਗਿਰੀਸ਼ ਕਰਨਾਡ

(4) ਰਬਿੰਦਰ ਨਾਥ ਟੈਗੋਰ

A1 : 1

4.0 1.00

A2 : 2

A3 : 3

A4 : 4

Objective Question

1330 1330 **Question no. 1 to 10 are Mandatory** 4.0 1.00

ਹੇਠ ਲਿਖਿਤ ਜਾਤੀਆਂ ਨੂੰ ਸੂਰਾਂ ਦੀ ਗਿਣਤੀ/ਸੰਖਿਆ ਦੇ ਅਨੁਸਾਰ ਵਧਦੇ ਕ੍ਰਮ ਵਿਚ ਵਿਵਸਥਿਤ ਕਰੋ :

(A) ਸ਼ਾਦਵ- ਆਦਵ

(B) ਸੰਪੂਰਨ-ਸ਼ਾਦਵ

(C) ਸੰਪੂਰਨ-ਸੰਪੂਰਨ

(D) ਆਦਵ-ਆਦਵ

(E) ਸੰਪੂਰਨ-ਆਦਵ

ਹੇਠਾਂ ਲਿਖੇ ਵਿਕਲਪਾਂ ਵਿੱਚੋਂ **ਸਹੀ ਉੱਤਰ** ਦੀ ਚੋਣ ਕਰੋ :

(1) (A), (B), (C), (D), (E)

(2) (D), (A), (B), (C), (E)

(3) (D), (A), (E), (B), (C)

(4) (A), (C), (B), (E), (D)

A1 : 1

A2 : 2

A3 : 3

A4 : 4

Objective Question

1331 1331 **Question no. 1 to 10 are Mandatory** 4.0 1.00

ਰਾਜਸਥਾਨ ਹੇਠ ਲਿਖੀ ਲੋਕ-ਨਾਚ ਸ਼ੈਲੀ ਲਈ ਪ੍ਰਸਿੱਧ ਹੈ :

(A) ਚਰੀ

(B) ਕਲ-ਬੇਲੀਆ

(C) ਡਾਂਡੀਆ

(D) ਘੂੰਮਰ

(E) ਗਰਬਾ

ਹੇਠਾਂ ਲਿਖੇ ਵਿਕਲਪਾਂ ਵਿੱਚੋਂ **ਸਹੀ ਉੱਤਰ** ਦੀ ਚੋਣ ਕਰੋ :

(1) ਸਿਰਫ਼ (B), (D), (C)

(2) ਸਿਰਫ਼ (E), (C), (B)

(3) ਸਿਰਫ਼ (A), (B), (D)

(4) ਸਿਰਫ਼ (A), (C), (E)

A1 : 1

A2 : 2

A3 : 3

A4 : 4

Objective Question

1332 1332 **Question no. 1 to 10 are Mandatory** 4.0 1.00

(A) 'ਪਖ਼ਾਵਜ' ਨੂੰ ਸੜੀ ਪੱਕੀ ਮਿੱਟੀ ਦੀ ਕਾਇਆ ਧਾਰਨ ਕਰਨ ਵਾਲਾ ਮੰਨਿਆ ਜਾਂਦਾ ਹੈ ।

(B) ਉੱਤਰੀ ਭਾਰਤ ਦੇ ਪਖ਼ਾਵਜ ਦਾ ਆਕਾਰ ਦੱਖਣ ਭਾਰਤ ਦੇ ਮ੍ਰਿਦੰਗਮ ਨਾਲੋਂ ਵੱਡਾ ਹੁੰਦਾ ਹੈ ।

(C) ਪਖ਼ਾਵਜ ਦੀ ਤੁਲਨਾ ਵਿਚ ਮ੍ਰਿਦੰਗਮ ਦਾ ਪੁੜਾ ਪਰਦਾ ਨਾਜ਼ੁਕ ਹੁੰਦਾ ਹੈ ।

(D) ਪਖ਼ਾਵਜ ਦੀ ਤੁਲਨਾ ਵਿਚ ਮ੍ਰਿਦੰਗਮ ਦੀ ਆਵਾਜ਼ ਭਾਰੀ ਹੁੰਦੀ ਹੈ ।

ਹੇਠਾਂ ਲਿਖੇ ਵਿਕਲਪਾਂ ਵਿੱਚੋਂ **ਸਹੀ ਉੱਤਰ** ਦੀ ਚੋਣ ਕਰੋ :

(1) ਸਿਰਫ਼ (A)

(2) ਸਿਰਫ਼ (A), (B)

(3) ਸਿਰਫ਼ (A), (B), (C)

(4) (A), (B), (C), (D)

A1 : 1

A2 : 2

A3 : 3

A4 : 4

Objective Question

1333 1333 **Question no. 1 to 10 are Mandatory** 4.0 1.00

ਸੂਚੀ-I ਦਾ **ਸੂਚੀ-II** ਨਾਲ ਮਿਲਾਨ ਕਰੋ ।

	ਸੂਚੀ-I		**ਸੂਚੀ-II**
(A)	ਰਵੀ ਸ਼ੰਕਰ	(I)	ਸ਼ਹਿਨਾਈ
(B)	ਬਿਸਮਿੱਲਾ ਖਾਨ	(II)	ਠੁਮਰੀ
(C)	ਗਿਰੀਸ਼ ਕਰਨਾਡ	(III)	ਸਿਤਾਰ
(D)	ਗਿਰਜਾ ਦੇਵੀ	(IV)	ਥੀਏਟਰ/ਰੰਗਮੰਚ

ਹੇਠਾਂ ਲਿਖੇ ਵਿਕਲਪਾਂ ਵਿੱਚੋਂ **ਸਹੀ ਉੱਤਰ** ਦੀ ਚੋਣ ਕਰੋ :

(1) (A)-(I), (B)-(II), (C)-(III), (D)-(IV)

(2) (A)-(II), (B)-(I), (C)-(IV), (D)-(III)

(3) (A)-(I), (B)-(III), (C)-(IV), (D)-(II)

(4) (A)-(III), (B)-(I), (C)-(IV), (D)-(II)

A1 : 1

A2 : 2

A3 : 3

A4 : 4

Objective Question

1334 1334

Question no. 1 to 10 are Mandatory

ਸੂਚੀ-I ਦਾ **ਸੂਚੀ-II** ਨਾਲ ਮਿਲਾਨ ਕਰੋ ।

	ਸੂਚੀ-I		**ਸੂਚੀ-II**
(A)	ਧੁਨੀ ਸਰੂਪ	(I)	ਨਾਦ ਦੇ ਪ੍ਰਕਾਰ
(B)	ਅਨਹਤ	(II)	ਸੂਰ
(C)	ਕੋਮਲ ਨੀ	(III)	ਨਾਦ ਦੀ ਵਿਸ਼ੇਸ਼ਤਾ
(D)	ਕ੍ਰੋਧ	(IV)	ਸ਼ਰੂਤੀ

ਹੇਠਾਂ ਲਿਖੇ ਵਿਕਲਪਾਂ ਵਿੱਚੋਂ **ਸਹੀ ਉੱਤਰ** ਦੀ ਚੋਣ ਕਰੋ :

(1) (A)-(I), (B)-(II), (C)-(III), (D)-(IV)
(2) (A)-(IV), (B)-(III), (C)-(II), (D)-(I)
(3) (A)-(III), (B)-(IV), (C)-(II), (D)-(I)
(4) (A)-(III), (B)-(I), (C)-(II), (D)-(IV)

A1 : 1

A2 : 2

A3 : 3

A4 : 4

4.0 1.00

Objective Question

1335 1335

Candidate can only answer 15 Questions for Q11 to Q28, First 15 attempted questions will be considered for evaluation.

ਕਿਸ ਸੰਗੀਤ ਪ੍ਰਣਾਲੀ ਵਿੱਚ ਕ੍ਰਿਤੀ (Kriti), ਰਾਗਮ (Ragam), ਜਵਾਲੀ (Jawali) ਪ੍ਰਯੋਗ ਕੀਤੀ ਜਾਂਦੀ ਹੈ ?

(1) ਉੱਤਰੀ ਭਾਰਤੀ ਸੰਗੀਤ ਪੱਧਤੀ
(2) ਦੱਖਣੀ ਭਾਰਤੀ ਸੰਗੀਤ ਪੱਧਤੀ
(3) ਵਿਦੇਸ਼ੀ ਸੰਕੇਤ ਲਿਪੀ ਸਿਸਟਮ
(4) ਵੈਦਿਕ ਸੰਗੀਤ

A1 : 1

A2 : 2

A3 : 3

A4 : 4

4.0 1.00

Objective Question

1336 1336

Candidate can only answer 15 Questions for Q11 to Q28, First 15 attempted questions will be considered for evaluation.

ਧਮਾਰ ਤਾਲ ਵਿਚ ਕਿੰਨੀਆਂ ਤਾਲ ਮਾਤਰਾਵਾ ਹੁੰਦੀਆਂ ਹਨ ?

(1) 10
(2) 12
(3) 14
(4) 16

4.0 1.00

A1 : 1

A2 : 2

A3 : 3

A4 : 4

Objective Question

1337 1337

Candidate can only answer 15 Questions for Q11 to Q28, First 15 attempted questions will be considered for evaluation.

4.0 1.00

ਹੇਠ ਲਿਖਿਆਂ ਵਿਚੋਂ ਕਿਸ ਰਾਗ ਵਿਚ ਦੋਨੋਂ ਨਿਸ਼ਾਦ ਦਾ ਪ੍ਰਯੋਗ ਹੁੰਦਾ ਹੈ ?

(1) ਅਲਹਿਆ ਬਿਲਾਵਲ

(2) ਯਮਨ

(3) ਭੂਪਾਲੀ

(4) ਭੈਰਵ

A1 : 1

A2 : 2

A3 : 3

A4 : 4

Objective Question

1338 1338

Candidate can only answer 15 Questions for Q11 to Q28, First 15 attempted questions will be considered for evaluation.

4.0 1.00

ਸਾ ਰੇ ਗਾ ਮਾ (Sa Re Ga Ma) ਵਿਚ ਵਾਦੀ ਸੂਰ ਵਾਲੇ ਰਾਗਾਂ ਨੂੰ ਪੁਰਵਾਂਗਣਾਦੀ ਰਾਗ ਵੀ ਕਿਹਾ ਜਾਂਦਾ ਹੈ । ਪਾ ਧਾ ਨੀ ਸਾ (Pa Dha Ni Sa) ਵਿਚ ਵਾਦੀ ਸੂਰ ਵਾਲੇ ਰਾਗਾਂ ਨੂੰ ਕੀ ਕਿਹਾ ਜਾਂਦਾ ਹੈ ?

(1) ਪੱਛਮਵਾਦੀ ਰਾਗ

(2) ਉੱਤਰਾਂਗਵਾਦੀ ਰਾਗ

(3) ਦੱਖਣਵਾਦੀ ਰਾਗ

(4) ਮੱਧਮਵਾਦੀ ਰਾਗ

A1 : 1

A2 : 2

A3 : 3

A4 : 4

Objective Question

1339 1339

Candidate can only answer 15 Questions for Q11 to Q28, First 15 attempted questions will be considered for evaluation.

4.0 1.00

ਹੇਠ ਲਿਖਿਆਂ ਵਿਚੋਂ ਕਿਸ ਜਾਤੀ ਦੀ ਸ਼੍ਰੇਣੀ ਵਿਚ ਰਾਗ ਭੂਪਾਲੀ ਆਉਂਦਾ ਹੈ :

(1) ਸ਼ਾਦਵ

(2) ਆਦਵ

(3) ਸੰਪੂਰਨ

(4) ਸੰਕੀਰਣ

A1 : 1

A2 : 2

A3 : 3

A4 : 4

Objective Question

1340 | 1340 | 4.0 | 1.00

Candidate can only answer 15 Questions for Q11 to Q28, First 15 attempted questions will be considered for evaluation.

ਰਾਗ ਦਾ ਸਭ ਤੋਂ ਪ੍ਰਮੁੱਖ ਸਵਰ ਹੈ ਉਸਦਾ :

(1) ਵਿਵਾਦੀ

(2) ਅਨੁਵਾਦੀ

(3) ਵਾਦੀ

(4) ਸਮਵਾਦੀ

A1 : 1

A2 : 2

A3 : 3

A4 : 4

Objective Question

1341 | 1341 | 4.0 | 1.00

Candidate can only answer 15 Questions for Q11 to Q28, First 15 attempted questions will be considered for evaluation.

ਤ੍ਰਿਭਿੰਨ ਕਿਸ ਦਾ ਇਕ ਪ੍ਰਕਾਰ ਹੈ :

(1) ਗ੍ਰਾਮ

(2) ਤਾਨ

(3) ਵਰਣ

(4) ਗਮਕ

A1 : 1

A2 : 2

A3 : 3

A4 : 4

Objective Question

1342	1342	**Candidate can only answer 15 Questions for Q11 to Q28, First 15 attempted questions will be considered for evaluation.** (ਸ਼ੁੱਧ ਅਤੇ ਕੋਮਲ) ਦੋਵੇਂ ਨਿਸ਼ਾਦ ਵਾਲੇ ਰਾਗ ਹਨ : (1) ਬਾਗੇਸ਼ਰੀ (2) ਮਾਲਕੌਂਸ (3) ਭੂਪਾਲੀ (4) ਅਲਹਿਆ ਬਿਲਾਵਲ A1 : 1 A2 : 2 A3 : 3 A4 : 4	4.0	1.00
Objective Question				
1343	1343	**Candidate can only answer 15 Questions for Q11 to Q28, First 15 attempted questions will be considered for evaluation.** ਡਗੁਰ ਬਾਣੀ ਸਬੰਧਤ ਹੈ : (1) ਤਰਾਨਾ (2) ਕ੍ਰਿਤੀ (3) ਧਰੁਪਦ (4) ਠੁਮਰੀ A1 : 1 A2 : 2 A3 : 3 A4 : 4	4.0	1.00
Objective Question				
1344	1344	**Candidate can only answer 15 Questions for Q11 to Q28, First 15 attempted questions will be considered for evaluation.** ਨਿਮਨਲਿਖਤ ਤਾਲਾਂ ਨੂੰ ਉਨ੍ਹਾਂ ਦੀਆਂ ਮਾਤਰਾਵਾਂ ਦੇ ਅਨੁਸਾਰ ਵੱਧਦੇ ਕ੍ਰਮ ਵਿੱਚ ਵਿਵਸਥਿਤ ਕਰੋ : (A) ਧਮਾਰ (B) ਤੀਨਤਾਲ (C) ਝਪਤਾਲ (D) ਰੂਪਕ (E) ਇਕਤਾਲ ਹੇਠਾਂ ਲਿਖੇ ਵਿਕਲਪਾਂ ਵਿੱਚੋਂ **ਸਹੀ ਉੱਤਰ** ਦੀ ਚੋਣ ਕਰੋ : (1) (D), (C), (E), (A), (B) (2) (A), (B), (C), (D), (E) (3) (E), (D), (C), (B), (A) (4) (C), (B), (D), (E), (A) A1 : 1	4.0	1.00

A2 : 2

A3 : 3

A4 : 4

Objective Question

1345 1345

Candidate can only answer 15 Questions for Q11 to Q28, First 15 attempted questions will be considered for evaluation.

4.0 1.00

ਨਿਮਨਲਿਖਤ ਨੂੰ ਉਨ੍ਹਾਂ ਦੇ ਜਨਮ ਸਾਲ ਦੇ ਅਨੁਸਾਰ ਵਧਦੇ ਕ੍ਰਮ ਵਿੱਚ ਵਿਵਸਥਿਤ ਕਰੋ :

(A) ਪੁਰੰਦਰਦਾਸ

(B) ਤਿਆਗਰਾਜ

(C) ਰਬਿੰਦਰਨਾਥ ਟੈਗੋਰ

(D) ਕਾਜ਼ੀ ਨਜ਼ਰੂਲ ਇਸਲਾਮ

ਹੇਠਾਂ ਲਿਖੇ ਵਿਕਲਪਾਂ ਵਿੱਚੋਂ **ਸਹੀ ਉੱਤਰ** ਦੀ ਚੋਣ ਕਰੋ :

(1) (B), (C), (A), (D)
(2) (C), (B), (A), (D)
(3) (A), (B), (C), (D)
(4) (D), (C), (B), (A)

A1 : 1

A2 : 2

A3 : 3

A4 : 4

Objective Question

1346 1346

Candidate can only answer 15 Questions for Q11 to Q28, First 15 attempted questions will be considered for evaluation.

4.0 1.00

ਨਿਮਨਲਿਖਤ ਤਾਲਾਂ ਨੂੰ ਮਾਤਰਾਵਾਂ ਦੀ ਸੰਖਿਆ ਦੇ ਅਨੁਸਾਰ ਘੱਟਦੇ ਕ੍ਰਮ ਵਿੱਚ ਵਿਵਸਥਿਤ ਕਰੋ :

(A) ਇਕਤਾਲ

(B) ਰੂਪਕ

(C) ਦਾਦਰਾ

(D) ਤੀਨਤਾਲ

(E) ਕਹਿਰਵਾ

ਹੇਠਾਂ ਲਿਖੇ ਵਿਕਲਪਾਂ ਵਿੱਚੋਂ **ਸਹੀ ਉੱਤਰ** ਦੀ ਚੋਣ ਕਰੋ :

(1) (A), (B), (D), (C), (E)
(2) (C), (B), (E), (A), (D)
(3) (D), (A), (E), (B), (C)
(4) (C), (A), (B), (E), (D)

A1 : 1

A2 : 2

A3 : 3

A4 : 4

Objective Question

1347 1347

Candidate can only answer 15 Questions for Q11 to Q28, First 15 attempted questions will be considered for evaluation.

4.0 1.00

ਸਹੀ ਕਥਨ ਦੀ ਚੋਣ ਕਰੋ :

(A) ਮੁਸ਼ਤਾਕ ਅਲੀ ਖਾਨ ਇਕ ਪ੍ਰਸਿੱਧ ਸਿਤਾਰਵਾਦਕ ਸਨ।

(B) ਉਂਕਾਰ ਨਾਥ ਠਾਕੁਰ 'ਪ੍ਰਨਵ ਭਾਰਤੀ' ਦੇ ਲੇਖਕ ਹਨ।

(C) ਤਿਆਗਰਾਜ ਇਕ ਗੌਰਵਸ਼ਾਲੀ ਠੁਮਰੀ ਵਾਦਕ ਸਨ।

(D) ਅੱਲਾਉਦੀਨ ਖਾਨ ਇਕ ਪ੍ਰਸਿੱਧ ਧਰੁਪਦ ਗਾਇਕ ਸਨ।

(E) ਵੀ.ਐਨ. ਭਾਤਖੰਡੇ ਨੇ ਥਾਟ-ਰਾਗ ਵਰਗੀਕਰਣ ਆਰੰਭ ਕੀਤਾ।

ਹੇਠਾਂ ਲਿਖੇ ਵਿਕਲਪਾਂ ਵਿੱਚੋਂ **ਸਹੀ ਉੱਤਰ** ਦੀ ਚੋਣ ਕਰੋ :

(1) ਸਿਰਫ਼ (A), (B) ਅਤੇ (C)

(2) ਸਿਰਫ਼ (A), (B) ਅਤੇ (E)

(3) ਸਿਰਫ਼ (B), (D) ਅਤੇ (E)

(4) ਸਿਰਫ਼ (C), (D) ਅਤੇ (E)

A1 : 1

A2 : 2

A3 : 3

A4 : 4

Objective Question

1348 1348

Candidate can only answer 15 Questions for Q11 to Q28, First 15 attempted questions will be considered for evaluation.

4.0 1.00

ਕਰਨਾਟਕ ਸੰਗੀਤ ਨਾਲ ਸਬੰਧਿਤ ਸੰਗੀਤ ਸ਼ਾਸਤਰੀ/ਗੀਤਕਾਰ _____।

(A) ਅੱਲਾਉਦੀਨ ਖਾਨ

(B) ਤਿਆਗਰਾਜ

(C) ਵੀ.ਐਨ. ਭਾਤਖੰਡੇ

(D) ਕਾਜ਼ੀ ਨਜ਼ਰੂਲ ਇਸਲਾਮ

(E) ਪੁਰੰਦਰਦਾਸ

ਹੇਠਾਂ ਲਿਖੇ ਵਿਕਲਪਾਂ ਵਿੱਚੋਂ **ਸਹੀ ਉੱਤਰ** ਦੀ ਚੋਣ ਕਰੋ :

(1) ਸਿਰਫ਼ (A), (B) ਅਤੇ (D)

(2) ਸਿਰਫ਼ (B) ਅਤੇ (D)

(3) ਸਿਰਫ਼ (D) ਅਤੇ (E)

(4) ਸਿਰਫ਼ (B) ਅਤੇ (E)

A1 : 1

A2 : 2

A3 : 3

A4 : 4

Objective Question

1349 1349

Candidate can only answer 15 Questions for Q11 to Q28, First 15 attempted questions will be considered for evaluation.

4.0 1.00

ਕਿਹੜੇ ਹਾਰਮੋਨੀਅਮ ਦੇ ਭਾਗ ਨਹੀਂ ਹਨ :

(A) ਗਜ

(B) ਪਰਦਾ

(C) ਤੁੰਬਾ

(D) ਧੌਂਕਣੀ

(E) ਕਮਾਨੀ

ਹੇਠਾਂ ਲਿਖੇ ਵਿਕਲਪਾਂ ਵਿੱਚੋਂ **ਸਹੀ ਉੱਤਰ** ਦੀ ਚੋਣ ਕਰੋ :

(1) ਸਿਰਫ਼ (B) ਅਤੇ (C)

(2) ਸਿਰਫ਼ (D) ਅਤੇ (E)

(3) ਸਿਰਫ਼ (A) ਅਤੇ (D)

(4) ਸਿਰਫ਼ (A) ਅਤੇ (C)

A1 : 1

A2 : 2

A3 : 3

A4 : 4

Objective Question

1350 1350

Candidate can only answer 15 Questions for Q11 to Q28, First 15 attempted questions will be considered for evaluation.

4.0 1.00

ਸੂਚੀ-I ਦਾ **ਸੂਚੀ-II** ਨਾਲ ਮਿਲਾਨ ਕਰੋ ।

	ਸੂਚੀ-I		**ਸੂਚੀ-II**
(A)	ਗਮਕ	(I)	ਤੇਜ਼ ਲੈਅ ਵਿਚ 3 ਸੂਰ ਵਰਤੇ ਜਾਂਦੇ ਹਨ ।
(B)	ਮੀਂਦ	(II)	ਬਿਨਾਂ ਰੁਕੇ ਇਕ ਤੋਂ ਦੂਜਾ ਤਾਨ/ਨੋਟ
(C)	ਖਤਕਾ	(III)	ਸੂਰਾਂ ਵਿਚ ਖਰਕ/ਕੰਪਨ
(D)	ਮੁਰਕੀ	(IV)	ਤੇਜ਼ ਲੈਅ ਵਿਚ ਝਟਕੇ ਨਾਲ ਸੂਰ

ਹੇਠਾਂ ਲਿਖੇ ਵਿਕਲਪਾਂ ਵਿੱਚੋਂ **ਸਹੀ ਉੱਤਰ** ਦੀ ਚੋਣ ਕਰੋ :

(1) (A)-(II), (B)-(III), (C)-(IV), (D)-(I)

(2) (A)-(III), (B)-(II), (C)-(IV), (D)-(I)

(3) (A)-(I), (B)-(II), (C)-(III), (D)-(IV)

(4) (A)-(IV), (B)-(II), (C)-(III), (D)-(I)

A1 : 1

A2 : 2

A3 : 3

A4 : 4

Objective Question

1351 1351

Candidate can only answer 15 Questions for Q11 to Q28, First 15 attempted questions will be considered for evaluation.

4.0 1.00

ਸੂਚੀ-I ਦਾ **ਸੂਚੀ-II** ਨਾਲ ਮਿਲਾਨ ਕਰੋ ।

	ਸੂਚੀ-I		**ਸੂਚੀ-II**
(A)	ਕਹਿਰਵਾ	(I)	16 ਮਾਤਰਾ
(B)	ਦਾਦਰਾ	(II)	6 ਮਾਤਰਾ
(C)	ਰੂਪਕ	(III)	7 ਮਾਤਰਾ
(D)	ਤੀਨ ਤਾਲ	(IV)	8 ਮਾਤਰਾ

ਹੇਠਾਂ ਲਿਖੇ ਵਿਕਲਪਾਂ ਵਿੱਚੋਂ **ਸਹੀ ਉੱਤਰ** ਦੀ ਚੋਣ ਕਰੋ :

(1) (A)-(IV), (B)-(II), (C)-(III), (D)-(I)
(2) (A)-(II), (B)-(III), (C)-(IV), (D)-(I)
(3) (A)-(III), (B)-(IV), (C)-(II), (D)-(I)
(4) (A)-(I), (B)-(IV), (C)-(II), (D)-(III)

A1 : 1

A2 : 2

A3 : 3

A4 : 4

Objective Question

1352 1352

Candidate can only answer 15 Questions for Q11 to Q28, First 15 attempted questions will be considered for evaluation.

4.0 1.00

ਸੂਚੀ-I ਦਾ **ਸੂਚੀ-II** ਨਾਲ ਮਿਲਾਨ ਕਰੋ ।

	ਸੂਚੀ-I		**ਸੂਚੀ-II**
(A)	ਸੁਸ਼ੀਰ ਵਾਦਯ/ਵਾਦ	(I)	ਢੋਲ
(B)	ਤਤ ਵਾਦਯ/ਵਾਦ	(II)	ਹਾਰਮੋਨੀਅਮ
(C)	ਅਵਨੱਧ ਵਾਦ	(III)	ਮੰਜੀਰਾ
(D)	ਘਨ ਵਾਦ	(IV)	ਸਿਤਾਰ

ਹੇਠਾਂ ਲਿਖੇ ਵਿਕਲਪਾਂ ਵਿੱਚੋਂ **ਸਹੀ ਉੱਤਰ** ਦੀ ਚੋਣ ਕਰੋ :

(1) (A)-(I), (B)-(II), (C)-(III), (D)-(IV)
(2) (A)-(IV), (B)-(III), (C)-(II), (D)-(I)
(3) (A)-(II), (B)-(IV), (C)-(I), (D)-(III)
(4) (A)-(I), (B)-(III), (C)-(II), (D)-(IV)

A1 : 1

A2 : 2

A3 : 3

A4 : 4

Objective Question

1353	1353	**Question no. 1 to 10 are Mandatory** ਭਾਰਤੀ ਸੰਗੀਤ ਅਤੇ ਨਾਚ ਵਿਚ ਸਮਾਂ/ਕਾਲ ਚੱਕਰ ਲਈ ਉਪਯੋਗੀ ਸ਼ਬਦ ਕੀ ਹੈ ? (1) ਰਾਗ (2) ਨਾਦ (3) ਤਾਲ (4) ਸਵਰ A1 : 1 A2 : 2 A3 : 3 A4 : 4	4.0	1.00
Objective Question				
1354	1354	**Question no. 1 to 10 are Mandatory** ਨਾਟ ਸ਼ਾਸਤਰ ਦੇ ਲੇਖਕ ਹਨ : (1) ਤਾਨਸੈਨ (2) ਭਾਰਤਮੁਨੀ (3) ਤਿਆਗ ਰਾਜ (4) ਬਿਰਜੂ ਮਹਾਰਾਜ A1 : 1 A2 : 2 A3 : 3 A4 : 4	4.0	1.00
Objective Question				
1355	1355	**Question no. 1 to 10 are Mandatory** ਤਾਲ ਕਹਰਵਾ ਕਿਸਦੇ ਨਾਲ ਪ੍ਰਯੋਗ ਹੁੰਦਾ ਹੈ : (1) ਖਿਆਲ (2) ਭਜਨ (3) ਧਰੁਪਦ (4) ਕੁਚੀਪੁੜੀ A1 : 1 A2 : 2 A3 : 3 A4 : 4	4.0	1.00

Objective Question

1356 1356 **Question no. 1 to 10 are Mandatory** 4.0 1.00

ਭਾਰਤੀ ਸੰਗੀਤ ਵਿਚ ਰਾਗ ਕੀ ਹੈ ?

(1) ਸੰਗੀਤਕ ਰੂਪ ਰੇਖਾ/ਰਚਨਾ

(2) ਲੈਅਬੱਧ ਰੂਪ ਰੇਖਾ

(3) ਸੰਗੀਤਕ ਉਪਕਰਣ

(4) ਤਾਲ ਦਾ ਇਕ ਤੱਤ

A1 : 1

A2 : 2

A3 : 3

A4 : 4

Objective Question

1357 1357 **Question no. 1 to 10 are Mandatory** 4.0 1.00

ਇਕ ਪ੍ਰਸਿੱਧ ਸੰਸਕ੍ਰਿਤ ਨਾਟਕਕਾਰ ਹਨ :

(1) ਮੁਨਸ਼ੀ ਪ੍ਰੇਮ ਚੰਦ

(2) ਕਾਲੀਦਾਸ

(3) ਗਿਰੀਸ਼ ਕਰਨਾਡ

(4) ਰਬਿੰਦਰ ਨਾਥ ਟੈਗੋਰ

A1 : 1

A2 : 2

A3 : 3

A4 : 4

Objective Question

1358 1358 **Question no. 1 to 10 are Mandatory** 4.0 1.00

ਹੇਠ ਲਿਖਿਤ ਜਾਤੀਆਂ ਨੂੰ ਸੂਰਾਂ ਦੀ ਗਿਣਤੀ/ਸੰਖਿਆ ਦੇ ਅਨੁਸਾਰ ਵਧਦੇ ਕ੍ਰਮ ਵਿਚ ਵਿਵਸਥਿਤ ਕਰੋ :

(A) ਸ਼ਾਦਵ- ਆਦਵ

(B) ਸੰਪੂਰਨ-ਸ਼ਾਦਵ

(C) ਸੰਪੂਰਨ-ਸੰਪੂਰਨ

(D) ਆਦਵ-ਆਦਵ

(E) ਸੰਪੂਰਨ-ਆਦਵ

ਹੇਠਾਂ ਲਿਖੇ ਵਿਕਲਪਾਂ ਵਿੱਚੋਂ **ਸਹੀ ਉੱਤਰ** ਦੀ ਚੋਣ ਕਰੋ :

(1) (A), (B), (C), (D), (E)

(2) (D), (A), (B), (C), (E)

(3) (D), (A), (E), (B), (C)

(4) (A), (C), (B), (E), (D)

A1 : 1

A2 : 2

A3 : 3

A4 : 4

Objective Question

1359 1359 **Question no. 1 to 10 are Mandatory** 4.0 1.00

ਰਾਜਸਥਾਨ ਹੇਠ ਲਿਖੀ ਲੋਕ-ਨਾਚ ਸ਼ੈਲੀ ਲਈ ਪ੍ਰਸਿੱਧ ਹੈ :

(A) ਚਰੀ

(B) ਕਲ-ਬੇਲੀਆ

(C) ਡਾਂਡੀਆ

(D) ਘੂੰਮਰ

(E) ਗਰਬਾ

ਹੇਠਾਂ ਲਿਖੇ ਵਿਕਲਪਾਂ ਵਿੱਚੋਂ **ਸਹੀ ਉੱਤਰ** ਦੀ ਚੋਣ ਕਰੋ :

(1) ਸਿਰਫ਼ (B), (D), (C)

(2) ਸਿਰਫ਼ (E), (C), (B)

(3) ਸਿਰਫ਼ (A), (B), (D)

(4) ਸਿਰਫ਼ (A), (C), (E)

A1 : 1

A2 : 2

A3 : 3

A4 : 4

Objective Question

1360 1360 **Question no. 1 to 10 are Mandatory** 4.0 1.00

(A) 'ਪਖ਼ਾਵਜ' ਨੂੰ ਸੜੀ ਪੱਕੀ ਮਿੱਟੀ ਦੀ ਕਾਇਆ ਧਾਰਨ ਕਰਨ ਵਾਲਾ ਮੰਨਿਆ ਜਾਂਦਾ ਹੈ ।

(B) ਉੱਤਰੀ ਭਾਰਤ ਦੇ ਪਖ਼ਾਵਜ ਦਾ ਆਕਾਰ ਦੱਖਣ ਭਾਰਤ ਦੇ ਮ੍ਰਿਦੰਗਮ ਨਾਲੋਂ ਵੱਡਾ ਹੁੰਦਾ ਹੈ ।

(C) ਪਖ਼ਾਵਜ ਦੀ ਤੁਲਨਾ ਵਿਚ ਮ੍ਰਿਦੰਗਮ ਦਾ ਪੁੜਾ ਪਰਦਾ ਨਾਜ਼ੁਕ ਹੁੰਦਾ ਹੈ ।

(D) ਪਖ਼ਾਵਜ ਦੀ ਤੁਲਨਾ ਵਿਚ ਮ੍ਰਿਦੰਗਮ ਦੀ ਆਵਾਜ਼ ਭਾਰੀ ਹੁੰਦੀ ਹੈ ।

ਹੇਠਾਂ ਲਿਖੇ ਵਿਕਲਪਾਂ ਵਿੱਚੋਂ **ਸਹੀ ਉੱਤਰ** ਦੀ ਚੋਣ ਕਰੋ :

(1) ਸਿਰਫ਼ (A)

(2) ਸਿਰਫ਼ (A), (B)

(3) ਸਿਰਫ਼ (A), (B), (C)

(4) (A), (B), (C), (D)

A1 : 1

A2 : 2

A3 : 3

A4 : 4

Objective Question

1361 1361

Question no. 1 to 10 are Mandatory

4.0 1.00

ਸੂਚੀ-I ਦਾ **ਸੂਚੀ-II** ਨਾਲ ਮਿਲਾਨ ਕਰੋ ।

	ਸੂਚੀ-I		**ਸੂਚੀ-II**
(A)	ਰਵੀ ਸ਼ੰਕਰ	(I)	ਸ਼ਹਿਨਾਈ
(B)	ਬਿਸਮਿੱਲਾ ਖਾਨ	(II)	ਠੁਮਰੀ
(C)	ਗਿਰੀਸ਼ ਕਰਨਾਡ	(III)	ਸਿਤਾਰ
(D)	ਗਿਰਜਾ ਦੇਵੀ	(IV)	ਥੀਏਟਰ/ਰੰਗਮੰਚ

ਹੇਠਾਂ ਲਿਖੇ ਵਿਕਲਪਾਂ ਵਿੱਚੋਂ **ਸਹੀ ਉੱਤਰ** ਦੀ ਚੋਣ ਕਰੋ :

(1) (A)-(I), (B)-(II), (C)-(III), (D)-(IV)
(2) (A)-(II), (B)-(I), (C)-(IV), (D)-(III)
(3) (A)-(I), (B)-(III), (C)-(IV), (D)-(II)
(4) (A)-(III), (B)-(I), (C)-(IV), (D)-(II)

A1 : 1

A2 : 2

A3 : 3

A4 : 4

Objective Question

1362 1362

Question no. 1 to 10 are Mandatory

4.0 1.00

ਸੂਚੀ-I ਦਾ **ਸੂਚੀ-II** ਨਾਲ ਮਿਲਾਨ ਕਰੋ ।

	ਸੂਚੀ-I		**ਸੂਚੀ-II**
(A)	ਧੁਨੀ ਸਰੂਪ	(I)	ਨਾਦ ਦੇ ਪ੍ਰਕਾਰ
(B)	ਅਨਹਤ	(II)	ਸੂਰ
(C)	ਕੋਮਲ ਨੀ	(III)	ਨਾਦ ਦੀ ਵਿਸ਼ੇਸ਼ਤਾ
(D)	ਕ੍ਰੋਧ	(IV)	ਸ਼ਰੂਤੀ

ਹੇਠਾਂ ਲਿਖੇ ਵਿਕਲਪਾਂ ਵਿੱਚੋਂ **ਸਹੀ ਉੱਤਰ** ਦੀ ਚੋਣ ਕਰੋ :

(1) (A)-(I), (B)-(II), (C)-(III), (D)-(IV)
(2) (A)-(IV), (B)-(III), (C)-(II), (D)-(I)
(3) (A)-(III), (B)-(IV), (C)-(II), (D)-(I)
(4) (A)-(III), (B)-(I), (C)-(II), (D)-(IV)

A1 : 1

A2 : 2

A3 : 3

A4 : 4

Objective Question

1363 1363

Candidate can only answer 15 Questions for Q11 to Q28, First 15 attempted questions will be considered for evaluation.

4.0 1.00

ਰੁਕਮਨੀ ਦੇਵੀ ਅਰਨਡੇਲ ਕਿਸ ਨਾਚ ਰੂਪ ਨਾਲ ਸਬੰਧਤ ਹੈ :

(1) ਮੋਹਿਨੀਅੱਟਮ

(2) ਭਰਤਨਾਟਯਮ

(3) ਕੱਥਕ

(4) ਕਥਕਲੀ

A1 : 1

A2 : 2

A3 : 3

A4 : 4

Objective Question

1364 1364

Candidate can only answer 15 Questions for Q11 to Q28, First 15 attempted questions will be considered for evaluation.

4.0 1.00

ਕਿਸ ਸ਼ਾਸਤਰੀ ਨਾਚ ਦੇ ਭਾਗ ਦੇ ਰੂਪ ਵਿਚ ਪਿੱਤਲ ਪਲੇਟ 'ਤੇ ਨਾਚ ਕੀਤਾ ਜਾਂਦਾ ਹੈ :

(1) ਮੋਹਿਨੀਅੱਟਮ

(2) ਭਰਤਨਾਟਯਮ

(3) ਕੁਚੀਪੁੜੀ

(4) ਉੜੀਸੀ

A1 : 1

A2 : 2

A3 : 3

A4 : 4

Objective Question

1365 1365

Candidate can only answer 15 Questions for Q11 to Q28, First 15 attempted questions will be considered for evaluation.

4.0 1.00

ਕਿਹੜਾ ਤਿਉਹਾਰ ਨਾਗਾਲੈਂਡ ਦੇ ਨਾਚਾਂ ਨੂੰ ਦਰਸਾਉਣ ਵਾਲਾ ਮੁੱਖ ਆਕਰਸ਼ਣ ਬਿੰਦੂ ਹੈ :

(1) ਹਾਰਨ ਬਿੱਲ ਤਿਉਹਾਰ

(2) ਦ ਚੈਰਾਓ ਤਿਉਹਾਰ

(3) ਲਾਈ ਹਰੋਬਾ

(4) ਦ ਸਨਬਰਨ ਤਿਉਹਾਰ

A1 : 1

A2 : 2

A3 : 3

A4 : 4

Objective Question

1366 1366

Candidate can only answer 15 Questions for Q11 to Q28, First 15 attempted questions will be considered for evaluation.

4.0 1.00

ਪੇਸ਼ਕਾਰੀ ਦੇ ਕੁਦਰਤੀ ਢੰਗ ਨੂੰ ਕਿਹਾ ਜਾਂਦਾ ਹੈ।

(1) ਨਾਟ ਧਰਮੀ

(2) ਲੋਕ ਧਰਮੀ

(3) ਵਰਿਤੀ

(4) ਭਾਵ

A1 : 1

A2 : 2

A3 : 3

A4 : 4

Objective Question

1367 1367

Candidate can only answer 15 Questions for Q11 to Q28, First 15 attempted questions will be considered for evaluation.

4.0 1.00

ਰੂਪਕ ਕਿਸ ਦਾ ਨਾਂ ਹੈ :

(1) ਨਾਚ (Nritya)

(2) ਡਰੰਮ

(3) ਤਾਲ

(4) ਹਸਤ

A1 : 1

A2 : 2

A3 : 3

A4 : 4

Objective Question

1368 1368

Candidate can only answer 15 Questions for Q11 to Q28, First 15 attempted questions will be considered for evaluation.

4.0 1.00

ਅਨੁਭਵ ਵਿਚ 'ਅਨੁ' ਦਾ ਅਰਥ ਹੈ :

(1) ਗ੍ਰਹਿਣ ਕਰਨਾ

(2) ਪ੍ਰਮੁੱਖਤਾ ਦੇਣਾ

(3) ਰਚਮਿਚ ਜਾਣਾ

(4) ਨਿਸ਼ਾਨ ਬਾਕੀ ਨਾ ਰਹਿਣ ਦੇਣਾ

A1 : 1

A2 : 2

A3 : 3

A4 : 4

Objective Question

1369 1369

Candidate can only answer 15 Questions for Q11 to Q28, First 15 attempted questions will be considered for evaluation.

4.0 1.00

ਇਹ ਅਭਿਨੈ ਦੇ ਨਾਲ ਪੇਸ਼ਕਾਰੀ ਵਾਲਾ ਨਾਚ ਹੈ :

(1) ਨਾਟ

(2) ਨਾਚ (Nritta)

(3) ਤਾਂਡਵ

(4) ਨ੍ਰਿਤ

A1 : 1

A2 : 2

A3 : 3

A4 : 4

Objective Question

1370 1370

Candidate can only answer 15 Questions for Q11 to Q28, First 15 attempted questions will be considered for evaluation.

4.0 1.00

ਨਾਟਯ ਸ਼ਾਸਤਰ ਕਿੰਨੇ ਖੰਡਾਂ/ਕਾਂਡਾਂ ਤੋਂ ਮਿਲ ਕੇ ਬਣਿਆ ਹੈ :

(1) 12

(2) 25

(3) 36

(4) 18

A1 : 1

A2 : 2

A3 : 3

A4 : 4

Objective Question

1371 1371

Candidate can only answer 15 Questions for Q11 to Q28, First 15 attempted questions will be considered for evaluation.

4.0 1.00

ਬਲਪੂਰਵਕ ਪ੍ਰਭਾਵਸ਼ਾਲੀ ਨਾਚ ਨੂੰ ਕੀ ਕਿਹਾ ਜਾਂਦਾ ਹੈ :

(1) ਤਾਂਡਵ

(2) ਲੱਸਯ

(3) ਕੈਸ਼ਿਕੀ

(4) ਭਾਰਤੀ

A1 : 1

A2 : 2

A3 : 3

A4 : 4

Objective Question

1372 1372

Candidate can only answer 15 Questions for Q11 to Q28, First 15 attempted questions will be considered for evaluation.

4.0 1.00

ਅਭਿਨੈ ਦੇ ਹੇਠ ਲਿਖੇ ਭਾਗਾਂ ਨੂੰ ਆਰੰਭ ਤੋਂ ਅੰਤ ਤਕ ਕ੍ਰਮ ਵਿਚ ਵਿਵਸਥਿਤ ਕਰੋ :

(A) ਅਹਾਰੇਅ

(B) ਸਾਤਵਿਕ

(C) ਅੰਗਿਕਾ

(D) ਵਾਚਿਕਾ

ਹੇਠਾਂ ਲਿਖੇ ਵਿਕਲਪਾਂ ਵਿੱਚੋਂ **ਸਹੀ ਉੱਤਰ** ਦੀ ਚੋਣ ਕਰੋ :

(1) (A), (B), (C), (D)
(2) (D), (C), (B), (A)
(3) (C), (D), (A), (B)
(4) (B), (C), (D), (A)

A1 : 1

A2 : 2

A3 : 3

A4 : 4

Objective Question

1373 1373

Candidate can only answer 15 Questions for Q11 to Q28, First 15 attempted questions will be considered for evaluation.

4.0 1.00

ਲੋਕ ਨਾਚਾਂ ਵਿਚ ਪ੍ਰਯੋਗ ਹੋਣ ਵਾਲੇ ਹੇਠ ਲਿਖੇ ਯੰਤਰਾਂ ਨੂੰ ਉੱਤਰ ਤੋਂ ਦੱਖਣ ਦੇ ਕ੍ਰਮ ਵਿਚ ਵਿਵਸਥਿਤ ਕਰੋ :

(A) ਢੋਲ

(B) ਰਾਵਣਹੱਥਾ

(C) ਸੁਰਨਈ

(D) ਸੁਰਤਾ ਸਾਂਸੀ

(E) ਚੇਂਦਾ

ਹੇਠਾਂ ਲਿਖੇ ਵਿਕਲਪਾਂ ਵਿੱਚੋਂ **ਸਹੀ ਉੱਤਰ** ਦੀ ਚੋਣ ਕਰੋ :

(1) (A), (B), (C), (D), (E)
(2) (E), (D), (C), (B), (A)
(3) (C), (B), (A), (E), (D)
(4) (C), (A), (B), (D), (E)

A1 : 1

A2 : 2

A3 : 3

A4 : 4

Objective Question

1374 1374

Candidate can only answer 15 Questions for Q11 to Q28, First 15 attempted questions will be considered for evaluation.

4.0 1.00

ਅਸੰਯੁਕਤ ਹਸਤ ਸਲੋਕ ਵਿਚ ਹਸਤ ਹੇਠ ਲਿਖੇ ਕ੍ਰਮ ਵਿਚ ਹੈ :

(A) ਪਤਾਕਾ

(B) ਕਰਤਰੀਮੁਖਾ

(C) ਅਰਧਪਤਾਕਾ

(D) ਤ੍ਰਿਪਤਾਕਾ

ਹੇਠਾਂ ਲਿਖੇ ਵਿਕਲਪਾਂ ਵਿੱਚੋਂ **ਸਹੀ ਉੱਤਰ** ਦੀ ਚੋਣ ਕਰੋ :

(1) (A), (D), (C), (B)
(2) (A), (C), (D), (B)
(3) (C), (A), (B), (D)
(4) (D), (C), (A), (B)

A1 : 1

A2 : 2

A3 : 3

A4 : 4

Objective Question

1375 1375

Candidate can only answer 15 Questions for Q11 to Q28, First 15 attempted questions will be considered for evaluation.

4.0 1.00

ਹੇਠ ਲਿਖਿਆਂ ਵਿੱਚੋਂ ਦਿਤੇ ਉਨ੍ਹਾਂ ਸਹੀ ਨਾਮਾਂ ਦੀ ਚੋਣ ਕਰੋ ਜੋ ਜੈਪੁਰ ਘਰਾਣੇ ਨਾਲ ਸਬੰਧਿਤ ਹਨ :

(A) ਰਾਧੇ ਲਾਲ

(B) ਸੁੰਦਰ ਪ੍ਰਸਾਦ

(C) ਹੀਰਾ ਲਾਲ

(D) ਜੈ ਲਾਲ

(E) ਬਿਰਜੂ ਮਹਾਰਾਜ

ਹੇਠਾਂ ਲਿਖੇ ਵਿਕਲਪਾਂ ਵਿੱਚੋਂ **ਸਹੀ ਉੱਤਰ** ਦੀ ਚੋਣ ਕਰੋ :

(1) ਸਿਰਫ਼ (B), (C), (D), (E)

(2) ਸਿਰਫ਼ (A), (B), (C), (D)

(3) ਸਿਰਫ਼ (A), (C), (D), (E)

(4) ਸਿਰਫ਼ (C), (D), (E), (B)

A1 : 1

A2 : 2

A3 : 3

A4 : 4

Objective Question

1376 1376

Candidate can only answer 15 Questions for Q11 to Q28, First 15 attempted questions will be considered for evaluation.

4.0 1.00

ਸਾਤਵਿਕ ਅਭਿਨੈ ਦੇ ਦੋ ਮਹੱਤਵਪੂਰਨ ਪਹਿਲੂ ਹਨ :

(A) ਪੇਸ਼ਕਾਰੀ ਬੇਸਮਝ

(B) ਮਨ ਦੀ ਇਕਸੁਰਤਾ

(C) ਅਸਪਸ਼ਟ ਪੇਸ਼ਕਾਰੀ

(D) ਵਿਸ਼ਾਲ ਪੇਸ਼ਕਾਰੀ

ਹੇਠਾਂ ਲਿਖੇ ਵਿਕਲਪਾਂ ਵਿੱਚੋਂ **ਸਹੀ ਉੱਤਰ** ਦੀ ਚੋਣ ਕਰੋ :

(1) ਸਿਰਫ਼ (B) ਅਤੇ (D)

(2) ਸਿਰਫ਼ (A) ਅਤੇ (C)

(3) ਸਿਰਫ਼ (A) ਅਤੇ (D)

(4) ਸਿਰਫ਼ (B) ਅਤੇ (C)

A1 : 1

A2 : 2

A3 : 3

A4 : 4

Objective Question

1377 1377

Candidate can only answer 15 Questions for Q11 to Q28, First 15 attempted questions will be considered for evaluation.

4.0 1.00

ਮਹਾਰਾਸ਼ਟਰ ਵਿਚ ਕਿਹੜੇ ਦੋ ਨਾਚ ਤਿਉਹਾਰ ਆਯੋਜਿਤ ਕੀਤੇ ਜਾਂਦੇ ਹਨ :

(A) ਨਾਟ ਕਲਾ ਸੰਮੇਲਨ

(B) ਸੂਰਜ ਤਿਉਹਾਰ

(C) ਐਲੋਰਾ ਤਿਉਹਾਰ

(D) ਮਮਲੱਾਪੁਰਮ ਤਿਉਹਾਰ

(E) ਕਾਲਾ ਘੋੜਾ ਤਿਉਹਾਰ

ਹੇਠਾਂ ਲਿਖੇ ਵਿਕਲਪਾਂ ਵਿੱਚੋਂ **ਸਹੀ ਉੱਤਰ** ਦੀ ਚੋਣ ਕਰੋ :

(1) ਸਿਰਫ਼ (A) ਅਤੇ (B)

(2) ਸਿਰਫ਼ (B) ਅਤੇ (D)

(3) ਸਿਰਫ਼ (C) ਅਤੇ (E)

(4) ਸਿਰਫ਼ (C) ਅਤੇ (B)

A1 : 1

A2 : 2

A3 : 3

A4 : 4

Objective Question

1378 1378

Candidate can only answer 15 Questions for Q11 to Q28, First 15 attempted questions will be considered for evaluation.

4.0 1.00

ਸੂਚੀ-I ਦਾ ਸੂਚੀ-II ਨਾਲ ਮਿਲਾਨ ਕਰੋ ।

	ਸੂਚੀ-I ਸ਼ਾਸਤਰੀ ਨਾਚ		ਸੂਚੀ-II ਨਾਚ ਗੁਰੂ
(A)	ਕੱਥਕ	(I)	ਰਾਧਾ ਰਾਜਾ ਰੇਡੀ
(B)	ਕੁਚੀਪੁੜੀ	(II)	ਬਿਰਜੂ ਮਹਾਰਾਜ
(C)	ਭਰਤਨਾਟਯਮ	(III)	ਕਲਾਮਡਾਲਮ ਰਮਨਕੁੱਟੀ ਨੱਯਰ
(D)	ਕਥਕਲੀ	(IV)	ਰੁਕਮਣੀ ਦੇਵੀ ਅਰੁਨਡੇਲ

ਹੇਠਾਂ ਲਿਖੇ ਵਿਕਲਪਾਂ ਵਿੱਚੋਂ **ਸਹੀ ਉੱਤਰ** ਦੀ ਚੋਣ ਕਰੋ :

(1) (A)-(I), (B)-(II), (C)-(III), (D)-(IV)
(2) (A)-(II), (B)-(I), (C)-(IV), (D)-(III)
(3) (A)-(III), (B)-(IV), (C)-(II), (D)-(I)
(4) (A)-(IV), (B)-(III), (C)-(II), (D)-(I)

A1 : 1

A2 : 2

A3 : 3

A4 : 4

Objective Question

1379 1379

Candidate can only answer 15 Questions for Q11 to Q28, First 15 attempted questions will be considered for evaluation.

4.0 1.00

ਸੂਚੀ-I ਦਾ ਸੂਚੀ-II ਨਾਲ ਮਿਲਾਨ ਕਰੋ ।

	ਸੂਚੀ-I		ਸੂਚੀ-II
(A)	ਨਾਲੰਦਾ	(I)	ਚੇਨੰਈ
(B)	ਕਲਾਖੇਤਰ/ਕਲਾਕਸ਼ੇਤਰ	(II)	ਔਰੰਗਾਬਾਦ
(C)	ਕਲਾਮੰਡਲਮ	(III)	ਮੁੰਬਈ
(D)	ਮਹਾਗਾਮੀ	(IV)	ਕੇਰਲ

ਹੇਠਾਂ ਲਿਖੇ ਵਿਕਲਪਾਂ ਵਿੱਚੋਂ **ਸਹੀ ਉੱਤਰ** ਦੀ ਚੋਣ ਕਰੋ :

(1) (A)-(I), (B)-(II), (C)-(III), (D)-(IV)
(2) (A)-(II), (B)-(I), (C)-(IV), (D)-(III)
(3) (A)-(III), (B)-(I), (C)-(IV), (D)-(II)
(4) (A)-(IV), (B)-(III), (C)-(II), (D)-(I)

A1 : 1

A2 : 2

A3 : 3

A4 : 4

Objective Question

1380 1380

Candidate can only answer 15 Questions for Q11 to Q28, First 15 attempted questions will be considered for evaluation.

4.0 1.00

ਸੂਚੀ-I ਦਾ ਸੂਚੀ-II ਨਾਲ ਮਿਲਾਨ ਕਰੋ ।

	ਸੂਚੀ-I		ਸੂਚੀ-II
(A)	ਅਭਿਨੈ ਦਰਪਨ	(I)	ਭਰਤਮੁਨੀ
(B)	ਅਭਿਨਵ ਭਾਰਤੀ	(II)	ਮਹੇਸ਼ਵਰ ਮਹਾਪਾਤਰਾ
(C)	ਅਭਿਨੈ ਚੰਦਰਿਕਾ	(III)	ਨੰਦੀਕੇਸ਼ਵਰ
(D)	ਨਾਟਯ ਸ਼ਾਸਤਰ	(IV)	ਅਭਿਨਵ ਗੁਪਤਾ

ਹੇਠਾਂ ਲਿਖੇ ਵਿਕਲਪਾਂ ਵਿੱਚੋਂ **ਸਹੀ ਉੱਤਰ** ਦੀ ਚੋਣ ਕਰੋ :

(1) (A)-(I), (B)-(II), (C)-(III), (D)-(IV)
(2) (A)-(II), (B)-(I), (C)-(IV), (D)-(III)
(3) (A)-(III), (B)-(IV), (C)-(II), (D)-(I)
(4) (A)-(IV), (B)-(III), (C)-(II), (D)-(I)

A1 : 1

A2 : 2

A3 : 3

A4 : 4

Objective Question

1381 1381 4.0 1.00

Question no. 1 to 10 are Mandatory

ਭਾਰਤੀ ਸੰਗੀਤ ਅਤੇ ਨਾਚ ਵਿਚ ਸਮਾਂ/ਕਾਲ ਚੱਕਰ ਲਈ ਉਪਯੋਗੀ ਸ਼ਬਦ ਕੀ ਹੈ ?

(1) ਰਾਗ
(2) ਨਾਦ
(3) ਤਾਲ
(4) ਸਵਰ

A1 : 1

A2 : 2

A3 : 3

A4 : 4

Objective Question

1382 1382 4.0 1.00

Question no. 1 to 10 are Mandatory

ਨਾਟ ਸ਼ਾਸਤਰ ਦੇ ਲੇਖਕ ਹਨ :

(1) ਤਾਨਸੈਨ
(2) ਭਾਰਤਮੁਨੀ
(3) ਤਿਆਗ ਰਾਜ
(4) ਬਿਰਜੂ ਮਹਾਰਾਜ

A1 : 1

A2 : 2

A3 : 3

A4 : 4

Objective Question

1383 1383

Question no. 1 to 10 are Mandatory

ਤਾਲ ਕਹਰਵਾ ਕਿਸਦੇ ਨਾਲ ਪ੍ਰਯੋਗ ਹੁੰਦਾ ਹੈ :

(1) ਖਿਆਲ

(2) ਭਜਨ

(3) ਧਰੁਪਦ

(4) ਕੁਚੀਪੁੜੀ

A1 : 1

A2 : 2

A3 : 3

A4 : 4

4.0 1.00

Objective Question

1384 1384

Question no. 1 to 10 are Mandatory

ਭਾਰਤੀ ਸੰਗੀਤ ਵਿਚ ਰਾਗ ਕੀ ਹੈ ?

(1) ਸੰਗੀਤਕ ਰੂਪ ਰੇਖਾ/ਰਚਨਾ

(2) ਲੈਅਬੱਧ ਰੂਪ ਰੇਖਾ

(3) ਸੰਗੀਤਕ ਉਪਕਰਣ

(4) ਤਾਲ ਦਾ ਇਕ ਤੱਤ

A1 : 1

A2 : 2

A3 : 3

A4 : 4

4.0 1.00

Objective Question

1385 1385

Question no. 1 to 10 are Mandatory

ਇਕ ਪ੍ਰਸਿੱਧ ਸੰਸਕ੍ਰਿਤ ਨਾਟਕਕਾਰ ਹਨ :

(1) ਮੁਨਸ਼ੀ ਪ੍ਰੇਮ ਚੰਦ

(2) ਕਾਲੀਦਾਸ

(3) ਗਿਰੀਸ਼ ਕਰਨਾਡ

(4) ਰਬਿੰਦਰ ਨਾਥ ਟੈਗੋਰ

A1 : 1

4.0 1.00

A2 : 2

A3 : 3

A4 : 4

Objective Question

1386 1386 **Question no. 1 to 10 are Mandatory** 4.0 1.00

ਹੇਠ ਲਿਖਿਤ ਜਾਤੀਆਂ ਨੂੰ ਸੂਰਾਂ ਦੀ ਗਿਣਤੀ/ਸੰਖਿਆ ਦੇ ਅਨੁਸਾਰ ਵਧਦੇ ਕ੍ਰਮ ਵਿਚ ਵਿਵਸਥਿਤ ਕਰੋ :

(A) ਸ਼ਾਦਵ- ਆਦਵ

(B) ਸੰਪੂਰਨ-ਸ਼ਾਦਵ

(C) ਸੰਪੂਰਨ-ਸੰਪੂਰਨ

(D) ਆਦਵ-ਆਦਵ

(E) ਸੰਪੂਰਨ-ਆਦਵ

ਹੇਠਾਂ ਲਿਖੇ ਵਿਕਲਪਾਂ ਵਿੱਚੋਂ **ਸਹੀ ਉੱਤਰ** ਦੀ ਚੋਣ ਕਰੋ :

(1) (A), (B), (C), (D), (E)

(2) (D), (A), (B), (C), (E)

(3) (D), (A), (E), (B), (C)

(4) (A), (C), (B), (E), (D)

A1 : 1

A2 : 2

A3 : 3

A4 : 4

Objective Question

1387 1387 **Question no. 1 to 10 are Mandatory** 4.0 1.00

ਰਾਜਸਥਾਨ ਹੇਠ ਲਿਖੀ ਲੋਕ-ਨਾਚ ਸ਼ੈਲੀ ਲਈ ਪ੍ਰਸਿੱਧ ਹੈ :

(A) ਚਰੀ

(B) ਕਲ-ਬੇਲੀਆ

(C) ਡਾਂਡੀਆ

(D) ਘੂੰਮਰ

(E) ਗਰਬਾ

ਹੇਠਾਂ ਲਿਖੇ ਵਿਕਲਪਾਂ ਵਿੱਚੋਂ **ਸਹੀ ਉੱਤਰ** ਦੀ ਚੋਣ ਕਰੋ :

(1) ਸਿਰਫ਼ (B), (D), (C)

(2) ਸਿਰਫ਼ (E), (C), (B)

(3) ਸਿਰਫ਼ (A), (B), (D)

(4) ਸਿਰਫ਼ (A), (C), (E)

A1 : 1

A2 : 2

A3 : 3

A4 : 4

Objective Question

1388 1388

Question no. 1 to 10 are Mandatory

4.0 1.00

(A) 'ਪਖ਼ਾਵਜ' ਨੂੰ ਸੜੀ ਪੱਕੀ ਮਿੱਟੀ ਦੀ ਕਾਇਆ ਧਾਰਨ ਕਰਨ ਵਾਲਾ ਮੰਨਿਆ ਜਾਂਦਾ ਹੈ ।

(B) ਉੱਤਰੀ ਭਾਰਤ ਦੇ ਪਖ਼ਾਵਜ ਦਾ ਆਕਾਰ ਦੱਖਣ ਭਾਰਤ ਦੇ ਮ੍ਰਿਦੰਗਮ ਨਾਲੋਂ ਵੱਡਾ ਹੁੰਦਾ ਹੈ ।

(C) ਪਖ਼ਾਵਜ ਦੀ ਤੁਲਨਾ ਵਿਚ ਮ੍ਰਿਦੰਗਮ ਦਾ ਪੁੜਾ ਪਰਦਾ ਨਾਜ਼ੁਕ ਹੁੰਦਾ ਹੈ ।

(D) ਪਖ਼ਾਵਜ ਦੀ ਤੁਲਨਾ ਵਿਚ ਮ੍ਰਿਦੰਗਮ ਦੀ ਆਵਾਜ਼ ਭਾਰੀ ਹੁੰਦੀ ਹੈ ।

ਹੇਠਾਂ ਲਿਖੇ ਵਿਕਲਪਾਂ ਵਿੱਚੋਂ **ਸਹੀ ਉੱਤਰ** ਦੀ ਚੋਣ ਕਰੋ :

(1) ਸਿਰਫ਼ (A)

(2) ਸਿਰਫ਼ (A), (B)

(3) ਸਿਰਫ਼ (A), (B), (C)

(4) (A), (B), (C), (D)

A1 : 1

A2 : 2

A3 : 3

A4 : 4

Objective Question

1389 1389

Question no. 1 to 10 are Mandatory

4.0 1.00

ਸੂਚੀ-I ਦਾ **ਸੂਚੀ-II** ਨਾਲ ਮਿਲਾਨ ਕਰੋ ।

	ਸੂਚੀ-I		**ਸੂਚੀ-II**
(A)	ਰਵੀ ਸ਼ੰਕਰ	(I)	ਸ਼ਹਿਨਾਈ
(B)	ਬਿਸਮਿੱਲਾ ਖਾਨ	(II)	ਠੁਮਰੀ
(C)	ਗਿਰੀਸ਼ ਕਰਨਾਡ	(III)	ਸਿਤਾਰ
(D)	ਗਿਰਜਾ ਦੇਵੀ	(IV)	ਥੀਏਟਰ/ਰੰਗਮੰਚ

ਹੇਠਾਂ ਲਿਖੇ ਵਿਕਲਪਾਂ ਵਿੱਚੋਂ **ਸਹੀ ਉੱਤਰ** ਦੀ ਚੋਣ ਕਰੋ :

(1) (A)-(I), (B)-(II), (C)-(III), (D)-(IV)

(2) (A)-(II), (B)-(I), (C)-(IV), (D)-(III)

(3) (A)-(I), (B)-(III), (C)-(IV), (D)-(II)

(4) (A)-(III), (B)-(I), (C)-(IV), (D)-(II)

A1 : 1

A2 : 2

A3 : 3

A4 : 4

Objective Question

1390 1390 4.0 1.00

Question no. 1 to 10 are Mandatory

ਸੂਚੀ-I ਦਾ **ਸੂਚੀ-II** ਨਾਲ ਮਿਲਾਨ ਕਰੋ ।

	ਸੂਚੀ-I		**ਸੂਚੀ-II**
(A)	ਧੁਨੀ ਸਰੂਪ	(I)	ਨਾਦ ਦੇ ਪ੍ਰਕਾਰ
(B)	ਅਨਹਤ	(II)	ਸੂਰ
(C)	ਕੋਮਲ ਨੀ	(III)	ਨਾਦ ਦੀ ਵਿਸ਼ੇਸ਼ਤਾ
(D)	ਕ੍ਰੋਧ	(IV)	ਸ਼ਰੂਤੀ

ਹੇਠਾਂ ਲਿਖੇ ਵਿਕਲਪਾਂ ਵਿੱਚੋਂ **ਸਹੀ ਉੱਤਰ** ਦੀ ਚੋਣ ਕਰੋ :

(1) (A)-(I), (B)-(II), (C)-(III), (D)-(IV)
(2) (A)-(IV), (B)-(III), (C)-(II), (D)-(I)
(3) (A)-(III), (B)-(IV), (C)-(II), (D)-(I)
(4) (A)-(III), (B)-(I), (C)-(II), (D)-(IV)

A1 : 1

A2 : 2

A3 : 3

A4 : 4

Objective Question

1391 1391 4.0 1.00

Candidate can only answer 15 Questions for Q11 to Q28, First 15 attempted questions will be considered for evaluation.

ਲੈਅ ਦੀ ਪਛਾਣ ਕਰੋ : 12 34 ... 56 .....

(1) ਥਾਹ
(2) ਦੁਗੁਣ
(3) ਤਿਗੁਣ
(4) ਚੌਗੁਣ

A1 : 1

A2 : 2

A3 : 3

A4 : 4

Objective Question

1392 1392 4.0 1.00

Candidate can only answer 15 Questions for Q11 to Q28, First 15 attempted questions will be considered for evaluation.

ਤਬਲੇ ਵਿਚ ਕਿੰਨੇ 'ਗੱਟੇ' (Wooden blocks) ਹੁੰਦੇ ਹਨ ?

(1) 6
(2) 8
(3) 10
(4) 12

A1 : 1

A2 : 2

A3 : 3

A4 : 4

Objective Question

1393 1393

Candidate can only answer 15 Questions for Q11 to Q28, First 15 attempted questions will be considered for evaluation.

4.0 1.00

ਤਾਲ ਕਹਿਰਵਾ ਦੀ ਤੀਜੀ ਮਾਤਰਾ 'ਤੇ ਕਿਹੜਾ ਬੋਲ ਹੈ :

(1) ਧਾ

(2) ਧਿਨ

(3) ਨਾ

(4) ਕਤ/ਕਟ

A1 : 1

A2 : 2

A3 : 3

A4 : 4

Objective Question

1394 1394

Candidate can only answer 15 Questions for Q11 to Q28, First 15 attempted questions will be considered for evaluation.

4.0 1.00

ਲੋਕ ਸੰਗੀਤ ਨਾਲ ਕਿਹੜੀ ਤਾਲ ਵਜਾਈ ਜਾਂਦੀ ਹੈ :

(1) ਤੀਨ ਤਾਲ

(2) ਖੇਮਤਾ

(3) ਏਕਤਾਲ

(4) ਚੌਤਾਲ

A1 : 1

A2 : 2

A3 : 3

A4 : 4

Objective Question

1395 1395

Candidate can only answer 15 Questions for Q11 to Q28, First 15 attempted questions will be considered for evaluation.

4.0 1.00

ਦੱਖਣੀ ਭਾਰਤੀ ਸੰਗੀਤ ਵਿਚ ਕਿਹੜਾ ਪ੍ਰਸਿੱਧ, ਪਰਕਸ਼ਨ ਯੰਤਰ ਸਭ ਤੋਂ ਪ੍ਰਮੁੱਖ ਯੰਤਰ ਹੈ :

(1) ਪਖ਼ਾਵਜ

(2) ਕੰਜੀਰਾ

(3) ਮ੍ਰਿਦੰਗਮ

(4) ਘੱਟਮ

A1 : 1

A2 : 2

A3 : 3

A4 : 4

Objective Question

1396 1396

Candidate can only answer 15 Questions for Q11 to Q28, First 15 attempted questions will be considered for evaluation.

4.0 1.00

ਤਾਲ ਖੇਮਤਾ ਕਿੰਨੀਆਂ ਮਾਤਰਾਵਾਂ ਨਾਲ ਬਣਿਆ ਹੈ :

(1) 11

(2) 14

(3) 12

(4) 10

A1 : 1

A2 : 2

A3 : 3

A4 : 4

Objective Question

1397 1397

Candidate can only answer 15 Questions for Q11 to Q28, First 15 attempted questions will be considered for evaluation.

4.0 1.00

ਕੁਐਦਾ (Quaida) ਕਿਸ ਘਰਾਣੇ ਦੀ ਵਿਸ਼ੇਸ਼ਤਾ ਹੈ :

(1) ਫ਼ਾਰੂਖ਼ਾਬਾਦ

(2) ਬਨਾਰਸ

(3) ਲਖਨਊ

(4) ਦਿੱਲੀ

A1 : 1

A2 : 2

A3 : 3

A4 : 4

Objective Question

1398 1398

Candidate can only answer 15 Questions for Q11 to Q28, First 15 attempted questions will be considered for evaluation.

4.0 1.00

ਕਿਸ ਕਲਾਕਾਰ ਨੂੰ 'ਪਖ਼ਾਵਜ ਦਾ ਪ੍ਰੋਫ਼ੈਸਰ' ਉਪਾਧੀ ਨਾਲ ਨਿਵਾਜਿਆ ਗਿਆ ਹੈ :

(1) ਉਸਤਾਦ ਜ਼ਾਕਿਰ ਹੁਸੈਨ

(2) ਰਾਜਾ ਛਰਤਪਤੀ ਸਿੰਘ

(3) ਪੁਰਸ਼ੋਤਮ ਦਾਸ

(4) ਕੁਡਾਊ ਸਿੰਘ

A1 : 1

A2 : 2

A3 : 3

A4 : 4

Objective Question

1399 1399

Candidate can only answer 15 Questions for Q11 to Q28, First 15 attempted questions will be considered for evaluation.

4.0 1.00

ਕਾਰਨੇਟਿਕ (Carnatic) ਤਾਲ ਪ੍ਰਣਾਲੀ ਵਿਚ ਕਿਹੜਾ ਸਭ ਤੋਂ ਪ੍ਰਮੁੱਖ ਤੱਤ ਹੈ :

(1) ਮਾਤਰਾ

(2) ਖੰਡ

(3) ਅੰਗ

(4) ਵਿਭਾਗ

A1 : 1

A2 : 2

A3 : 3

A4 : 4

Objective Question

1400 1400

Candidate can only answer 15 Questions for Q11 to Q28, First 15 attempted questions will be considered for evaluation.

4.0 1.00

ਕਿਹੜਾ ਯੰਤਰ ਦੇਵ ਵਾਦਯ (Divine instrument) ਦੇ ਰੂਪ ਵਿਚ ਪਛਾਣਿਆ ਜਾਂਦਾ ਹੈ ?

(1) ਪਖ਼ਾਵਜ

(2) ਤਬਲਾ

(3) ਮ੍ਰਿਦੰਗਮ

(4) ਡਮਰੂ

A1 : 1

A2 : 2

A3 : 3

A4 : 4

Objective Question

1401	1401	**Candidate can only answer 15 Questions for Q11 to Q28, First 15 attempted questions will be considered for evaluation.** ਧਮਾਰ ਤਾਲ ਦਾ ਟੇਕ ਠੇਕਾ (Theka) ਨੂੰ ਸਹੀ ਕ੍ਰਮ ਵਿਚ ਵਿਵਸਥਿਤ ਕਰੋ : (A) ਧੀ-ਤਾ-ਧਾ (Dhi-Ta-Dha) (B) ਸ-ਗੇ-ਤੀ (S-Ge-Ti) (C) ਕਾ-ਧੀ-ਤਾ (Ka-Dhi-Ta) (D) ਤਾ-ਤੀ (Ta-Ti) (E) ਤਾ-ਤਾ-ਸ (Ta-Ta-S) ਹੇਠਾਂ ਲਿਖੇ ਵਿਕਲਪਾਂ ਵਿੱਚੋਂ **ਸਹੀ ਉੱਤਰ** ਦੀ ਚੋਣ ਕਰੋ : (1) (A), (B), (D), (C), (E) (2) (C), (A), (B), (D), (E) (3) (C), (A), (D), (E), (B) (4) (B), (A), (D), (E), (C) A1 : 1 A2 : 2 A3 : 3 A4 : 4	4.0	1.00
Objective Question				
1402	1402	**Candidate can only answer 15 Questions for Q11 to Q28, First 15 attempted questions will be considered for evaluation.** ਤਾਲਾਂ ਨੂੰ ਉਨ੍ਹਾਂ ਦੀ ਮਾਤਰਾ ਅਨੁਸਾਰ ਘੱਟਦੇ ਕ੍ਰਮ ਵਿਚ ਵਿਵਸਥਿਤ ਕਰੋ : (A) ਕਹਿਰਵਾ (B) ਦਾਦਰਾ (C) ਧਮਾਰ (D) ਸੂਲਤਾਲ (E) ਤ੍ਰਿਤਾਲ ਹੇਠਾਂ ਲਿਖੇ ਵਿਕਲਪਾਂ ਵਿੱਚੋਂ **ਸਹੀ ਉੱਤਰ** ਦੀ ਚੋਣ ਕਰੋ : (1) (E), (C), (D), (A), (B) (2) (A), (B), (C), (E), (D) (3) (B), (C), (D), (A), (E) (4) (E), (C), (D), (B), (A) A1 : 1 A2 : 2 A3 : 3 A4 : 4	4.0	1.00
Objective Question				
1403	1403	**Candidate can only answer 15 Questions for Q11 to Q28, First 15 attempted questions will be considered for evaluation.**	4.0	1.00

ਤਬਲਾ ਵਾਦਕ, ਪਖ਼ਾਵਜ ਵਾਦਕ ਅਤੇ ਮ੍ਰਿਦੰਗਮ ਵਾਦਕ ਨੂੰ ਕ੍ਰਮਵਾਰ ਵਿਵਸਥਿਤ ਕਰੋ :

(A) ਪੰਡਿਤ ਪੁਰਸ਼ੋਤਮ ਦਾਸ

(B) ਉਸਤਾਦ ਜ਼ਾਕਿਰ ਹੁਸੈਨ

(C) ਪਾਲਘਾਟ ਮਨੀ ਅਇਅਰ

(D) ਰਾਜਾ ਛਤਰਪਤੀ ਸਿੰਘ

(E) ਪੰਡਿਤ ਕਿਸ਼ਨ ਮਹਾਰਾਜ

ਹੇਠਾਂ ਲਿਖੇ ਵਿਕਲਪਾਂ ਵਿੱਚੋਂ **ਸਹੀ ਉੱਤਰ** ਦੀ ਚੋਣ ਕਰੋ :

(1) (A), (B), (D), (E), (C)
(2) (B), (D), (A), (C), (E)
(3) (B), (E), (A), (C), (D)
(4) (B), (E), (A), (D), (C)

A1 : 1

A2 : 2

A3 : 3

A4 : 4

Objective Question

1404 | 1404 | 4.0 | 1.00

Candidate can only answer 15 Questions for Q11 to Q28, First 15 attempted questions will be considered for evaluation.

ਹੇਠ ਲਿਖਿਆਂ ਵਿੱਚੋਂ ਤਬਲਾ ਇਕਹਿਰਾ ਦਾ ਵਾਦਨ ਕਿਸ ਤਾਲ ਦੇ ਨਾਲ ਕੀਤਾ ਜਾਂਦਾ ਹੈ :

(A) ਤੀਨਤਾਲ

(B) ਕਹਿਰਵਾ

(C) ਸੂਲਤਾਲ

(D) ਰੂਪਕ

(E) ਖੇਮਤਾ

ਹੇਠਾਂ ਲਿਖੇ ਵਿਕਲਪਾਂ ਵਿੱਚੋਂ **ਸਹੀ ਉੱਤਰ** ਦੀ ਚੋਣ ਕਰੋ :

(1) ਸਿਰਫ਼ (A), (B), (C) ਅਤੇ (D)
(2) ਸਿਰਫ਼ (B), (C) ਅਤੇ (E)
(3) ਸਿਰਫ਼ (A) ਅਤੇ (D)
(4) ਸਿਰਫ਼ (A), (B), (D) ਅਤੇ (E)

A1 : 1

A2 : 2

A3 : 3

A4 : 4

Objective Question

1405 | 1405 | 4.0 | 1.00

Candidate can only answer 15 Questions for Q11 to Q28, First 15 attempted questions will be considered for evaluation.

ਕਿਹੜਾ ਤਬਲਾ ਘਰਾਣਾ ਦਿੱਲੀ ਘਰਾਣੇ ਦੀ ਸ਼ਾਖਾ ਹੈ :

(A) ਪੰਜਾਬ

(B) ਫ਼ਾਰੂਖ਼ਾਬਾਦ

(C) ਬਨਾਰਸ

(D) ਲਖਨਊ

(E) ਅਜਰਾਦਾ

ਹੇਠਾਂ ਲਿਖੇ ਵਿਕਲਪਾਂ ਵਿੱਚੋਂ **ਸਹੀ ਉੱਤਰ** ਦੀ ਚੋਣ ਕਰੋ :

(1) ਸਿਰਫ਼ (A), (B) ਅਤੇ (C)

(2) ਸਿਰਫ਼ (B) ਅਤੇ (C)

(3) ਸਿਰਫ਼ (D)

(4) ਸਿਰਫ਼ (D) ਅਤੇ (E)

A1 : 1

A2 : 2

A3 : 3

A4 : 4

Objective Question

1406 1406

Candidate can only answer 15 Questions for Q11 to Q28, First 15 attempted questions will be considered for evaluation.

4.0 1.00

ਸੂਚੀ-I ਦਾ **ਸੂਚੀ-II** ਨਾਲ ਮਿਲਾਨ ਕਰੋ ।

ਸੂਚੀ-I (ਸੰਗੀਤ ਸ਼ੈਲੀ)		**ਸੂਚੀ-II (ਯੰਤਰ)**	
(A)	ਖਿਆਲ	(I)	ਪਖ਼ਾਵਜ
(B)	ਧੁਰਪਦ	(II)	ਮ੍ਰਿਦੰਗਮ
(C)	ਭਰਤਨਾਟਯਮ ਨਾਚ	(III)	ਤਬਲਾ
(D)	ਲੋਕ ਸੰਗੀਤ	(IV)	ਢੋਲਕ

ਹੇਠਾਂ ਲਿਖੇ ਵਿਕਲਪਾਂ ਵਿੱਚੋਂ **ਸਹੀ ਉੱਤਰ** ਦੀ ਚੋਣ ਕਰੋ :

(1) (A)-(I), (B)-(III), (C)-(II), (D)-(IV)

(2) (A)-(II), (B)-(III), (C)-(I), (D)-(IV)

(3) (A)-(III), (B)-(I), (C)-(II), (D)-(IV)

(4) (A)-(IV), (B)-(III), (C)-(I), (D)-(II)

A1 : 1

A2 : 2

A3 : 3

A4 : 4

Objective Question

1407 1407

Candidate can only answer 15 Questions for Q11 to Q28, First 15 attempted questions will be considered for evaluation.

4.0 1.00

ਸੂਚੀ-I ਦਾ ਸੂਚੀ-II ਨਾਲ ਮਿਲਾਨ ਕਰੋ ।

	ਸੂਚੀ-I		ਸੂਚੀ-II
(A)	ਅੱਲਾਰੱਖਾ	(I)	ਪਲਾਨੀ ਸੁਬਰਾਮਨੀਆ
(B)	ਕੰਥੇ ਮਹਾਰਾਜ	(II)	ਰਾਜਾ ਛਤੱਰਪਤੀ ਸਿੰਘ
(C)	ਮੁੱਥੀਆ ਪਿਲੱਈ	(III)	ਜ਼ਾਕਿਰ ਹੁਸੈਨ
(D)	ਸੁਆਮੀ ਰਾਮਦਾਸ ਜੀ	(IV)	ਕਿਸ਼ਨ ਮਹਾਰਾਜ

ਹੇਠਾਂ ਲਿਖੇ ਵਿਕਲਪਾਂ ਵਿੱਚੋਂ **ਸਹੀ ਉੱਤਰ** ਦੀ ਚੋਣ ਕਰੋ :

(1) (A)-(I), (B)-(II), (C)-(IV), (D)-(III)
(2) (A)-(IV), (B)-(III), (C)-(I), (D)-(II)
(3) (A)-(III), (B)-(IV), (C)-(I), (D)-(II)
(4) (A)-(II), (B)-(I), (C)-(IV), (D)-(III)

A1 : 1

A2 : 2

A3 : 3

A4 : 4

Objective Question

1408 1408

Candidate can only answer 15 Questions for Q11 to Q28, First 15 attempted questions will be considered for evaluation.

4.0 1.00

ਸੂਚੀ-I ਦਾ ਸੂਚੀ-II ਨਾਲ ਮਿਲਾਨ ਕਰੋ ।

	ਸੂਚੀ-I		ਸੂਚੀ-II
(A)	ਦਿੱਲੀ	(I)	ਗਤ
(B)	ਫ਼ਾਰੂਖ਼ਾਬਾਦ	(II)	ਬੰਤ
(C)	ਬਨਾਰਸ	(III)	ਕੁਐਦਾ (Quaida)
(D)	ਲਖਨਊ	(IV)	ਗਤ ਪਰਨ

ਹੇਠਾਂ ਲਿਖੇ ਵਿਕਲਪਾਂ ਵਿੱਚੋਂ **ਸਹੀ ਉੱਤਰ** ਦੀ ਚੋਣ ਕਰੋ :

(1) (A)-(I), (B)-(II), (C)-(III), (D)-(IV)
(2) (A)-(II), (B)-(III), (C)-(I), (D)-(IV)
(3) (A)-(III), (B)-(II), (C)-(I), (D)-(IV)
(4) (A)-(III), (B)-(I), (C)-(II), (D)-(IV)

A1 : 1

A2 : 2

A3 : 3

A4 : 4

Objective Question

1409 1409

Question no. 1 to 10 are Mandatory

4.0 1.00

ਭਾਰਤੀ ਸੰਗੀਤ ਅਤੇ ਨਾਚ ਵਿਚ ਸਮਾਂ/ਕਾਲ ਚੱਕਰ ਲਈ ਉਪਯੋਗੀ ਸ਼ਬਦ ਕੀ ਹੈ ?

(1) ਰਾਗ

(2) ਨਾਦ

(3) ਤਾਲ

(4) ਸਵਰ

A1 : 1

A2 : 2

A3 : 3

A4 : 4

Objective Question

1410 | 1410 | 4.0 | 1.00

Question no. 1 to 10 are Mandatory

ਨਾਟ ਸ਼ਾਸਤਰ ਦੇ ਲੇਖਕ ਹਨ :

(1) ਤਾਨਸੈਨ

(2) ਭਾਰਤਮੁਨੀ

(3) ਤਿਆਗ ਰਾਜ

(4) ਬਿਰਜੂ ਮਹਾਰਾਜ

A1 : 1

A2 : 2

A3 : 3

A4 : 4

Objective Question

1411 | 1411 | 4.0 | 1.00

Question no. 1 to 10 are Mandatory

ਤਾਲ ਕਹਰਵਾ ਕਿਸਦੇ ਨਾਲ ਪ੍ਰਯੋਗ ਹੁੰਦਾ ਹੈ :

(1) ਖਿਆਲ

(2) ਭਜਨ

(3) ਧਰੁਪਦ

(4) ਕੁਚੀਪੁੜੀ

A1 : 1

A2 : 2

A3 : 3

A4 : 4

Objective Question

1412	1412	**Question no. 1 to 10 are Mandatory** ਭਾਰਤੀ ਸੰਗੀਤ ਵਿਚ ਰਾਗ ਕੀ ਹੈ ? (1) ਸੰਗੀਤਕ ਰੂਪ ਰੇਖਾ/ਰਚਨਾ (2) ਲੈਅਬੱਧ ਰੂਪ ਰੇਖਾ (3) ਸੰਗੀਤਕ ਉਪਕਰਣ (4) ਤਾਲ ਦਾ ਇਕ ਤੱਤ A1 : 1 A2 : 2 A3 : 3 A4 : 4	4.0	1.00
Objective Question				
1413	1413	**Question no. 1 to 10 are Mandatory** ਇਕ ਪ੍ਰਸਿੱਧ ਸੰਸਕ੍ਰਿਤ ਨਾਟਕਕਾਰ ਹਨ : (1) ਮੁਨਸ਼ੀ ਪ੍ਰੇਮ ਚੰਦ (2) ਕਾਲੀਦਾਸ (3) ਗਿਰੀਸ਼ ਕਰਨਾਡ (4) ਰਬਿੰਦਰ ਨਾਥ ਟੈਗੋਰ A1 : 1 A2 : 2 A3 : 3 A4 : 4	4.0	1.00
Objective Question				
1414	1414	**Question no. 1 to 10 are Mandatory** ਹੇਠ ਲਿਖਿਤ ਜਾਤੀਆਂ ਨੂੰ ਸੂਰਾਂ ਦੀ ਗਿਣਤੀ/ਸੰਖਿਆ ਦੇ ਅਨੁਸਾਰ ਵਧਦੇ ਕ੍ਰਮ ਵਿਚ ਵਿਵਸਥਿਤ ਕਰੋ : (A) ਸ਼ਾਦਵ- ਆਦਵ (B) ਸੰਪੂਰਨ-ਸ਼ਾਦਵ (C) ਸੰਪੂਰਨ-ਸੰਪੂਰਨ (D) ਆਦਵ-ਆਦਵ (E) ਸੰਪੂਰਨ-ਆਦਵ ਹੇਠਾਂ ਲਿਖੇ ਵਿਕਲਪਾਂ ਵਿੱਚੋਂ **ਸਹੀ ਉੱਤਰ** ਦੀ ਚੋਣ ਕਰੋ : (1) (A), (B), (C), (D), (E) (2) (D), (A), (B), (C), (E) (3) (D), (A), (E), (B), (C) (4) (A), (C), (B), (E), (D) A1 : 1	4.0	1.00

A2 : 2

A3 : 3

A4 : 4

Objective Question

1415 1415 **Question no. 1 to 10 are Mandatory** 4.0 1.00

ਰਾਜਸਥਾਨ ਹੇਠ ਲਿਖੀ ਲੋਕ-ਨਾਚ ਸ਼ੈਲੀ ਲਈ ਪ੍ਰਸਿੱਧ ਹੈ :

(A) ਚਰੀ

(B) ਕਲ-ਬੇਲੀਆ

(C) ਡਾਂਡੀਆ

(D) ਘੂੰਮਰ

(E) ਗਰਬਾ

ਹੇਠਾਂ ਲਿਖੇ ਵਿਕਲਪਾਂ ਵਿੱਚੋਂ **ਸਹੀ ਉੱਤਰ** ਦੀ ਚੋਣ ਕਰੋ :

(1) ਸਿਰਫ਼ (B), (D), (C)

(2) ਸਿਰਫ਼ (E), (C), (B)

(3) ਸਿਰਫ਼ (A), (B), (D)

(4) ਸਿਰਫ਼ (A), (C), (E)

A1 : 1

A2 : 2

A3 : 3

A4 : 4

Objective Question

1416 1416 **Question no. 1 to 10 are Mandatory** 4.0 1.00

(A) 'ਪਖ਼ਾਵਜ' ਨੂੰ ਸੜੀ ਪੱਕੀ ਮਿੱਟੀ ਦੀ ਕਾਇਆ ਧਾਰਨ ਕਰਨ ਵਾਲਾ ਮੰਨਿਆ ਜਾਂਦਾ ਹੈ ।

(B) ਉੱਤਰੀ ਭਾਰਤ ਦੇ ਪਖ਼ਾਵਜ ਦਾ ਆਕਾਰ ਦੱਖਣ ਭਾਰਤ ਦੇ ਮ੍ਰਿਦੰਗਮ ਨਾਲੋਂ ਵੱਡਾ ਹੁੰਦਾ ਹੈ ।

(C) ਪਖ਼ਾਵਜ ਦੀ ਤੁਲਨਾ ਵਿਚ ਮ੍ਰਿਦੰਗਮ ਦਾ ਪੁੜਾ ਪਰਦਾ ਨਾਜ਼ੁਕ ਹੁੰਦਾ ਹੈ ।

(D) ਪਖ਼ਾਵਜ ਦੀ ਤੁਲਨਾ ਵਿਚ ਮ੍ਰਿਦੰਗਮ ਦੀ ਆਵਾਜ਼ ਭਾਰੀ ਹੁੰਦੀ ਹੈ ।

ਹੇਠਾਂ ਲਿਖੇ ਵਿਕਲਪਾਂ ਵਿੱਚੋਂ **ਸਹੀ ਉੱਤਰ** ਦੀ ਚੋਣ ਕਰੋ :

(1) ਸਿਰਫ਼ (A)

(2) ਸਿਰਫ਼ (A), (B)

(3) ਸਿਰਫ਼ (A), (B), (C)

(4) (A), (B), (C), (D)

A1 : 1

A2 : 2

A3 : 3

A4 : 4

Objective Question

1417 1417 **Question no. 1 to 10 are Mandatory** 4.0 1.00

ਸੂਚੀ-I ਦਾ **ਸੂਚੀ-II** ਨਾਲ ਮਿਲਾਨ ਕਰੋ ।

	ਸੂਚੀ-I		**ਸੂਚੀ-II**
(A)	ਰਵੀ ਸ਼ੰਕਰ	(I)	ਸ਼ਹਿਨਾਈ
(B)	ਬਿਸਮਿੱਲਾ ਖਾਨ	(II)	ਠੁਮਰੀ
(C)	ਗਿਰੀਸ਼ ਕਰਨਾਡ	(III)	ਸਿਤਾਰ
(D)	ਗਿਰਜਾ ਦੇਵੀ	(IV)	ਥੀਏਟਰ/ਰੰਗਮੰਚ

ਹੇਠਾਂ ਲਿਖੇ ਵਿਕਲਪਾਂ ਵਿੱਚੋਂ **ਸਹੀ ਉੱਤਰ** ਦੀ ਚੋਣ ਕਰੋ :

(1) (A)-(I), (B)-(II), (C)-(III), (D)-(IV)
(2) (A)-(II), (B)-(I), (C)-(IV), (D)-(III)
(3) (A)-(I), (B)-(III), (C)-(IV), (D)-(II)
(4) (A)-(III), (B)-(I), (C)-(IV), (D)-(II)

A1 : 1

A2 : 2

A3 : 3

A4 : 4

Objective Question

1418 1418 **Question no. 1 to 10 are Mandatory** 4.0 1.00

ਸੂਚੀ-I ਦਾ **ਸੂਚੀ-II** ਨਾਲ ਮਿਲਾਨ ਕਰੋ ।

	ਸੂਚੀ-I		**ਸੂਚੀ-II**
(A)	ਧੁਨੀ ਸਰੂਪ	(I)	ਨਾਦ ਦੇ ਪ੍ਰਕਾਰ
(B)	ਅਨਹਤ	(II)	ਸੂਰ
(C)	ਕੋਮਲ ਨੀ	(III)	ਨਾਦ ਦੀ ਵਿਸ਼ੇਸ਼ਤਾ
(D)	ਕ੍ਰੋਧ	(IV)	ਸ਼ਰੁਤੀ

ਹੇਠਾਂ ਲਿਖੇ ਵਿਕਲਪਾਂ ਵਿੱਚੋਂ **ਸਹੀ ਉੱਤਰ** ਦੀ ਚੋਣ ਕਰੋ :

(1) (A)-(I), (B)-(II), (C)-(III), (D)-(IV)
(2) (A)-(IV), (B)-(III), (C)-(II), (D)-(I)
(3) (A)-(III), (B)-(IV), (C)-(II), (D)-(I)
(4) (A)-(III), (B)-(I), (C)-(II), (D)-(IV)

A1 : 1

A2 : 2

A3 : 3

A4 : 4

Objective Question

1419 1419

Candidate can only answer 15 Questions for Q11 to Q28, First 15 attempted questions will be considered for evaluation.

4.0 1.00

ਚਾਰੂਦੱਤਾ ਅਤੇ ਬਸੰਤਸੇਨਾ,ਇਹ ਦੋਵੇਂ ਪਾਤਰ ਕਿਸ ਨਾਟਕ ਨਾਲ ਸਬੰਧਿਤ ਹਨ :

(1) ਉਰੂਭੰਗਮ

(2) ਸਵਪਨਾਵਾਸਾਵਦੱਤਾ

(3) ਮਰਿਕੱਕਤਿਕਮ

(4) ਵਿਕਰੋਮੋਰਵਯਮ

A1 : 1

A2 : 2

A3 : 3

A4 : 4

Objective Question

1420 1420

Candidate can only answer 15 Questions for Q11 to Q28, First 15 attempted questions will be considered for evaluation.

4.0 1.00

ਹੇਠਾਂ ਲਿਖਿਆਂ ਵਿਚੋਂ ਕਿਹੜਾ 'ਰਾਇਲ (Royal) ਅਕਾਦਮੀ ਆਫ ਡਰਾਮੇਟਿਕ ਆਰਟਸ' ਲੰਡਨ ਵਿਚ ਪੜ੍ਹਨ ਵਾਲਾ ਆਧੁਨਿਕ ਭਾਰਤੀ ਥੀਏਟਰ ਅਭਿਆਸੀ ਹੈ ?

(1) ਹਬੀਬ ਤਨਵੀਰ

(2) ਭਾਨੂ ਭਾਰਤੀ

(3) ਬੀ.ਵੀ. ਕਾਰੰਥ

(4) ਰਤਨ ਥਿਆਮ

A1 : 1

A2 : 2

A3 : 3

A4 : 4

Objective Question

1421 1421

Candidate can only answer 15 Questions for Q11 to Q28, First 15 attempted questions will be considered for evaluation.

4.0 1.00

ਹੇਠ ਲਿਖਿਆਂ ਵਿਚੋਂ ਸੋਫ਼ੋਕਲ ਦੇ ਕਿਸ ਨਾਟਕ ਦਾ ਪ੍ਰਯੋਗ ਅਰਸਤੂ ਦੁਆਰਾ ਆਪਣੇ ਕਾਵਿਕ ਸ਼ਾਸਤਰ ਵਿਚ ਤ੍ਰਾਸਦੀ ਦੀ ਉੱਚਤਮ ਪ੍ਰਾਪਤੀ ਦੀ ਉਦਾਹਰਣ ਦੇ ਰੂਪ ਵਿਚ ਕੀਤਾ ਗਿਆ ਸੀ ?

(1) ਐਂਟੀਗੋਨ

(2) ਔਡੀਪਸ ਦ ਕਿੰਗ

(3) ਔਡੀਪਸ ਐਟ ਕੋਲੋਨਮਸ

(4) ਅਜੈਕਸ

A1 : 1

A2 : 2

A3 : 3

A4 : 4

Objective Question

1422 1422

Candidate can only answer 15 Questions for Q11 to Q28, First 15 attempted questions will be considered for evaluation.

4.0 1.00

ਕਿਸਨੇ 'ਹੇਮਲੇਟ' ਨਾਟਕ ਵਿਚ ਪਿਤਾ ਦਾ ਭੂਤ ਵੇਖਿਆ ਸੀ :

(1) ਰੋਜ਼ੇਨ ਏਰੂਨਜ਼

(2) ਹੇਮਲੇਟ

(3) ਓਫੀਲਿਆ

(4) ਗਾਰਟੂਡ

A1 : 1

A2 : 2

A3 : 3

A4 : 4

Objective Question

1423 1423

Candidate can only answer 15 Questions for Q11 to Q28, First 15 attempted questions will be considered for evaluation.

4.0 1.00

"ਅਭਿਨੇਤਾ ਦੀ ਤਿਆਰੀ" (An Actor Prepares) ਪੁਸਤਕ ਕਿਸ ਨੇ ਲਿਖੀ ਹੈ :

(1) ਮੇਅਰਹੋਲਡ

(2) ਪੀਟਰ ਬਰੁੱਕ

(3) ਸਤਾਨਿਸਲਾਵਸਕੀ

(4) ਬਰੈਖ਼ਤ

A1 : 1

A2 : 2

A3 : 3

A4 : 4

Objective Question

1424 1424

Candidate can only answer 15 Questions for Q11 to Q28, First 15 attempted questions will be considered for evaluation.

4.0 1.00

'ਐਮਪਟੀ ਸਪੇਸ' (Empty Space) ਪੁਸਤਕ ਦਾ ਲੇਖਕ ਕੌਣ ਹੈ :

(1) ਲੀ ਸਟਰਾਸਬਰਗ

(2) ਬਰਤੋਲਤ ਬਰੈਖ਼ਤ

(3) ਪੀਟਰ ਬਰੁੱਕ

(4) ਮਰਲਿਨ ਬਰਾਂਡੋ

A1 : 1

A2 : 2

A3 : 3

A4 : 4

Objective Question

1425 1425

Candidate can only answer 15 Questions for Q11 to Q28, First 15 attempted questions will be considered for evaluation.

4.0 1.00

"ਨੈਸ਼ਨਲ ਸਕੂਲ ਆਫ਼ ਡਰਾਮਾ ਦੇ ਹੋਰ ਕਿਹੜੇ ਵਿੰਗ ਹਨ :

(A) ਨਾਟ ਭੰਡਾਰ ਕੰਪਨੀ/ਰੰਗਮੰਡਲ

(B) ਸ਼ਿਲਪ ਮੇਲਾ

(C) ਸੰਸਕਾਰ ਰੰਗ ਟੋਲੀ

(D) ਰਾਸ਼ਟਰੀ ਸੰਸਕ੍ਰਿਤਿਕ ਆਦਾਨ ਪ੍ਰਦਾਨ ਪ੍ਰੋਗਰਾਮ

(E) ਪ੍ਰਕਾਸ਼ਨ ਕੇਂਦਰ

ਹੇਠਾਂ ਲਿਖੇ ਵਿਕਲਪਾਂ ਵਿੱਚੋਂ **ਸਹੀ ਉੱਤਰ** ਦੀ ਚੋਣ ਕਰੋ :

(1) ਸਿਰਫ਼ (A), (C) ਅਤੇ (D)

(2) ਸਿਰਫ਼ (A), (C) ਅਤੇ (E)

(3) ਸਿਰਫ਼ (A) ਅਤੇ (B)

(4) ਸਿਰਫ਼ (D) ਅਤੇ (E)

A1 : 1

A2 : 2

A3 : 3

A4 : 4

Objective Question

1426 1426

Candidate can only answer 15 Questions for Q11 to Q28, First 15 attempted questions will be considered for evaluation.

4.0 1.00

ਹੇਠ ਲਿਖਿਆਂ ਵਿਚੋਂ ਪ੍ਰਕਾਸ਼/ਰੋਸ਼ਨੀ ਦੇ ਪ੍ਰਕਾਰਾਂ ਦੀ ਪਛਾਣ ਕਰੋ :

(A) ਪੈਰਾਬੋਲਿਕ ਰਿਫਲੈਕਟਰ (Parabolic reflector)

(B) ਡਿਮਰ/ਨਿੰਮਾ (Dimmers)

(C) ਪਰਾਬੈਂਗਣੀ ਲੈਂਪ ਟਿਊਬ (Ultraviolet lamps tubes)

(D) ਸ਼ੀਸ਼ਾ ਬਾਲ (Mirror ball)

(E) ਸਟਰੋਬ ਪ੍ਰਕਾਸ਼ (Strobe light)

ਹੇਠਾਂ ਲਿਖੇ ਵਿਕਲਪਾਂ ਵਿੱਚੋਂ **ਸਹੀ ਉੱਤਰ** ਦੀ ਚੋਣ ਕਰੋ :

(1) ਸਿਰਫ਼ (A) ਅਤੇ (B)

(2) ਸਿਰਫ਼ (C), (D) ਅਤੇ (E)

(3) ਸਿਰਫ਼ (A), (C) ਅਤੇ (D)

(4) ਸਿਰਫ਼ (B) ਅਤੇ (C)

A1 : 1

A2 : 2

A3 : 3

A4 : 4

Objective Question

1427 1427

Candidate can only answer 15 Questions for Q11 to Q28, First 15 attempted questions will be considered for evaluation.

4.0 1.00

ਸੈੱਟ ਡਿਜ਼ਾਈਨਿੰਗ ਦੇ ਸਿਧਾਂਤ ਕੀ ਹਨ :

(A) ਸੰਤੁਲਨ

(B) ਅਖੰਡਤਾ

(C) ਅੱਗ ਪ੍ਰਭਾਵ

(D) ਪਰਿਮਾਣ/ਅਨੁਪਾਤ

(E) ਲੈਅ

ਹੇਠਾਂ ਲਿਖੇ ਵਿਕਲਪਾਂ ਵਿੱਚੋਂ **ਸਹੀ ਉੱਤਰ** ਦੀ ਚੋਣ ਕਰੋ :

(1) ਸਿਰਫ਼ (A) ਅਤੇ (B)

(2) ਸਿਰਫ਼ (B) ਅਤੇ (C)

(3) ਸਿਰਫ਼ (A), (B) ਅਤੇ (C)

(4) ਸਿਰਫ਼ (A), (D) ਅਤੇ (E)

A1 : 1

A2 : 2

A3 : 3

A4 : 4

Objective Question

1428 1428

Candidate can only answer 15 Questions for Q11 to Q28, First 15 attempted questions will be considered for evaluation.

4.0 1.00

ਸ਼ੈਕਸਪੀਅਰ ਦੁਆਰਾ ਕਿਹੜੇ ਨਾਟਕ ਲਿਖੇ ਗਏ ਹਨ :

(A) ਮੈਕਬੈਥ

(B) ਟੇਮਪੇਸਟ

(C) ਵੇਟਿੰਗ ਫਾਰ ਗੋਡੋਤ

(D) ਮਰਚੈਂਟ ਆਫ ਵੇਨਿਸ

(E) ਟਰੋਜਨ ਵੂਮੇਨ

ਹੇਠਾਂ ਲਿਖੇ ਵਿਕਲਪਾਂ ਵਿੱਚੋਂ **ਸਹੀ ਉੱਤਰ** ਦੀ ਚੋਣ ਕਰੋ :

(1) ਸਿਰਫ਼ (A), (D) ਅਤੇ (E)

(2) ਸਿਰਫ਼ (A), (C), (D) ਅਤੇ (E)

(3) ਸਿਰਫ਼ (A), (B) ਅਤੇ (D)

(4) ਸਿਰਫ਼ (A), (B), (C) ਅਤੇ (E)

A1 : 1

A2 : 2

A3 : 3

A4 : 4

Objective Question

1429 1429

Candidate can only answer 15 Questions for Q11 to Q28, First 15 attempted questions will be considered for evaluation.

4.0 1.00

ਮੋਹਨ ਰਾਕੇਸ਼ ਦੇ ਨਾਟਕ 'ਆਸਾੜ ਦਾ ਇਕ ਦਿਨ' ਵਿਚ ਕਿਹੜਾ ਪਾਤਰ ਗੈਰਹਾਜ਼ਰ ਹੈ :

(A) ਦੁਸ਼ਯੰਤ

(B) ਕਾਲੀਦਾਸ

(C) ਚਾਰੂਦੱਤਾ

(D) ਮੱਲਿਕਾ

(E) ਵਿਲੋਮ

ਹੇਠਾਂ ਲਿਖੇ ਵਿਕਲਪਾਂ ਵਿੱਚੋਂ **ਸਹੀ ਉੱਤਰ** ਦੀ ਚੋਣ ਕਰੋ :

(1) ਸਿਰਫ਼ (B), (C) ਅਤੇ (E)

(2) ਸਿਰਫ਼ (A) ਅਤੇ (C)

(3) ਸਿਰਫ਼ (B), (D) ਅਤੇ (E)

(4) ਸਿਰਫ਼ (A) ਅਤੇ (E)

A1 : 1

A2 : 2

A3 : 3

A4 : 4

Objective Question

1430 1430

Candidate can only answer 15 Questions for Q11 to Q28, First 15 attempted questions will be considered for evaluation.

4.0 1.00

ਸੰਸਕ੍ਰਿਤ ਨਾਟਕਕਾਰਾਂ ਨੂੰ ਠੀਕ ਕ੍ਰਮ ਵਿਚ ਲਿਖੋ :

(A) ਭਾਸ (Bhāsa)

(B) ਭਵਭੂਤੀ

(C) ਕਾਲੀਦਾਸ

(D) ਸ਼ੂਦਰਕ

ਹੇਠਾਂ ਲਿਖੇ ਵਿਕਲਪਾਂ ਵਿੱਚੋਂ **ਸਹੀ ਉੱਤਰ** ਦੀ ਚੋਣ ਕਰੋ :

(1) (A), (B), (C), (D)
(2) (A), (C), (D), (B)
(3) (B), (C), (A), (D)
(4) (D), (A), (C), (B)

A1 : 1

A2 : 2

A3 : 3

A4 : 4

Objective Question

1431 1431 **Candidate can only answer 15 Questions for Q11 to Q28, First 15 attempted questions will be considered for evaluation.** 4.0 1.00

ਸੂਚੀ-I ਦਾ **ਸੂਚੀ-II** ਨਾਲ ਮਿਲਾਨ ਕਰੋ ।

	ਸੂਚੀ-I		**ਸੂਚੀ-II**
(A)	ਬਿਦੇਸ਼ੀਆ	(I)	ਗੁਜਰਾਤ
(B)	ਬਿਹੂ	(II)	ਬਿਹਾਰ
(C)	ਗਰਬਾ	(III)	ਮਨੀਪੁਰ
(D)	ਲਾਇ ਹਾਰੋਬਾ	(IV)	ਆਸਾਮ

ਹੇਠਾਂ ਲਿਖੇ ਵਿਕਲਪਾਂ ਵਿੱਚੋਂ **ਸਹੀ ਉੱਤਰ** ਦੀ ਚੋਣ ਕਰੋ :

(1) (A)-(II), (B)-(IV), (C)-(I), (D)-(III)
(2) (A)-(III), (B)-(I), (C)-(IV), (D)-(II)
(3) (A)-(IV), (B)-(II), (C)-(III), (D)-(I)
(4) (A)-(I), (B)-(II), (C)-(III), (D)-(IV)

A1 : 1

A2 : 2

A3 : 3

A4 : 4

Objective Question

1432 1432 **Candidate can only answer 15 Questions for Q11 to Q28, First 15 attempted questions will be considered for evaluation.** 4.0 1.00

ਸੂਚੀ-I ਦਾ **ਸੂਚੀ-II** ਨਾਲ ਮਿਲਾਨ ਕਰੋ ।

	ਸੂਚੀ-I		**ਸੂਚੀ-II**
	ਨਾਟਕ		ਲੇਖਕ
(A)	ਬਾੜ ਕਾ ਪਾਣੀ	(I)	ਬਾਦਲ ਸਿਰਕਾਰ
(B)	ਯਯਤੀ	(II)	ਮੋਹਨ ਰਾਕੇਸ਼
(C)	ਬਾਕੀ ਇਤਿਹਾਸ	(III)	ਡਾ. ਸ਼ੰਕਰ ਸ਼ੇਸ਼
(D)	ਆਸਾੜ ਕਾ ਏਕ ਦਿਨ	(IV)	ਗਿਰੀਸ਼ ਕਰਨਾਡ

ਹੇਠਾਂ ਲਿਖੇ ਵਿਕਲਪਾਂ ਵਿੱਚੋਂ **ਸਹੀ ਉੱਤਰ** ਦੀ ਚੋਣ ਕਰੋ :

(1) (A)-(III), (B)-(IV), (C)-(I), (D)-(II)
(2) (A)-(I), (B)-(II), (C)-(III), (D)-(IV)
(3) (A)-(IV), (B)-(III), (C)-(II), (D)-(I)
(4) (A)-(II), (B)-(I), (C)-(IV), (D)-(III)

A1 : 1

A2 : 2

A3 : 3

A4 : 4

Objective Question

1433 1433

Candidate can only answer 15 Questions for Q11 to Q28, First 15 attempted questions will be considered for evaluation.

4.0 1.00

ਸੂਚੀ-I ਦਾ **ਸੂਚੀ-II** ਨਾਲ ਮਿਲਾਨ ਕਰੋ ।

	ਸੂਚੀ-I		**ਸੂਚੀ-II**
(A)	ਪੀਟਰ ਬਰੁੱਕ	(I)	ਪੰਜ ਵਾਰ ਐਮੀ ਐਵਾਰਡ
(B)	ਮਰਲੋਨ ਬ੍ਰਾਂਡੋ	(II)	ਸ਼ੈਕਸਪੀਅਰ ਦਾ ਵਨ ਮੈਨ ਸ਼ੋਅ
(C)	ਲੋਰੇਂਸ ਓਲੀਵਰ	(III)	ਮਹਾਭਾਰਤ
(D)	ਜਾਨ ਗਿਲਗੁੱਡ	(IV)	ਗੌਡ ਫਾਦਰ

ਹੇਠਾਂ ਲਿਖੇ ਵਿਕਲਪਾਂ ਵਿੱਚੋਂ **ਸਹੀ ਉੱਤਰ** ਦੀ ਚੋਣ ਕਰੋ :

(1) (A)-(I), (B)-(II), (C)-(III), (D)-(IV)
(2) (A)-(I), (B)-(III), (C)-(IV), (D)-(II)
(3) (A)-(III), (B)-(IV), (C)-(I), (D)-(II)
(4) (A)-(IV), (B)-(I), (C)-(II), (D)-(III)

A1 : 1

A2 : 2

A3 : 3

A4 : 4

Objective Question

1434 1434

Candidate can only answer 15 Questions for Q11 to Q28, First 15 attempted questions will be considered for evaluation.

4.0 1.00

ਸੂਚੀ-I ਦਾ **ਸੂਚੀ-II** ਨਾਲ ਮਿਲਾਨ ਕਰੋ ।

	ਸੂਚੀ-I		**ਸੂਚੀ-II**
(A)	ਸ਼ਾਂਤੀ ਚੱਕਰਵਰਤੀ	(I)	ਸੈਟ ਡਿਜ਼ਾਈਨ
(B)	ਡੌਲੀ ਆਹਲੂਵਾਲੀਆ	(II)	ਪ੍ਰਕਾਸ਼ਮਈ ਡਿਜ਼ਾਈਨ
(C)	ਬੀ.ਵੀ. ਕਾਰੰਥ	(III)	ਪਹਿਰਾਵਾ ਡਿਜ਼ਾਈਨ
(D)	ਰੋਬਿਨ ਦਾਸ	(IV)	ਰੰਗਮੰਚ ਸੰਗੀਤ

ਹੇਠਾਂ ਲਿਖੇ ਵਿਕਲਪਾਂ ਵਿੱਚੋਂ **ਸਹੀ ਉੱਤਰ** ਦੀ ਚੋਣ ਕਰੋ :

(1) (A)-(II), (B)-(III), (C)-(IV), (D)-(I)
(2) (A)-(IV), (B)-(III), (C)-(I), (D)-(II)
(3) (A)-(III), (B)-(II), (C)-(I), (D)-(IV)
(4) (A)-(I), (B)-(II), (C)-(III), (D)-(IV)

A1 : 1

A2 : 2

A3 : 3

A4 : 4

Objective Question

1435 | 1435 | 4.0 | 1.00

Candidate can only answer 15 Questions for Q11 to Q28, First 15 attempted questions will be considered for evaluation.

ਸੂਚੀ-I ਦਾ **ਸੂਚੀ-II** ਨਾਲ ਮਿਲਾਨ ਕਰੋ ।

	ਸੂਚੀ-I		**ਸੂਚੀ-II**
(A)	ਪ੍ਰਿਥਵੀ ਥੀਏਟਰ	(I)	ਭੋਪਾਲ
(B)	ਟੈਗੋਰ ਥੀਏਟਰ	(II)	ਨਵੀਂ ਦਿੱਲੀ
(C)	ਭਾਰਤ ਭਵਨ	(III)	ਚੰਡੀਗੜ੍ਹ
(D)	ਸ੍ਰੀ ਰਾਮ ਸੈਂਟਰ	(IV)	ਮੁੰਬਈ

ਹੇਠਾਂ ਲਿਖੇ ਵਿਕਲਪਾਂ ਵਿੱਚੋਂ **ਸਹੀ ਉੱਤਰ** ਦੀ ਚੋਣ ਕਰੋ :

(1) (A)-(III), (B)-(I), (C)-(IV), (D)-(II)
(2) (A)-(I), (B)-(IV), (C)-(II), (D)-(III)
(3) (A)-(II), (B)-(IV), (C)-(III), (D)-(I)
(4) (A)-(IV), (B)-(III), (C)-(I), (D)-(II)

A1 : 1

A2 : 2

A3 : 3

A4 : 4

Objective Question

1436 | 1436 | 4.0 | 1.00

Candidate can only answer 15 Questions for Q11 to Q28, First 15 attempted questions will be considered for evaluation.

ਸੂਚੀ-I ਦਾ **ਸੂਚੀ-II** ਨਾਲ ਮਿਲਾਨ ਕਰੋ ।

	ਸੂਚੀ-I		**ਸੂਚੀ-II**
(A)	ਨੈਸ਼ਨਲ ਸਕੂਲ ਆਫ ਡਰਾਮਾ	(I)	ਭੋਪਾਲ
(B)	ਭਾਰਤੇਂਦੂ ਨਾਟਯ ਅਕੈਡਮੀ	(II)	ਗਵਾਲੀਅਰ
(C)	ਭਾਰਤ ਭਵਨ	(III)	ਲਖਨਊ
(D)	ਰਾਜਾ ਮਾਨ ਸਿੰਘ ਤੋਮਰ ਯੂਨੀਵਰਸਿਟੀ (ਸੰਗੀਤ ਯੂਨੀਵਰਸਿਟੀ)	(IV)	ਦਿੱਲੀ

ਹੇਠਾਂ ਲਿਖੇ ਵਿਕਲਪਾਂ ਵਿੱਚੋਂ **ਸਹੀ ਉੱਤਰ** ਦੀ ਚੋਣ ਕਰੋ :

(1) (A)-(IV), (B)-(III), (C)-(I), (D)-(II)
(2) (A)-(II), (B)-(I), (C)-(III), (D)-(IV)
(3) (A)-(I), (B)-(II), (C)-(III), (D)-(IV)
(4) (A)-(IV), (B)-(III), (C)-(II), (D)-(I)

A1 : 1

A2 : 2

A3 : 3

A4 : 4

Objective Question

1437	1437	"ਸਵਸਥ ਸਰੀਰ ਵਿੱਚ ਹੀ ਸਵਸਥ ਦਿਮਾਗ ਦਾ ਵਾਸ ਹੁੰਦਾ ਹੈ"। ਇਹ ਕਿਸ ਨੇ ਕਿਹਾ ਸੀ? (1) ਅਰਸਤੂ (ਅਰਿਸਟੋਟਲ) (2) ਐਚ.ਸੀ. ਬੱਕ (3) ਕਿਰਕੇਗਾਰਡ (4) ਬੇਸਦੋ A1 : 1 A2 : 2 A3 : 3 A4 : 4	4.0	1.00
Objective Question				
1438	1438	ਯੁਵਾ ਪੀੜ੍ਹੀ ਨੂੰ ਅਨੁਸ਼ਾਸਿਤ ਕਰਨ ਵਿੱਚ ਖੇਡਾਂ ਅਤੇ ਸਰੀਰਕ ਕਿਰਿਆਵਾਂ ਦੀ ਕਾਰਗਰੀ ਨੂੰ ਅਨੁਭਵ ਕਰਨ ਵਾਲਾ ਪਹਿਲਾ ਸਮਾਜ _____ ਸੀ: (1) ਰੋਮਨ (2) ਗਰੀਕ (ਯੂਨਾਨੀ) (3) ਚੀਨੀ (4) ਭਾਰਤੀ A1 : 1 A2 : 2 A3 : 3 A4 : 4	4.0	1.00
Objective Question				
1439	1439	ਯੂਰਪ ਸੰਸਕ੍ਰਿਤੀ ਦਾ ਮਾਣ ਕਰਨਯੋਗ ਵਿਰਸਾ _____ ਹੈ: (1) ਯੋਗਾ (2) ਮਾਰਸ਼ਲ ਆਰਟਸ (3) ਜਿਮਨਾਸਟਿਕ (4) ਬਾਹਰਲੀਆਂ ਮੈਦਾਨੀ ਖੇਡਾਂ A1 : 1 A2 : 2 A3 : 3 A4 : 4	4.0	1.00

Objective Question

1440 1440 4.0 1.00

ਹੇਠਾਂ ਲਿਖੀ ਕਿਸ ਵਿਧੀ ਵਿੱਚ ਇੱਕ ਖਿਡਾਰੀ ਨੂੰ ਆਪਣੀ ਗਤੀ ਵਧਾਉਣ ਲਈ ਇੱਕ ਨਿਸ਼ਚਿਤ ਦੂਰੀ ਤੈਅ ਕਰਨੀ ਹੁੰਦੀ ਹੈ:-

(1) ਗਤੀਵਰਧਨ ਵਿਧੀ

(2) ਨਿਰੰਤਰ ਵਿਧੀ

(3) ਫਾਰਟਲੇਕ ਵਿਧੀ

(4) ਮਧਿਆਂਤਰ ਵਿਧੀ

A1 : 1

A2 : 2

A3 : 3

A4 : 4

Objective Question

1441 1441 4.0 1.00

ਬੈਠੀ ਹੋਈ ਅਵਸਥਾ ਵਿੱਚ ਆਪਣੇ ਗੋਡਿਆਂ ਦੁਆਰਾ ਝੁਕਾਅ ਅਤੇ ਵਿਸਥਾਰ ਦੀ ਹਰਕਤ ਕਰਨਾ _____ ਦਾ ਉਦਾਹਰਣ ਹੈ।

(1) ਆਇਸੋਮਿਟਰਿਕ ਕਸਰਤ

(2) ਆਇਸੋਕਾਇਨੇਟਿਕ ਕਸਰਤ

(3) ਆਇਸੋਟੋਨਿਕ ਕਸਰਤ

(4) ਸਰਕਮਡਕਸ਼ਨ ਕਸਰਤ

A1 : 1

A2 : 2

A3 : 3

A4 : 4

Objective Question

1442 1442 4.0 1.00

ਉਲੰਪਿਕ ਗਤੀਵਿਧੀਆਂ ਦਾ ਨਿਰਦੇਸ਼ਨ ਅਤੇ ਨਿਯੰਤਰਨ ਕਰਨ ਦਾ ਸਰਬ ਉੱਚ ਅਧਿਕਾਰ _____ ਦਾ ਹੈ।

(1) ਅੰਤਰਰਾਸ਼ਟਰੀ ਉਲੰਪਿਕ ਕਮੇਟੀ

(2) ਭਾਰਤੀ ਉਲੰਪਿਕ ਸੰਘ

(3) ਰਾਸ਼ਟਰੀ ਖੇਡ ਸੰਗਠਨ

(4) ਐਸ਼ੀਆਡ ਦੀ ਉਲੰਪਿਕ ਕੌਂਸਿਲ

A1 : 1

A2 : 2

A3 : 3

A4 : 4

Objective Question

1443 1443 4.0 1.00

ਆਪਸੀ ਪ੍ਰਤੀਯੋਗਤਾ/ਟੂਰਨਾਮੈਂਟ ਦਾ ਉਦੇਸ਼ ਹੈ:-

(1) ਬੱਚਿਆਂ ਦੀ ਅਨੁਰੂਪਤਾ (fitness), ਭਲਾਈ (wellness) ਅਤੇ ਸਿਹਤ ਦੇ ਪਹਿਲੂਆਂ 'ਤੇ ਕੇਂਦਰਿਤ ਹੋਣਾ

(2) ਨਿਯੰਤਰਿਤ ਵਾਤਾਵਰਣ ਵਿੱਚ ਪਹਿਲਾਂ ਪ੍ਰਤੀਯੋਗਤਾ ਕਰਨ ਦਾ ਮੌਕਾ ਪ੍ਰਦਾਨ ਕਰਨਾ

(3) ਖੇਡਾਂ ਦੁਆਰਾ ਸਮਾਜਿਕ, ਸੰਸਕ੍ਰਿਤਿਕ ਅਤੇ ਆਰਥਿਕ ਵਿਕਾਸ ਨੂੰ ਵਧਾਵਾ ਦੇਣਾ

(4) ਇੱਕ ਸੰਸਥਾ ਵਿੱਚ ਖੇਡਾਂ ਵਿੱਚ ਪ੍ਰਤੀਭਾਗੀ ਹੋਣ ਲਈ ਉਤਸ਼ਾਹਿਤ ਕਰਨਾ

A1 : 1

A2 : 2

A3 : 3

A4 : 4

Objective Question

1444 1444 4.0 1.00

ਕਿਸ ਤਰ੍ਹਾਂ ਦੀ ਫਿਕਸਚਰ ਵਿਧੀ (fixture method) ਵਿੱਚ ਇੱਕ ਟੀਮ ਨੂੰ ਨਿਸ਼ਚਿਤ ਥਾਂ 'ਤੇ ਸਥਿਰ ਕਰ ਦਿੱਤਾ ਜਾਂਦਾ ਹੈ ਅਤੇ ਬਾਕੀਆਂ ਨੂੰ ਚੱਕਰ ਪੂਰਾ ਕਰਨ ਲਈ ਘੁੰਮਣ ਲਈ ਛੱਡ ਦਿੱਤਾ ਜਾਂਦਾ ਹੈ:-

(1) ਨਾਕ ਆਊਟ ਫਿਕਸਚਰ (Knock-out fixture)

(2) ਪੌੜੀ ਨੁਮਾ ਵਿਧੀ ਫਿਕਸਚਰ (Stair-case method fixture)

(3) ਚੁਣੌਤੀ ਵਿਧੀ ਫਿਕਸਚਰ (Challenge method fixture)

(4) ਚੱਕਰੀ ਵਿਧੀ ਫਿਕਸਚਰ (Cyclic method fixture)

A1 : 1

A2 : 2

A3 : 3

A4 : 4

Objective Question

1445 1445 4.0 1.00

ਸਰੀਰ ਦੇ ਕਿਸੇ ਭਾਗ/ਅੰਗ ਨੂੰ ਸਿੱਧਾ ਕਰਨਾ ਅਤੇ ਵਧਾਉਣਾ ਜਿੱਥੇ ਇੱਕ ਜੋੜ 'ਤੇ ਬਣਨ ਵਾਲੇ ਕੋਣ ਦਾ ਵਿਸਤਾਰ ਹੁੰਦਾ ਹੈ _____ ਕਹਿਲਾਉਂਦਾ ਹੈ:-

(1) ਝੁਕਾਅ

(2) ਵਿਸਤਾਰ

(3) ਸਰੀਰਕ ਅੰਗ ਦੇ ਟਿਕਾਵੇ ਤੋਂ ਕੇਂਦਰ ਤੋਂ ਪਰ੍ਹੇ ਕਰਨਾ

(4) ਪੇਸ਼ਕਾਰੀ

A1 : 1

A2 : 2

A3 : 3

A4 : 4

Objective Question

1446 1446 4.0 1.00

ਸਰੀਰ ਲਈ ਰੱਖਿਆ ਕਰਨ ਵਾਲੇ ਉਪਕਰਣਾਂ ਦਾ ਉਪਲਬਧ ਨਾ ਹੋਣਾ ਅਤੇ ਸੱਟ ਲੱਗਣ ਵਾਲੇ ਭਾਗ ਦਾ ਅਤਿ ਪ੍ਰਯੋਗ ਹੱਡੀ ਦੇ ਟੁੱਟਣ ਦਾ ਕਾਰਨ ਹੋ ਸਕਦਾ ਹੈ:-

(1) ਗਰੀਨ ਸਟਿੱਕ ਫਰੈਕਚਰ

(2) ਗੁੰਝਲਦਾਰ ਫਰੈਕਚਰ

(3) ਤਣਾਅ ਫਰੈਕਚਰ

(4) ਆਘਾਤ ਫਰੈਕਚਰ (Impacted)

A1 : 1

A2 : 2

A3 : 3

A4 : 4

Objective Question

1447 1447 4.0 1.00

ਰਿਕਲੀ ਅਤੇ ਜੋਨਸ ਟੈਸਟ ਦੀ ਕਿਸ ਆਇਟਮ ਦੁਆਰਾ ਸ਼ਰੀਰ ਦੇ ਉਪਰਲੇ ਭਾਗ ਦੀ ਲਚਕ ਨਿਰਧਾਰਿਤ ਕੀਤੀ ਜਾਂਦੀ ਹੈ?

(1) 6 ਮਿੰਟ ਚਾਲ ਪਰੀਖਣ

(2) 8 ਫੁੱਟ (foot) ਅਪ ਐਂਡ ਗੋ ਟੈਸਟ

(3) ਬਾਜੂ ਮੋੜ ਪਰੀਖਣ (Arm Curl Test)

(4) ਬੈਕ ਸਟਰੈਚ ਟੈਸਟ (Back Strech Test)

A1 : 1

A2 : 2

A3 : 3

A4 : 4

Objective Question

1448 1448 4.0 1.00

"ਕਿਸੇ ਵਸਤੂ ਦੇ ਸੰਵੇਗ ਵਿੱਚ ਪਰਿਵਰਤਨ ਉਸ ਦੁਆਰਾ ਉਤਪੰਨ ਸ਼ਕਤੀ ਦੇ ਅਨੁਰੂਪ ਹੁੰਦਾ ਹੈ ਅਤੇ ਸਮਾਨ ਦਿਸ਼ਾਂ ਵਿੱਚ ਹੁੰਦਾ ਹੈ।" ਇਸ ਕਥਨ ਦੀ ਪ੍ਰੋੜਤਾ ਹੇਠਾਂ ਦਰਸਾਇਆਂ ਵਿਚੋਂ ਕਿਹੜਾ ਨਿਯਮ ਕਰਦਾ ਹੈ?

(1) ਜੜਤਾ ਦਾ ਕਾਨੂੰਨ

(2) ਪਰਸਪਰ ਕਾਰਜ ਬਲ ਦਾ ਕਾਨੂੰਨ (Law of Reciprocal Action Force)

(3) ਗਤੀਵਰਧਨ ਦਾ ਕਾਨੂੰਨ (Law of Acceleration)

(4) ਆਕਰਸ਼ਣ ਸ਼ਕਤੀ ਦਾ ਕਾਨੂੰਨ

A1 : 1

A2 : 2

A3 : 3

A4 : 4

Objective Question

1449 1449 4.0 1.00

ਐਕਟੋਮੋਰਫ somatotype ਨੂੰ _____ ਦੇ ਨਾਮ ਨਾਲ ਵੀ ਜਾਣਿਆ ਜਾਂਦਾ ਹੈ।

(1) ਸੇਰਿਬਰੋਟੋਨਿਕ ਪ੍ਰਕਾਰ (Cerebrotonic type)

(2) ਵਿਸਰੋਟੋਨਿਕ ਪ੍ਰਕਾਰ (Viscerotonic type)

(3) ਸੋਮੇਟੋਟੋਨਿਕ ਪ੍ਰਕਾਰ (Somatotonic type)

(4) ਐਸਥੇਨਿਕ ਸਰੀਰਕ ਪ੍ਰਕਾਰ (Aesthenic body type)

A1 : 1

A2 : 2

A3 : 3

A4 : 4

Objective Question

1450 1450 4.0 1.00

ਹੇਠਾਂ ਦਰਸਾਏ ਸਰੀਰਕ ਸਿੱਖਿਆ ਨਾਲ ਸੰਬੰਧਿਤ ਸੰਸਥਾਨਾਂ ਦੀ ਸਥਿਤੀ ਨੂੰ ਨਕਸ਼ੇ ਵਿੱਚ ਉੱਤਰ ਤੋਂ ਦੱਖਣ ਦਿਸ਼ਾ ਵਿੱਚ ਦਰਸਾਓ:–

(A) ਐੱਲ ਐੱਨ ਆਈ ਪੀ ਈ (ਗਵਾਲੀਅਰ)

(B) ਵਾਈ ਐੱਮ ਸੀ ਏ (ਚੇਨਈ)

(C) ਐੱਨ ਐੱਸ ਐੱਨ ਆਈ ਐੱਸ (ਪਟਿਆਲਾ)

(D) ਐੱਲ ਸੀ ਸੀ ਪੀ ਈ (ਲਖਨਊ)

ਹੇਠ ਲਿਖਿਆਂ ਵਿਕਲਪਾਂ ਵਿੱਚੋਂ **ਸਹੀ ਉੱਤਰ** ਦੀ ਚੋਣ ਕਰੋ :

(1) (D), (C), (A), (B)

(2) (C), (D), (A), (B)

(3) (A), (B), (C), (D)

(4) (A), (B), (D), (C)

A1 : 1

A2 : 2

A3 : 3

A4 : 4

Objective Question

1451 1451 4.0 1.00

ਹੇਠਾਂ ਲਿਖਿਤ ਆਸਨ ਸੰਬੰਧੀ ਵਿਗਾੜ ਨੂੰ ਪੈਰ ਤੋਂ ਸਿਰ ਦੇ ਕ੍ਰਮ ਵਿੱਚ ਵਿਵਸਥਿਤ ਕਰੋ:-

(A) ਸਕੋਲਿਉਸਿਸ

(B) ਗੋਲ ਕੰਧੇ

(C) ਜੇਨੂ ਵੇਰਮ

(D) ਪੇਸ ਪਲੇਨਸ

ਹੇਠ ਲਿਖਿਆਂ ਵਿਕਲਪਾਂ ਵਿੱਚੋਂ **ਸਹੀ ਉੱਤਰ** ਦੀ ਚੋਣ ਕਰੋ :

(1) (B), (C), (A), (D)
(2) (A), (B), (D), (C)
(3) (D), (A), (C), (B)
(4) (D), (C), (A), (B)

A1 : 1

A2 : 2

A3 : 3

A4 : 4

Objective Question

1452 1452 4.0 1.00

ਵਿਵਹਾਰ ਦੇ ਪ੍ਰੇਤਸਾਹਿਤ ਗੁਣਾਂ ਦੀ ਵਿਆਖਿਆ ਕਰਨ ਲਈ ਮਨੋਵਿਗਿਆਨਕ 'ਜ਼ਰੂਰਤ ਦੇ ਸੰਕਲਪ' ਦਾ ਪ੍ਰਯੋਗ ਕਰਦੇ ਹਨ। ਇਨ੍ਹਾਂ ਨੂੰ ਤਰਤੀਬਵਾਰ ਵਿਵਸਥਿਤ ਕਰੋ:-

(A) ਉਭਾਰਨ ਵਿੱਚ ਕਮੀ (Reduction of arousal)

(B) ਉਦੇਸ਼ ਨਿਰਦੇਸ਼ਿਤ ਵਿਵਹਾਰ (Goal Directed Behaviour)

(C) ਉਤੇਜਿਤ ਕਰਨਾ/ਪ੍ਰਬਲ ਪ੍ਰਵਿਰਤੀ (Drive)

(D) ਉਪਲਬਧੀ (Achievement)

(E) ਉਭਾਰਨਾ (Arousal)

ਹੇਠ ਲਿਖਿਆਂ ਵਿਕਲਪਾਂ ਵਿੱਚੋਂ **ਸਹੀ ਉੱਤਰ** ਦੀ ਚੋਣ ਕਰੋ :

(1) (A), (C), (B), (E), (D)
(2) (E), (C), (D), (A), (B)
(3) (C), (E), (B), (D), (A)
(4) (B), (C), (D), (A), (E)

A1 : 1

A2 : 2

A3 : 3

A4 : 4

Objective Question

1453 1453 4.0 1.00

ਰਾਸ਼ਟਰੀ ਸਿਹਤ ਸੰਸਥਾ ਦੇ ਵਿਸ਼ੇਸ ਪ੍ਰਸੰਗ ਅਨੁਸਾਰ ਭਿੰਨ-ਭਿੰਨ ਉਮਰ ਵਰਗ ਦੇ ਲਈ ਨੀਂਦ ਲੈਣ ਸੰਬੰਧੀ ਜ਼ਰੂਰਤਾਂ ਨੂੰ ਹੇਠਾਂ ਲਿਖੇ ਉਮਰ ਵਰਗਾਂ ਅਨੁਸਾਰ ਘੱਟਦੇ ਕ੍ਰਮ ਵਿੱਚ ਵਿਵਸਥਿਤ ਕਰੋ:-

(A) 3 ਤੋਂ 5 ਸਾਲ

(B) 1 ਤੋਂ 3 ਸਾਲ

(C) 12 ਤੋਂ 18 ਸਾਲ

(D) 3 ਮਹੀਨੇ ਤੋਂ 1 ਸਾਲ

(E) 5 ਤੋਂ 12 ਸਾਲ

ਹੇਠ ਲਿਖਿਆਂ ਵਿਕਲਪਾਂ ਵਿੱਚੋਂ **ਸਹੀ ਉੱਤਰ** ਦੀ ਚੋਣ ਕਰੋ :

(1) (D), (A), (E), (C), (B)
(2) (B), (C), (D), (A), (E)
(3) (A), (D), (E), (B), (C)
(4) (D), (B), (A), (E), (C)

A1 : 1

A2 : 2

A3 : 3

A4 : 4

Objective Question

1454 1454 4.0 1.00

ਨਿਮਨਲਿਖਿਤ ਪਰੀਖਣਾਂ ਨੂੰ ਉਨ੍ਹਾਂ ਵਿੱਚ ਲੱਗਣ ਵਾਲੇ ਸਮੇਂ ਦੇ ਵਿਸ਼ੇਸ਼ ਪ੍ਰਸੰਗ ਵਿੱਚ ਘੱਟ ਤੋਂ ਜ਼ਿਆਦਾ ਦੇ ਕ੍ਰਮ ਵਿੱਚ ਵਿਵਸਥਿਤ ਕਰੋ:-

(A) ਹਾਰਵਰਡ ਸਟੇਪ ਟੈਸਟ (Harvard step test)

(B) ਐਬਡੋਮੀਨਲ (Abdominal)

(C) ਮਿੰਟ ਸਟੈਪ ਟੈਸਟ (Minutes step test)

(D) ਮਿੰਟ ਵਾਕ ਟੈਸਟ (Minutes walk test)

ਹੇਠ ਲਿਖੇ ਵਿਕਲਪਾਂ ਵਿੱਚੋਂ **ਸਹੀ ਉੱਤਰ** ਦੀ ਚੋਣ ਕਰੋ :

(1) (B), (C), (A), (D)
(2) (A), (B), (C), (D)
(3) (D), (B), (C), (A)
(4) (A), (D), (B), (C)

A1 : 1

A2 : 2

A3 : 3

A4 : 4

Objective Question

1455 1455 4.0 1.00

ਭਾਰਤੀ ਖੇਡ ਅਥਾਰਟੀ ਇੱਕ ਨੋਡਲ ਏਜੰਸੀ ਹੈ ਜੋ ਹੇਠ ਲਿਖਿਆਂ ਵਿੱਚੋਂ MYAS ਦੀ ਕਿਹੜੀ ਖੇਡ ਸਕੀਮ ਨੂੰ ਲਾਗੂ ਕਰਦੀ ਹੈ:-

(A) ਰਾਸ਼ਟਰੀ ਖੇਡ ਪ੍ਰਤਿਭਾ ਯੋਗਤਾ (ਸਬ ਜੂਨੀਅਰ, ਜੂਨੀਅਰ ਅਤੇ ਸੀਨੀਅਰ ਲੇਵਲ)

(B) ਪੇਂਡੂ ਖੇਡ ਪ੍ਰਤੀਯੋਗਤਾ

(C) ਰਾਸ਼ਟਰੀ ਮਹਿਲਾ ਖੇਡ ਉਤਸਵ ਪ੍ਰੋਗਰਾਮ

(D) ਆਰਮੀ ਬੁਆਇਜ਼ ਸਪੋਰਟਸ ਕੰਪਨੀ (ਸਬ ਜੂਨੀਅਰ)

(E) ਖਾਸ ਜਗ੍ਹਾ ਦੀਆਂ ਖੇਡਾਂ

ਹੇਠ ਲਿਖੇ ਵਿਕਲਪਾਂ ਵਿੱਚੋਂ **ਸਹੀ ਉੱਤਰ** ਦੀ ਚੋਣ ਕਰੋ :

(1) ਸਿਰਫ਼ (B) ਅਤੇ (C)

(2) ਸਿਰਫ਼ (A) ਅਤੇ (B)

(3) ਸਿਰਫ਼ (B), (C) ਅਤੇ (D)

(4) ਸਿਰਫ਼ (A), (D) ਅਤੇ (E)

A1 : 1

A2 : 2

A3 : 3

A4 : 4

Objective Question

1456 1456

ਹੇਠ ਲਿਖਿਆਂ ਵਿੱਚੋਂ ਕਿਹੜੇ ਮੁੱਢਲੀ ਸਹਾਇਤਾ ਦੇ ਉਦੇਸ਼ ਹਨ:-

(A) ਤੁਰੰਤ ਸਹਾਇਤਾ ਅਤੇ ਦਰਦ ਵਿੱਚ ਆਰਾਮ ਦੇਣਾ

(B) ਚੋਟ ਨੂੰ ਵਧਾਉਣਾ ਅਤੇ ਪਾਣੀ ਬਚਾਉਣਾ

(C) ਅਚਾਨਕ ਲੱਗੀ ਚੋਟ ਨੂੰ ਹੋਰ ਜ਼ਿਆਦਾ ਹਾਨੀ ਤੋਂ ਬਚਾਉਣਾ

(D) ਰੋਗ ਮੁਕਤੀ ਨੂੰ ਵਧਾਉਣਾ

(E) ਖਣਿਜਾਂ ਦੀ ਰੱਖਿਆ ਕਰਨੀ ਅਤੇ ਵਾਤਾਵਰਣ ਨੂੰ ਬਰਕਰਾਰ ਰੱਖਣਾ

ਹੇਠ ਲਿਖੇ ਵਿਕਲਪਾਂ ਵਿੱਚੋਂ **ਸਹੀ ਉੱਤਰ** ਦੀ ਚੋਣ ਕਰੋ :

(1) ਸਿਰਫ਼ (A), (B) ਅਤੇ (C)

(2) ਸਿਰਫ਼ (A), (C) ਅਤੇ (D)

(3) ਸਿਰਫ਼ (C), (D) ਅਤੇ (E)

(4) ਸਿਰਫ਼ (B), (C) ਅਤੇ (D)

A1 : 1

A2 : 2

A3 : 3

A4 : 4

4.0 1.00

Objective Question

1457 1457

4.0 1.00

ਹੇਠਾਂ ਦਰਸਾਇਆਂ ਵਿਚੋਂ ਕਿਹੜਾ ਪਰੀਖਣ/ਟੈਸਟ ਬੇਰੋ ਜਨਰਲ ਮੋਟਰ ਐਬਿਲਿਟੀ ਟੈਸਟ ਦੇ ਮੁੱਦੇ ਨਹੀਂ ਹਨ:-

(A) 600 ਮੀਟਰ ਦੌੜ/ਚਾਲ

(B) ਜ਼ਿਗ/ਜ਼ੈਗ ਦੌੜ

(C) ਮੈਡੀਸਨ ਬਾਲ ਪੁੱਟ (Medicine Ball Put)

(D) ਪੁਸ਼ - ਅਪਸ

(E) ਸਟੈਂਡਿੰਗ ਬਰਾਡ ਜੰਪ

ਹੇਠ ਲਿਖੇ ਵਿਕਲਪਾਂ ਵਿੱਚੋਂ **ਸਹੀ ਉੱਤਰ** ਦੀ ਚੋਣ ਕਰੋ :

(1) ਸਿਰਫ਼ (A), (B) ਅਤੇ (C)

(2) ਸਿਰਫ਼ (A) ਅਤੇ (D)

(3) ਸਿਰਫ਼ (B) ਅਤੇ (E)

(4) ਸਿਰਫ਼ (C) ਅਤੇ (E)

A1 : 1

A2 : 2

A3 : 3

A4 : 4

Objective Question

1458 1458 4.0 1.00

ਹੇਠ ਲਿਖਿਆਂ ਵਿਚੋਂ ਕਿਹੜਾ ਤਰਲ ਰਗੜ ਦੀ ਉਦਾਹਰਣ ਹੈ:-

(A) ਤੈਰਨਾ ਅਤੇ ਗੋਤਾਖੋਰੀ (Swimming and Diving)

(B) ਬੱਲੇ ਨਾਲ ਕ੍ਰਿਕਟ ਬਾਲ ਨੂੰ ਮਾਰਨਾ

(C) ਸਕਾਈ ਡਾਇਵਿੰਗ (Sky Diving)

(D) ਉੱਚਾ ਜੰਪ (High Jump)

(E) ਆਈਸ ਸਕੇਟਿੰਗ (Ice Skating)

ਹੇਠ ਲਿਖੇ ਵਿਕਲਪਾਂ ਵਿੱਚੋਂ **ਸਹੀ ਉੱਤਰ** ਦੀ ਚੋਣ ਕਰੋ :

(1) ਸਿਰਫ਼ (B), (C) ਅਤੇ (E)

(2) ਸਿਰਫ਼ (A), (B) ਅਤੇ (C)

(3) ਸਿਰਫ਼ (A), (C) ਅਤੇ (D)

(4) ਸਿਰਫ਼ (C), (D) ਅਤੇ (E)

A1 : 1

A2 : 2

A3 : 3

A4 : 4

Objective Question

1459 1459 4.0 1.00

'ਪੰਜ ਵੱਡੇ ਬਿਹਤਰ ਸਿਧਾਂਤਾਂ' ਦੇ ਸਪੱਸ਼ਟ ਪ੍ਰਸੰਗ ਵਿੱਚ ਹੇਠਾਂ ਲਿਖਿਆਂ ਵਿੱਚੋਂ ਉੱਚ ਕੋਟੀ ਦੇ ਵਿਹਰਕ ਪੱਖ ਲਈ ਕਿਹੜੇ ਪਹਿਲੂ ਆਉਂਦੇ ਹਨ ?

(A) ਸੁਵਿਵਸਥਿਤ, ਸੁਚੇਤ

(B) ਅਸੁਰੱਖਿਅਤ, ਘਬਰਾਉਣ ਵਾਲਾ

(C) ਉਤਾਵਲਾ/ਵਿਆਕੁਲ

(D) ਜ਼ਿੰਮੇਵਾਰ

(E) ਸਵੈ – ਅਨੁਸ਼ਾਸਿਤ

ਹੇਠ ਲਿਖੇ ਵਿਕਲਪਾਂ ਵਿੱਚੋਂ **ਸਹੀ ਉੱਤਰ** ਦੀ ਚੋਣ ਕਰੋ :

(1) ਸਿਰਫ਼ (A), (D) ਅਤੇ (E)

(2) ਸਿਰਫ਼ (A), (B) ਅਤੇ (C)

(3) ਸਿਰਫ਼ (C), (D) ਅਤੇ (E)

(4) ਸਿਰਫ਼ (B), (C) ਅਤੇ (D)

A1 : 1

A2 : 2

A3 : 3

A4 : 4

Objective Question

1460 1460 4.0 1.00

ਸੂਚੀ-I ਦਾ **ਸੂਚੀ-II** ਨਾਲ ਮਿਲਾਨ ਕਰੋ ।

	ਸੂਚੀ-I		**ਸੂਚੀ-II**
(A)	ਯਤਨ ਅਤੇ ਦੁਬਾਰਾ ਪ੍ਰਾਪਤੀ	(I)	ਆਇਸੋਮਿਟਰਿਕ ਕਸਰਤ
(B)	ਕੀਤਾ ਕੰਮ ਨਜ਼ਰ ਨਾ ਆਉਣਾ	(II)	ਫਾਰਟਲੇਕ ਟ੍ਰੇਨਿੰਗ (Fartlek training)
(C)	ਗਤੀਵਿਧੀ ਦਾ ਪੂਰੀ ਤਰ੍ਹਾਂ ਵਿਖਾਈ ਦੇਣਾ	(III)	ਮਧਿਆਂਤਰ ਟ੍ਰੇਨਿੰਗ (Interval training)
(D)	ਸਪੀਡ ਪਲੇ (Speed play)	(IV)	ਆਇਸੋਟੋਨਿਕ ਕਸਰਤ (Isotonic exercise)

ਹੇਠ ਲਿਖੇ ਵਿਕਲਪਾਂ ਵਿੱਚੋਂ **ਸਹੀ ਉੱਤਰ** ਦੀ ਚੋਣ ਕਰੋ :

(1) (A)-(III), (B)-(I), (C)-(IV), (D)-(II)

(2) (A)-(IV), (B)-(II), (C)-(III), (D)-(I)

(3) (A)-(II), (B)-(III), (C)-(I), (D)-(IV)

(4) (A)-(I), (B)-(IV), (C)-(II), (D)-(III)

A1 : 1

A2 : 2

A3 : 3

A4 : 4

Objective Question

1461 1461 4.0 1.00

ਸੂਚੀ-I ਦਾ ਸੂਚੀ-II ਨਾਲ ਮਿਲਾਨ ਕਰੋ ।

ਸੂਚੀ-I (ਨਾੱਕ ਆਊਟ ਟੂਰਨਾਮੇਂਟ ਵਿੱਚ ਜੇਕਰ ਭਾਗ ਲੈਣ ਵਾਲੀ ਟੀਮ ਅਣਮੇਲ ਨੰਬਰ ਵਿੱਚ ਹੋਵੇ)	ਸੂਚੀ-II
(A) ਹੇਠਲੇ ਮੱਧ ਵਿੱਚ ਟੀਮ ਦੀ ਸੰਖਿਆ	(I) $\frac{N+1}{2}$
(B) ਮੈਚਾਂ ਦੀ ਸੰਖਿਆ	(II) $\frac{NB-1}{2}$
(C) ਉਪਰਲੇ ਮੱਧ ਵਿੱਚ ਬਾਇਸ (Byes) ਦੀ ਸੰਖਿਆ	(III) $N-1$
(D) ਉਪਰਲੇ ਮੱਧ ਵਿੱਚ ਟੀਮਾਂ ਦੀ ਸੰਖਿਆ	(IV) $\frac{N-1}{2}$

ਹੇਠ ਲਿਖੇ ਵਿਕਲਪਾਂ ਵਿੱਚੋਂ **ਸਹੀ ਉੱਤਰ** ਦੀ ਚੋਣ ਕਰੋ :

(1) (A)-(IV), (B)-(III), (C)-(II), (D)-(I)
(2) (A)-(I), (B)-(II), (C)-(III), (D)-(IV)
(3) (A)-(II), (B)-(I), (C)-(IV), (D)-(III)
(4) (A)-(III), (B)-(IV), (C)-(I), (D)-(II)

A1 : 1

A2 : 2

A3 : 3

A4 : 4

Objective Question

1462 1462 4.0 1.00

ਸੂਚੀ-I ਦਾ ਸੂਚੀ-II ਨਾਲ ਮਿਲਾਨ ਕਰੋ ।

ਸੂਚੀ-I	ਸੂਚੀ-II
(A) ਗੋਡੇ ਭਿੜਨਾ (Knock knees)	(I) ਪੇਸ ਪਲੇਨਸ
(B) ਕਮਾਨੀ ਟੰਗਾਂ	(II) ਕਾਈਫੋਸਿਸ
(C) ਚਪਟੇ/ਸਿੱਧੇ ਪੈਰ	(III) ਜੇਨੂ ਵਲਗਮ
(D) ਪਿੱਠ ਦਾ ਕੁੱਬ	(IV) ਜੇਨੂ ਵੇਰਮ

ਹੇਠ ਲਿਖੇ ਵਿਕਲਪਾਂ ਵਿੱਚੋਂ **ਸਹੀ ਉੱਤਰ** ਦੀ ਚੋਣ ਕਰੋ :

(1) (A)-(III), (B)-(II), (C)-(I), (D)-(IV)
(2) (A)-(III), (B)-(IV), (C)-(I), (D)-(II)
(3) (A)-(IV), (B)-(III), (C)-(II), (D)-(I)
(4) (A)-(II), (B)-(IV), (C)-(III), (D)-(I)

A1 : 1

A2 : 2

A3 : 3

A4 : 4

Objective Question

1463 1463 4.0 1.00

ਸੂਚੀ-I ਦਾ **ਸੂਚੀ-II** ਨਾਲ ਮਿਲਾਨ ਕਰੋ ।

ਸੂਚੀ-I	ਸੂਚੀ-II
(A) ਹੱਡੀ ਦਾ ਮੜਨਾ ਅਤੇ ਦਰਾੜ (crack)	(I) ਹੱਡੀ ਦਾ ਕਈ ਜਗ੍ਹਾਤੋਂ ਟੁੱਟਣਾ (Comminuted)
(B) ਹੱਡੀ ਟੁੱਟ ਕੇ ਜਾਮ ਹੋ ਜਾਣਾ	(II) ਗਰੀਨ ਸਟਿੱਕ ਫਰੈਕਚਰ
(C) ਹੱਡੀ ਦਾ ਟੇਢਾ ਟੁੱਟਣਾ	(III) ਪ੍ਰਭਾਵ (Impacted)
(D) ਹੱਡੀ ਦਾ ਕਈ ਭਾਗਾਂ ਵਿੱਚ ਟੁੱਟਣਾ	(IV) ਹੱਡੀ ਦਾ ਤਿਰਛਾ ਟੁੱਟਣਾ

ਹੇਠ ਲਿਖੇ ਵਿਕਲਪਾਂ ਵਿੱਚੋਂ **ਸਹੀ ਉੱਤਰ** ਦੀ ਚੋਣ ਕਰੋ :

(1) (A)-(I), (B)-(II), (C)-(III), (D)-(IV)
(2) (A)-(III), (B)-(IV), (C)-(I), (D)-(II)
(3) (A)-(II), (B)-(III), (C)-(IV), (D)-(I)
(4) (A)-(IV), (B)-(I), (C)-(II), (D)-(III)

A1 : 1

A2 : 2

A3 : 3

A4 : 4

Objective Question

1464 1464 4.0 1.00

ਸੂਚੀ-I ਦਾ **ਸੂਚੀ-II** ਨਾਲ ਮਿਲਾਨ ਕਰੋ ।

ਸੂਚੀ-I	ਸੂਚੀ-II
(A) ਦਿਆਲੂ ਅਤੇ ਮਿੱਤਰਤਾਪੂਰਨ	(I) ਸਹਿਮਤੀਯੋਗ (Agreeableness)
(B) ਸੰਗਠਿਤ, ਵਿਵਸਥਿਤ ਅਤੇ ਸਮੇਂ ਦਾ ਪਾਬੰਦ	(II) ਨਿਸ਼ਚੇਜਨਕ ਵਿਵਹਾਰ (Assertive behaviour)
(C) ਨਿਆਂਸੰਗਤ ਉਚਿਤ ਖੇਡ ਦੇ ਨਿਯਮਾਂ ਨੂੰ ਨਹੀਂ ਤੋੜਨਾ	(III) ਹਸਟਾਇਲ ਅਗਰੇਸਨ (Hostile aggression)
(D) ਕਸ਼ਟਪੂਰਨ ਤੇ ਹਾਨੀ ਪਹੁੰਚਾਉਣਾ	(IV) ਵਿਵੇਕਸ਼ੀਲ (Conscientiousness)

ਹੇਠ ਲਿਖੇ ਵਿਕਲਪਾਂ ਵਿੱਚੋਂ **ਸਹੀ ਉੱਤਰ** ਦੀ ਚੋਣ ਕਰੋ :

(1) (A)-(II), (B)-(I), (C)-(III), (D)-(IV)
(2) (A)-(IV), (B)-(III), (C)-(I), (D)-(II)
(3) (A)-(III), (B)-(II), (C)-(IV), (D)-(I)
(4) (A)-(I), (B)-(IV), (C)-(II), (D)-(III)

A1 : 1

A2 : 2

A3 : 3

A4 : 4

Objective Question

1465 1465 4.0 1.00

ਜੇਕਰ ਖੇਤਰ ਵਿਚ ਸਥਿਰ ਬਿਜਲੀ ਪੁਟੈਂਸ਼ਲ $V = 3x + 3y - z$, ਹੈ ਤਾਂ ਉਸ ਖੇਤਰ ਦੀ ਬਿਜਲੀ ਖੇਤਰ ਸਮੱਰਥਾ $\vec{E}$ ਹੈ :

(1) $3\hat{i} + 3\hat{j} - \hat{k}$

(2) $\hat{i} + \hat{j} - \hat{k}$

(3) $-\hat{i} - \hat{j} + \hat{k}$

(4) $-3\hat{i} - 3\hat{j} + \hat{k}$

A1 : 1

A2 : 2

A3 : 3

A4 : 4

Objective Question

1466 1466 4.0 1.00

ਇਲੈਕਟ੍ਰਾਨਿਕ ਸਰਕਟਾਂ ਨੂੰ ਧਾਤ ਦੇ ਡੱਬੇ ਵਿੱਚ ਰੱਖਿਆ ਜਾਂਦਾ ਹੈ । ਇਹ ਇਸ ਲਈ :

(1) ਸਰਕਟ ਦੀ ਬਿਹਤਰ ਮਿਆਦ ਲਈ

(2) ਚੁੰਬਕੀ ਸ਼ੀਲਡਿੰਗ ਲਈ

(3) ਸਥਿਰ ਬਿਜਲੀ ਸ਼ੀਲਡਿੰਗ ਲਈ

(4) ਹੁੰਮਸ ਅਤੇ ਤਾਪਮਾਨ ਸ਼ੀਲਡਿੰਗ ਲਈ

A1 : 1

A2 : 2

A3 : 3

A4 : 4

Objective Question

1467 1467 4.0 1.00

ਇਕ 0.4 m ਦੀ ਲੰਬਾਈ ਵਾਲੇ ਧਾਤ ਸਿਲੰਡਰ ਨੂੰ ਹਵਾ ਵਿਚ 4×10^{-8} C ਚਾਰਜ ਦਿੱਤਾ ਜਾਂਦਾ ਹੈ । ਧੁਰੇ ਤੋਂ 4.5 cm ਦੀ ਵਿੱਥ 'ਤੇ ਹੋਣ ਕਾਰਨ ਸਿਲੰਡਰ ਦੀ ਬਿਜਲੀ ਤੀਬਰਤਾ ਹੈ : $\left(\frac{1}{4\pi\epsilon_o} = 9 \times 10^9 \text{ SI Unit}\right)$

(1) 4×10^4 V/m

(2) 4×10^3 V/m

(3) 2×10^4 V/m

(4) 2×10^3 V/m

A1 : 1

A2 : 2

A3 : 3

A4 : 4

Objective Question

1468 1468 4.0 1.00

ਬਿਜਲੀ ਡਾਈਪੋਲ ਤੋਂ 5 μm ਦੀ ਦੂਰੀ 'ਤੇ, ਵਿਸ਼ੂਵਤੀ ਬਿੰਦੂ 'ਤੇ ਬਿਜਲੀ ਖੇਤਰ ਦਾ ਪਰਿਮਾਣ 5.76×10^7 N/C ਹੈ । ਜੇਕਰ ਡਾਈਪੋਲ ਵਾਲੇ ਹਰ ਚਾਰਜ ਦਾ ਪਰਿਮਾਣ 4 nC ਹੈ, ਤਾਂ ਡਾਈਪੋਲ ਦੀ ਲੰਬਾਈ ਹੈ : (nm ਵਿੱਚ)

(1) 2
(2) 20
(3) 10
(4) 1

A1 : 1

A2 : 2

A3 : 3

A4 : 4

Objective Question

1469 1469 4.0 1.00

ਸੂਚੀ-I ਦਾ **ਸੂਚੀ-II** ਨਾਲ ਮਿਲਾਨ ਕਰੋ ।

ਸੂਚੀ-I	**ਸੂਚੀ-II**
(A) ਸਥਿਰ ਬਿਜਲੀ ਵਿਚ ਗਾੱਸ ਦਾ ਨਿਯਮ	(I) $\oint \vec{B} \cdot \vec{dl} = \mu_o I$
(B) ਬਾਇਓ-ਸਵਾਰਟ ਨਿਯਮ	(II) $\epsilon = -\frac{d\phi_B}{dt}$
(C) ਐਮਪੀਅਰ ਦੇ ਸਰਕਟ ਦਾ ਨਿਯਮ	(III) $\lvert dB \rvert = \frac{\mu_o}{4\pi} \frac{I\, dl \sin\theta}{r^2}$
(D) ਲੈਂਜ਼ ਦਾ ਨਿਯਮ	(IV) $\phi_E = \frac{q}{\varepsilon_o}$

ਹੇਠ ਲਿਖਿਆਂ ਵਿਕਲਪਾਂ ਵਿੱਚ **ਸਹੀ ਉੱਤਰ** ਦੀ ਚੋਣ ਕਰੋ :

(1) (A)-(IV), (B)-(III), (C)-(I), (D)-(II)
(2) (A)-(III), (B)-(II), (C)-(IV), (D)-(I)
(3) (A)-(I), (B)-(IV), (C)-(III), (D)-(II)
(4) (A)-(II), (B)-(I), (C)-(IV), (D)-(III)

A1 : 1

A2 : 2

A3 : 3

A4 : 4

Objective Question

1470 1470 4.0 1.00

ਕਾਰਬਨ ਪ੍ਰਤੀਰੋਧਕ ਦੇ ਰੰਗ ਕੋਡ ਬੈਂਗਣੀ, ਪੀਲਾ, ਭੂਰਾ ਅਤੇ ਚਾਂਦਨੀ ਹਨ। ਪ੍ਰਤੀਰੋਧ ਦਾ ਮਾਨ ਹੈ :

(1) $(47 \times 10^6\ \Omega) \pm 10\%$
(2) $(63 \times 10^8\ \Omega) \pm 10\%$
(3) $(74 \times 10\ \Omega) \pm 10\%$
(4) $(83 \times 10^5\ \Omega) \pm 10\%$

A1 : 1

A2 : 2

A3 : 3

A4 : 4

Objective Question

1471 1471 4.0 1.00

ਦਿੱਤੇ ਗਏ ਸਰਕਟ ਵਿਚ ਬਿੰਦੂ C ਅਤੇ D ਵਿਚਕਾਰ ਪ੍ਰਤੀਰੋਧ ਹੈ :

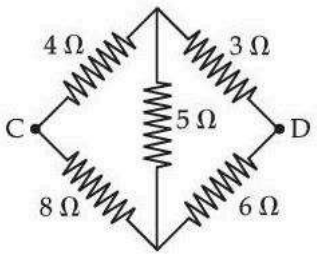

(1) $\frac{3}{14}\ \Omega$

(2) $\frac{61}{21}\ \Omega$

(3) $\frac{28}{6}\ \Omega$

(4) $\frac{46}{17}\ \Omega$

A1 : 1

A2 : 2

A3 : 3

A4 : 4

Objective Question

1472 1472 4.0 1.00

ਕੋਈ ਸੋਲੇਨਾਈਡ ਜਿਸਦੀ ਲੰਬਾਈ 60 cm ਅਤੇ ਅਰਧ ਵਿਆਸ 1 cm ਹੈ, ਵਿਚ 600 ਚੱਕਰ ਹਨ। ਇਸ ਵਿਚ 5 A ਬਿਜਲੀ ਕਰੰਟ ਲੰਘ ਰਿਹਾ ਹੈ। ਸੋਲੇਨਾਈਡ ਦੇ ਅੰਦਰ ਚੁੰਬਕੀ ਖੇਤਰ ਦਾ ਪਰਿਮਾਣ ਹੈ :

(1) 3.28×10^{-3} T
(2) 6.28×10^{-3} T
(3) 3.14×10^{-3} T
(4) 6.28×10^{-5} T

A1 : 1

A2 : 2

A3 : 3

A4 : 4

Objective Question

1473 1473 4.0 1.00

$\Delta x = 2$ cm ਲੰਬਾਈ ਵਾਲੇ ਕਿਸੇ ਐਲੀਮੈਂਟ ਨੂੰ x-ਧੁਰੇ 'ਤੇ ਰੱਖਿਆ ਗਿਆ ਹੈ, ਜਿਸ ਵਿਚੋਂ 5 A ਕਰੰਟ ਲੰਘ ਰਿਹਾ ਹੈ। ਐਲੀਮੈਂਟ ਦੇ ਕੇਂਦਰ ਤੋਂ 1 m ਦੀ ਦੂਰੀ 'ਤੇ, y-ਧੁਰੇ 'ਤੇ ਚੁੰਬਕੀ ਖੇਤਰ ਦਾ ਪਰਿਮਾਣ ਹੈ : ($\mu_0 = 4\pi \times 10^{-7}$ SI Unit)

(1) 4×10^{-6} T
(2) 2×10^{-8} T
(3) 10^{-7} T
(4) 10^{-8} T

A1 : 1

A2 : 2

A3 : 3

A4 : 4

Objective Question

1474 1474 4.0 1.00

ਸੂਚੀ-I ਦਾ **ਸੂਚੀ-II** ਨਾਲ ਮਿਲਾਨ ਕਰੋ।

ਸੂਚੀ-I	**ਸੂਚੀ-II**
(A) ਨਿਰਵਾਯੂ ਦੀ ਆਪੇਖੀ ਚੁੰਬਕਸ਼ੀਲਤਾ	(I) ਵੱਡਾ ਅਤੇ ਸਕਾਰਾਤਮਕ
(B) ਪ੍ਰਤੀ ਚੁੰਬਕੀ ਪਦਾਰਥ ਦੀ ਪ੍ਰਵਿਰਤੀ	(II) ਏਕਤਾ
(C) ਅਨੁਚੁੰਬਕੀ ਪਦਾਰਥ ਦੀ ਪ੍ਰਵਿਰਤੀ	(III) ਛੋਟਾ ਅਤੇ ਸਕਾਰਾਤਮਕ
(D) ਲੋਹਚੁੰਬਕੀ ਪਦਾਰਥ ਦੀ ਪ੍ਰਵਿਰਤੀ	(IV) ਛੋਟਾ ਅਤੇ ਨਕਾਰਾਤਮਕ

ਹੇਠ ਲਿਖਿਆਂ ਵਿਕਲਪਾਂ ਵਿੱਚ **ਸਹੀ ਉੱਤਰ** ਦੀ ਚੋਣ ਕਰੋ :

(1) (A)-(III), (B)-(II), (C)-(I), (D)-(IV)
(2) (A)-(III), (B)-(IV), (C)-(II), (D)-(I)
(3) (A)-(II), (B)-(IV), (C)-(I), (D)-(III)
(4) (A)-(II), (B)-(IV), (C)-(III), (D)-(I)

A1 : 1

A2 : 2

A3 : 3

A4 : 4

Objective Question

1475 1475 4.0 1.00

ਮੈਕੇਨਿਸ ਵਿਚ ਪੁੰਜ ਯਾਂਤਰਿਕ ਜੜਤਵ ਹੈ ਜਦਕਿ ac ਸਰਕਟਾਂ ਵਿਚ :

(1) ਧਾਰਕ ਬਿਜਲੀ ਜੜਤਵ ਹੈ ।

(2) ਚਾਰਜ ਬਿਜਲੀ ਜੜਤਵ ਹੈ ।

(3) ਈ.ਐਮ.ਐਫ (emf) ਬਿਜਲੀ ਜੜਤਵ ਹੈ ।

(4) ਪ੍ਰੇਰਕਤਾ ਬਿਜਲੀ ਜੜਤਵ ਹੈ ।

A1 : 1

A2 : 2

A3 : 3

A4 : 4

Objective Question

1476 1476 4.0 1.00

ਕਿਸੇ ਏ.ਸੀ. (ac) ਸਰਕਟ ਵਿਚ, 2.5 H ਦਾ ਪ੍ਰੇਰਕ ਕੈਪੀਸਟਰ ਨਾਲ ਜੁੜਿਆ ਹੈ । ਜੇਕਰ ਅਨੁਨਾਦੀ ਆਵ੍ਰਿਤੀ 10^4 Hz, ਤਾਂ ਕੈਪੀਸਟਰ ਦਾ ਮਾਨ ਹੈ : [$\pi^2 = 10$ ਲਓ]

(1) 100 μF

(2) 10 μF

(3) 100 pF

(4) 10 pF

A1 : 1

A2 : 2

A3 : 3

A4 : 4

Objective Question

1477 1477 4.0 1.00

ਜਨਰੇਟਰ ਨਾਲ LCR ਲੜੀ ਦੇ ਸਰਕਟ ਵਿਚ ਅਨੁਨਾਦੀ ਆਵ੍ਰਿਤੀ ਨੂੰ ਘਟਾਉਣ ਲਈ :

(1) ਜਨਰੇਟਰ ਦੀ ਆਵਰਤੀ ਨੂੰ ਘਟਾਇਆ ਜਾਣਾ ਚਾਹੀਦਾ ਹੈ ।

(2) ਪਹਿਲੇ ਕੈਪੀਸਟਰ ਦੇ ਸਮਾਂਤਰ ਇਕ ਹੋਰ ਕੈਪੀਸਟਰ ਜੋੜ ਦੇਣਾ ਚਾਹੀਦਾ ਹੈ ।

(3) ਪ੍ਰੇਰਕ ਦਾ ਆਇਰਨ ਕੋਰ ਹਟਾਉਣਾ ਚਾਹੀਦਾ ਹੈ ।

(4) ਕੈਪੀਸਟਰ ਵਿਚੋਂ ਡਾਇਲੈਕਟ੍ਰਿਕ ਹਟਾ ਦੇਣੀ ਚਾਹੀਦੀ ਹੈ ।

A1 : 1

A2 : 2

A3 : 3

A4 : 4

Objective Question

1478 1478 4.0 1.00

ਦਿੱਤੇ ਗਏ ਸਰਕਟ ਦਾ ਕੁੱਲ ਪ੍ਰਤੀਘਾਤ ਹੈ :

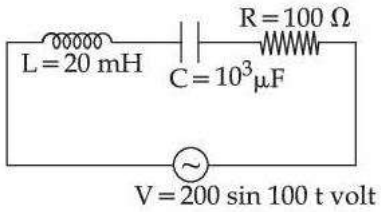

(1) 10 Ω
(2) 12 Ω
(3) 8 Ω
(4) 100 Ω

A1 : 1

A2 : 2

A3 : 3

A4 : 4

Objective Question

1479 1479 4.0 1.00

ਚਾਰ ਵੱਖ-ਵੱਖ ਪ੍ਰੇਰਕ P, Q, R ਅਤੇ S ਲਈ ਚੁੰਬਕੀ ਫਲਕਸ (ϕ) ਅਤੇ ਵਰਸਸ ਕਰੰਟ (I) ਦਾ ਆਲੇਖ ਹੇਠਾਂ ਦਿਖਾਇਆ ਗਿਆ ਹੈ। ਕਿਸ ਪ੍ਰੇਰਕ ਲਈ ਸਵੈ-ਪ੍ਰੇਰਕਤਾ ਦਾ ਮਾਨ ਸਭ ਤੋਂ ਵੱਡਾ ਹੈ :

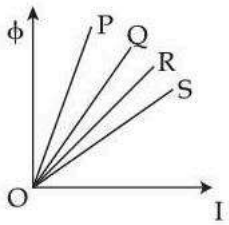

(1) P
(2) S
(3) Q
(4) R

A1 : 1

A2 : 2

A3 : 3

A4 : 4

Objective Question

1480 1480 4.0 1.00

ਇਕ ਬਣਿਆ ਪ੍ਰਤੀਬਿੰਬ 3 ਗੁਣਾ ਜ਼ਿਆਦਾ ਵੱਡਾ, ਵਾਸਤਵਿਕ ਅਤੇ ਉਲਟਾ ਪਾਇਆ ਗਿਆ । ਜੇਕਰ ਵਸਤੂ ਨੂੰ ਸ਼ੀਸ਼ੇ ਦੇ ਸਾਹਮਣੇ 10 cm ਦੀ ਦੂਰੀ 'ਤੇ ਰੱਖਿਆ ਗਿਆ ਤਾਂ, ਵਰਤੇ ਗਏ ਸ਼ੀਸ਼ੇ ਦੀ ਵਕਰਤਾ ਦਾ ਅਰਥ ਵਿਆਸ ਹੈ :

(1) 15 cm
(2) 7.5 cm
(3) −25 cm
(4) 10 cm

A1 : 1

A2 : 2

A3 : 3

A4 : 4

Objective Question

1481 1481 4.0 1.00

ਇਕੱਲੀ ਝਿਰੀ ਪ੍ਰਯੋਗ ਵਿਚ, ਕੋਣ ਜਿਹਨਾਂ ਵਿਚ ਸੈਕੰਡਰੀ ਉੱਚਤਮ ਪਾਏ ਜਾਂਦੇ ਉਹ ਹਨ :

(1) $\theta_n = n\lambda$ ਜਿਥੇ $n = 1, 2, 3 \ldots$
(2) $\theta_n = n\lambda/a$ ਜਿਥੇ $n = \pm 1, \pm 2, \pm 3 \ldots$
(3) $\theta_n = \left(n + \frac{1}{2}\right)\lambda$ ਜਿਥੇ $n = \pm 1, \pm 2, \pm 3 \ldots$
(4) $\theta_n = \left(\frac{2n+1}{2}\right)\frac{\lambda}{a}$ ਜਿਥੇ $n = \pm 1, \pm 2, \pm 3 \ldots$

(ਚਿੰਨ੍ਹਾਂ ਦੇ ਆਪਣੇ ਰਵਾਇਤੀ ਅਰਥ ਹਨ)

A1 : 1

A2 : 2

A3 : 3

A4 : 4

Objective Question

1482 1482 4.0 1.00

ਤਿੰਨ ਲੈਂਜ਼ਾਂ ਨੂੰ ਇਕੱਠੇ ਸੰਯੋਜਿਤ ਕਰਕੇ ਇਕ ਲੈਂਜ਼ ਬਣਾਇਆ ਗਿਆ । ਵਰਤੇ ਗਏ ਲੈਂਜ਼ਾਂ ਦੀ ਫੋਕਸ ਦੂਰੀ ਕ੍ਰਮਵਾਰ 10 cm, −15 cm ਅਤੇ 30 cm ਹੈ । ਸੰਯੁਕਤ ਲੈਂਜ਼ਾਂ ਦੀ ਲਗਭਗ ਸਮਰੱਥਾ ਹੈ :

(1) −6.67 D
(2) +6.67 D
(3) −1.33 D
(4) +1.33 D

A1 : 1

A2 : 2

A3 : 3

A4 : 4

Objective Question

1483 1483 4.0 1.00

ਸੂਚੀ-I ਦਾ **ਸੂਚੀ-II** ਨਾਲ ਮਿਲਾਨ ਕਰੋ ।

ਸੂਚੀ-I	**ਸੂਚੀ-II**
(A) ਲੈਂਜ਼ ਮੇਕਰ ਫਾਰਮੂਲਾ	(I) $\frac{1}{f} = \frac{1}{v} + \frac{1}{u}$
(B) ਲੈਂਜ਼ ਫਾਰਮੂਲਾ	(II) $\frac{1}{f} = \frac{n_2 - n_1}{n_1}\left(\frac{1}{R_1} - \frac{1}{R_2}\right)$
(C) ਦਰਪਣ ਸਮੀਕਰਣ	(III) $\frac{n_2}{v} - \frac{n_1}{u} = \frac{n_2 - n_1}{R}$
(D) ਕਿਸੇ ਗੋਲਾਕਾਰ ਸਤਹ ਰਾਹੀਂ ਅਪਵਰਤਨ	(IV) $\frac{1}{f} = \frac{1}{v} - \frac{1}{u}$

ਹੇਠ ਲਿਖਿਆਂ ਵਿਕਲਪਾਂ ਵਿੱਚ **ਸਹੀ ਉੱਤਰ** ਦੀ ਚੋਣ ਕਰੋ :

(1) (A)-(III), (B)-(IV), (C)-(I), (D)-(II)
(2) (A)-(II), (B)-(IV), (C)-(I), (D)-(III)
(3) (A)-(III), (B)-(IV), (C)-(II), (D)-(I)
(4) (A)-(II), (B)-(III), (C)-(IV), (D)-(I)

A1 : 1

A2 : 2

A3 : 3

A4 : 4

Objective Question

1484 1484 4.0 1.00

400 m/s ਗਤੀ ਨਾਲ ਚਲਣ ਵਾਲੀ 6.62×10^{-9} g ਦੀ ਗੇਂਦ ਨਾਲ ਸਬੰਧਤ ਡੀ-ਬਰੋਗਲੀ ਦੀ ਤਰੰਗ ਲੰਬਾਈ ਹੈ – ($h = 6.62 \times 10^{-34}$ Js)

(1) 2.5×10^{-15} Å
(2) 2.5×10^{-25} Å
(3) 2.5×10^{-16} Å
(4) 5.0×10^{-14} Å

A1 : 1

A2 : 2

A3 : 3

A4 : 4

Objective Question

1485 1485 4.0 1.00

ਇਲੈਕਟ੍ਰਾਨ, ਪ੍ਰੋਟਾਨ ਅਤੇ ਨਿਊਟ੍ਰਾਨ ਤਿੰਨਾਂ ਦਾ ਖਲਾਅ ਸਮਾਨ ਵੇਗ। ਅਧਿਕਤਮ ਡੀ-ਬਰੋਗਲੀ ਤਰੰਗ ਲੰਬਾਈ ਕਿਸਦੀ ਹੋਵੇਗੀ :

(1) ਇਲੈਕਟ੍ਰਾਨ ਲਈ

(2) ਪ੍ਰੋਟਾਨ ਲਈ

(3) ਨਿਊਟ੍ਰਾਨ ਲਈ

(4) ਸਾਰਿਆਂ ਦੀ ਤਰੰਗ ਲੰਬਾਈ ਸਮਾਨ ਹੋਵੇਗੀ

A1 : 1

A2 : 2

A3 : 3

A4 : 4

Objective Question

1486 1486 4.0 1.00

ਸੂਚੀ-I ਦਾ **ਸੂਚੀ-II** ਨਾਲ ਮਿਲਾਨ ਕਰੋ।

ਸੂਚੀ-I	**ਸੂਚੀ-II**
(A) ਪ੍ਰਕਾਸ਼ ਦੀ ਆਵਰਤੀ	(I) ਤਤਕਾਲਿਕ ਪ੍ਰਕਿਰਿਆ
(B) ਪ੍ਰਕਾਸ਼ ਦੀ ਫਰਿਕੁਐਂਸੀ (ਗਤੀ) ਊਰਜਾ	(II) ਪ੍ਰਕਾਸ਼ ਦੀ ਆਵਰਤੀ ਤੇ ਨਿਰਭਰ ਕਰਦਾ ਹੈ
(C) ਪ੍ਰਕਾਸ਼ਿਕ ਇਲੈਕਟ੍ਰਾਨਾਂ ਦੀ ਉੱਚਤਮ ਗਤਿਜ ਊਰਜਾ	(III) ਪ੍ਰਤੀ ਸੈਕਿੰਡ ਫੋਟੱਨ ਦੀ ਸੰਖਿਆ
(D) ਪ੍ਰਕਾਸ਼ ਬਿਜਲੀ ਉਤਸਰਜਨ	(IV) ਫੋਟਾਨ ਦੀ ਊਰਜਾ

ਹੇਠ ਲਿਖਿਆਂ ਵਿਕਲਪਾਂ ਵਿੱਚ **ਸਹੀ ਉੱਤਰ** ਦੀ ਚੋਣ ਕਰੋ :

(1) (A)-(I), (B)-(II), (C)-(III), (D)-(IV)

(2) (A)-(III), (B)-(IV), (C)-(II), (D)-(I)

(3) (A)-(II), (B)-(III), (C)-(I), (D)-(IV)

(4) (A)-(IV), (B)-(I), (C)-(III), (D)-(II)

A1 : 1

A2 : 2

A3 : 3

A4 : 4

Objective Question

1487 1487 4.0 1.00

ਹਾਈਡ੍ਰੋਜਨ ਸਪੈਕਟ੍ਰਮ ਵਿਚ ਲਾਇਮਰ ਲੜੀ ਦੇ ਪਹਿਲੇ ਅਤੇ ਦੂਜੇ ਮੈਂਬਰ ਨਾਲ ਜੁੜੀ ਤਰੰਗ ਲੰਬਾਈ ਦਾ ਅੰਤਰ ਹੈ :

(1) 171 Å

(2) 190 Å

(3) 54 Å

(4) 244 Å

A1 : 1

A2 : 2

A3 : 3

A4 : 4

Objective Question

1488 1488 4.0 1.00

ਇਲੈਕਟ੍ਰਾਨ ਕੁੱਦ ਕੇ ਉਪਰਲੀ ਊਰਜਾ ਸਤਰ (n_i) ਤੋਂ ਹੇਠਲੀ ਊਰਜਾ ਸਤਰ (n_f) ਵਿਚ ਆਉਂਦੇ ਹਨ। ਇਹਨਾਂ ਵਿਚੋਂ ਕਿਹੜੀ ਟ੍ਰੈਂਜ਼ਿਸ਼ਨ ਲਈ, ਉਤਸਰਜਿਕ ਫੋਟਾਨ ਦੀ ਤਰੰਗ ਲੰਬਾਈ ਨਿਊਨਤਮ ਹੈ :

(1) $n_f = 2, \quad n_i = 7$
(2) $n_f = 1, \quad n_i = 2$
(3) $n_f = 3, \quad n_i = 7$
(4) $n_f = 4, \quad n_i = 5$

A1 : 1

A2 : 2

A3 : 3

A4 : 4

Objective Question

1489 1489 4.0 1.00

ਇਕ ਰੇਡੀਓਐਕਟਿਵ ਸਮਸਥਾਨਕ ਦਾ ਪੁੰਜ 100 g ਹੈ ਅਤੇ ਅਰਧ ਆਯੂ 8 ਦਿਨ ਹੈ। 12.5 g ਤੱਕ ਘਟਣ ਲਈ ਇਸ ਨੂੰ ਕਿੰਨੇ ਦਿਨ ਲੱਗਣਗੇ :

(1) 48 ਦਿਨ
(2) 24 ਦਿਨ
(3) 16 ਦਿਨ
(4) 8 ਦਿਨ

A1 : 1

A2 : 2

A3 : 3

A4 : 4

Objective Question

1490 1490 4.0 1.00

ਸੂਚੀ-I ਦਾ **ਸੂਚੀ-II** ਨਾਲ ਮਿਲਾਨ ਕਰੋ ।

ਸੂਚੀ-I		ਸੂਚੀ-II	
(A)	NOR ਗੇਟ	(I)	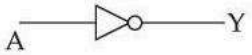
(B)	AND ਗੇਟ	(II)	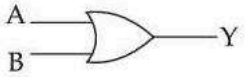
(C)	NOT ਗੇਟ	(III)	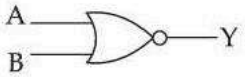
(D)	OR ਗੇਟ	(IV)	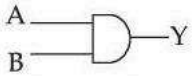

ਹੇਠ ਲਿਖਿਆਂ ਵਿਕਲਪਾਂ ਵਿੱਚ **ਸਹੀ ਉੱਤਰ** ਦੀ ਚੋਣ ਕਰੋ :

(1) (A)-(I), (B)-(II), (C)-(III), (D)-(IV)
(2) (A)-(II), (B)-(III), (C)-(IV), (D)-(I)
(3) (A)-(IV), (B)-(I), (C)-(II), (D)-(III)
(4) (A)-(III), (B)-(IV), (C)-(I), (D)-(II)

A1 : 1

A2 : 2

A3 : 3

A4 : 4

Objective Question

1491 1491 4.0 1.00

ਬਿੰਦੂ P ਅਤੇ Q ਵਿਚਕਾਰ ਇਕ 200 V a.c. ਸਪਲਾਈ ਨੂੰ ਜੋੜਿਆ ਗਿਆ । ਕੈਪੀਸਟਰ ਦੇ ਪਾਰ ਪੁਟੈਂਸ਼ਲ ਅੰਤਰ ਹੈ :

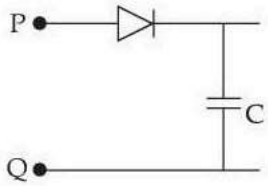

(1) 200 V
(2) $200\sqrt{2}$ V
(3) 100 V
(4) 220 V

A1 : 1

A2 : 2

A3 : 3

A4 : 4

Objective Question

1492 1492 4.0 1.00

ਸੰਚਾਰ ਦੀ ਸੀਮਾ ਨੂੰ ਵਧਾਉਣ ਲਈ ਵਰਤੇ ਜਾਣ ਵਾਲਾ ਉਪਕਰਣ ਕਹਾਉਂਦਾ ਹੈ :

(1) ਟਰਾਂਸਮੀਟਰ

(2) ਰਿਸੀਵਰ

(3) ਰੀਪੀਟਰ

(4) ਟਰਾਂਸਡਿਊਸਰ

A1 : 1

A2 : 2

A3 : 3

A4 : 4

Objective Question

1493 1493 4.0 1.00

ਉਹ ਆਗੂ ਜੋ ਉੱਤਰੀ ਪੱਛਮਾ ਸਰਹੱਦੀ ਸੂਬੇ ਦਾ ਨਿਰਵਿਵਾਦ ਆਗੂ ਸੀ ਅਤੇ ਸਰਹੱਦੀ ਗਾਂਧੀ ਵਜੋਂ ਜਾਣਿਆ ਜਾਂਦਾ ਸੀ ?

(1) ਲਾਲਾ ਲਾਜਪਤ ਰਾਏ

(2) ਖਾਨ ਅਬਦੁਲ ਗਫ਼ਾਰ ਖਾਨ

(3) ਮਦਨ ਮੋਹਨ ਮਾਲਵੀਆ

(4) ਮੌਲਾਨਾ ਅਬਦੁਲ ਕਲਾਮ ਆਜ਼ਾਦ

A1 : 1

A2 : 2

A3 : 3

A4 : 4

Objective Question

1494 1494 4.0 1.00

ਆਂਧਰਾ ਰਾਜ ਨੂੰ ਅਲੱਗ ਕਰਨ ਲਈ ਚਲਾਏ ਗਏ ਅੰਦੋਲਨ ਦਾ ਕੀ ਨਾਂ ਸੀ ?

(1) ਦ੍ਰਾਵਿੜਨ

(2) ਵਿਸ਼ਾਲ ਆਂਧਰਾ

(3) ਚਿਪਕੋ

(4) ਤੇਭਾਗਾ

A1 : 1

A2 : 2

A3 : 3

A4 : 4

Objective Question

1495 1495 4.0 1.00

ਹੇਠ ਦਿੱਤੇ ਵਿਕਲਪਾਂ ਵਿਚ ਕਿਹੜਾ ਵਿਅਕਤੀ ਆਜ਼ਾਦ ਭਾਰਤ ਦਾ ਪਹਿਲਾ ਸਿੱਖਿਆ ਮੰਤਰੀ ਬਣਿਆ ?

(1) ਰਫ਼ੀ ਅਹਿਮਦ ਕਿਦਵਈ

(2) ਮੌਲਾਨਾ ਅਬਦੁਲ ਕਲਾਮ ਆਜ਼ਾਦ

(3) ਬੀ.ਆਰ. ਅੰਬੇਦਕਰ

(4) ਰਾਜਕੁਮਾਰੀ ਅੰਮ੍ਰਿਤ ਕੌਰ

A1 : 1

A2 : 2

A3 : 3

A4 : 4

Objective Question

1496 1496 4.0 1.00

ਹੇਠ ਲਿਖੇ ਵਿਚੋਂ ਕੌਣ ਭਾਰਤ ਰਤਨ ਪੁਰਸਕਾਰ ਦਾ ਪਹਿਲਾ ਪ੍ਰਾਪਤਕਰਤਾ ਸੀ ?

(1) ਸਰਦਾਰ ਪਟੇਲ

(2) ਸੀ. ਰਾਜਗੋਪਾਲਾਚਾਰੀ

(3) ਬੀ.ਆਰ. ਅੰਬੇਦਕਰ

(4) ਜਵਾਹਰ ਲਾਲ ਨਹਿਰੂ

A1 : 1

A2 : 2

A3 : 3

A4 : 4

Objective Question

1497 1497 4.0 1.00

ਭਾਰਤ ਸਰਕਾਰ ਵੱਲੋਂ ਯੋਜਨਾ ਕਮਿਸ਼ਨ ਦੀ ਥਾਂ ਕਿਸ ਨਵੀਂ ਸੰਸਥਾ ਨੂੰ ਬਣਾਇਆ ?

(1) ਨੈਸ਼ਨਲ ਇਨਕਰੀਮੈਂਟਲ ਟਰਾਂਜ਼ਿਟ ਇੰਡੀਆ

(2) ਨੈਸ਼ਨਲ ਇੰਡੀਅਨ ਟਰਾਂਸਪੋਰਟੇਸ਼ਨ ਇੰਸਟੀਚਿਊਟ

(3) ਨੈਸ਼ਨਲ ਇੰਸਟੀਚਿਊਟ ਫਾਰ ਟਰਾਂਸਫਾਰਮਿੰਗ ਇੰਡੀਆ

(4) ਨੈਸ਼ਨਲ ਇੰਸਟੀਚਿਊਟ ਫਾਰ ਤਕਨਾਲੋਜੀ ਇੰਡੀਆ

A1 : 1

A2 : 2

A3 : 3

A4 : 4

Objective Question

1498 1498 4.0 1.00

ਭਾਰਤੀ ਸੰਵਿਧਾਨ ਦਾ ਅਨੁਛੇਦ 51 ਵਿੱਚ ਅੰਤਰਰਾਸ਼ਟਰੀ ਸ਼ਾਂਤੀ ਤੇ ਸੁਰੱਖਿਆ ਨੂੰ ਉਤਸ਼ਾਹਿਤ ਕਰਨ ਲਈ ਰਾਜ ਨੀਤੀ ਦੇ ਕੁਝ ਨਿਰਦੇਸ਼ਕ ਸਿਧਾਂਤਾਂ ਦੇ ਹਵਾਲੇ ਨਾਲ ਕਿਹਾ ਗਿਆ ਹੈ ਕਿ ਰਾਜ :

(A) ਅੰਤਰ ਰਾਸ਼ਟਰੀ ਵਪਾਰ ਅਤੇ ਵਿੱਤ ਨੂੰ ਉਤਸ਼ਾਹਿਤ ਕਰੇਗਾ

(B) ਦੇਸ਼ਾਂ ਵਿਚਕਾਰ ਨਿਆਂਪੂਰਨ ਅਤੇ ਸਤਿਕਾਰਯੋਗ ਸਬੰਧ ਬਣਾਉਣਾ

(C) ਇਕ ਦੂਜੇ ਨਾਲ ਸੰਗਠਿਤ ਲੋਕਾਂ ਦੇ ਲੈਣ-ਦੇਣ ਵਿਚ ਰਾਸ਼ਟਰੀ ਕਾਨੂੰਨ ਅਤੇ ਸੰਧੀ ਦੀਆਂ ਜ਼ਿੰਮੇਵਾਰੀਆਂ ਲਈ ਸਤਿਕਾਰ ਨੂੰ ਵਧਾਉਣਾ

(D) ਸਾਲਸੀ ਦੁਆਰਾ ਅੰਤਰਰਾਸ਼ਟਰੀ ਵਿਵਾਦਾਂ ਦੇ ਨਿਪਟਾਰੇ ਨੂੰ ਉਤਸ਼ਾਹਿਤ ਕਰਨਾ

ਹੇਠ ਲਿਖਿਆਂ ਵਿਕਲਪਾਂ ਵਿੱਚ **ਸਹੀ ਉੱਤਰ** ਦੀ ਚੋਣ ਕਰੋ :

(1) (B), (C), (D)
(2) (A), (B), (C)
(3) (B), (C), (A)
(4) (A), (B), (D)

A1 : 1

A2 : 2

A3 : 3

A4 : 4

Objective Question

1499 1499 4.0 1.00

1951-1956 ਤੱਕ ਕੇਂਦਰੀ ਮੰਤਰੀ ਮੰਡਲ ਦੇ ਮੰਤਰੀ ਦਾ ਨਾਮ ਦੱਸੋ ਜਿਸ ਨੇ ਰੇਲ ਹਾਦਸੇ ਦੀ ਜ਼ਿੰਮੇਵਾਰੀ ਲੈਂਦਿਆਂ ਅਸਤੀਫ਼ਾ ਦੇ ਦਿੱਤਾ ਸੀ ?

(1) ਸਰਦਾਰ ਪਟੇਸ
(2) ਕੇ. ਕਾਮਰਾਜ
(3) ਲਾਲ ਬਹਾਦਰ ਸ਼ਾਸ਼ਤਰੀ
(4) ਰਾਮ- ਮਨੋਹਰ ਲੋਹੀਆ

A1 : 1

A2 : 2

A3 : 3

A4 : 4

Objective Question

1500 1500 4.0 1.00

ਕਿਸ ਨੇ ਪ੍ਰਸਤਾਵ ਦਿੱਤਾ ਸੀ ਕਿ ਪਾਰਟੀ ਦੇ ਨੌਜਵਾਨ ਵਰਕਰਾਂ ਦਾ ਰਾਹ ਬਣਾਉਣ ਲਈ ਸਾਰੇ ਸੀਨੀਅਰ ਕਾਂਗਰਸੀਆਂ ਨੂੰ ਅਸਤੀਫ਼ਾ ਦੇਣਾ ਚਾਹੀਦਾ ਹੈ ?

(1) ਕਾਰਪੂਰੀ ਠਾਕੁਰ
(2) ਐੱਸ. ਨਿਜਾਲਿੰਗਅੱਪਾ
(3) ਵੀ.ਵੀ. ਗਿਰੀ
(4) ਕੇ. ਕਾਮਰਾਜ

A1 : 1

A2 : 2

A3 : 3

A4 : 4

Objective Question

1501 1501 4.0 1.00

ਸ਼ਾਹ ਕਮਿਸ਼ਨ ਪੜਤਾਲ ਦੇ ਮੁਖੀ :

(1) ਜੱਜ – ਪੀ.ਸੀ. ਸ਼ਾਹ

(2) ਜੱਜ –ਆਰ.ਸੀ. ਸ਼ਾਹ

(3) ਜੱਜ –ਜੇ.ਸੀ. ਸ਼ਾਹ

(4) ਜੱਜ –ਟੀ.ਸੀ. ਸ਼ਾਹ

A1 : 1

A2 : 2

A3 : 3

A4 : 4

Objective Question

1502 1502 4.0 1.00

ਕਿਹੜੇ ਸੰਨ ਵਿਚ ਗੋਆ ਭਾਰਤੀ ਸੰਘ ਦਾ ਰਾਜ ਬਣਿਆ ?

(1) 1985

(2) 1986

(3) 1987

(4) 1988

A1 : 1

A2 : 2

A3 : 3

A4 : 4

Objective Question

1503 1503 4.0 1.00

1947 ਤੋਂ ਪਹਿਲਾਂ ਕਿਹੜਾ ਹਿੰਦੂ ਸ਼ਾਸਕ ਕਸ਼ਮੀਰ ਨੂੰ ਭਾਰਤ ਨਾਲ ਰਲੇਵਾਂ ਨਹੀਂ ਕਰਨਾ ਚਾਹੁੰਦਾ ਸੀ ਤੇ ਆਪਣਾ ਸੁਤੰਤਰ ਰਾਜ ਬਣਾਉਣਾ ਚਾਹੁੰਦਾ ਸੀ ?

(1) ਹਰੀ ਸਿੰਘ

(2) ਸ਼ੇਰ ਸਿੰਘ

(3) ਸ਼ਮਸ਼ੇਰ ਸਿੰਘ

(4) ਹਰਿੰਦਰ ਸਿੰਘ

A1 : 1

A2 : 2

A3 : 3

A4 : 4

Objective Question

1504 1504 4.0 1.00

ਸੋਵੀਅਤ ਯੂਨੀਅਨ ਦੇ ਨੇਤਾ ਦਾ ਨਾਮ ਜਿਸ ਨੇ ਏਸ਼ਿਆਈ ਸਮੂਹਿਕ ਸੁਰੱਖਿਆ ਪ੍ਰਣਾਲੀ ਦਾ ਪ੍ਰਸਤਾਵ ਦਿੱਤਾ ਸੀ ?

(1) ਨਿਕੀਤਾ ਖਰੁਸ਼ਚੇਵ

(2) ਬੋਰਿਸ ਯੇਲਤਸਿਨ

(3) ਲਿਓਨਿਡ ਬ੍ਰੇਜ਼ਨੇਵ

(4) ਮਿਖਾਇਲ ਗਰਬਾਚੇਵ

A1 : 1

A2 : 2

A3 : 3

A4 : 4

Objective Question

1505 1505 4.0 1.00

ਹੇਠਾਂ ਦੋ ਕਥਨ ਦਿਤੇ ਗਏ ਹਨ :

ਕਥਨ (I) : ਜਲਵਾਯੂ ਪਰਿਵਰਤਨ ਨਾਲ ਸੰਬੰਧਿਤ ਸੰਯੁਕਤ ਰਾਸ਼ਟਰ ਸੰਘ ਦੇ ਫਰੇਮਵਰਕ ਕੰਨਵੈਨਸ਼ਨ (UNFCCC) 1992 ਵਿੱਚ ਵੀ ਕਿਹਾ ਗਿਆ ਹੈ ਕਿ ਇਸ ਸੰਧੀ ਨੂੰ ਸਵੀਕਾਰ ਕਰਨ ਵਾਲੇ ਦੇਸ਼ ਆਪਣੀ ਯੋਗਤਾ ਅਨੁਸਾਰ ਵਾਤਾਵਰਣ ਸੰਬੰਧੀ ਆਪਣੀ ਹਿੱਸੇਦਾਰੀ ਦੇ ਅਧਾਰ ਤੇ ਸਾਂਝੀ ਪਰੰਤੂ ਅਲੱਗ-ਅਲੱਗ ਜਿੰਮੇਦਾਰੀਆਂ ਨੂੰ ਨਿਭਾਉਂਦੇ ਹੋਏ ਜਲਵਾਯੂ ਦੀ ਸੁਰੱਖਿਆ ਲਈ ਯਤਨ ਕਰਨਗੇ ।

ਕਥਨ (II) : ਇਸ ਕਨਵੈਨਸ਼ਨ ਵਿਚ ਇਹ ਵੀ ਸਵੀਕਾਰ ਕੀਤਾ ਗਿਆ ਕਿ ਪ੍ਰਤੀ ਵਿਅਕਤੀ ਨਿਕਾਸ ਹਜੇ ਵੀ ਵਿਕਾਸਸ਼ੀਲ ਦੇਸ਼ਾਂ ਵਿਚ ਘੱਟ ਹੈ । ਚੀਨ, ਭਾਰਤ ਅਤ ਵਿਕਾਸਸ਼ੀਲ ਦੇਸ਼ਾਂ ਨੂੰ ਕਿਓਟੋ ਪ੍ਰੋਟੋਕੋਲ ਦੀਆਂ ਜ਼ਰੂਰਤਾਂ ਤੋਂ ਛੋਟ ਦਿੱਤੀ ਗਈ ਹੈ ।

ਉਪਰੋਕਤ ਕਥਨਾਂ ਦੀ ਰੋਸ਼ਨੀ ਵਿਚ, ਸਭ ਤੋਂ **ਢੁੱਕਵੇਂ ਉੱਤਰ** ਦੀ ਚੋਣ ਕਰੋ :

(1) **ਕਥਨ I** ਅਤੇ **ਕਥਨ II** ਦੋਵੇਂ ਹੀ ਸਹੀ ਹਨ ।

(2) **ਕਥਨ I** ਅਤੇ **ਕਥਨ II** ਦੋਵੇਂ ਹੀ ਗਲਤ ਹਨ ।

(3) **ਕਥਨ I** ਸਹੀ ਹੈ ਪਰ **ਕਥਨ II** ਗਲਤ ਹੈ ।

(4) **ਕਥਨ I** ਗਲਤ ਹੈ ਪਰ **ਕਥਨ II** ਸਹੀ ਹੈ ।

A1 : 1

A2 : 2

A3 : 3

A4 : 4

Objective Question

1506 | 1506 | 4.0 | 1.00

ਕਿਹੜੇ ਦੇਸ਼ਾਂ ਨੇ ਅੰਟਾਰਕਟਿਕ ਖੇਤਰ ਤੇ ਪ੍ਰਭੁਸੱਤਾ ਦੇ ਅਧਿਕਾਰ ਲਈ ਕਾਨੂੰਨੀ ਦਾਅਵੇ ਕੀਤੇ ਗਏ ਹਨ ?

(1) ਅਮਰੀਕਾ, ਭਾਰਤ. ਬ੍ਰਾਜ਼ੀਲ, ਜਰਮਨੀ

(2) ਅਮਰੀਕਾ, ਚੀਨ, ਜਾਪਾਨ, ਦੱਖਣੀ ਅਫ਼ਰੀਕਾ

(3) ਪਾਕਿਸਤਾਨ, ਸ੍ਰੀਲੰਕਾ, ਜਾਪਾਨ, ਚੀਨ

(4) ਯੂ.ਕੇ. ਅਰਜਨਟੀਨਾ, ਚਿੱਲੀ, ਨਾਰਵੇ

A1 : 1

A2 : 2

A3 : 3

A4 : 4

Objective Question

1507 | 1507 | 4.0 | 1.00

ਸੂਚੀ-I ਦਾ **ਸੂਚੀ-II** ਨਾਲ ਮਿਲਾਨ ਕਰੋ ।

	ਸੂਚੀ-I		**ਸੂਚੀ-II**
(A)	ਕੇ.ਐਨ. ਰਾਜ	(I)	ਹਰੀ ਕ੍ਰਾਂਤੀ
(B)	ਜੇ.ਸੀ. ਕੁਮਾਰਅੱਪਾ	(II)	ਸਥਾਈਤਾ ਦੀ ਆਰਥਿਕਤਾ
(C)	ਸਤਿਆਜੀਤ ਰੇਅ	(III)	ਹੌਲੀ-ਹੌਲੀ
(D)	ਐਮ.ਐਸ ਸੁਆਮੀਨਾਥਨ	(IV)	ਪਾਥਰ ਪੰਚਾਲੀ

ਹੇਠ ਲਿਖਿਆਂ ਵਿਕਲਪਾਂ ਵਿੱਚ **ਸਹੀ ਉੱਤਰ** ਦੀ ਚੋਣ ਕਰੋ :

(1) (A)-(I), (B)-(II), (C)-(III), (D)-(IV)

(2) (A)-(III), (B)-(II), (C)-(IV), (D)-(I)

(3) (A)-(IV), (B)-(III), (C)-(II), (D)-(I)

(4) (A)-(II), (B)-(III), (C)-(IV), (D)-(I)

A1 : 1

A2 : 2

A3 : 3

A4 : 4

Objective Question

1508 | 1508 | 4.0 | 1.00

ਸੂਚੀ-I ਦਾ ਸੂਚੀ-II ਨਾਲ ਮਿਲਾਨ ਕਰੋ ।

ਸੂਚੀ-I ਸੰਸਥਾ		ਸੂਚੀ-II ਦੇਸ਼	
(A)	ਨਾਟੋ ਗਠਜੋੜ	(I)	ਚੀਨ
(B)	ਵਾਰਸੋਅ ਸਮਝੌਤਾ	(II)	ਬੇਲਗ੍ਰੇਡ
(C)	ਨਾਮ (NAM) ਪਹਿਲਾ ਸੰਮੇਲਨ	(III)	ਯੂ.ਐਸ.ਐਸ.ਆਰ. (USSR)
(D)	ਪੰਚਸ਼ੀਲ	(IV)	ਅਮਰੀਕਾ

ਹੇਠ ਲਿਖਿਆਂ ਵਿਕਲਪਾਂ ਵਿੱਚ **ਸਹੀ ਉੱਤਰ** ਦੀ ਚੋਣ ਕਰੋ :

(1) (A)-(I), (B)-(II), (C)-(III), (D)-(IV)
(2) (A)-(III), (B)-(I), (C)-(II), (D)-(IV)
(3) (A)-(II), (B)-(III), (C)-(IV), (D)-(I)
(4) (A)-(IV), (B)-(III), (C)-(II), (D)-(I)

A1 : 1

A2 : 2

A3 : 3

A4 : 4

Objective Question

1509 1509 4.0 1.00

ਬਹੁਜਨ ਸਮਾਜ ਪਾਰਟੀ (BSP) ਦਾ ਸੰਸਥਾਪਕ ਕੌਣ ਸੀ ?

(1) ਮਾਇਆਵਤੀ
(2) ਮੁਲਾਇਮ ਸਿੰਘ ਯਾਦਵ
(3) ਕਾਂਸ਼ੀ ਰਾਮ
(4) ਲਾਲੂ ਪ੍ਰਸਾਦ ਯਾਦਵ

A1 : 1

A2 : 2

A3 : 3

A4 : 4

Objective Question

1510 1510 4.0 1.00

ਸੂਚੀ-I ਦਾ **ਸੂਚੀ-II** ਨਾਲ ਮਿਲਾਨ ਕਰੋ ।

	ਸੂਚੀ-I		**ਸੂਚੀ-II**
(A)	ਮਿਖਾਇਲ ਗੋਰਬਾਚੇਵ	(I)	ਰੂਸ ਦੇ ਰਾਸ਼ਟਰਪਤੀ
(B)	ਬੋਰਿਸ ਯੇਲਸਤਿਨ	(II)	ਸੰਯੁਕਤ ਰਾਸ਼ਟਰ ਵਿਚ ਯੂਐਸਐਸਆਰ ਦਾ ਉਤਰਾਧਿਕਾਰੀ
(C)	ਨਿਕੀਤਾ ਖਰੁਸ਼ਚੇਵ	(III)	ਗਲਾਸਨੋਸਟ ਅਤੇ ਪੈਰੇਸਟ੍ਰੋਇਕਾ ਪੇਸ਼ ਕੀਤਾ
(D)	ਰੂਸ	(IV)	ਪੱਛਮ ਨਾਲ ਸ਼ਾਂਤੀਪੂਰਨ ਸਹਿ ਮੌਜੂਦਗੀ

ਹੇਠ ਲਿਖਿਆਂ ਵਿਕਲਪਾਂ ਵਿੱਚ **ਸਹੀ ਉੱਤਰ** ਦੀ ਚੋਣ ਕਰੋ :

(1) (A)-(II), (B)-(III), (C)-(I), (D)-(IV)
(2) (A)-(III), (B)-(I), (C)-(IV), (D)-(II)
(3) (A)-(I), (B)-(II), (C)-(III), (D)-(IV)
(4) (A)-(IV), (B)-(III), (C)-(II), (D)-(I)

A1 : 1

A2 : 2

A3 : 3

A4 : 4

Objective Question

1511 1511 4.0 1.00

ਹੇਠਾਂ ਦੋ ਕਥਨ ਦਿਤੇ ਗਏ ਹਨ :

ਕਥਨ (I) : 1948 ਵਿਚ ਯੂਰਪੀਅਨ ਆਰਥਿਕ ਸਹਿਯੋਗ ਸੰਗਠਨ ਦੀ ਸਥਾਪਨਾ ਪੱਛਮੀ ਯੂਰਪੀ ਰਾਜਾਂ ਨੂੰ ਸਹਾਇਤਾ ਪ੍ਰਦਾਨ ਕਰਨ ਲਈ ਕੀਤੀ ਗਈ ਸੀ ।

ਕਥਨ (II) : 1949 ਵਿਚ ਯੂਰਪ ਦੀ ਕੌਂਸਲ ਦੀ ਸਥਾਪਨਾ ਇੱਕ ਹੋਰ ਕਦਮ ਯੂਰਪੀ ਰਾਜਾਂ ਦੇ ਰਾਜਨੀਤਿਕ ਸਹਿਯੋਗ ਵਿਚ ਸੀ।

ਉਪਰੋਕਤ ਕਥਨਾਂ ਦੀ ਰੋਸ਼ਨੀ ਵਿਚ, ਸਭ ਤੋਂ **ਢੁੱਕਵੇਂ ਉੱਤਰ** ਦੀ ਚੋਣ ਕਰੋ :

(1) **ਕਥਨ I** ਅਤੇ **ਕਥਨ II** ਦੋਵੇਂ ਹੀ ਸਹੀ ਹਨ ।
(2) **ਕਥਨ I** ਅਤੇ **ਕਥਨ II** ਦੋਵੇਂ ਹੀ ਗਲਤ ਹਨ ।
(3) **ਕਥਨ I** ਸਹੀ ਹੈ ਪਰ **ਕਥਨ II** ਗਲਤ ਹੈ ।
(4) **ਕਥਨ I** ਗਲਤ ਹੈ ਪਰ **ਕਥਨ II** ਸਹੀ ਹੈ ।

A1 : 1

A2 : 2

A3 : 3

A4 : 4

Objective Question

1512 1512 4.0 1.00

ਇਹਨਾਂ ਵਿਚੋਂ ਕਿਹੜੇ ਦੇਸ਼ ਨੇ ਬ੍ਰਿਟਿਸ਼ ਰਾਜ ਦੀ ਆਜ਼ਾਦੀ ਤੋਂ ਬਾਅਦ ਲੋਕਤੰਤਰ ਦੇ ਤੌਰਤੇ ਕੰਮ ਕੀਤਾ ਹੈ ?

(1) ਬੰਗਲਾ ਦੇਸ਼

(2) ਪਾਕਿਸਤਾਨ

(3) ਭਾਰਤ

(4) ਭੂਟਾਨ

A1 : 1

A2 : 2

A3 : 3

A4 : 4

Objective Question

1513	1513	1944 ਵਿਚ ਕਿਹੜਾ ਬੈਂਕ ਵਿਸ਼ਵ ਦੇ ਦੂਸਰੇ ਯੁੱਧ ਦੌਰਾਨ ਬਣਾਇਆ ਗਿਆ ਸੀ ਜੋ ਕਿ ਬ੍ਰੈਟਨ ਵੁੱਡਸ ਸਿਸਟਮ ਦਾ ਹਿੱਸਾ ਵੀ ਹੈ? (1) ਸਕੌਸ਼ੀਆ (Scotia) ਬੈਂਕ (2) ਡੋਏਸ਼ੂ (Deutsche) ਬੈਂਕ (3) ਵਿਸ਼ਵ ਬੈਂਕ (4) ਰਾਇਲ ਬੈਂਕ A1 : 1 A2 : 2 A3 : 3 A4 : 4	4.0	1.00

Objective Question

1514	1514	ਗਲੋਬਲ ਵਾਰਮਿੰਗ, ਅੰਤਰਰਾਸ਼ਟਰੀ ਅੱਤਵਾਦ ਵਰਗੇ ਕੁਦਰਤ ਦੇ ਖਤਰਿਆਂ ਦੇ ਜਵਾਬ ਵਿਚ ਗਲੋਬਲ ਸੁਰੱਖਿਆ ਦਾ ਵਿਚਾਰ ਕਦੋਂ ਉਭਰਿਆ ਸੀ ? (1) 1990 (2) 1890 (3) 1895 (4) 1995 A1 : 1 A2 : 2 A3 : 3 A4 : 4	4.0	1.00

Objective Question

1515	1515		4.0	1.00

ਦੱਖਣੀ ਏਸ਼ੀਆ ਵਿਚ _____ ਕਰਕੇ ਵੱਡੇ ਪੱਧਰ 'ਤੇ ਪਰਵਾਸ ਦਾ ਕਾਰਨ ਆਰਥਿਕ ਮੌਕਿਆਂ ਦੀ ਭਾਲ ਹੈ ।

(1) ਸਿਹਤ ਮਹਾਮਾਰੀ

(2) ਗਰੀਬੀ

(3) ਮਨੁੱਖੀ ਅਧਿਕਾਰਾਂ ਦੀ ਘਾਟ

(4) ਗਲੋਬਲ ਵਾਰਮਿੰਗ

A1 : 1

A2 : 2

A3 : 3

A4 : 4

Objective Question

1516 1516 4.0 1.00

ਸੂਚੀ-I ਦਾ **ਸੂਚੀ-II** ਨਾਲ ਮਿਲਾਨ ਕਰੋ ।

ਸੂਚੀ-I	**ਸੂਚੀ-II**
ਸੰਸਥਾ	**ਹੈੱਡਕੁਆਟਰ ਦਾ ਸ਼ਹਿਰ**
(A) ਸੰਯਾਕਤ ਰਾਸ਼ਟਰ	(I) ਪੈਰਿਸ (Paris)
(B) ਅੰਤਰ ਰਾਸ਼ਟਰੀ ਨਿਆਂ ਦੀ ਅਦਾਲਤ	(II) ਜਨੇਵਾ (Geneva)
(C) ਸੰਯੁਕਤ ਰਾਸ਼ਟਰ ਵਿਦਿਅਕ ਵਿਗਿਆਨਕ ਅਤੇ ਸੱਭਿਆਚਾਰਕ ਸੰਗਠਨ (UNESCO)	(III) ਨਿਊਯਾਰਕ
(D) ਵਿਸ਼ਵ ਸਿਹਤ ਸੰਸਥਾ	(IV) ਹੇਗ

ਹੇਠ ਲਿਖਿਆਂ ਵਿਕਲਪਾਂ ਵਿੱਚ **ਸਹੀ ਉੱਤਰ** ਦੀ ਚੋਣ ਕਰੋ :

(1) (A)-(I), (B)-(II), (C)-(III), (D)-(IV)

(2) (A)-(III), (B)-(IV), (C)-(I), (D)-(II)

(3) (A)-(IV), (B)-(III), (C)-(II), (D)-(I)

(4) (A)-(II), (B)-(IV), (C)-(I), (D)-(III)

A1 : 1

A2 : 2

A3 : 3

A4 : 4

Objective Question

1517 1517 4.0 1.00

_____ ਬੁਨਿਆਦੀ ਤੌਰ 'ਤੇ ਵਿਚਾਰਾਂ, ਵਸਤੂਆਂ ਅਤੇ ਲੋਕਾਂ ਦੇ ਪ੍ਰਵਾਹ ਨਾਲ ਸਬੰਧਿਤ ਹੈ ।

(1) ਕਮਿਊਨਿਜ਼ਮ

(2) ਵਿਸ਼ਵੀਕਰਨ

(3) ਕਲਿਆਣਕਾਰੀ ਰਾਜ

(4) ਬਸਤੀਕਰਨ

A1 : 1

A2 : 2

A3 : 3

A4 : 4

Objective Question

1518 1518 4.0 1.00

ਸੂਚੀ-I ਦਾ **ਸੂਚੀ-II** ਨਾਲ ਮਿਲਾਨ ਕਰੋ ।

	ਸੂਚੀ-I		**ਸੂਚੀ-II**
(A)	ਨਕਸਲੀ ਅੰਦੋਲਨ	(I)	ਮੋਰਾਰਜੀ ਦੇਸਾਈ
(B)	ਖਾਦੀ, ਨੈਚਰੋਪੈਥੀ, ਮਨਾਹੀ ਦਾ ਸਮਰਥਕ	(II)	ਚਾਰੂ ਮਜ਼ੂਮਦਾਰ
(C)	ਵਿਦਿਆਰਥੀ ਪ੍ਰਦਰਸ਼ਨ	(III)	ਬਿਹਾਰ ਅੰਦੋਲਨ
(D)	ਰੇਲਵੇ ਹੜਤਾਲ	(IV)	ਜਾਰਜ ਫਰਨਾਂਡੀਜ਼

ਹੇਠ ਲਿਖਿਆਂ ਵਿਕਲਪਾਂ ਵਿੱਚ **ਸਹੀ ਉੱਤਰ** ਦੀ ਚੋਣ ਕਰੋ :

(1) (A)-(I), (B)-(II), (C)-(III), (D)-(IV)
(2) (A)-(III), (B)-(IV), (C)-(I), (D)-(II)
(3) (A)-(II), (B)-(I), (C)-(III), (D)-(IV)
(4) (A)-(IV), (B)-(III), (C)-(II), (D)-(I)

A1 : 1

A2 : 2

A3 : 3

A4 : 4

Objective Question

1519 1519 4.0 1.00

ਕਿਹੜੀ ਕਮੇਟੀ ਨੇ ਸਿਫਾਰਸ਼ ਕੀਤੀ ਕਿ ਚੋਣ ਕਮਿਸ਼ਨ ਬਹੁ-ਮੈਂਬਰੀ ਸੰਸਥਾ ਹੋਣੀ ਚਾਹੀਦੀ ਹੈ ?

(1) ਸੱਚਰ ਕਮੇਟੀ
(2) ਅਸ਼ੋਕ ਮਹਿਤਾ ਕਮੇਟੀ
(3) ਜੀਵਨ ਰੇਡੀ ਕਮੇਟੀ
(4) ਤਰਕੁੰਡੇ ਕਮੇਟੀ/ਜੇ.ਪੀ. ਕਮੇਟੀ

A1 : 1

A2 : 2

A3 : 3

A4 : 4

Objective Question

1520 1520 4.0 1.00

ਭਾਰਤੀ ਸੰਵਿਧਾਨ ਦੀ ਦਸਵੀਂ ਅਨੁਸੂਚੀ ਵਿਚ ਕੀ ਹੈ ?

(1) ਭਾਰਤ ਦੇ ਸੰਵਿਧਾਨ ਵੱਲੋਂ ਅਧਿਕਾਰੀ ਭਾਸ਼ਾਵਾਂ ਨੂੰ ਮਾਨਤਾ ਪ੍ਰਾਪਤ ਹੋਵੇ ।

(2) ਅਨਸੂਚਿਤ ਖੇਤਰਾਂ ਅਤੇ ਅਨਸੂਚਿਤ ਕਬੀਲਿਆਂ ਦੇ ਪ੍ਰਸ਼ਾਸਨ ਅਤੇ ਨਿਯੰਤਰਣ ਦੇ ਸਬੰਧ ਵਿਚ ਵਿਵਸਥਾ ।

(3) ਉਹ ਪ੍ਰਬੰਧ ਜੋ ਪੰਚਾਇਤ ਦੀਆਂ ਸ਼ਕਤੀਆਂ ਅਤੇ ਜ਼ਿੰਮੇਵਾਰੀਆਂ ਨੂੰ ਦਰਸਾਉਂਦਾ ਹੈ ।

(4) ਦਲ-ਬਦਲੀ ਦੇ ਆਧਾਰ 'ਤੇ ਸੰਸਦ ਅਤੇ ਵਿਧਾਨ ਸਭਾ ਦੇ ਮੈਂਬਰਾਂ ਨੂੰ ਆਯੋਗ ਠਹਿਰਾਉਣ ਨਾਲ ਸਬੰਧਤ ਵਿਵਸਥਾ ।

A1 : 1

A2 : 2

A3 : 3

A4 : 4

Objective Question

1521 1521 4.0 1.00

ਜਦੋਂ ਲੋਕਾਂ ਦੁਆਰਾ ਪਿਛਲੇ ਅਨੁਭਵਾਂ ਨੂੰ ਸਿਰਜਣਾਤਮਕ ਢੰਗ ਨਾਲ ਵਰਤ ਕੇ ਨਵੀਆਂ ਸਮੱਸਿਆਵਾਂ ਨੂੰ ਹੱਲ ਕੀਤਾ ਜਾਂਦਾ ਹੈ, ਤਾਂ ਉਹਨਾਂ ਕੋਲ ਉੱਚ :

(1) ਅੰਗ ਮੂਲਕ ਬੁੱਧੀਮਤਾ ਹੈ ।

(2) ਅਧਿਐਨ ਮੂਲਕ ਬੁੱਧੀਮਤਾ ਹੈ ।

(3) ਅਨੁਭਵ ਮੂਲਕ ਬੁੱਧੀਮਤਾ ਹੈ ।

(4) ਸੰਦਰਭ ਮੂਲਕ ਬੁੱਧੀਮਤਾ ਹੈ ।

A1 : 1

A2 : 2

A3 : 3

A4 : 4

Objective Question

1522 1522 4.0 1.00

ਪੂਰਨ ਬੁੱਧੀਮਤਾ ਅਨੁਸਾਰ ਸਵੈ ਨਿਯੰਤਰਣ, ਸਵੈ ਭਾਵਾਂ ਦਾ ਨਿਰੀਖਣ, ਚੰਗਾ ਵਿਵਹਾਰ ਅਤੇ ਸਵੈ ਮੁਲਾਂਕਣ ਵਰਗੇ ਪੱਖ, ਸਾਰੇ ਇਸ ਦੇ ਭਾਗ ਹਨ :

(1) ਬੌਧਿਕ ਸਮਰੱਥਾ

(2) ਸਮਾਜਕ ਯੋਗਤਾ

(3) ਉੱਦਮੀ ਯੋਗਤਾ

(4) ਭਾਵਨਾਤਮਕ ਯੋਗਤਾ

A1 : 1

A2 : 2

A3 : 3

A4 : 4

Objective Question

1523 1523 4.0 1.00

ਬੁੱਧੀਮਤਾ ਦਾ ਦਰਜਾਬੰਦ ਮਾਡਲ, ਲੈਵਲ I ਸਿੱਖਿਆ ਨਾਲ ਸਬੰਧੰਤ ਹੈ, ਜਿਸ ਦਾ ਭਾਵ ਹੈ :

(1) ਜਦੋਂ ਇਕ ਤਰ੍ਹਾਂ ਦੀਆਂ ਯੋਗਤਾਵਾਂ ਸਾਰੀਆਂ ਸਮੱਸਿਆਵਾਂ ਨੂੰ ਹੱਲ ਕਰਨ ਲਈ ਵਰਤੀਆਂ ਜਾਂਦੀਆਂ ਹਨ।

(2) ਆਊਟਪੁੱਟ, ਇਨਪੁੱਟ ਦੇ ਤਕਰੀਬਨ ਬਰਾਬਰ।

(3) ਉੱਚੇ ਵਿਵਸਥਿਤ ਹੁਨਰਾਂ ਦੀ ਵਰਤੋਂ ਇਨਪੁੱਟ ਨੂੰ ਪ੍ਰਭਾਵਸ਼ਾਲੀ ਆਊਟਪੁੱਟ ਵਿੱਚ ਬਦਲਣ ਲਈ ਕੀਤੀ ਜਾਂਦੀ ਹੈ।

(4) ਜਦੋਂ ਇਨਪੁੱਟ ਆਊਟਪੁੱਟ ਤੋਂ ਬਹੁਤ ਜ਼ਿਆਦਾ ਹੈ।

A1 : 1

A2 : 2

A3 : 3

A4 : 4

Objective Question

1524 1524 4.0 1.00

ਸਥਿਤੀਮੂਲਕ ਪੱਖ ਮਨੁੱਖੀ ਸੁਭਾਅ ਨੂੰ ਦੇਖਦਾ ਹੈ :

(1) ਅੰਦਰੂਨੀ ਕਾਰਕਾਂ ਦੇ ਪ੍ਰਭਾਵਾਂ ਦੇ ਨਤੀਜੇ ਵਜੋਂ ਸਾਪੇਖ ਤੌਰ 'ਤੇ ਘੱਟ

(2) ਲੋਕਾਂ ਦੇ ਮੂਲ ਗੁਣ ਅਤੇ ਸੁਭਾਅ ਵਿੱਚ ਵੱਖਰਾਪਨ ਅਤੇ ਪ੍ਰਵਿਰਤੀ

(3) ਵਿਰਾਸਤ ਵਿਚ ਪ੍ਰਾਪਤ ਵਿਅਕਤੀਗਤ ਲੱਛਣਾਂ ਦੇ ਪ੍ਰਭਾਵ ਵਿਚ

(4) ਬਾਹਰੀ ਕਾਰਕਾਂ ਦੇ ਪ੍ਰਭਾਵ ਦੇ ਨਤੀਜੇ ਵਜੋਂ ਸਾਪੇਖ ਤੌਰ 'ਤੇ ਜ਼ਿਆਦਾ

A1 : 1

A2 : 2

A3 : 3

A4 : 4

Objective Question

1525 1525 4.0 1.00

ਇਕ ਮਨੋਵਿਗਿਆਨਿਕ ਦੁਆਰਾ ਅਜਿਹੇ ਕਬਾਇਲੀ ਸਮੂਹ ਦੇ ਕੁਝ ਵਿਅਕਤੀਆਂ ਦੀ ਬੁੱਧੀਮਤਾ ਦਾ ਜਾਂਚ ਕੀਤੀ ਜਾਂਦੀ ਹੈ, ਜੋ ਕਿ ਕਦੇ ਸਕੂਲ ਨਹੀਂ ਗਏ ਅਤੇ ਭਾਸ਼ਾ ਦੇ ਜਾਣਕਾਰ ਨਹੀਂ ਹਨ। ਕਿਸ ਪ੍ਰਕਾਰ ਦਾ ਬੁੱਧੀਮਤਾ ਟੈਸਟ ਇੱਥੇ ਵਰਤਿਆ ਜਾਵੇਗਾ ?

(A) ਮੌਖਿਕ

(B) ਸਭਿਆਚਾਰਕ-ਪੱਖਪਾਤ

(C) ਵਿਅਕਤੀਗਤ

(D) ਪ੍ਰਦਰਸ਼ਣ

(E) ਸਮੂਹ

ਹੇਠ ਦਿੱਤੇ ਵਿਕਲਪਾਂ ਵਿੱਚੋਂ **ਸਹੀ** ਉੱਤਰ ਦੀ ਚੋਣ ਕਰੋ :

(1) ਸਿਰਫ਼ (C) ਅਤੇ (D)

(2) ਸਿਰਫ਼ (A) ਅਤੇ (B)

(3) ਸਿਰਫ਼ (D) ਅਤੇ (E)

(4) ਸਿਰਫ਼ (A) ਅਤੇ (D)

A1 : 1

A2 : 2

A3 : 3

A4 : 4

Objective Question

1526 1526 4.0 1.00

ਮਨੋਵਿਗਿਆਨੀਆਂ ਦੁਆਰਾ ਅਚੇਤ ਮਨੋਰਥ ਅਤੇ ਭਾਵਾਂ ਦੀ ਜਾਂਚ ਲਈ ਵਰਤੀ ਜਾਂਦੀ ਹੈ :

(1) ਸਵੈ ਰਿਪਰੋਟ ਸੂਚੀ

(2) ਪਰਪੇਖਤ ਤਕਨੀਕ

(3) ਇੰਟਰਵਿਊ ਵਿਧੀ

(4) ਸੁਭਾਅ ਦਾ ਅਧਿਐਨ

A1 : 1

A2 : 2

A3 : 3

A4 : 4

Objective Question

1527 1527 4.0 1.00

ਜਦੋਂ ਵਿਅਕਤੀਆਂ ਦੁਆਰਾ ਚਿੰਤਾ ਨੂੰ ਲੁਕਾਉਣ ਦੇ ਬਦਲੇ ਵਿਚ ਅਜਿਹੇ ਵਰਤਾਰੇ ਚੁਣੇ ਜਾਂਦੇ ਹਨ ਜੋ ਕਿ ਉਹਨਾਂ ਦੀਆਂ ਅਸਲ ਭਾਵਨਾਵਾਂ ਦੇ ਉਲਟ ਹੁੰਦੇ ਹਨ, ਤਾਂ ਉਹ ਵਰਤ ਰਹੇ ਹਨ :

(1) ਪ੍ਰਤੀਕਰਮ ਦਾ ਨਿਰਮਾਣ

(2) ਤਰਕਸੰਗਤੀਕਰਨ

(3) ਖੰਡਨ

(4) ਪਰਪੇਖਣ

A1 : 1

A2 : 2

A3 : 3

A4 : 4

Objective Question

1528 1528 4.0 1.00

'id' ਨੂੰ ਊਰਜਾ ਭਰਪੂਰ ਕਰਨ ਵਾਲੇ ਕੁਦਰਤੀ ਜੀਵਨ ਬਲ ਨੂੰ ਕਿਹਾ ਜਾਂਦਾ ਹੈ :

(1) ਅਹੰਕਾਰ

(2) ਕਾਮਵਾਸਨਾ

(3) ਬਹੁਤ ਅਹੰਕਾਰ

(4) ਥਨਾਟੋਸ

A1 : 1

A2 : 2

A3 : 3

A4 : 4

Objective Question

1529 1529 4.0 1.00

ਸਿੱਖਿਆ ਸਿਧਾਂਤ ਦੀ ਪਛਾਣ ਕਰੋ ਜੋ ਕਿ ਨਵੇਂ ਵਰਤਾਵੇ ਨੂੰ ਸਿੱਖਣ ਲਈ ਪ੍ਰਤੀਰੂਪ ਬਣਾਉਣ ਦੀ ਧਾਰਨਾ ਦੀ ਵਰਤੋਂ ਕਰਦਾ ਹੈ :

(1) ਪੁਰਾਤਨ/ਕਲਾਸੀਕਲ ਅਨੁਕੂਲਨ

(2) ਪ੍ਰਤੀਨਿਧਕ ਸਿੱਖਿਆ

(3) ਨਿਰਖਣ ਸਿੱਖਿਆ

(4) ਯੰਤਰਿਕ ਸਿੱਖਿਆ

A1 : 1

A2 : 2

A3 : 3

A4 : 4

Objective Question

1530 1530 4.0 1.00

ਸੂਚੀ - I ਅਤੇ **ਸੂਚੀ - II** ਦਾ ਮਿਲਾਨ ਕਰੋ :

	ਸੂਚੀ - I		**ਸੂਚੀ - II**
(A)	ਵਿਅਕਤੀਗਤ ਹੋਂਦ	(I)	"ਮੈਂ ਇਮਾਨਦਾਰ ਅਤੇ ਕਰਮਸ਼ੀਲ ਹਾਂ।"
(B)	ਸਮਾਜਕ ਹੋਂਦ	(II)	ਉਦਾਹਰਣ–ਵਿਅਕਤੀਗਤ ਜ਼ਿੰਮੇਵਾਰੀ, ਵਿਅਕਤੀਗਤ ਪ੍ਰਾਪਤੀ
(C)	ਵਿਅਕਤੀਗਤ ਪਛਾਣ	(III)	"ਮੈਂ ਭਾਰਤੀ ਹਾਂ ।"
(D)	ਸਮਾਜਕ ਪਛਾਣ	(IV)	ਉਦਾਹਰਣ–ਏਕਤਾ, ਬਲੀਦਾਨ, ਵੰਡਣਾ, ਆਦਿ ਉੱਤੇ ਜ਼ੋਰ ਦੇਣਾ

ਹੇਠ ਦਿੱਤੇ ਵਿਕਲਪਾਂ ਵਿਚੋਂ **ਸਹੀ** ਉੱਤਰ ਦੀ ਚੋਣ ਕਰੋ :

(1) (A)-(II), (B)-(III), (C)-(I), (D)-(IV)

(2) (A)-(I), (B)-(III), (C)-(II), (D)-(IV)

(3) (A)-(II), (B)-(IV), (C)-(I), (D)-(III)

(4) (A)-(IV), (B)-(III), (C)-(II), (D)-(I)

A1 : 1

A2 : 2

A3 : 3

A4 : 4

Objective Question

1531 1531 4.0 1.00

'ਸਖ਼ਤਤਾ' ਦੇ ਵਿਅਕਤੀਗਤ ਲੱਛਣ ਦੀ ਜੋ ਵਿਸ਼ੇਸ਼ਤਾ ਨਹੀਂ ਹੈ, ਉਸਦੀ ਪਛਾਣ ਕਰੋ :

(1) ਵਚਨ-ਬੱਧਤਾ

(2) ਨਿਯੰਤਰਣ

(3) ਹਿੰਮਤ

(4) ਚੁਣੌਤੀ

A1 : 1

A2 : 2

A3 : 3

A4 : 4

Objective Question

1532 1532 4.0 1.00

ਪੂਰਨਤਾਵਾਦੀ ਇਕ ਅਣਉਪਯੋਗੀ ਆਦਤ ਹੈ ਕਿਉਂਕਿ :

(1) ਕਿਸੇ ਦੁਆਰਾ ਸਮੱਸਿਆ ਨੂੰ ਦਬਾਅ ਦਿੱਤਾ ਜਾਂਦਾ ਹੈ ਅਤੇ ਮੰਨਣ ਤੋਂ ਇਨਕਾਰ ਕੀਤਾ ਜਾਂਦਾ ਹੈ ।

(2) ਕਿਸੇ ਦੁਆਰਾ ਨਾਕਾਮੀ ਜਾਂ ਨਿਕਾਰਨ ਦੇ ਡਰ ਤੋਂ ਸਾਹਮਣੇ ਆਉਣ ਤੋਂ ਕਤਰਾਉਣਾ

(3) ਕਿਸੇ ਦੁਆਰਾ ਚਿੰਤਾ ਹੰਢਾਉਣਾ ਅਤੇ ਆਰਾਮ ਨਾ ਕਰ ਪਾਉਣਾ, ਆਪਣੇ ਅਤੇ ਹੋਰਾਂ ਪ੍ਰਤੀ ਆਲੋਚਨਾਤਮਕ ਹੋਣਾ

(4) ਕਿਸੇ ਦੁਆਰਾ ਚਿੰਤਾ ਘਟਾਉਣ ਲਈ ਸਮੇਂ ਨੂੰ ਨਿਸ਼ਚਿਤ ਅਤੇ ਕੰਮ ਦੀ ਵੰਡ ਨਾ ਕਰ ਸਕਣਾ

A1 : 1

A2 : 2

A3 : 3

A4 : 4

Objective Question

1533 1533 4.0 1.00

ਕਿਸ ਮਨੋਵਿਗਿਆਨੀ ਦਾ ਸੰਬੰਧ ਮਨੁੱਖ-ਵਾਤਾਵਰਣ ਸੰਬੰਧ ਦੀਆਂ 'ਤਿੰਨ ਪਹੁੰਚਾਂ' ਦੇ ਵਰਣਨ ਨਾਲ ਜੁੜਦਾ ਹੈ ?

(1) ਡੋਲਰਡ

(2) ਮਿਲਰ

(3) ਹਾਲ

(4) ਸਟੋਕੋਲਜ਼

A1 : 1

A2 : 2

A3 : 3

A4 : 4

Objective Question

1534 1534 4.0 1.00

ਹੇਠ ਲਿਖਿਆਂ ਨੂੰ ਉਹਨਾਂ ਦੇ ਘਟਿਤ ਹੋਣ ਦੇ ਕਰਮ ਵਿਚ ਵਿਵਸਥਿਤ ਕਰੋ :

(A) ਪ੍ਰਾਥਮਿਕ ਮੁਲਾਂਕਣ ਵਿਚ ਨਵੇਂ ਜਾਂ ਬਦਲਵੇਂ ਵਾਤਾਵਰਣ ਨੂੰ ਸਕਾਰਾਤਮਕ, ਨਿਰਪੱਖ ਜਾਂ ਨਕਾਰਾਤਮਕ ਗ੍ਰਹਿਣ ਕੀਤਾ ਜਾਂਦਾ ਹੈ ।

(B) ਜਦੋਂ ਅਸੀਂ ਕਿਸੇ ਘਟਨਾ ਨੂੰ ਚਿੰਤਾਜਨਕ ਗ੍ਰਹਿਣ ਕਰਦੇ ਹਾਂ, ਉਦੋਂ ਅਸੀਂ ਦੁਜੱਲਾ ਮੁਲਾਂਕਣ ਕਰਦੇ ਹਾਂ ।

(C) ਨਕਾਰਾਤਮਕ ਘਟਨਾਵਾਂ ਦੇ ਮੁਲਾਂਕਣ ਉਹਨਾਂ ਦੇ ਨੁਕਸਾਨ, ਖ਼ਤਰੇ ਜਾਂ ਚੁਣੌਤੀ ਲਈ ਹਨ ।

(D) ਲੇਜ਼ਰਸ ਅਨੁਸਾਰ ਕਿਸੇ ਵਿਅਕਤੀ ਦੁਆਰਾ ਚਿੰਤਾ ਦੇ ਪ੍ਰਤੀਉੱਤਰ ਦਾ ਆਧਾਰ ਉਸਦੀ ਸੋਚ ਜਾਂ ਮੁਲਾਂਕਣ ਹੁੰਦਾ ਹੈ ।

(E) ਇਥੇ ਅਸੀਂ ਕਿਸੇ ਦੇ ਨੁਕਸਾਨ, ਖ਼ਤਰੇ ਜਾਂ ਚੁਣੌਤੀ ਤੋਂ ਉਭਰਨ ਦੀ ਯੋਗਤਾ ਅਤੇ ਸ੍ਰੋਤਾਂ ਨੂੰ ਜਾਂਚਦੇ ਹਾਂ ।

ਹੇਠ ਦਿੱਤੇ ਵਿਕਲਪਾਂ ਵਿਚੋਂ **ਸਹੀ** ਉੱਤਰ ਦੀ ਚੋਣ ਕਰੋ :

(1) (D), (C), (A), (E), (B)
(2) (D), (A), (C), (B), (E)
(3) (C), (B), (E), (D), (A)
(4) (E), (D), (A), (C), (B)

A1 : 1

A2 : 2

A3 : 3

A4 : 4

Objective Question

1535 1535 4.0 1.00

ਕਿਸੇ ਦੇ ਅਸਾਧਾਰਨ ਵਿਵਹਾਰ ਨੂੰ ਸਮਝਣ ਲਈ ਸੰਵਾਦੀ ਪਹੁੰਚ _____ ਉੱਤੇ ਕੇਂਦਰਿਤ ਹੈ ।

(1) ਦੁਨੀਆ ਬਾਰੇ ਸੋਚਾਂ, ਭਾਵਾਂ ਜਾਂ ਗ੍ਰਹਿਣ ਕਰਨ ਦੇ ਤਰੀਕਿਆਂ ਦੀਆਂ ਕਮੀਆਂ
(2) ਜੈਵਿਕ, ਸਮਾਜਕ ਅਤੇ ਮਨੋਵਿਗਿਆਨਕ ਕਾਰਕ
(3) ਮਨੋਵਿਗਿਆਨਕ ਸੰਘਰਸ਼ ਅਤੇ ਵਿਗੜੇ ਅੰਤਰ ਸੰਬੰਧੀ ਰਿਸ਼ਤੇ
(4) ਸਮੱਸਿਆਵਾਂ ਵਾਲੇ ਵਿਅਕਤੀਆਂ ਲਈ ਭਾਈਚਾਰਕ ਸਹਾਇਤਾ ਪ੍ਰਦਾਨ ਕਰਨਾ ।

A1 : 1

A2 : 2

A3 : 3

A4 : 4

Objective Question

1536 1536 4.0 1.00

ਕਿਹੜੇ ਮਾਡਲ ਅਨੁਸਾਰ ਅਸੁਭਾਵਕ ਕਾਰਜਕਾਰੀ ਅਤਾਰਕਿਕ ਅਤੇ ਗ਼ਲਤ ਵਿਸ਼ਵਾਸਾਂ, ਨਕਾਰਾਤਮਕ ਸਿੱਟਿਆਂ ਅਤੇ ਲੋੜ ਨਾਲੋਂ ਵੱਧ ਸਧਾਰਨੀਕਰਨ ਵਰਗੀਆਂ ਸਮੱਸਿਆਵਾਂ ਕਾਰਨ ਪੈਦਾ ਹੁੰਦੀ ਹੈ ?

(1) ਸੁਭਾਵਕ ਮਾਡਲ
(2) ਸਮਾਜ-ਸਭਿਆਚਾਰਕ ਮਾਡਲ
(3) ਬੌਧਿਕ ਮਾਡਲ
(4) ਮਨੋ-ਵੇਗਵਾਨ ਮਾਡਲ

A1 : 1

A2 : 2

A3 : 3

A4 : 4

Objective Question

1537 1537 4.0 1.00

ਸੂਜ਼ਨ ਦੀ ਸਰੀਰਕ ਦਿੱਖ ਵਿਗੜੀ ਹੋਈ ਹੈ। ਉਹ ਆਪਣੇ ਆਪ ਨੂੰ ਵੱਧ ਭਾਰਾ ਦੇਖਦੀ ਹੈ। ਜ਼ਬਰਦਸਤੀ ਕਸਰਤ ਕਰਦੀ ਹੈ ਅਤੇ ਖਾਣ ਤੋਂ ਇਨਕਾਰੀ ਹੈ (ਖਾਸ ਕਰਕੇ ਦੂਜਿਆਂ ਅੱਗੇ), ਇਹ ਚਿੰਨ੍ਹ ਵਿਸ਼ੇਸ਼ਕਰ ਹਨ :

(1) ਐਨੋਰੈਕਸੀਆ ਨਰਵੋਸਾ ਦੇ

(2) ਬੂਲੀਮੀਆ ਨਰਵੋਸਾ ਦੇ

(3) ਠੂਸ ਕੇ ਖਾਣ ਦੇ

(4) ਪੀਕਾ ਰੋਗ ਦੇ

A1 : 1

A2 : 2

A3 : 3

A4 : 4

Objective Question

1538 1538 4.0 1.00

ਬੱਚਿਆਂ ਵਿਚ ਸਵੈ-ਮਾਣ ਨੂੰ ਪੈਦਾ ਕਰਨ ਲਈ ਲੋੜਵੰਦ ਪਹੁੰਚਾਂ ਦੀ ਪਛਾਣ ਕਰੋ :

(A) ਭਰੋਸੇਯੋਗ ਸੰਚਾਰ ਨੂੰ ਸਥਾਪਤ ਕਰਨਾ ।

(B) ਸਰੀਰਕ ਅਤੇ ਸਮਾਜਕ ਹੁਨਰਾਂ ਦੇ ਧਿਆਨ ਤੋਂ ਕਿਨਾਰਾ ਕਰਨਾ ।

(C) ਖ਼ਤਰੇ ਵਾਲੇ ਬੱਚਿਆਂ ਲਈ ਮੁੱਢਲੀ ਪਛਾਣ, ਇਲਾਜ ਅਤੇ ਖਿਆਲ ਲਈ ਅਵਸਰ ਪ੍ਰਦਾਨ ਕਰਨਾ ।

(D) ਉਹਨਾਂ ਲਈ ਵਿਸ਼ੇਸ਼, ਮਿਣਤੀਜਣਕ, ਪ੍ਰਾਪਤੀਯੋਗ, ਪ੍ਰਸੰਗਿਕ ਅਤੇ ਸਮਾਂ-ਬੱਧ ਉਦੇਸ਼ ਨਿਰਧਾਰਤ ਕਰਨਾ ।

(E) ਇਕ ਸਕਾਰਾਤਮਕ ਪਛਾਣ ਦੇ ਵਿਕਾਸ ਲਈ ਸਕਾਰਾਤਮਕ ਜੀਵਨ ਦੇ ਅਨੁਭਵਾਂ ਉੱਤੇ ਜ਼ੋਰ ਦੇਣਾ ।

ਹੇਠ ਦਿੱਤੇ ਵਿਕਲਪਾਂ ਵਿਚੋਂ **ਸਹੀ** ਉੱਤਰ ਦੀ ਚੋਣ ਕਰੋ :

(1) ਸਿਰਫ਼ (B), (C) ਅਤੇ (D)

(2) ਸਿਰਫ਼ (A), (C) ਅਤੇ (E)

(3) ਸਿਰਫ਼ (A), (D) ਅਤੇ (E)

(4) ਸਿਰਫ਼ (A), (B) ਅਤੇ (D)

A1 : 1

A2 : 2

A3 : 3

A4 : 4

Objective Question

1539 1539 4.0 1.00

ਸੂਚੀ - I ਅਤੇ **ਸੂਚੀ - II** ਦਾ ਮਿਲਾਨ ਕਰੋ :

ਸੂਚੀ - I	ਸੂਚੀ - II
(A) ਵਿਚਾਰ, ਭਾਵ, ਸੁਭਾਅ ਦਾ ਵਾਧਾ	(I) ਸਿਜ਼ੋਫਰੇਨੀਆ ਦੇ ਨਕਾਰਾਤਮਕ ਚਿੰਨ੍ਹ
(B) ਵਿਚਾਰ, ਭਾਵ, ਸੁਭਾਅ ਦੀ ਕਮੀ	(II) ਭਰਮ
(C) ਅਜੀਬ ਇਸ਼ਾਰੇ ਅਤੇ ਮੂੰਹ ਬਣਾਉਣਾ	(III) ਸਿਜ਼ੋਫਰੇਨੀਆ ਦੇ ਸਕਾਰਾਤਮਕ ਚਿੰਨ੍ਹ
(D) ਝੂਠਾ ਵਿਸ਼ਵਾਸ	(IV) ਮਨੋਪ੍ਰੇਰਣਾ ਚਿੰਨ੍ਹ

ਹੇਠ ਦਿੱਤੇ ਵਿਕਲਪਾਂ ਵਿਚੋਂ **ਸਹੀ** ਉੱਤਰ ਦੀ ਚੋਣ ਕਰੋ :

(1) (A)-(III), (B)-(I), (C)-(IV), (D)-(II)
(2) (A)-(III), (B)-(IV), (C)-(I), (D)-(II)
(3) (A)-(II), (B)-(I), (C)-(IV), (D)-(III)
(4) (A)-(I), (B)-(III), (C)-(II), (D)-(IV)

A1 : 1

A2 : 2

A3 : 3

A4 : 4

Objective Question

1540 1540 4.0 1.00

"ਨਿਰੀਖਣ ਵਿਧੀ" ਦੇ ਫਾਇਦਿਆਂ ਦੀ ਪਛਾਣ ਕਰੋ :

(1) ਰੋਜ਼ਮਰਾ ਦੀਆਂ ਕਿਰਿਆਵਾਂ ਨਿਰੀਖਕ ਦੇ ਧਿਆਨ ਤੋਂ ਖੁੰਝ ਸਕਦੀਆਂ ਹਨ।
(2) ਇਹ ਸੁਭਾਅ ਨੂੰ ਉਸਦੀ ਕੁਦਰਤੀ ਅਵਸਥਾ ਵਿਚ ਦੇਖਣ ਅਤੇ ਅਧਿਐਨ ਕਰਨ ਦੀ ਇਜਾਜ਼ਤ ਦਿੰਦਾ ਹੈ।
(3) ਨਿਰੀਖਣ ਕੀਤੇ ਗਏ ਘਟਨਾਕ੍ਰਮਾਂ ਦਾ ਨਿਰੀਖਕ ਦੁਆਰਾ ਪੱਖ-ਪਾਤ ਹੋ ਸਕਦਾ ਹੈ।
(4) ਨਿਰੀਖਕ ਦੀ ਮੌਜੂਦਗੀ ਕਾਰਨ ਹੋਰਾਂ ਦੇ ਸੁਭਾਅ ਅਤੇ ਪ੍ਰਤੀਉੱਤਰਾਂ ਉੱਤੇ ਪ੍ਰਭਾਵ ਪੈ ਸਕਦਾ ਹੈ।

A1 : 1

A2 : 2

A3 : 3

A4 : 4

Objective Question

1541 1541 4.0 1.00

ਸੁਭਾਅ ਦੇ ਅਧਿਐਨ ਵਿੱਚ 'ਸਹਾਰਾ ਦੇਣ ਵਾਲੇ ਕਾਰਕਾ' ਬਾਰੇ ਸਹੀ ਕਥਨ ਦੀ ਪਛਾਣ ਕਰੋ :

(1) ਗਾਹਕ ਲਈ ਕਸ਼ਟ ਪੈਦਾ ਕਰਨ ਵਾਲੇ ਸੁਭਾਅ।
(2) ਕਾਰਨ ਜੋ ਵਿਅਕਤੀ ਨੂੰ ਗਲਤ ਵਿਵਹਾਰ ਵਿੱਚ ਸ਼ਾਮਲ ਹੋਣ ਦੀ ਸੰਭਾਵਨਾ ਬਣਾਉਂਦੇ ਹਨ।
(3) ਕਾਰਕ ਜੋ ਕਿ ਨੁਕਸਦਾਰ ਸੁਭਾਅ ਦੀ ਅਟੱਲਤਾ ਵੱਲ ਲੈ ਕੇ ਜਾਂਦੇ ਹਨ।
(4) ਕਾਰਕ ਜੋ ਕਿ ਨੁਕਸਦਾਰ ਸੁਭਾਅ ਨੂੰ ਖਤਮ ਜਾਂ ਖ਼ਾਰਜ ਕਰਦੇ ਹਨ।

A1 : 1

A2 : 2

A3 : 3

A4 : 4

Objective Question

1542 1542 4.0 1.00

ਰੀਆ ਸਿਗਰਟ ਦੇ ਇਲਾਜ ਅਧੀਨ ਹੈ। ਉਸਦੀ ਡਾਕਟਰ ਦੁਆਰਾ ਉਸਦੇ ਇਲਾਜ ਲਈ ਟੋਕਨ ਆਰਥਿਕਤਾ ਵਰਤਦੀ ਹੈ । ਇਲਾਜ ਵਿਚਲੇ ਕਦਮਾਂ ਦੇ ਸਹੀ ਕ੍ਰਮ ਦੀ ਚੋਣ ਕਰੋ :

(A) ਉਸਦਾ ਟੀਚਾ ਹੈ ਕਿ ਉਸਨੇ 5 ਸਿਗਰਟਾਂ ਹਰ ਦਿਨ ਘਟਾਉਣੀਆਂ ਹਨ ।

(B) ਉਹ 5 ਸਿਗਰਟਾਂ ਹਰ ਰੋਜ਼ ਇਕ ਹਫ਼ਤੇ ਵਿਚ ਘਟਾਉਂਦੀ ਹੈ ਅਤੇ ਹਰ ਦਿਨ ਕੂਪਨ ਪ੍ਰਾਪਤ ਕਰਦੀ ਹੈ ।

(C) ਹਰ ਰੋਜ਼ 9 ਸਿਗਰਟਾਂ ਦੀ ਬਜਾਏ ਉਹ ਕੇਵਲ 4 ਲੈਂਦੀ ਹੈ ।

(D) ਹਰ ਰੋਜ਼ 5 ਸਿਗਰਟਾਂ ਦੇ ਘਟਣ ਕਾਰਨ ਉਸਨੂੰ ਕੂਪਨ ਮਿਲਦਾ ਹੈ ।

(E) ਹਫ਼ਤੇ ਦੇ ਅੰਤ ਵਿਚ ਉਸ ਦੁਆਰਾ ਮਨਚਾਹੇ ਇਨਾਮ ਲਈ ਸਾਰੇ ਕੂਪਨ ਵਰਤ ਲਏ ਜਾਂਦੇ ਹਨ ।

ਹੇਠ ਦਿੱਤੇ ਵਿਕਲਪਾਂ ਵਿਚੋਂ **ਸਹੀ** ਉੱਤਰ ਦੀ ਚੋਣ ਕਰੋ :

(1) (A), (B), (C), (D), (E)
(2) (A), (C), (D), (B), (E)
(3) (E), (C), (D), (B), (A)
(4) (A), (D), (C), (B), (E)

A1 : 1

A2 : 2

A3 : 3

A4 : 4

Objective Question

1543 1543 4.0 1.00

ਸੂਚੀ - I ਅਤੇ **ਸੂਚੀ - II** ਦਾ ਮਿਲਾਨ ਕਰੋ :

	ਸੂਚੀ - I		**ਸੂਚੀ - II**
(A)	ਵਿਪਾਸਨਾ	(I)	ਹਾਈਪਰ ਹਵਾਦਾਰੀ ਨੂੰ ਵਧਾਉਣ ਲਈ ਤੇਜ਼ ਸਾਹ ਲੈਣ ਦੀਆਂ ਤਕਨੀਕਾਂ
(B)	ਯੋਗਾ	(II)	ਮੰਤਰਾਂ ਦੇ ਜਾਪ ਨਾਲ ਪ੍ਰਾਣਾਯਾਮ ਜਾਂ ਸਾਹ ਲੈਣ ਦੀ ਤਕਨੀਕ ਨੂੰ ਜੋੜਨਾ
(C)	ਸੁਦਰਸ਼ਨ ਕ੍ਰਿਆ ਯੋਗ	(III)	ਸਾਵਧਾਨੀ ਆਧਾਰਤ ਧਿਆਨ ਸਾਧਨਾ
(D)	ਕੁੰਡਲਨੀ ਯੋਗ	(IV)	ਆਸਣ ਜਾਂ ਪ੍ਰਾਣਾਯਾਮ ਜਾਂ ਦੋਨਾਂ ਦਾ ਜੋੜ

ਹੇਠ ਦਿੱਤੇ ਵਿਕਲਪਾਂ ਵਿਚੋਂ **ਸਹੀ** ਉੱਤਰ ਦੀ ਚੋਣ ਕਰੋ :

(1) (A)-(III), (B)-(II), (C)-(I), (D)-(IV)
(2) (A)-(III), (B)-(IV), (C)-(I), (D)-(II)
(3) (A)-(IV), (B)-(II), (C)-(I), (D)-(III)
(4) (A)-(I), (B)-(IV), (C)-(II), (D)-(III)

A1 : 1

A2 : 2

A3 : 3

A4 : 4

Objective Question

1544 1544 4.0 1.00

ਵਿਵਹਾਰ ਬਦਲਣ ਦੇ ਦੋ ਕਦਮ ਸੰਕਲਪ ਵਿਚੋਂ ਦੋ ਮਹੱਤਵਪੂਰਨ ਪੜਾਅ ਹਨ :

(1) ਸ਼ਨਾਖ਼ਤ, ਨਕਲ

(2) ਸਮਰੂਪਤਾ, ਇਤਬਾਰੀ

(3) ਸ਼ਨਾਖ਼ਤ, ਭਾਵ

(4) ਅੱਤ, ਨਕਲ

A1 : 1

A2 : 2

A3 : 3

A4 : 4

Objective Question

1545 1545 4.0 1.00

ਹੇਠ ਲਿਖਿਆਂ ਵਿਚੋਂ ਕਿਹੜਾ ਰਵੱਈਏ ਦਾ ਅੰਗ ਨਹੀਂ ਹੈ :

(1) ਭਾਵਨਾਤਮਕ

(2) ਬੌਧਿਕ

(3) ਵਿਵਹਾਰਕ

(4) ਸਰੀਰਕ

A1 : 1

A2 : 2

A3 : 3

A4 : 4

Objective Question

1546 1546 4.0 1.00

ਹੇਠ ਦਿੱਤੇ ਵਾਕਾਂ ਨੂੰ ਲਾ ਪੀਅਰੀ ਦੇ ਅਧਿਐਨ ਵਿਚ ਘਟਿਤ ਹੋਣ ਅਨੁਸਾਰ ਸਹੀ ਕ੍ਰਮ ਵਿਚ ਵਿਵਸਥਿਤ ਕਰੋ :

(A) ਇਸ ਅਧਿਐਨ ਲਈ ਉਸਨੇ ਇਕ ਚੀਨੀ ਜੋੜੇ ਨੂੰ ਅਮਰੀਕਾ ਦੇ ਵੱਖ-ਵੱਖ ਰਾਜਾਂ ਵਿਚ ਭੇਜਿਆ ।

(B) ਬਹੁਤ ਸਾਰੇ ਹੋਟਲਾਂ ਨੇ ਕਿਹਾ ਕਿ ਉਹ ਨਹੀਂ ਕਰਨਗੇ, ਇਸ ਤਰ੍ਹਾਂ ਇਕ ਨਕਾਰਾਤਮਕ ਵਿਹਾਰ ਦਾ ਪ੍ਰਗਟਾਵਾ ਜੋ ਕਿ ਉਹਨਾਂ ਦੇ ਸਕਾਰਾਤਮਕ ਵਰਤਾਰੇ ਦੇ ਵਿਰੁੱਧ ਸੀ ।

(C) ਲਾ ਪੀਅਰੀ ਨੂੰ ਪਤਾ ਲੱਗਿਆ ਕਿ ਚੀਨੀ ਜੋੜੇ ਦਾ ਇਕ ਤੋਂ ਇਲਾਵਾ, ਸਾਰੇ ਹੋਟਲਾਂ ਵਿਚ ਸਵਾਗਤ ਹੋਇਆ ਸੀ ।

(D) ਲਾ ਪੀਅਰੀ ਦੁਆਰਾ ਇਕ ਮਸ਼ਹੂਰ ਅਧਿਐਨ ਕੀਤਾ ਗਿਆ ਇਹ ਦੇਖਣ ਲਈ ਕਿ ਰਵੱਈਆ ਹਮੇਸ਼ਾ ਕਿਸੇ ਦੇ ਸੁਭਾਅ ਦਾ ਅਨੁਮਾਨ ਦਿੰਦਾ ਹੈ ਜਾਂ ਨਹੀਂ ।

(E) ਲਾ ਪੀਅਰੀ ਨੇ ਫਿਰ ਉਹਨਾਂ ਹੋਟਲਾਂ ਵਿਚ ਸਵਾਲਨਾਮੇ ਭੇਜੇ, ਜਿੱਥੇ ਚੀਨੀ ਜੋੜਾ ਠਹਿਰਿਆ ਸੀ, ਇਹ ਜਾਣਨ ਲਈ ਕਿ ਉਹ ਹੋਟਲ ਚੀਨੀ ਮਹਿਮਾਨਾਂ ਦਾ ਸੁਆਗਤ ਕਰਨਗੇ ਜਾਂ ਨਹੀਂ ।

ਹੇਠ ਦਿੱਤੇ ਵਿਕਲਪਾਂ ਵਿਚੋਂ **ਸਹੀ** ਉੱਤਰ ਦੀ ਚੋਣ ਕਰੋ :

(1) (D), (C), (A), (B), (E)
(2) (E), (C), (B), (A), (D)
(3) (B), (C), (A), (D), (E)
(4) (D), (A), (C), (E), (B)

A1 : 1

A2 : 2

A3 : 3

A4 : 4

Objective Question

1547 1547 4.0 1.00

ਜਦੋਂ ਇੱਕੋ ਤਰਾਂ ਦੇ ਹੀ ਵਿਅਕਤੀਆਂ ਦੁਆਰਾ ਸੰਵਾਦ ਦੁਹਰਾਏ ਜਾਂਦੇ ਹਨ, ਉਦੋਂ ਸਮੂਹ ਬਣਨ ਦਾ ਕਾਰਨ ਹੈ :

(1) ਸਮਾਨਤਾ ਕਰਕੇ
(2) ਨਿਕਟਤਾ ਕਰਕੇ
(3) ਸਵੈਮਾਣ ਕਰਕੇ
(4) ਸਮਾਨ ਮਨੋਰਥ ਅਤੇ ਉਦੇਸ਼ ਕਰਕੇ

A1 : 1

A2 : 2

A3 : 3

A4 : 4

Objective Question

1548 1548 4.0 1.00

ਹੇਠ ਦਿੱਤੇ ਉਹਨਾਂ ਕਥਨਾਂ ਦੀ ਪਛਾਣ ਕਰੋ ਜੋ ਕਿ ਇਕਮੁੱਠਤਾ ਨੂੰ ਵਿਸਤਾਰਿਤ ਕਰਦੇ ਹਨ :

(A) ਸਮੂਹ ਮੈਂਬਰਾਂ ਨੂੰ ਸਬੰਧਤ ਸਮਾਜਕ ਪਦਵੀ ਦੇਣ ਦਾ ਨਾਂ

(B) ਇਕੱਲੇ ਵਿਅਕਤੀਆਂ ਦੀ ਥਾਂ ਸਮਾਜਕ ਇਕਾਈ ਵਜੋਂ ਸੋਚਣ, ਮਹਿਸੂਸ ਕਰਨ ਅਤੇ ਵਿਹਾਰ ਕਰਨ ਦਾ ਨਾਂ

(C) 'ਅਸੀਂ' ਦਾ ਭਾਵ ਜਾਂ ਟੀਮ ਸਪਿਰਿਟ (ਸਮੂਹਿਕ ਸਾਹਸ) ਦਾ ਨਾਂ

(D) ਸਮਾਜਕ ਤੌਰ 'ਤੇ ਨਿਰਧਾਰਤ ਉਮੀਦਾਂ, ਜੋ ਕਿ ਕਿਸੇ ਦੁਆਰਾ ਪੂਰੀਆਂ ਜਾਂਦੀਆਂ ਹਨ, ਉਹਨਾਂ ਦਾ ਨਾਂ

(E) ਮੈਂਬਰਾਂ ਵਿਚ ਏਕਤਾ, ਜੋੜ ਜਾਂ ਆਪਸੀ ਖਿੱਚ ਦਾ ਨਾਂ

ਹੇਠ ਦਿੱਤੇ ਵਿਕਲਪਾਂ ਵਿਚੋਂ **ਸਹੀ** ਉੱਤਰ ਦੀ ਚੋਣ ਕਰੋ :

(1) ਸਿਰਫ਼ (A), (B) ਅਤੇ (C)

(2) ਸਿਰਫ਼ (B), (C) ਅਤੇ (D)

(3) ਸਿਰਫ਼ (B), (C) ਅਤੇ (E)

(4) ਸਿਰਫ਼ (A), (C) ਅਤੇ (E)

A1 : 1

A2 : 2

A3 : 3

A4 : 4

Objective Question

1549 1549 4.0 1.00

'मधु' – शब्दस्य पञ्चमी-विभक्तौ एकवचने किं रूपं भवति ?

(1) मधूनि

(2) मधुभिः

(3) मधुनः

(4) मधुनि

A1 : 1

A2 : 2

A3 : 3

A4 : 4

Objective Question

1550 1550 4.0 1.00

'युष्मद्'-शब्दस्य षष्ठी-विभक्तौ एकवचने किं रूपं भवति ?

(1) त्वया

(2) तुभ्यम्

(3) त्वयि

(4) तव

A1 : 1

A2 : 2

A3 : 3

A4 : 4

Objective Question

1551 1551 4.0 1.00

'लभ्'-धातोः लट्-लकारे उत्तमपुरुषैकवचने किं रूपं भवति ?

(1) लभते

(2) लभसे

(3) लभे

(4) लभामहे

A1 : 1

A2 : 2

A3 : 3

A4 : 4

Objective Question

1552 1552 4.0 1.00

'नी'-धातोः लोट्-लकारे मध्यमपुरुषैकवचने किं रूपं भवति ?

(1) नयतु

(2) नय

(3) नयथ

(4) नयानि

A1 : 1

A2 : 2

A3 : 3

A4 : 4

Objective Question

1553 1553 4.0 1.00

लट्-लकारस्य प्रयोगः कस्मिन् अर्थे भवति ?

(1) वर्त्तमानकालार्थे

(2) भूतकालार्थे

(3) भविष्यत्कालार्थे

(4) आज्ञार्थे

A1 : 1

A2 : 2

A3 : 3

A4 : 4

Objective Question

1554 1554 4.0 1.00

'पिता _____ चन्द्रं दर्शयति।' - इत्यत्र रिक्तस्थानं पूरयत।

(1) पुत्रः

(2) पुत्रम्

(3) पुत्राः

(4) पुत्रस्य

A1 : 1

A2 : 2

A3 : 3

A4 : 4

Objective Question

1555 1555 4.0 1.00

'श्रो+अणम्'-इत्यत्र सन्धिं कुरुत।

(1) श्रोणम्

(2) श्रौणम्

(3) श्रावणम्

(4) श्रवणम्

A1 : 1

A2 : 2

A3 : 3

A4 : 4

Objective Question

1556 1556 4.0 1.00

'रामोऽवदत्' इत्यत्र सन्धि-विच्छेदं कुरुत -

(1) रामो + वदत्

(2) रामः + अवदत्

(3) रामः + वदत्

(4) रामौः + अवदत्

A1 : 1

A2 : 2

A3 : 3

A4 : 4

Objective Question

1557 1557 4.0 1.00

'भूतबलिः' इत्यत्र कः समासः ?

(1) अव्ययीभावः

(2) द्वन्द्वः

(3) तत्पुरुषः

(4) बहुव्रीहिः

A1 : 1

A2 : 2

A3 : 3

A4 : 4

Objective Question

1558 1558 4.0 1.00

'दश आननानि यस्य सः' इत्यस्य समस्तपदम् अस्ति –

(1) दशानना

(2) दशाननः

(3) दसाननः

(4) दशाननानि

A1 : 1

A2 : 2

A3 : 3

A4 : 4

Objective Question

1559 1559 4.0 1.00

'साधिका' इत्यत्र कः प्रत्ययः ?

(1) क्त

(2) क्तवतु

(3) टाप्

(4) ङीप्

A1 : 1

A2 : 2

A3 : 3

A4 : 4

Objective Question

1560 1560 4.0 1.00

'प्रच्छ् + शतृ' इत्यस्य रूपं भवति –

(1) पृष्टः

(2) पृष्टवान्

(3) पृच्छन्

(4) पृष्ट्वा

A1 : 1

A2 : 2

A3 : 3

A4 : 4

Objective Question

1561 1561 4.0 1.00

'त्वदीयं काव्यं जगतः मङ्गलम् आतनोतु।' इत्यत्र क्रियापदम् अस्ति –

(1) त्वदीयम्

(2) काव्यम्

(3) जगतः

(4) आतनोतु

A1 : 1

A2 : 2

A3 : 3

A4 : 4

Objective Question

1562 1562 4.0 1.00

एतेषां शब्दानां विभक्त्यनुसारं क्रमं व्यवस्थापयत –

(A) नवभिः

(B) नवभ्यः

(C) नव

(D) नवसु

(E) नवानाम्

अधोलिखितेषु विकल्पेषु **उचिततमम्** उत्तरं चिनुत –

(1) (C), (A), (B), (E), (D)

(2) (E), (D), (C), (B), (A)

(3) (A), (B), (C), (D), (E)

(4) (C), (A), (D), (E), (B)

A1 : 1

A2 : 2

A3 : 3

A4 : 4

Objective Question

1563 1563 4.0 1.00

एतेषां शब्दानां विभक्त्यनुसारं क्रमं व्यवस्थापयत –

(A) मयि

(B) मम

(C) मया

(D) माम्

(E) अहम्

अधोलिखितेषु विकल्पेषु **उचिततमम्** उत्तरं चिनुत –

(1) (A), (B), (C), (D), (E)

(2) (E), (B), (A), (C), (D)

(3) (B), (D), (E), (C), (A)

(4) (E), (D), (C), (B), (A)

A1 : 1

A2 : 2

A3 : 3

A4 : 4

Objective Question

1564 1564 4.0 1.00

एतेषां धातुरूपाणां पुरुषवचनानुसारं क्रमं व्यवस्थापयत –

(A) शृणुयाताम्

(B) शृणुयुः

(C) शृणुयातम्

(D) शृणुयात्

(E) शृणुयाः

अधोलिखितेषु विकल्पेषु **उचिततमम्** उत्तरं चिनुत –

(1) (E), (D), (C), (B), (A)

(2) (D), (A), (B), (E), (C)

(3) (D), (B), (E), (C), (A)

(4) (E), (B), (A), (C), (D)

A1 : 1

A2 : 2

A3 : 3

A4 : 4

Objective Question

1565 1565 4.0 1.00

'धेन्वा:' इति रूपं कस्यां विभक्तौ भवति ?

(A) तृतीया

(B) चतुर्थी

(C) पञ्चमी

(D) षष्ठी

(E) सप्तमी

अधोलिखितेषु विकल्पेषु **उचिततमम्** उत्तरं चिनुत –

(1) केवलम् (A), (B)

(2) केवलम् (B), (C)

(3) केवलम् (C), (D)

(4) केवलम् (D), (E)

A1 : 1

A2 : 2

A3 : 3

A4 : 4

Objective Question

1566 1566 4.0 1.00

'भवती अत्र अस्तीति तेन राक्षसेन ज्ञातुं न शक्यते' इत्यस्मिन् वाक्ये क्रियापदम् अस्ति –

(A) भवती

(B) अस्ति

(C) तेन

(D) राक्षसेन

(E) शक्यते

अधोलिखितेषु विकल्पेषु **उचिततमम्** उत्तरं चिनुत –

(1) केवलम् (A), (B)

(2) केवलम् (B), (C)

(3) केवलम् (D), (E)

(4) केवलम् (B), (E)

A1 : 1

A2 : 2

A3 : 3

A4 : 4

Objective Question

1567 1567 4.0 1.00

रामायणस्य पात्रं नास्ति –

(A) सुमित्रा

(B) कैकेयी

(C) कौशल्या

(D) गान्धारी

(E) कुन्ती

अधोलिखितेषु विकल्पेषु **उचिततमम्** उत्तरं चिनुत –

(1) केवलम् (A), (B)

(2) केवलम् (B), (C)

(3) केवलम् (C), (D)

(4) केवलम् (D), (E)

A1 : 1

A2 : 2

A3 : 3

A4 : 4

Objective Question

1568 1568 4.0 1.00

प्रथमां सूचीं द्वितीयया सूच्या सह मेलयत –

	सूची - I		**सूची - II**
(A)	'स्वाहा'-योगे	(I)	पञ्चमी-विभक्तिः
(B)	'सह'-योगे	(II)	चतुर्थी-विभक्तिः
(C)	'कृते'-योगे	(III)	तृतीया-विभक्तिः
(D)	'पृथक्'-योगे	(IV)	षष्ठी-विभक्तिः

अधोलिखितेषु विकल्पेषु **उचिततमम्** उत्तरं चिनुत –

(1) (A)-IV, (B)-III, (C)-II, (D)-I

(2) (A)-I, (B)-II, (C)-III, (D)-IV

(3) (A)-II, (B)-IV, (C)-I, (D)-III

(4) (A)-II, (B)-III, (C)-IV, (D)-I

A1 : 1

A2 : 2

A3 : 3

A4 : 4

Objective Question

1569 1569 4.0 1.00

प्रथमां सूचीं द्वितीयया सूच्या सह मेलयत –

	सूची - I		सूची - II
(A)	तृप्तिः	(I)	शतृ-प्रत्ययः
(B)	घ्रातव्यम्	(II)	शानच्-प्रत्ययः
(C)	ब्रूवन्	(III)	तव्यत्-प्रत्ययः
(D)	युध्यमानः	(IV)	क्तिन्-प्रत्ययः

अधोलिखितेषु विकल्पेषु **उचिततमम्** उत्तरं चिनुत –

(1) (A)-IV, (B)-III, (C)-II, (D)-I
(2) (A)-IV, (B)-III, (C)-I, (D)-II
(3) (A)-I, (B)-II, (C)-III, (D)-IV
(4) (A)-III, (B)-I, (C)-IV, (D)-II

A1 : 1

A2 : 2

A3 : 3

A4 : 4

Objective Question

1570 1570 4.0 1.00

प्रथमां सूचीं द्वितीयया सूच्या सह मेलयत –

	सूची - I		सूची - II
(A)	कीर्तिः	(I)	व्याप्ता
(B)	अस्य	(II)	विषयस्य
(C)	आश्रितम्	(III)	कपोतम्
(D)	अन्यस्मात्	(IV)	भागात्

अधोलिखितेषु विकल्पेषु **उचिततमम्** उत्तरं चिनुत –

(1) (A)-III, (B)-IV, (C)-I, (D)-II
(2) (A)-II, (B)-I, (C)-IV, (D)-III
(3) (A)-I, (B)-II, (C)-III, (D)-IV
(4) (A)-IV, (B)-III, (C)-II, (D)-I

A1 : 1

A2 : 2

A3 : 3

A4 : 4

Objective Question

1571 1571 4.0 1.00

महाभारते कति पर्वाणि सन्ति?

(1) एकादश

(2) त्रयोदश

(3) षोडश

(4) अष्टादश

A1 : 1

A2 : 2

A3 : 3

A4 : 4

Objective Question

1572 1572 4.0 1.00

लघुत्रय्यां न परिगण्यते –

(1) रघुवंशम्

(2) मेघदूतम्

(3) कुमारसम्भवम्

(4) किरातार्जुनीयम्

A1 : 1

A2 : 2

A3 : 3

A4 : 4

Objective Question

1573 1573 4.0 1.00

'जतौ तु _____ उदीरितं जरौ।' इत्यत्र रिक्तस्थानं पूरयत।

(1) उपजातिः

(2) वसन्ततिलका

(3) वंशस्थम्

(4) मालिनी

A1 : 1

A2 : 2

A3 : 3

A4 : 4

Objective Question

1574 1574 4.0 1.00

'साम्यं वाच्यमवैधर्म्यं वाक्यैक्य _____ द्वयोः' इत्यत्र रिक्तस्थानं पूरयत।

(1) रूपकम्

(2) उत्प्रेक्षा

(3) उपमा

(4) श्लेषः

A1 : 1

A2 : 2

A3 : 3

A4 : 4

Objective Question

1575	1575	'शरीरम्' इत्यस्य पर्यायपदम् अस्ति -	4.0	1.00

(1) देही

(2) आत्मा

(3) अञ्जलिः

(4) देहः

A1 : 1

A2 : 2

A3 : 3

A4 : 4

Objective Question

1576	1576	'दौर्भाग्यम्' इत्यस्य विलोमपदम् अस्ति -	4.0	1.00

(1) प्रसन्नभाग्यम्

(2) बुभुक्षा

(3) परीक्षणम्

(4) सौभाग्यम्

A1 : 1

A2 : 2

A3 : 3

A4 : 4

Objective Question

1577	1577		4.0	1.00

ਭਾਰਤ ਵਿੱਚ ਅੰਗਰੇਜ਼ ਸਰਕਾਰ ਦੁਆਰਾ ਜਨਗਣਨਾ ਸ਼ੁਰੂ ਕੀਤੀ ਗਈ :

(1) 1858-62 ਵਿੱਚ

(2) 1867-72 ਵਿੱਚ

(3) 1890-98 ਵਿੱਚ

(4) 1900-1905 ਵਿੱਚ

A1 : 1

A2 : 2

A3 : 3

A4 : 4

Objective Question

1578 1578 4.0 1.00

1901 ਦੀ ਜਨਗਣਨਾ ਵਿੱਚ ਭਾਰਤ ਦੀ ਸ਼ਹਿਰੀ ਆਬਾਦੀ ਦੀ ਪ੍ਰਤੀਸ਼ਤ ਸੀ :

(1) 6.5%

(2) 8.5%

(3) 10.8%

(4) 15.8%

A1 : 1

A2 : 2

A3 : 3

A4 : 4

Objective Question

1579 1579 4.0 1.00

ਜਨਮ ਦਰ ਹੈ :

(1) ਜੀਵਤ ਜਨਮ ਦੇ ਅੰਕ ਪ੍ਰਤੀ 1,00,000 ਆਬਾਦੀ

(2) ਜੀਵਤ ਜਨਮ ਦੇ ਅੰਕ ਪ੍ਰਤੀ 10,000 ਆਬਾਦੀ

(3) ਜੀਵਤ ਜਨਮ ਦੇ ਅੰਕ ਪ੍ਰਤੀ 1,000 ਆਬਾਦੀ

(4) ਜੀਵਤ ਜਨਮ ਦੇ ਅੰਕ ਪ੍ਰਤੀ 100 ਆਬਾਦੀ

A1 : 1

A2 : 2

A3 : 3

A4 : 4

Objective Question

1580 1580 4.0 1.00

ਉੱਤਰ ਪ੍ਰਦੇਸ਼ ਅਤੇ ਬਿਹਾਰ ਦਾ ਮਿਲਾ ਕੇ "2041 ਤੱਕ ਅਨੁਮਾਨਿਤ ਆਬਾਦੀ ਵਾਧੇ ਦਾ ਖੇਤਰੀ ਹਿੱਸਾ" ਕੀ ਹੋਵੇਗਾ ?

(1) 13%
(2) 15%
(3) 28%
(4) 38%

A1 : 1

A2 : 2

A3 : 3

A4 : 4

Objective Question

1581 1581 4.0 1.00

ਭਾਰਤ ਦੀ ਮਿਸ਼ਰਤ ਆਰਥਕ ਯੋਜਨਾ ਵਿੱਚ (ਆਜ਼ਾਦੀ ਤੋਂ ਬਾਅਦ) ਕਿਹੜੇ ਖੇਤਰਾਂ ਨੂੰ ਸਰਕਾਰ ਲਈ ਰਾਖਵਾਂ ਰੱਖਿਆ ਗਿਆ ?

(1) ਊਰਜਾ, ਹਵਾਈ ਅਤੇ ਖਾਣਯੋਗ ਉਤਪਾਦ
(2) ਸਿਰਫ਼ ਰੱਖਿਆ ਅਤੇ ਆਵਾਜਾਈ
(3) ਖਣਿਜ, ਛੋਟੇ ਉਦਯੋਗ, ਸਟੇਸ਼ਨਰੀ
(4) ਰੱਖਿਆ, ਆਵਾਜਾਈ ਅਤੇ ਸੰਚਾਰ, ਊਰਜਾ, ਖਣਿਜ

A1 : 1

A2 : 2

A3 : 3

A4 : 4

Objective Question

1582 1582 4.0 1.00

ਹੇਠ ਲਿਖੇ ਕਬੀਲਿਆਂ ਵਿਚੋਂ ਕਿਸ ਕਬੀਲੇ ਦੀ ਪਰਿਵਾਰਕ ਸੰਰਚਨਾ ਮਾਤਾਵੰਸ਼ੀ ਹੈ ?

(1) ਗੌਂਡ (Gond)
(2) ਕਾਰਕੂ (Korku)
(3) ਖਾਸੀ (Khasi)
(4) ਭੀਲ (Bhil)

A1 : 1

A2 : 2

A3 : 3

A4 : 4

Objective Question

1583 1583 4.0 1.00

ਹੇਠ ਲਿਖਿਆਂ ਵਿਚੋਂ ਕਿਹੜਾ ਕਮਿਸ਼ਨ ਹੋਰ ਪਿਛੜੀਆਂ ਜਾਤੀਆਂ OBC's ਦੇ ਕਲਿਆਣ ਲਈ ਬਣਾਇਆ ਗਿਆ ਸੀ ?

(1) ਸਰਕਾਰੀਆ ਕਮਿਸ਼ਨ

(2) ਕਾਕਾ ਕਲੇਲਕਰ ਕਮਿਸ਼ਨ

(3) ਸੱਚਰ ਕਮੇਟੀ

(4) ਰੰਗਨਾਥ ਮਿਸ਼ਰਾ ਕਮੇਟੀ

A1 : 1

A2 : 2

A3 : 3

A4 : 4

Objective Question

1584	1584	ਹੇਠ ਲਿਖਿਆਂ ਵਿਚੋਂ ਕਿਹੜਾ ਭਾਸ਼ਾਈ ਸਮੂਹ ਪੁਰਾਣੇ ਬੰਬਈ ਰਾਜ ਦਾ ਹਿਸਾ ਨਹੀਂ ਸੀ ? (1) ਮਰਾਠੀ (2) ਗੁਜਰਾਤੀ (3) ਕੰਨੜ (4) ਤੇਲਗੂ A1 : 1 A2 : 2 A3 : 3 A4 : 4	4.0	1.00

Objective Question

1585	1585	ਸੂਚਨਾ ਦੇ ਅਧਿਕਾਰ ਕਾਨੂੰਨ ਸੰਬੰਧੀ ਕਿਹੜੀ ਗਲ ਸਹੀ **ਨਹੀਂ** ਹੈ ? (1) ਇਹ 2005 ਵਿਚ ਭਾਰਤੀ ਸੰਸਦ ਵਿਚ ਪਾਸ ਹੋਇਆ ਸੀ । (2) ਇਹ ਸਾਰੇ ਰਾਜਾਂ ਅਤੇ ਕੇਂਦਰੀ ਪ੍ਰਦੇਸ਼ਾਂ ਵਿਚ ਲਾਗੂ ਕੀਤਾ ਗਿਆ । (3) ਇਹ ਸਾਰੇ ਰਾਜਾਂ ਅਤੇ ਕੇਂਦਰੀ ਪ੍ਰਦੇਸ਼ਾਂ ਵਿਚ ਲਾਗੂ ਕੀਤਾ ਗਿਆ ।(ਜੰਮੂ-ਕਸ਼ਮੀਰ ਦੇ ਰਾਜ ਨੂੰ ਛੱਡ ਕੇ) (4) ਇਹ ਕਾਨੂੰਨ ਕਿਸੇ ਵਿਅਕਤੀ ਨੂੰ ਕਿਸੇ ਜਨਤਕ ਅਧਿਕਾਰ ਤੋਂ ਸੂਚਨਾ ਦੀ ਬੇਨਤੀ ਕਰਨ ਦਾ ਅਧਿਕਾਰ ਦਿੰਦਾ ਹੈ, ਜਿਸ ਤੋਂ ਜਲਦੀ ਤੋਂ ਜਲਦੀ ਜਵਾਬ ਦੀ ਉਮੀਦ ਹੁੰਦੀ ਹੈ । A1 : 1 A2 : 2 A3 : 3 A4 : 4	4.0	1.00

Objective Question

1586	1586		4.0	1.00

''ਜਦੋਂ ਕਿ ਨੀਵੀਆਂ ਜਾਤੀਆਂ ਨੇ ਸੰਸਕ੍ਰਿਤੀਕਰਣ ਦੀ ਕੋਸ਼ਿਸ਼ ਕੀਤੀ, ਉੱਚ ਜਾਤੀਆਂ ਨੇ ਪੱਛਮੀਕਰਣ ਦੀ ਕੋਸ਼ਿਸ਼ ਕੀਤੀ''। ਇਹ ਕਿਸ ਨੇ ਭਾਰਤ ਦੇ ਸੰਦਰਭ ਵਿੱਚ ਕਿਹਾ ਹੈ ?

(1) ਰੁਡੋਲਫ ਅਤੇ ਰੁਡੋਲਫ
(2) ਐਮ.ਐਨ.ਸ੍ਰੀਨਿਵਾਸ
(3) ਰਜਨੀ ਕੋਠਾਰੀ
(4) ਐਮ.ਐਸ.ਏ. ਰਾਓ

A1 : 1

A2 : 2

A3 : 3

A4 : 4

Objective Question

1587	1587	ਦੇਸ਼ ਦੀ ਆਜ਼ਾਦੀ ਤੋਂ ਦਸ ਵਰ੍ਹੇ ਪਹਿਲਾਂ, ਸਾਲ 1938 ਵਿਚ ਇਕ ਰਾਸ਼ਟਰੀ ਯੋਜਨਾ ਕਮੇਟੀ ਦਾ ਗਠਨ ਹੋਇਆ। ਇਸ ਕਮੇਟੀ ਦੇ ਸਭਾਪਤੀ ਕੌਣ ਸਨ ? (1) ਵਲੱਭ ਭਾਈ ਪਟੇਲ (2) ਕੇ.ਟੀ. ਸ਼ਾਹ (3) ਜਵਾਹਰ ਲਾਲ ਨਹਿਰੂ (4) ਬੀ.ਆਰ. ਅੰਬੇਦਕਰ A1 : 1 A2 : 2 A3 : 3 A4 : 4	4.0	1.00

Objective Question

1588	1588	ਹੇਠ ਲਿਖਿਆਂ ਵਿਚੋਂ ਕਿਹੜੀ ਆਧੁਨਿਕਤਾ ਦੀ ਵਿਸ਼ੇਸ਼ਤਾ ਨਹੀਂ ਹੈ ? (1) ਤਕਰਕਸ਼ੀਲਤਾ (2) ਪ੍ਰਾਪਤੀ ਸਥਿਤੀ (3) ਧਰਮ-ਨਿਰਪੱਖ ਮੁੱਲਾਂ ਦਾ ਹੋਵਾ (4) ਜਾਤ ਅਤੇ ਮਜ਼ਹਬ ਦੇ ਆਧਾਰ ਉੱਤੇ ਸੰਵਾਦ A1 : 1 A2 : 2 A3 : 3 A4 : 4	4.0	1.00

Objective Question

1589	1589	ਭਾਰਤੀ ਰਾਸ਼ਟਰੀ ਕਾਂਗਰਸ (INC) ਦੇ ਹੇਠ ਲਿਖਿਆਂ ਵਿਚੋਂ ਕਿਹੜੇ ਸੈਸ਼ਨ ਵਿਚ ਸਭ ਤੋਂ ਪਹਿਲਾਂ ਇਸ ਗੱਲ ਦਾ ਵਰਣਨ ਕੀਤਾ ਗਿਆ ਕਿ ਆਜ਼ਾਦ ਭਾਰਤ ਦਾ ਸੰਵਿਧਾਨ ਕਿਹੋ ਜਿਹਾ ਦਿਖਣਾ ਚਾਹੀਦਾ ਹੈ ? (1) 1931, ਕਰਾਚੀ ਸੈਸ਼ਨ (2) 1885, ਬੰਬਈ ਸੈਸ਼ਨ (3) 1886, ਮਦਰਾਸ ਸੈਸ਼ਨ (4) 1887, ਕਲੱਕਤਾ ਸੈਸ਼ਨ A1 : 1 A2 : 2 A3 : 3 A4 : 4	4.0	1.00

Objective Question

1590	1590	"ਜਦਕਿ ਜਮਾਤਾਂ ਦਾ ਸਹੀ ਸਥਾਨ ਆਰਥਕ ਢਾਂਚੇ ਦੇ ਅੰਤਰਗਤ ਹੁੰਦਾ ਹੈ, ਰੁਤਬਾ ਸਮੂਹਾਂ ਦੀ ਜਗ੍ਹਾ ਸਮਾਜਕ ਢਾਂਚੇ ਅੰਤਰਗਤ ਹੁੰਦੀ ਹੈ ..... ਪਰ ਪਾਰਟੀਆਂ ਸ਼ਕਤੀ ਦੇ ਘਰ ਵਿਚ ਗੰਹੰਦੀਆਂ ਹਨ .....।" ਇਹ ਕਿਸ ਨੇ ਲਿਖਿਆ ਹੈ ? (1) ਕਾਰਲ ਮਾਰਕਸ (2) ਮੈਕਸ ਵੀਬਰ (3) ਜੇ.ਐਸ. ਮਿਲਜ਼ (4) ਅਗਸਤੇ ਕਮਤੇ A1 : 1 A2 : 2 A3 : 3 A4 : 4	4.0	1.00

Objective Question

1591	1591	ਇਸ ਪ੍ਰਣਾਲੀ ਵਿਚ ਜ਼ਿਮੀਦਾਰ ਦੀ ਥਜਾਏ 'ਅਸਲ ਕਾਸ਼ਤਕਾਰ' (ਜੋ ਕਿ ਅਕਸਰ ਖੁਦ ਜ਼ਿਮੀਦਾਰ ਸਨ ਨਾ ਕਿ ਕਾਸ਼ਤਕਾਰ) ਕਰ ਦੇ ਭੁਗਤਾਨ ਲਈ ਜ਼ਿੰਮੇਵਾਰ ਸਨ। ਇਸ ਪ੍ਰਣਾਲੀ ਵਿਚ ਕਰ ਦਾ ਤੁਲਨਾਤਮਕ ਬੋਝ ਘੱਟ ਸੀ ਅਤੇ ਕਾਸ਼ਤਕਾਰਾਂ ਕੋਲ ਖੇਤੀਬਾੜੀ ਵਿਚ ਨਿਵੇਸ਼ ਕਰਨ ਦੇ ਵੱਧ ਪ੍ਰੇਰਣਾਸ੍ਰੋਤ ਸਨ।'' (1) ਇੰਡੀਗੋ (ਨੀਲ) ਦੀ ਖੇਤੀਬਾੜੀ (2) ਸਥਾਈ ਬਸਤੀ (3) ਮਹਿਲਵਾੜੀ ਪ੍ਰਣਾਲੀ (4) ਰਾਇਤਵਾੜੀ ਪ੍ਰਣਾਲੀ A1 : 1 A2 : 2 A3 : 3	4.0	1.00

A4 : 4

Objective Question

1592 1592 4.0 1.00

ਹੇਠ ਲਿਖਿਆਂ ਵਿਚੋਂ ਕਿਹੜੀ ਜਾਤ ਇਕ ਸੇਵਾ ਜਾਤ ਨਹੀਂ ਹੈ ?

(1) ਜੱਟ

(2) ਘੁਮਿਆਰ

(3) ਸੁਨਾਰ

(4) ਧੋਬੀ

A1 : 1

A2 : 2

A3 : 3

A4 : 4

Objective Question

1593 1593 4.0 1.00

ਹਰੀ ਕ੍ਰਾਂਤੀ ਬਾਰੇ ਹੇਠ ਲਿਖਿਆਂ ਵਿਚੋਂ ਕਿਹੜਾ ਕਥਨ ਗ਼ਲਤ ਹੈ ?

(1) ਮਸ਼ੀਨਰੀ ਦੇ ਆਉਣ ਨਾਲ ਸੇਵਾ ਜਾਤੀ ਸਮੂਹਾਂ ਦੀ ਥਾਂ ਬਦਲੀ ਹੋਈ ਜੋ ਕਿ ਖੇਤੀਬਾੜੀ ਨਾਲ ਸਬੰਧਤ ਕਾਰਜਾਂ ਨੂੰ ਕਰਦੇ ਹੁੰਦੇ ਸਨ।

(2) ਹਰੀ ਕ੍ਰਾਂਤੀ ਦਾ ਸਮੁੱਚਾ ਸਿੱਟਾ ਇਕ ਵਿਭੇਦੀਕਰਨ ਪ੍ਰਕਿਰਿਆ ਵਜੋਂ ਨਿਕਲਿਆਂ ਜਿਸ ਵਿਚ ਅਮੀਰ ਹੋਰ ਅਮੀਰ ਹੋਏ ਅਤੇ ਕਈ ਗਰੀਬਾਂ ਨੂੰ ਵੀ ਫਾਇਦਾ ਹੋਇਆ ਅਤੇ ਉਹਨਾਂ ਦਾ ਸਮਾਜਕ ਸੁਧਾਰ ਸੰਭਵ ਹੋ ਸਕਿਆ।

(3) ਹਰੀ ਕ੍ਰਾਂਤੀ ਦਾ ਦੂਜਾ ਪੜਾਅ ਭਾਰਤ ਦੇ ਸੁੱਕੇ ਅਤੇ ਅੱਧ ਬੰਜਰ ਖੇਤਰਾਂ ਵਿਚ ਲਾਗੂ ਕੀਤਾ ਗਿਆ।

(4) ਹਰੀ ਕ੍ਰਾਂਤੀ ਦੇ ਲਗਭਗ ਸਾਰੇ ਇਲਾਕਿਆਂ ਵਿਚ ਕਿਸਾਨਾਂ ਦੁਆਰਾ ਬਹੁ ਫਸਲੀ ਪ੍ਰਣਾਲੀ ਤੋਂ ਇਕ ਫਸਲੀ ਪ੍ਰਣਾਲੀ ਵਿਚ ਬਦਲਿਆ ਗਿਆ।

A1 : 1

A2 : 2

A3 : 3

A4 : 4

Objective Question

1594 1594 4.0 1.00

ਹੇਠ ਲਿਖਿਆਂ ਵਿਚੋਂ ਕਿਹੜੇ ਰਾਸ਼ਟਰਵਾਦੀ ਅਤੇ ਲੋਕਤੰਤਰਿਕ ਪ੍ਰਕਾਸ਼ਨ ਰਾਜਾ ਰਾਮ ਮੋਹਨ ਰਾਏ ਦੁਆਰਾ ਸ਼ੁਰੂ ਕੀਤੇ ਗਏ ਸਨ ?

(1) ਸੰਬਾਦ-ਕੌਮੜੀ ਅਤੇ ਮੀਰਤ-ਉਲ-ਅਕਬਰ

(2) ਬੰਬਈ ਸਮਾਚਾਰ ਅਤੇ ਹਰੀਜਨ

(3) ਸ਼ੋਮੇ ਪ੍ਰਕਾਸ਼ ਅਤੇ ਦ ਸਟੇਟਸਮੈਨ

(4) ਕੇਸਰੀ ਅਤੇ ਦ ਹਿੰਦੂ

A1 : 1

A2 : 2

A3 : 3

A4 : 4

Objective Question

1595 1595 4.0 1.00

ਜਨ-ਅਵਗਿਆਕਾਰੀ ਅੰਦੋਲਨ ਦੇ ਭਾਗ ਵਜੋਂ, ਗਾਂਧੀਜੀ ਦੁਆਰਾ ਨਮਕ ਕਾਨੂੰਨਾਂ ਨੂੰ ਵਿਰੋਧ ਵਜੋਂ ਤੋੜਿਆ ਗਿਆ। ਉਹਨਾਂ ਦੁਆਰਾ ਇਹ ਅੰਦੋਲਨ ਕਿਹੜੇ ਸਾਲ ਵਿਚ ਸ਼ੁਰੂ ਕੀਤਾ ਗਿਆ ?

(1) 1920
(2) 1925
(3) 1930
(4) 1935

A1 : 1

A2 : 2

A3 : 3

A4 : 4

Objective Question

1596 1596 4.0 1.00

"ਭਾਰ ਰਹਿਤ ਅਰਥ ਵਿਵਸਥਾ" ਉਹ ਹੈ ਜਿਸ ਵਿਚ

(1) ਉਤਪਾਦਾਂ ਦਾ ਆਧਾਰ ਕੱਚੇ ਖੇਤੀਬਾੜੀ ਉਤਪਾਦਾਂ ਵਿਚ ਹੁੰਦਾ ਹੈ।
(2) ਉਤਪਾਦਾਂ ਦਾ ਆਧਾਰ ਬਿਜਲਈ ਪਦਾਰਥਾਂ ਵਿਚ ਹੁੰਦਾ ਹੈ।
(3) ਉਤਪਾਦਾਂ ਦਾ ਆਧਾਰ ਸੂਚਨਾ ਵਿਚ ਹੁੰਦਾ ਹੈ।
(4) ਉਤਪਾਦ ਭਾਰੀ ਉਦਯੋਗਾਂ ਵਿਚ ਬਵਾਏ ਜਾਂਦੇ ਹਨ।

A1 : 1

A2 : 2

A3 : 3

A4 : 4

Objective Question

1597 1597 4.0 1.00

ਕਿਸ ਨੇ ਦਲੀਲ ਦਿੱਤੀ ਕਿ ''ਇਕ ਸਮਾਜਕ ਅੰਦੋਲਨ ਤਾਰਕਿਕ ਮਨੁੱਖੀ ਅਭਿਨੇਤਾਵਾਂ ਦਾ ਸਮੂਹ ਹੈ ਜੋ ਕਿ ਆਪਣੀ ਵਿਅਕਤੀਗਤ ਰੁਚੀਆਂ ਦੀ ਪੈਰਵੀ ਕਰ ਰਹੇ ਹੁੰਦੇ ਹਨ'' ?

(1) ਮੈਕ ਕਾਰਥੀ ਅਤੇ ਜ਼ਾਲਡ
(2) ਮੈਨਕੁਰ ਉਲਸਨ
(3) ਹਰਬਰਟ ਬਲੂਮਰ
(4) ਟੀ.ਕੇ. ਉਮੈਨ

A1 : 1

A2 : 2

A3 : 3

A4 : 4

Objective Question

1598 1598 4.0 1.00

ਸਥਾਪਤ ਹੋਣ ਦੇ ਕਾਲਕ੍ਰਮਿਕ ਕ੍ਰਮ ਅਨੁਸਾਰ ਹੇਠ ਲਿਖਿਆਂ ਨੂੰ ਵਿਵਸਥਿਤ ਕਰੋ :

(A) ਇਲਾਹਬਾਦ ਵਿਚ ਪ੍ਰਰੰਭਕਾਰ

(B) ਬੰਬਈ ਵਿਚ ਦ ਟਾਈਮਜ਼ ਆਫ਼ ਇੰਡੀਆ

(C) ਦ ਮਦਰਾਸ ਮੇਲ

(D) ਲਾਹੌਰ ਵਿਚ ਸਿਵਲ ਅਤੇ ਮਿਲਟਰੀ ਗੈਜ਼ੇਟਸ

(E) ਕਲੱਕਤਾ ਵਿਚ ਦ ਸਟੇਟਸਮੈਨ

ਹੇਠ ਲਿਖਿਆਂ ਵਿਕਲਪਾਂ ਵਿੱਚ **ਸਹੀ** ਉੱਤਰ ਦੀ ਚੋਣ ਕਰੋ :

(1) (B), (A), (C), (E), (D)
(2) (D), (E), (C), (A), (B)
(3) (C), (A), (B), (E), (A)
(4) (A), (B), (C), (D), (E)

A1 : 1

A2 : 2

A3 : 3

A4 : 4

Objective Question

1599 1599 4.0 1.00

ਸੰਵਿਧਾਨ ਦੀ 73ਵੀਂ ਸੋਧ ਪ੍ਰਦਾਨ ਕਰਦੀ ਹੈ :

(A) ਵੀਹ ਲੱਖ ਆਬਾਦੀ ਵਾਲੇ ਸਾਰੇ ਰਾਜਾਂ ਵਿਚ ਤਿੰਨ ਕਤਾਰੀ ਪੰਚਾਇਤੀ ਰਾਜ ਦੀ ਪ੍ਰਣਾਲੀ

(B) ਇਹਨਾਂ ਸੰਸਥਾਵਾਂ ਦੀਆਂ ਚੋਣਾਂ ਹਰ ਛੇ ਸਾਲ ਵਿਚ ਹੋਣਗੀਆਂ ।

(C) ਇਸ ਵਿਚ ਅਨੁਸੂਚਿਤ ਜਾਤੀ, ਅਨੁਸੂਚਿਤ ਜਨਜਾਤੀ ਅਤੇ 33 ਫੀਸਦ ਔਰਤਾਂ ਦੀਆਂ ਸੀਟਾਂ ਰਾਖਵੀਆਂ ਰੱਖੀਆਂ ਗਈਆਂ ।

(D) ਇਸ ਦੁਆਰਾ ਖਾਕਾ ਤਿਆਰ ਕਰਨ ਲਈ ਅਤੇ ਸਮੁੱਚੇ ਜ਼ਿਲ੍ਹੇ ਦੀਆਂ ਵਿਕਾਸ ਯੋਜਨਾਵਾਂ ਬਣਾਉਣ ਲਈ ਜ਼ਿਲ੍ਹਾ ਯੋਜਨਾ ਕਮੇਟੀ ਬਣਾਈ ਗਈ ।

ਹੇਠ ਲਿਖਿਆਂ ਵਿਕਲਪਾਂ ਵਿੱਚ **ਸਹੀ** ਉੱਤਰ ਦੀ ਚੋਣ ਕਰੋ :

(1) ਸਿਰਫ਼ (A), (B), (C), (D)

(2) ਸਿਰਫ਼ (A), (B), (C)

(3) ਸਿਰਫ਼ (A), (C), (D)

(4) ਸਿਰਫ਼ (B), (C), (D)

A1 : 1

A2 : 2

		A3 : 3 A4 : 4		
Objective Question				
1600	1600	ਜਾਤ ਦੀ ਸਭ ਤੋਂ ਆਮ ਉਧਰਿਤ ਵਿਸ਼ੇਸ਼ਤਾਵਾਂ ਹਨ : (A) ਜਾਤ ਜਨਮ ਦੁਆਰਾ ਨਿਰਧਾਰਤ ਹੁੰਦੀ ਹੈ । (B) ਜਾਤ ਅੰਤਰ ਵਿਵਾਹੀ ਹੈ । (C) ਜਾਤ ਸਮਰੂਪ ਹੈ । (D) ਜਾਤ ਆਪਸ ਵਿਚ ਉਪ-ਵਿਭਾਜਨਾਂ ਨੂੰ ਸ਼ਾਮਲ ਕਰਦੀ ਹੈ । ਹੇਠ ਲਿਖਿਆਂ ਵਿਕਲਪਾਂ ਵਿੱਚ **ਸਹੀ** ਉੱਤਰ ਦੀ ਚੋਣ ਕਰੋ : (1) ਸਿਰਫ਼ (A), (B), (C), (D) (2) ਸਿਰਫ਼ (A), (B), (C) (3) ਸਿਰਫ਼ (A), (B), (D) (4) ਸਿਰਫ਼ (B), (C), (D) A1 : 1 A2 : 2 A3 : 3 A4 : 4	4.0	1.00